airGurukul

Preparing Bharat, Empowering Futures

SSC CHSL Tier-1 2025 Question Paper

12 November 2025, Shift 3 · with Answer Key

100 questions | 200 marks | 60 minutes | +2 / −0.5

Hindi + English

Attempt this paper online – free

Real exam timer, instant score, all-India rank and detailed solutions in Hindi & English.

Scan · airgurukul.com/test-series

Call +91-7042559948 · www.airgurukul.com

Telegram Channel
t.me/airgurukulofficial

WhatsApp Channel
whatsapp.com/channel/0029VbBP7n00VycAFq6AGJ0l

YouTube Channel
youtube.com/@airGurukulSSCExams

Android App
play.google.com/...?id=in.airgurukul

Instructions

1. Total 100 questions (English Language 25, General Intelligence 25, Quantitative Aptitude 25, General Awareness 25).
2. Each correct answer carries 2 marks; 0.5 mark is deducted for each wrong answer.
3. Answer key is given at the end. Detailed solutions: scan the QR code on the last page.

Section 1: English Language (Q1–25)

Q1. **Identify the part of the sentence that contains a grammatical error.**

A. A herd of cattle
B. were grazing in
C. the large field
D. behind the farm.

(A) A herd of cattle
(B) were grazing in
(C) the large field
(D) behind the farm.

Q2. **Fill in the blank with the most appropriate preposition:**

The resolution was passed ___ unanimous support and confidence.

(A) by
(B) over
(C) under
(D) with

Q3. **Select the most appropriate synonym of the word:**

Argumentation

(A) Dialectic
(B) Conversation
(C) Logic
(D) Imagination

Q4. **Choose the incorrectly spelt word:**

(A) Introvert
(B) Amicable
(C) Recluse
(D) Gregarios

Q5. **Which of the following sentences uses the word "park" with the same meaning as in the following sentence?**

You should park the truck near the entrance.

(A) We decided to have a picnic at the national park.
(B) Please park your car in the designated driveway.
(C) We can park this project until next month.
(D) The batsman hit the ball out of the park.

Q6. **Choose the incorrectly spelt word:**

(A) Procure
(B) Recieve
(C) Achieve
(D) Obtain

Directions (Qs. 7-11): Read the following passage carefully and answer the questions that follow.

Artificial intelligence ethics boards (AEBs) have a significant and varied function in guiding technological advancement, operating as vital forums for oversight, regulation, and ethical alignment. Developers can discuss risks, establish guidelines, and ensure algorithmic fairness within inclusive environments provided by international consortia, academic institutions, and tech watchdogs. To secure public trust in digital systems, AEBs regularly conduct impact assessments to monitor biases, protect privacy, and assist in transparent software deployment. They also work to uphold ethical principles and data rights,

making corporations answerable for their software's impact and fostering a culture of responsible innovation. Although their influence is limited by commercial interests, lack of enforcement power, and rapid technological shifts, AEBs are fundamental for organizing ethical responses to digital threats, gathering expert consensus to prevent misuse, and building the framework for trustworthy technology in an automated society.

Q7. **What is one of the primary roles of AI ethics boards (AEBs) in guiding technology ?**

(A) To accelerate the development of biased algorithms
(B) To operate as vital forums for oversight, regulation, and ethical alignment
(C) To prevent developers from discussing potential risks
(D) To eliminate the need for public trust in software

Q8. **How do ethics boards contribute to public trust in digital systems, as mentioned in the passage?**

(A) By hiding software biases from the general public
(B) By conducting impact assessments to monitor biases and protect privacy
(C) By promoting unregulated data collection practices
(D) By discouraging transparency in software deployment

Q9. **What is a key challenge faced by AI ethics boards, according to the passage?**

(A) A lack of new technological developments
(B) Commercial interests, lack of enforcement power, and rapid technological shifts
(C) Total cooperation from all global corporations
(D) Decreasing complexity in digital threats

Q10. **According to the passage, how do these boards help promote responsible innovation?**

(A) By allowing corporations to ignore data rights
(B) By making corporations answerable for their software's impact
(C) By restricting the flow of information to academic institutions
(D) By focusing only on the profitability of new tech

Q11. **What is the meaning of "fundamental" as used in the passage?**

(A) Easily replaceable
(B) Essential or absolutely necessary
(C) Optional but useful
(D) Unlikely to succeed

Q12. **Choose the correct meaning of the idiom:**

Everyone was surprised when she announced that she had a bun in the oven.

(A) A new employee
(B) An unfit person
(C) A pregnancy
(D) A mischief

Q13. **Choose the correct one-word substitute for:**

An institution providing medical and surgical treatment and nursing care for sick or injured people.

(A) Dispensary
(B) Hospital
(C) Pharmacy
(D) Pantry

Q14. **Select the most appropriate antonym of the word:**

Disturbing

(A) Pleasant
(B) Tedious
(C) Bothersome
(D) Vexatious

Q15. **Choose the correct one-word substitute for the highlighted group of words.**

Ramesh asked his friend who is a poet about a technique that creates narrative rhythm.

(A) Plot
(B) Repetition
(C) Personification
(D) Humour

Q16. **Change the following sentence into the Active form.**

The last piece of cake was eaten by my brother.

(A) My brother ate the last piece of cake.
(B) The last piece of cake was eating my brother.
(C) My brother eats the last piece of cake.
(D) The last piece of cake had been eaten by my brother.

Q17. **Select the option that expresses the given sentence in indirect voice.**

She will tell him, "I have already booked the tickets."

(A) She will tell him that she had already booked the tickets.
(B) She will tell him that she has already booked the tickets.
(C) She will tell him that she already booked the tickets.
(D) She will tell him that she would have booked the tickets.

Q18. **Choose the most suitable option to replace the highlighted part of the sentence:**

Radhika, the artist and sculptor, were displaying her art at the gallery.

(A) are displaying her art at the gallery
(B) where displaying her art at the gallery
(C) is displaying her art at the gallery
(D) displays her art at the gallery

Q19. **Choose the most suitable option to replace the highlighted part of the sentence:**

It is hard to identify the timber because its grain patterns are similar to any oak tree.

(A) are similar to all trees
(B) are similar to those of any oak tree
(C) is similar to those of any other oak tree
(D) is similar to those of any oak trees

Q20. **Choose the correct passive voice transformation of the sentence:**

The experienced chef has prepared a delicious and healthy meal to satisfy the hungry guests.

(A) A delicious and healthy meal was prepared by the experienced chef to satisfy the hungry guests.
(B) A delicious and healthy meal has been prepared by the experienced chef to satisfy the hungry guests.
(C) A delicious and healthy meal has been being prepared by the experienced chef to satisfy the hungry guests.
(D) A delicious and healthy meal is prepared by the experienced chef to satisfy the hungry guests.

Q21. **Choose the correct passive voice transformation of the sentence:**

What had the authorities organized to manage the traffic flow before the festival began?

(A) What was organized by the authorities to manage the traffic flow before the festival began?
(B) What had been organized by the authorities to manage the traffic flow before the festival began?
(C) What has been organized by the authorities to manage the traffic flow before the festival began?
(D) What had been organizing by the authorities to manage the traffic flow before the festival began?

Q22. **Select the option that expresses the given sentence in direct voice.**

The strict coach, with a loud voice, said that he had warned that lazy player many times in the past.

(A) The strict coach said, "I warned that lazy player many times in the past."
(B) The strict coach said, "He had warned that lazy player many times in the past."
(C) The strict coach said, "I have warned this lazy player many times in the past.'
(D) The strict coach said, "I had warned this lazy player many times in the past.'

Q23. **Select the option that expresses the given sentence in direct voice.**

The coach told the players that their dedication had been remarkable, but that they had to now train for the finals which was a tough battle, and he was sure that they would win it.

(A) "Your dedication was remarkable, but you must now train for the finals which is a tough battle, and I am sure that you will win it," the coach said to the players.

(B) "Your dedication has been remarkable, but you have to now train for the finals which is a tough battle, and I am sure that you will win it," the coach said to the players.

(C) "Your dedication has been remarkable, but you must now train for the finals which is a tough battle, and I am sure that you will win it," the coach said to the players.

(D) "Their dedication was remarkable, but they had to now train for the finals which was a tough battle, and he was sure that they would win it," the coach said to the players.

Q24. **Rearrange the following sentence parts to form a meaningful and grammatically correct paragraph:**

P. She carefully measured the dry ingredients and sifted them into a large mixing bowl.
Q. She whisked in the eggs and melted butter until the batter was smooth and creamy.
R. She poured the mixture into a tin and baked it in the oven until it was golden brown.
S. The cake was finally ready to be served and looked absolutely delicious for the party.

(A) Q, R, P, S

(B) S, Q, R, P

(C) P, Q, R, S

(D) P, S, R, Q

Q25. **Rearrange the following sentence parts to form a meaningful and grammatically correct paragraph:**

P. The problem highlights how excessive brightness can disrupt natural ecosystems and human biological rhythms.
Q. In many urban environments, citizens are increasingly exposed to high levels of artificial light during the night.
R. This environmental issue is formally identified by scientists as "light pollution."
S. It suggests that while we require illumination for safety, an excess of it can be biologically harmful.

(A) S, R, P, Q

(B) P, R, Q, S

(C) R, S, P, Q

(D) Q, R, P, S

Section 2: General Intelligence (Q26–50)

Q26. **Here a statement is given followed by some conclusions, you have to choose the appropriate logical conclusion for the given statement.**

Statement : Online learning has become increasingly popular among students, allowing flexible study schedules and access to a wide range of resources. Schools have reduced classroom expenses and saved on physical infrastructure. However, some students face challenges with motivation and lack of peer interaction. Studies suggest that a blended learning model can combine the advantages of online and in-person education effectively.

Conclusions:

I. Online learning always reduces the quality of education.

II. Schools save money by adopting online learning methods.

III. Blended learning is an effective way to combine online and in-person education.

Question: Which conclusion necessarily follnws?

यहाँ एक कथन दिया गया है जिसके बाद कुछ निष्कर्ष दिए गए हैं, आपको दिए गए कथन के लिए उपयुक्त तार्किक निष्कर्ष चुनना है।

कथन : ऑनलाइन शिक्षा छात्रों के बीच निरंतर लोकप्रिय होती जा रही है, जो लचीली अध्ययन समय-सारणी और संसाधनों की विस्तृत श्रृंखला तक पहुँच उपलब्ध कराती है। विद्यालयों ने कक्षा-संबंधी व्यय घटाए हैं और भौतिक अवसंरचना पर बचत की है। तथापि, कुछ छात्रों को अभिप्रेरणा तथा सहपाठियों के साथ पारस्परिक संवाद के अभाव की चुनौतियों का सामना करना पड़ता है। अध्ययनों से संकेत मिलता है कि मिश्रित (blended) शिक्षण मॉडल ऑनलाइन और आमने-सामने की शिक्षा के लाभों को प्रभावी ढंग से संयोजित कर सकता है।

निष्कर्ष:

I. ऑनलाइन शिक्षा सदैव शिक्षा की गुणवत्ता घटाती है।

II. विद्यालय ऑनलाइन शिक्षण पद्धतियाँ अपनाकर धन की बचत करते हैं।

III. मिश्रित शिक्षण, ऑनलाइन और आमने-सामने की शिक्षा को संयोजित करने का एक प्रभावी तरीका है।

प्रश्न: कौन-सा निष्कर्ष अनिवार्य रूप से निकलता है?

(A) Only I follows / केवल I निकलता है

(B) Only II follows / केवल II निकलता है

(C) Only III follows / केवल III निकलता है

(D) Both II and III follow / II और III दोनों निकलते हैं

Q27. **Each item describes a situation and is followed by four possible responses. Indicate the response you find most appropriate. Choose only one response for each item. The responses will be evaluated based on the level of appropriateness for the given situation.**

Rohit owns a popular local café. A large franchise has offered to acquire 70% of his business. While the offer comes with a substantial financial benefit, Rohit will lose most control over daily operations and the unique personal touch that attracts his regular customers.
Question: What is the best course of action?

प्रत्येक प्रश्न में एक परिस्थिति का वर्णन है और उसके बाद चार संभावित प्रतिक्रियाएँ दी गई हैं। जो प्रतिक्रिया आपको सर्वाधिक उपयुक्त लगे, उसे चुनिए। प्रत्येक प्रश्न के लिए केवल एक ही प्रतिक्रिया चुनिए। प्रतिक्रियाओं का मूल्यांकन दी गई परिस्थिति के लिए उनकी उपयुक्तता के स्तर के आधार पर किया जाएगा।

Rohit एक लोकप्रिय स्थानीय कैफ़े का स्वामी है। एक बड़ी फ्रैंचाइज़ी ने उसके व्यवसाय का 70% अधिग्रहण करने का प्रस्ताव दिया है। यद्यपि इस प्रस्ताव के साथ पर्याप्त वित्तीय लाभ जुड़ा है, तथापि Rohit दैनिक संचालन पर अपना अधिकांश नियंत्रण तथा वह विशिष्ट व्यक्तिगत स्पर्श खो देगा जो उसके नियमित ग्राहकों को आकर्षित करता है।
प्रश्न: सर्वोत्तम कार्यवाही क्या है?

(A) Accept immediately for financial gain / वित्तीय लाभ के लिए तुरंत स्वीकार कर लेना
(B) Decline outright to retain full control / पूर्ण नियंत्रण बनाए रखने के लिए सीधे अस्वीकार कर देना
(C) Negotiate for a smaller stake and partial control / कम हिस्सेदारी और आंशिक नियंत्रण के लिए बातचीत करना
(D) Close the café and start a new business / कैफ़े बंद करके नया व्यवसाय शुरू करना

Q28. **In this type of questions, question is provided with substitutes for various mathematical symbols, followed by a question involving calculation of an expression or choosing the correct/incorrect equation. You have to put the real signs in the given equation and then solve the questions as required. If '&' stands for '+', 'S' stands for '-, '%' stands for '+', '@' stands for 'x', then find the value of: 30 $ 4 @ 5 @ 5 = ?**

इस प्रकार के प्रश्नों में विभिन्न गणितीय चिह्नों के स्थान पर प्रतीक दिए जाते हैं, तत्पश्चात किसी व्यंजक के मान की गणना करने अथवा सही/गलत समीकरण चुनने से संबंधित प्रश्न पूछा जाता है। आपको दिए गए समीकरण में वास्तविक चिह्न रखकर प्रश्न को आवश्यकतानुसार हल करना है। यदि '&' का अर्थ '+' है, 'S' का अर्थ '-' है, '%' का अर्थ '+' है, '@' का अर्थ 'x' है, तो निम्नलिखित का मान ज्ञात कीजिए: 30 $ 4 @ 5 @ 5 = ?

(A) -49
(B) -35
(C) -60
(D) -70

Q29. **A teammate in your project group becomes upset when tasks are reassigned at the last moment and stops participating in discussions.What is the most appropriate way to handle the situation?**

आपके प्रोजेक्ट समूह का एक सदस्य तब नाराज़ हो जाता है जब अंतिम क्षणों में कार्यों का पुनर्आवंटन कर दिया जाता है और वह चर्चाओं में भाग लेना बंद कर देता है। इस स्थिति से निपटने का सर्वाधिक उपयुक्त तरीका क्या है?

(A) Continue the work without involving them / उन्हें सम्मिलित किए बिना कार्य जारी रखना
(B) Criticize them for being too sensitive / अत्यधिक संवेदनशील होने के लिए उनकी आलोचना करना
(C) Remove them from the group quietly / उन्हें चुपचाप समूह से हटा देना
(D) Talk to them calmly, explain the reason for the change, and involve them in future planning / उनसे शांतिपूर्वक बात करना, परिवर्तन का कारण समझाना तथा भविष्य की योजना में उन्हें सम्मिलित करना

Q30. **In a queue of 50 people, Ram is 14th from the front and Raju is 18th from the rear. How many people are standing between Ram and Raju ?**

50 व्यक्तियों की एक पंक्ति में Ram आगे से 14वें स्थान पर है और Raju पीछे से 18वें स्थान पर है। Ram और Raju के बीच कितने व्यक्ति खड़े हैं?

(A) 19
(B) 20
(C) 18
(D) 21

Q31. **In each question below is given a statement followed by two courses of action numbered I and II. You have to assume everything in the statement to be true and on the basis of the information given in the statement, decide which of the suggested courses of action logically follow(s) for pursuing.**

Statement : Reports show that in rural areas, children are leaving primary schools due to a lack of quality in education.
Course of action 1 : The government needs to develop basic facilities and introduce incentive schemes.
Course of action II : Regular assessment of children's learning progress should be conducted.

नीचे दिए गए प्रत्येक प्रश्न में एक कथन दिया गया है जिसके बाद I और II क्रमांकित दो कार्यवाहियाँ दी गई हैं। आपको कथन में दी गई प्रत्येक बात को सत्य मानना है और कथन में दी गई जानकारी के आधार पर यह निर्णय करना है कि सुझाई गई कार्यवाहियों में से कौन-सी कार्यवाही अपनाने के लिए तार्किक रूप से अनुसरण करती है।

कथन : रिपोर्टों से पता चलता है कि ग्रामीण क्षेत्रों में शिक्षा की गुणवत्ता के अभाव के कारण बच्चे प्राथमिक विद्यालय छोड़ रहे हैं।
कार्यवाही 1 : सरकार को बुनियादी सुविधाएँ विकसित करनी चाहिए तथा प्रोत्साहन योजनाएँ आरंभ करनी चाहिए।
कार्यवाही II : बच्चों की अधिगम प्रगति का नियमित मूल्यांकन किया जाना चाहिए।

(A) Only I follows / केवल I अनुसरण करती है
(B) Only II follows / केवल II अनुसरण करती है
(C) Both follow / दोनों अनुसरण करती हैं
(D) Either I or II follows / या तो I या II अनुसरण करती है

Q32. **Few of the letters are given followed by a question mark (?) these letters are following a specific pattern. You have to give the correct option which can replace question mark.**

Which letter should come next in the following series:
C, F, I, L, ?

कुछ अक्षर दिए गए हैं जिनके बाद एक प्रश्नवाचक चिह्न (?) है, ये अक्षर एक निश्चित पैटर्न का अनुसरण कर रहे हैं। आपको वह सही विकल्प बताना है जो प्रश्नवाचक चिह्न के स्थान पर आ सके।

निम्नलिखित शृंखला में अगला अक्षर कौन-सा आना चाहिए:
C, F, I, L, ?

(A) O
(B) P
(C) N
(D) Q

Q33. **In this question some conditions or circumstances is provided to you, you have to make logical judgement according to mentioned circumstances and mark the correct judgement for question.**

A school principal has to select a class monitor. All students have good academic records, but one student is known for discipline, responsibility, and helping classmates. Who should be selected?

इस प्रश्न में आपको कुछ शर्तें अथवा परिस्थितियाँ दी गई हैं, आपको उल्लिखित परिस्थितियों के अनुसार तार्किक निर्णय करना है और प्रश्न के लिए सही निर्णय चिह्नित करना है।

एक विद्यालय के प्रधानाचार्य को कक्षा-मॉनीटर का चयन करना है। सभी विद्यार्थियों का शैक्षणिक रिकॉर्ड अच्छा है, किंतु एक विद्यार्थी अनुशासन, उत्तरदायित्व और सहपाठियों की सहायता करने के लिए जाना जाता है। किसका चयन किया जाना चाहिए?

(A) Student with highest marks / सर्वाधिक अंक प्राप्त करने वाला विद्यार्थी
(B) Student who participates in most competitions / सर्वाधिक प्रतियोगिताओं में भाग लेने वाला विद्यार्थी
(C) Student known for discipline and responsibility / अनुशासन और उत्तरदायित्व के लिए जाना जाने वाला विद्यार्थी
(D) Student who has been in the school the longest / वह विद्यार्थी जो विद्यालय में सबसे लंबे समय से है

Q34. **Four meaningful words are given in the options. You have to check which of the following words cannot be formed from the letters of the word "ENVIRONMENT"?**

विकल्पों में चार सार्थक शब्द दिए गए हैं। आपको यह जाँचना है कि निम्नलिखित में से कौन-सा शब्द "ENVIRONMENT" शब्द के अक्षरों से नहीं बनाया जा सकता?

(A) METER
(B) IRON
(C) TONE
(D) RAIN

Q35. **A mirror is placed on the line AB. Out of the option figures which figure will be the right image of the question figure?**

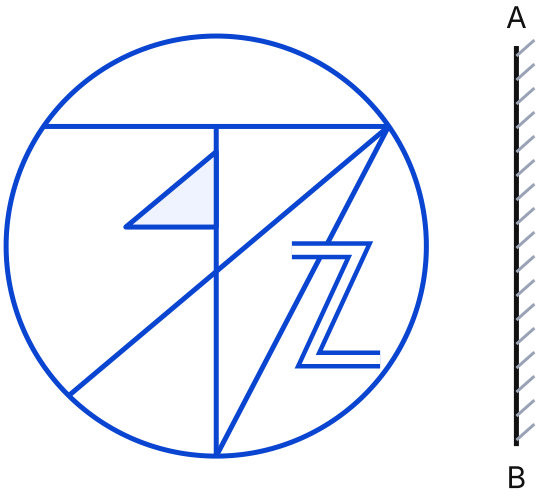

रेखा AB पर एक दर्पण रखा गया है। विकल्प आकृतियों में से कौन-सी आकृति प्रश्न आकृति का सही प्रतिबिंब होगी?

(A)



(B)



(C)

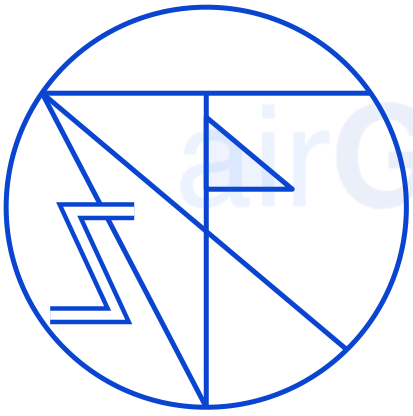

(D)

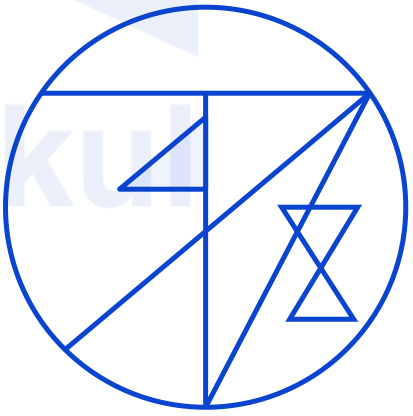

Q36. In this type of question, a problem situation is given, followed by some options to solve it. You have to choose the most appropriate solution.

During the school sports day, two teams want to use the main playground at the same time. What should the event coordinator do ?

इस प्रकार के प्रश्न में एक समस्यात्मक परिस्थिति दी जाती है, जिसके बाद उसे हल करने के लिए कुछ विकल्प दिए जाते हैं। आपको सर्वाधिक उपयुक्त समाधान चुनना है।

विद्यालय के खेल दिवस के दौरान, दो टीमें एक ही समय पर मुख्य खेल मैदान का उपयोग करना चाहती हैं। कार्यक्रम संयोजक को क्या करना चाहिए?

(A) Allow only the team that was already practicing / केवल उसी टीम को अनुमति दें जो पहले से अभ्यास कर रही थी

(B) Fairly divide the time between both teams and schedule the program / दोनों टीमों के बीच समय का निष्पक्ष विभाजन करके कार्यक्रम निर्धारित करें

(C) Cancel one team's program completely / एक टीम का कार्यक्रम पूर्णतः रद्द कर दें

(D) Decide randomly by tossing a coin / सिक्का उछालकर यादृच्छिक रूप से निर्णय लें

Q37. In this type of questions, question is provided with some issues / disputes / problem, followed by few methods to resolve the problem in statement choosing the appropriate problem solving method that can be implemented.

There are frequent delays in city garbage collection, and many areas are being missed. What would be the most logical improvement?

इस प्रकार के प्रश्नों में कुछ मुद्दे / विवाद / समस्याएँ दी जाती हैं, जिनके बाद कथन में उस समस्या को हल करने की कुछ विधियाँ दी जाती हैं; आपको वह उपयुक्त समस्या-समाधान विधि चुननी है जिसे लागू किया जा सके।

शहर में कचरा संग्रहण में बार-बार देरी होती है और कई क्षेत्र छूट जाते हैं। सबसे तार्किक सुधार क्या होगा?

(A) Redesign the collection route based on area density and shortest paths / क्षेत्र-घनत्व तथा न्यूनतम दूरी के मार्गों के आधार पर संग्रहण मार्ग का पुनर्निर्धारण करना

(B) Increase fines for residents / निवासियों पर जुर्माना बढ़ाना

(C) Continue the same schedule to avoid confusion / भ्रम से बचने के लिए वही समय-सारणी जारी रखना

(D) Add more trucks without planning / बिना किसी योजना के और ट्रक जोड़ना

Q38. **In each of the following questions, there is a certain relationship between two given letter pairs on one side of (::) and pair is given on another side of (:) where another pair is to be found from the given alternatives, having the same relationship with this pair as the pairs of the given pair bear. Choose the best alternative.**

SU: QW: : VW: **?**

निम्नलिखित प्रत्येक प्रश्न में (::) के एक ओर दिए गए दो अक्षर-युग्मों के बीच एक निश्चित संबंध है और (:) की दूसरी ओर एक युग्म दिया गया है, जिसके लिए दिए गए विकल्पों में से ऐसा युग्म ज्ञात करना है जिसका इस युग्म से वही संबंध हो जो दिए गए युग्मों के बीच है। सर्वोत्तम विकल्प चुनिए।

SU: QW: : VW: ?

(A) YT
(B) WT
(C) WS
(D) TY

Q39. **Find the next element that replace the ? Logically**

7, 19, 67, 259, ?

उस अगले पद को ज्ञात कीजिए जो ? के स्थान पर तार्किक रूप से आएगा

7, 19, 67, 259, ?

(A) 1036
(B) 1027
(C) 1045
(D) 1025

Q40. **In three of the following pairs are same by same pattern except one pair. Which pair does not follow this pattern?**

निम्नलिखित युग्मों में से तीन युग्म एक ही पैटर्न पर आधारित हैं, केवल एक युग्म को छोड़कर। कौन-सा युग्म इस पैटर्न का अनुसरण नहीं करता?

(A) 4,9
(B) 9,16
(C) 49,64
(D) 81, 121

Q41. **A piece of paper is folded and punched as shown below in the question figures. From the given option figures, indicate how it will appear when opened.**

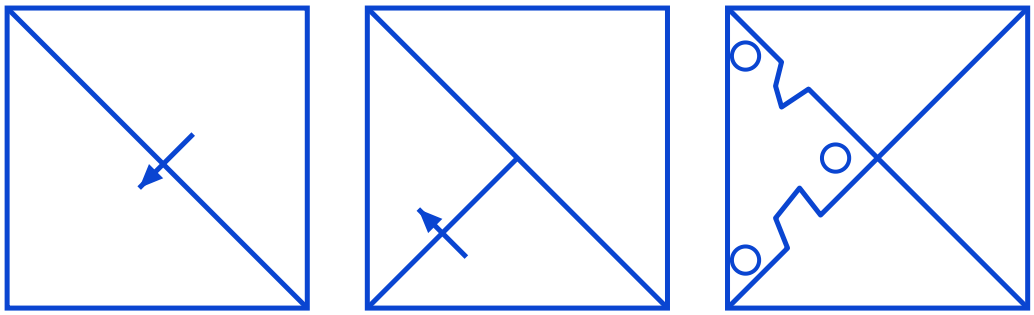

प्रश्न आकृतियों में नीचे दर्शाए अनुसार कागज़ के एक टुकड़े को मोड़ा तथा छेदा गया है। दी गई विकल्प आकृतियों में से बताइए कि खोलने पर वह कैसा दिखाई देगा।

(A)

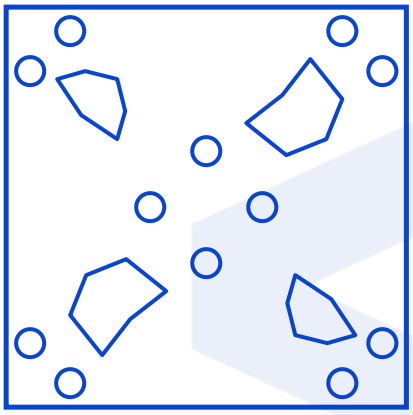

(B)

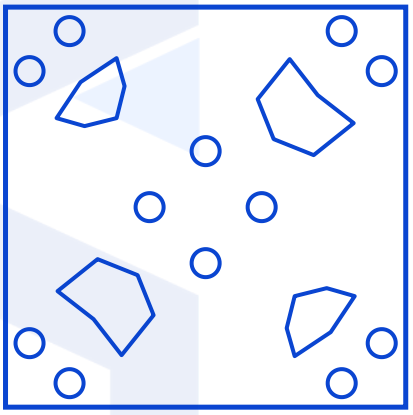

(C)

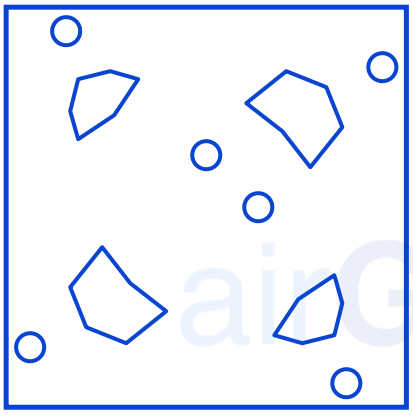

(D)

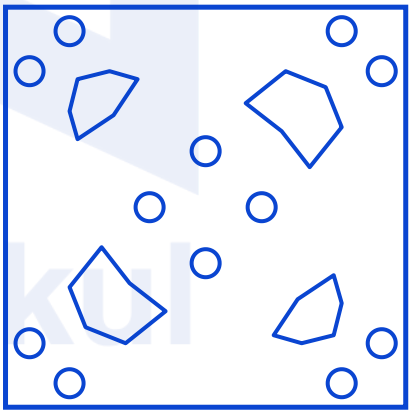

Q42. **From the given option figures, select the one in which the question figure is hidden/embedded. (Rotation is not allowed)**



दी गई विकल्प आकृतियों में से उस आकृति का चयन कीजिए जिसमें प्रश्न आकृति छिपी/अंतर्निहित है। (घुमाने की अनुमति नहीं है)

(A)


(B)
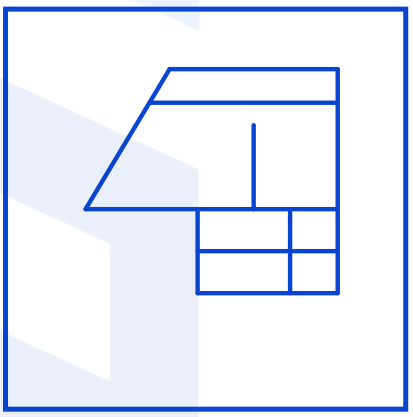

(C)
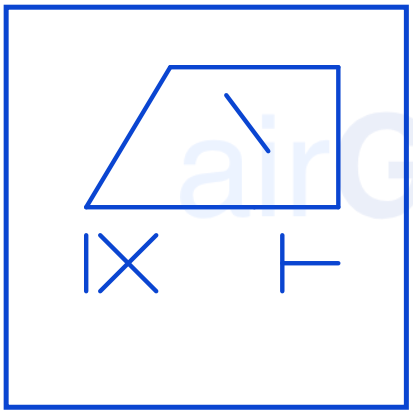

(D)
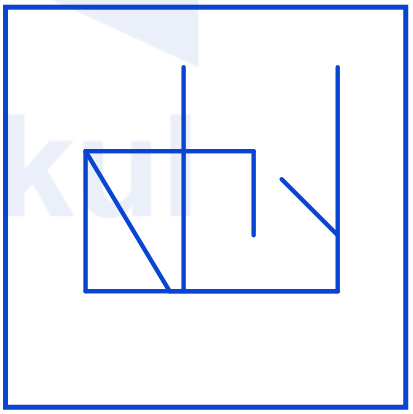

Q43. **In the following question, select the number which can be placed at the sign of question mark (?) from the given alternatives.**

निम्नलिखित प्रश्न में, दिए गए विकल्पों में से उस संख्या का चयन कीजिए जिसे प्रश्नवाचक चिह्न (?) के स्थान पर रखा जा सकता है।

(A) 24
(B) 20
(C) 18
(D) 19

Q44. **In the figure given below the circle represents lions, the rectangle represents deers and the triangle represents rabbits. Number in each area represents the number of items in that area.**

How many rabbits are neither lions nor deers?

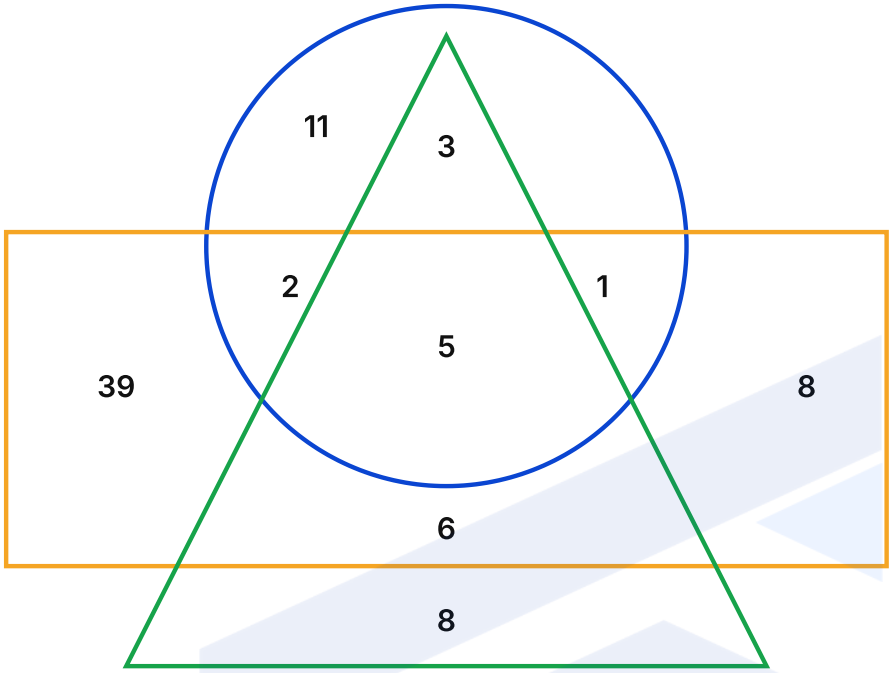

नीचे दी गई आकृति में वृत्त शेरों को, आयत हिरणों को तथा त्रिभुज खरगोशों को निरूपित करता है। प्रत्येक क्षेत्र में लिखी संख्या उस क्षेत्र की वस्तुओं की संख्या दर्शाती है।

कितने खरगोश न तो शेर हैं और न ही हिरण हैं?

(A) 5
(B) 8
(C) 1
(D) 3

Q45. **Identify the diagram that best represents the relationship among the given classes.**

Omnivore, Bear, Cattle

उस आरेख की पहचान कीजिए जो दिए गए वर्गों के बीच के संबंध का सर्वोत्तम निरूपण करता है।

सर्वाहारी, भालू, मवेशी

(A)
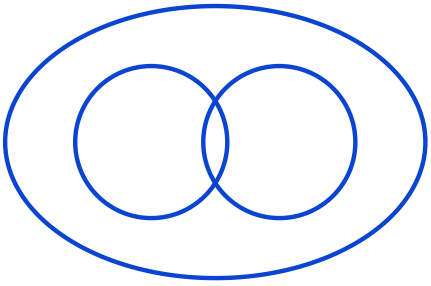

(B)
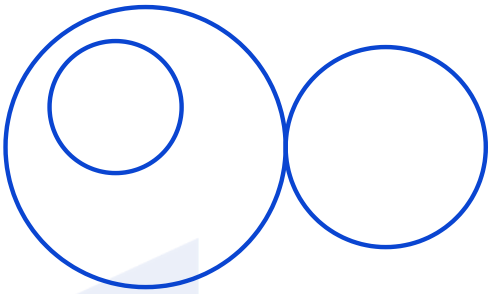

(C)


(D)
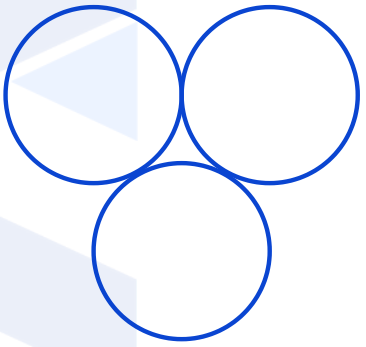

Q46. **Select the option that represents the correct order of the given words as they would appear in an English dictionary.**

1. Astronomy
2. Astrologer
3. Asteroid
4. Astrological
5. Astronaut

उस विकल्प का चयन कीजिए जो दिए गए शब्दों का वह सही क्रम निरूपित करता है जिसमें वे अंग्रेज़ी शब्दकोश में आएँगे।

1. Astronomy
2. Astrologer
3. Asteroid
4. Astrological
5. Astronaut

(A) 5, 2, 3, 4, 1
(B) 2, 1, 4, 3, 5
(C) 3, 4, 2, 1, 5
(D) 3, 2, 4, 5, 1

Q47. **Which option figure will complete the pattern in the question figure? (Rotation is not allowed)**

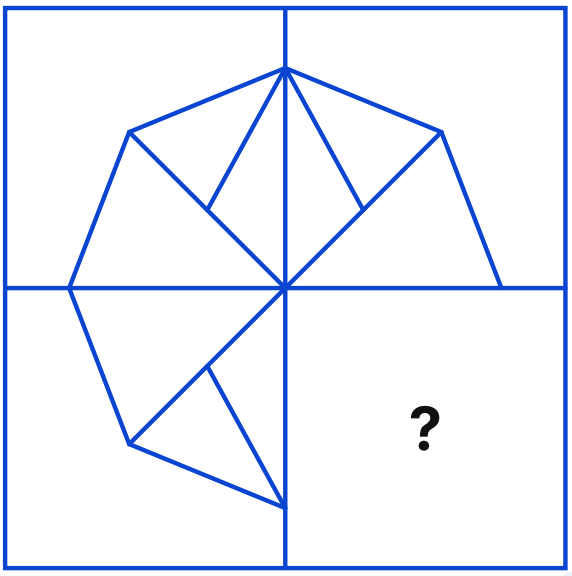

प्रश्न आकृति के प्रतिरूप को कौन-सी विकल्प आकृति पूर्ण करेगी? (घुमाने की अनुमति नहीं है)

A



B



C



D



Q48. Select the option that is related to the third figure in the same way as the second figure is related to the first figure.

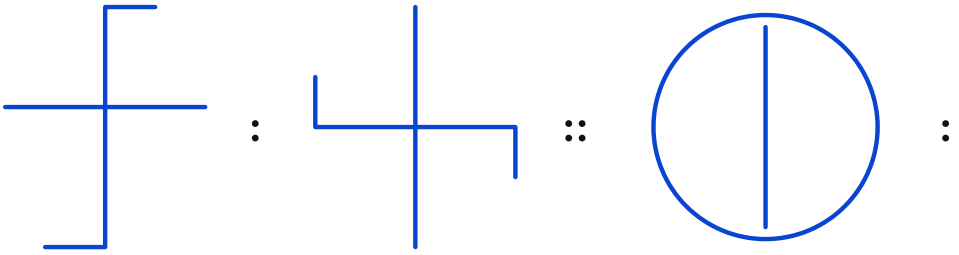

उस विकल्प का चयन कीजिए जो तीसरी आकृति से उसी प्रकार संबंधित है जिस प्रकार दूसरी आकृति पहली आकृति से संबंधित है।

(A)



(B)



(C)



(D)



Q49. **In the following figure series, select the figure which can be placed at the sign of question mark (?) from the given alternatives.**



निम्नलिखित आकृति श्रृंखला में, दिए गए विकल्पों में से उस आकृति का चयन कीजिए जिसे प्रश्नवाचक चिह्न (?) के स्थान पर रखा जा सकता है।

(A)


(B)


(C)
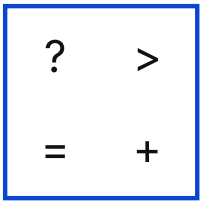

(D)


Q50. **In a certain coded language 'CUKT' is coded as 'GYOX' and 'BSEU' is coded as 'FWIY'. How will 'AGSV' be coded in the same code language?**

एक निश्चित कूट भाषा में 'CUKT' को 'GYOX' तथा 'BSEU' को 'FWIY' के रूप में कूटबद्ध किया जाता है। उसी कूट भाषा में 'AGSV' को किस प्रकार कूटबद्ध किया जाएगा?

(A) EZZW
(B) EKWZ
(C) EZWZ
(D) EKZW

Want to clear SSC CHSL Tier-1?

Prepare with **Samyān (सम्यान) 1.0 – SSC Foundation Course** – structured classes, practice and doubt support for SSC CHSL Tier-1.

Every PYP as an online test
Shift-wise papers with timer, score and rank.

Detailed solutions
Step-by-step answers in Hindi and English.

Free live classes
Daily classes on our YouTube channel airGurukul SSC Exams.

Exam updates
Notifications, admit cards and results on WhatsApp.

See the course

Attempt this paper online

Detailed solutions

Free classes & exam updates

Telegram Channel
t.me/airgurukulofficial

WhatsApp Channel
whatsapp.com/channel/0029VbBP7n00VycAFq6AGJ0I

YouTube Channel
youtube.com/@airGurukulSSCExams

Android App
play.google.com/...?id=in.airgurukul

Call / WhatsApp **+91-7042559948** · www.airgurukul.com

Section 3: Quantitative Aptitude (Q51–75)

Q51. **Three partners share the profit in a business in the ratio 5 : 7 : 3. They invested for 15 months, 21 months, and 6 months, respectively. What is the ratio of their investments?**

एक व्यवसाय में तीन साझेदार लाभ को 5 : 7 : 3 के अनुपात में बाँटते हैं। उन्होंने क्रमशः 15 महीने, 21 महीने तथा 6 महीने के लिए निवेश किया। उनके निवेशों का अनुपात क्या है?

(A) $2:2:3$
(B) $3:2:3$
(C) $2:3:3$
(D) $2:3:2$

Q52. **Simplify the expression:**

$\text{cosec}^2 x - \cot^2 x - \cos^2 x$.

व्यंजक को सरल कीजिए:

$\text{cosec}^2 x - \cot^2 x - \cos^2 x$.

(A) 2
(B) $\tan^2 x$
(C) $\sin^2 x$
(D) 1

Q53. **The ratio of the profit to the cost price is 4 : 7. What is the ratio of the selling price to the cost price?**

लाभ का क्रय मूल्य से अनुपात 4 : 7 है। विक्रय मूल्य का क्रय मूल्य से अनुपात क्या है?

(A) 4 : 11
(B) 11 : 4
(C) 11 : 7
(D) 7 : 11

Q54. **If a ratio of 5 : 8 represents the number of mangoes and grapes in a basket, and there are 60 mangoes, how many grapes are there?**

यदि 5 : 8 का अनुपात किसी टोकरी में आमों तथा अंगूरों की संख्या दर्शाता है और आम 60 हैं, तो अंगूर कितने हैं?

(A) 42
(B) 96
(C) 50
(D) 48

Q55. **The difference between the CI and SI on a sum for 2 years at 12% p.a. is ₹720. What is the principal?**

किसी धनराशि पर 2 वर्ष के लिए 12% वार्षिक दर से चक्रवृद्धि ब्याज तथा साधारण ब्याज का अंतर ₹720 है। मूलधन क्या है?

(A) ₹30,000
(B) ₹32,000
(C) ₹40,000
(D) ₹50000

Q56. **An amount of ₹3,00,000 is invested at 20% per annum compound interest. After 1 year, the investor withdraws ₹30,000 from the balance. What will be the total amount remaining in the account at the end of the 2nd year?**

₹3,00,000 की राशि 20% वार्षिक चक्रवृद्धि ब्याज पर निवेश की जाती है। 1 वर्ष बाद निवेशक शेष राशि में से ₹30,000 निकाल लेता है। दूसरे वर्ष के अंत में खाते में कुल कितनी राशि शेष रहेगी?

(A) ₹3,48,000
(B) ₹3,96,000
(C) ₹3,46,000
(D) ₹3,60,000

Q57. **The average of 40 numbers was calculated as 28. Later it was found that two numbers were wrongly taken as 23 and 17 instead of 13 and 7. What is the correct average ?**

40 संख्याओं का औसत 28 निकाला गया। बाद में पाया गया कि दो संख्याएँ 13 और 7 के स्थान पर गलती से 23 और 17 ले ली गई थीं। सही औसत क्या है?

(A) 27.5
(B) 28.5
(C) 30.5
(D) 25.5

Q58. **When 15827, 16115, and 16703 are divided by the greatest number l, the remainder is n.**

What is the value of $(l+n)$?

जब 15827, 16115 तथा 16703 को महत्तम संख्या l से विभाजित किया जाता है, तो प्रत्येक बार शेषफल n प्राप्त होता है।

$(l+n)$ का मान क्या है?

(A) 13
(B) 18
(C) 15
(D) 23

Q59. **The price of a car increases by 10% in the first year and then again increases by 12.5% in the second year. If its final price becomes ₹69,300, find the original price of the car.**

किसी कार का मूल्य पहले वर्ष में 10% बढ़ता है और फिर दूसरे वर्ष में 12.5% बढ़ जाता है। यदि उसका अंतिम मूल्य ₹69,300 हो जाता है, तो कार का मूल मूल्य ज्ञात कीजिए।

(A) ₹40,000
(B) ₹52,000
(C) ₹56,000
(D) ₹48,000

Q60. **A bus travels to a town at $60\text{km}/h$ and returns at $40\text{km}/h$. If the total time taken is 15 hours, what is the one-way distance to the town?**

एक बस किसी नगर तक $60\text{km}/h$ की चाल से जाती है और $40\text{km}/h$ की चाल से लौटती है। यदि कुल लिया गया समय 15 घंटे है, तो नगर तक एक ओर की दूरी कितनी है?

(A) 330 km
(B) 245 km
(C) 360 km
(D) 720 km

Q61. **P and Q together can do a piece of work in 20 days. Q alone can do it in 30 days. How long will P alone take to complete the work?**

P और Q मिलकर किसी कार्य को 20 दिनों में कर सकते हैं। Q अकेला उसी कार्य को 30 दिनों में कर सकता है। P अकेला उस कार्य को पूरा करने में कितना समय लेगा?

(A) 40 days / 40 दिन
(B) 50 days / 50 दिन
(C) 60 days / 60 दिन
(D) 70 days / 70 दिन

Q62. **In a trapezium PQRS with PQ|RS, the diagonals PR and QS intersect at 0. The area of $\triangle \mathrm{ROS} = 16\mathrm{cm}^2$. If $\mathrm{PQ} = 2\mathrm{RS}$, what is the area of $\triangle \mathrm{POQ}$?**

एक समलंब PQRS में PQ|RS है तथा विकर्ण PR और QS एक-दूसरे को 0 पर प्रतिच्छेद करते हैं। क्षेत्रफल $\triangle \mathrm{ROS} = 16\mathrm{cm}^2$ है। यदि $\mathrm{PQ} = 2\mathrm{RS}$ हो, तो $\triangle \mathrm{POQ}$ का क्षेत्रफल क्या होगा?

(A) $64\mathrm{cm}^2$
(B) $80\mathrm{cm}^2$
(C) $96\mathrm{cm}^2$
(D) $72\mathrm{cm}^2$

Q63. **In a scheme, a shopkeeper offers a 15% discount if a customer buys three or more notebooks. Rohan buys three notebooks for ₹765. If the shopkeeper still makes a 25% profit, find the profit he would make had he sold the notebooks without any discount.**

एक योजना के अंतर्गत कोई दुकानदार तीन या अधिक नोटबुक खरीदने पर 15% की छूट देता है। रोहन तीन नोटबुक ₹765 में खरीदता है। यदि दुकानदार को तब भी 25% लाभ होता है, तो ज्ञात कीजिए कि बिना कोई छूट दिए नोटबुक बेचने पर उसे कितना लाभ होता।

(A) ₹220
(B) ₹240
(C) ₹288
(D) ₹250

Q64. **The simple interest on Rs. 2500 is Rs.500, and the time is 3 years . What is the rate of interest?**

Rs. 2500 पर साधारण ब्याज Rs. 500 है तथा समय 3 वर्ष है। ब्याज की दर क्या है?

(A) $\frac{10}{3}\%$
(B) $\frac{20}{3}\%$
(C) $\frac{40}{3}\%$
(D) $\frac{50}{3}\%$

Q65. **A rectangular sheet of paper with dimensions 88 cm by 20 cm is rolled into a right circular cylinder with the 20 cm side becoming the height. What is the approximate volume of the cylinder?**

88 cm × 20 cm विमाओं वाली कागज़ की एक आयताकार शीट को इस प्रकार मोड़कर लंब वृत्तीय बेलन बनाया जाता है कि 20 cm वाली भुजा उसकी ऊँचाई बन जाए। बेलन का लगभग आयतन कितना है?

(A) 13220 cubic cm / 13220 घन cm
(B) 12330 cubic cm / 12330 घन cm
(C) 12230 cubic cm / 12230 घन cm
(D) 12320 cubic cm / 12320 घन cm

Q66. **The value of $12^2 + 65^2$ is the same as which of the following?**

$12^2 + 65^2$ का मान निम्नलिखित में से किसके बराबर है?

(A) $15^2 + 42^2$
(B) $20^2 + 63^2$
(C) $18^2 + 45^2$
(D) $82^2 + 72^2$

Q67. **An 75 kg alloy contains lead and tin in some proportion. It has 20% tin. How much pure tin (in kg) should be added to the alloy so that the new mixture contains 40% tin?**

75 kg की एक मिश्रधातु में सीसा और टिन किसी अनुपात में हैं। इसमें 20% टिन है। मिश्रधातु में कितना शुद्ध टिन (kg में) मिलाया जाए ताकि नए मिश्रण में 40% टिन हो जाए?

(A) 40 kg
(B) 25 kg
(C) 36 kg
(D) 28 kg

Q68. **A hemispherical shell has an inner radius of 9 cm and an outer radius of 11 cm . Calculate the volume of the material forming the shell.**

एक अर्धगोलाकार खोल की आंतरिक त्रिज्या 9 cm तथा बाह्य त्रिज्या 11 cm है। खोल बनाने वाले पदार्थ का आयतन ज्ञात कीजिए।

(A) $\frac{1250\pi}{3}\text{cm}^3$
(B) $\frac{1204\pi}{3}\text{cm}^3$
(C) $\frac{1150\pi}{3}\text{cm}^3$
(D) $\frac{1210\pi}{3}\text{cm}^3$

Q69. **A tank is $\frac{2}{5}$ full of water. If 30 liters of water is added, it becomes $\frac{3}{5}$ full. What is the full capacity of the tank?**

एक टंकी $\frac{2}{5}$ भाग तक पानी से भरी है। यदि उसमें 30 लीटर पानी और डाला जाए, तो वह $\frac{3}{5}$ भाग तक भर जाती है। टंकी की कुल धारिता कितनी है?

(A) 180 liters / 180 लीटर
(B) 100 liters / 100 लीटर
(C) 150 liters / 150 लीटर
(D) 120 liters / 120 लीटर

Q70. **The centroid of a triangle is the center of mass. If the coordinates of the vertices are $A\,(4,7)$, $B\,(6,8)$, and $C\,(8,6)$, what is the centroid of the triangle?**

किसी त्रिभुज का केंद्रक उसका द्रव्यमान-केंद्र होता है। यदि शीर्षों के निर्देशांक $A\,(4,7)$, $B\,(6,8)$ तथा $C\,(8,6)$ हैं, तो त्रिभुज का केंद्रक क्या है?

(A) $(7,5)$
(B) $(7,6)$
(C) $(6,7)$
(D) $(6,5)$

Q71. **If the ratio of the altitudes of two similar triangles is $p:q$, what is the ratio of their areas?**

यदि दो समरूप त्रिभुजों के शीर्षलंबों का अनुपात $p:q$ है, तो उनके क्षेत्रफलों का अनुपात क्या होगा?

(A) $\sqrt{p}:\sqrt{q}$
(B) $p^2:q^2$
(C) $p:q$
(D) $p:q^2$

Q72. **Rationalize the denominator:** $\frac{8}{(\sqrt{5}+\sqrt{3})}$

हर का परिमेयकरण कीजिए: $\frac{8}{(\sqrt{5}+\sqrt{3})}$

(A) $4(\sqrt{5}+\sqrt{3})$
(B) $4(\sqrt{5}\cdot\sqrt{3})$
(C) $2(\sqrt{5}-\sqrt{3})$
(D) $2(\sqrt{5}+\sqrt{3})$

Q73. **If** $(a^3+b^3+c^3-3abc) = 405$**, and** $(a+b+c) = 15$**, find the value of** $(a-b)^2+(b-c)^2+(c-a)^2$**.**

यदि $(a^3+b^3+c^3-3abc) = 405$ तथा $(a+b+c) = 15$ है, तो $(a-b)^2+(b-c)^2+(c-a)^2$ का मान ज्ञात कीजिए।

(A) 27
(B) 54
(C) 18
(D) 45

Q74. $\frac{(1+\cos\theta)^2+\sin^2\theta}{(\operatorname{cosec}2\theta-1)\sin^2\theta} =$ **?**

(A) $\cos\theta(1+\sin\theta)$
(B) $2\cos\theta(1+\sec\theta)$
(C) $\sec\theta(1+\sin\theta)$
(D) $2\sec\theta(1+\sec\theta)$

Q75. **A line passes through the points (3 , 5) and (2, 7). Find the equation of the line in slope-intercept form.**

एक रेखा बिंदुओं (3 , 5) और (2, 7) से होकर जाती है। इस रेखा का समीकरण ढाल-अंतःखंड रूप में ज्ञात कीजिए।

(A) $2x-y=11$
(B) $x+2y=11$
(C) $x-2y=11$
(D) $2x+y=11$

Section 4: General Awareness (Q76–100)

Q76. **Which Article of the Indian Constitution directs the State to ensure that the operation of the legal system promotes justice on a basis of equal opportunity and provides for free legal aid?**

भारतीय संविधान का कौन-सा अनुच्छेद राज्य को यह सुनिश्चित करने का निदेश देता है कि विधिक तंत्र का संचालन समान अवसर के आधार पर न्याय को बढ़ावा दे तथा निःशुल्क विधिक सहायता उपलब्ध कराए?

(A) Article 46 / अनुच्छेद 46
(B) Article 35 / अनुच्छेद 35
(C) Article 39 A / अनुच्छेद 39 A
(D) Article 42 / अनुच्छेद 42

Q77. **In the year 2024, which of the following leaders was posthumously honoured with the Bharat Ratna?**

वर्ष 2024 में निम्नलिखित में से किस नेता को मरणोपरांत भारत रत्न से सम्मानित किया गया?

(A) B. R. Ambedkar (Posthumous) / बी. आर. आंबेडकर (मरणोपरांत)
(B) Jayaprakash Narayan (Posthumous) / जयप्रकाश नारायण (मरणोपरांत)
(C) Lal Bahadur Shastri (Posthumous) / लाल बहादुर शास्त्री (मरणोपरांत)
(D) Karpoori Thakur (Posthumous) / कर्पूरी ठाकुर (मरणोपरांत)

Q78. **With an allocation of ₹20,000 crore in the Union Budget 2025-26, the government aims to operationalize how many indigenously developed Small Modular Reactors (SMRs) by the year 2033?**

केंद्रीय बजट 2025-26 में ₹20,000 करोड़ के आवंटन के साथ सरकार का लक्ष्य वर्ष 2033 तक कितने स्वदेशी रूप से विकसित लघु मॉड्यूलर रिएक्टरों (SMRs) को क्रियाशील करना है?

(A) 7
(B) 11
(C) 5
(D) 9

Q79. **According to the 'World Happiness Report' released in March 2025, what is India's rank globally ?**

मार्च 2025 में जारी 'World Happiness Report' के अनुसार, वैश्विक स्तर पर भारत का स्थान क्या है?

(A) 146th / 146वाँ
(B) 131th / 131वाँ
(C) 118th / 118वाँ
(D) 96th / 96वाँ

Q80. **According to UNICEF's 'State of the World's Children 2024' report, by the 2050s, over one-third of the global child population will be concentrated in four specific countries. Which of the following nations is NOT part of this group?**

UNICEF की 'State of the World's Children 2024' रिपोर्ट के अनुसार, 2050 के दशक तक विश्व की एक-तिहाई से अधिक बाल जनसंख्या चार विशिष्ट देशों में केंद्रित होगी। निम्नलिखित में से कौन-सा देश इस समूह का भाग नहीं है?

(A) Sudan / सूडान
(B) India / भारत
(C) Pakistan / पाकिस्तान
(D) China / चीन

Q81. **In May 2025, which district achieved the distinction of becoming the first in India to run entirely on solar power?**

मई 2025 में, किस ज़िले ने पूर्णतः सौर ऊर्जा पर चलने वाला भारत का पहला ज़िला बनने का गौरव प्राप्त किया?

(A) Rewa / रीवा
(B) Diu / दीव
(C) Jaisalmer / जैसलमेर
(D) Kochi / कोच्चि

Q82. Which Hindustani classical 'Gharana' does the distinguished vocalist Ashwini Bhide Deshpande associated with?

प्रतिष्ठित गायिका Ashwini Bhide Deshpande हिंदुस्तानी शास्त्रीय संगीत के किस 'घराने' से संबद्ध हैं?

(A) Gwalior Gharana / ग्वालियर घराना
(B) Jaipur-Atrauli Gharana / जयपुर-अतरौली घराना
(C) Agra Gharana / आगरा घराना
(D) Mewati Gharana / मेवाती घराना

Q83. Which Indian author wrote the celebrated work 'In an Antique Land'?

किस भारतीय लेखक ने प्रसिद्ध कृति 'In an Antique Land' लिखी थी?

(A) Vikram Seth
(B) Arundhati Roy
(C) Amitav Ghosh
(D) Jhumpa Lahiri

Q84. The book 'Love Is Always Right and Other Musings' is the work of which Indian author and columnist ?

'Love Is Always Right and Other Musings' पुस्तक किस भारतीय लेखिका एवं स्तंभकार की कृति है?

(A) Twinkle Khanna
(B) Vinita Dawra Nangia
(C) Shobhaa De
(D) Sudha Murty

Q85. Identify the folk dance of Chhattisgarh that is popularly referred to as the "Parrot Dance."

छत्तीसगढ़ के उस लोकनृत्य की पहचान कीजिए जिसे लोकप्रिय रूप से "तोता नृत्य" (Parrot Dance) कहा जाता है।

(A) Suwa Dance / सुआ नृत्य
(B) Giddha Dance / गिद्दा नृत्य
(C) Garba Dance / गरबा नृत्य
(D) Bihu Dance / बिहू नृत्य

Q86. In Indian space research terminology, what does the letter "N" denote in INCOSPAR ?

भारतीय अंतरिक्ष अनुसंधान की शब्दावली में, INCOSPAR में अक्षर "N" किसे दर्शाता है?

(A) National
(B) Nuclear
(C) Navigational
(D) Network

Q87. An object has a weight of 441 N on Earth. What is the mass of the object ?

पृथ्वी पर किसी वस्तु का भार 441 N है। उस वस्तु का द्रव्यमान कितना है?

(A) 50 kg
(B) 42 kg
(C) 36 kg
(D) 45 kg

Q88. According to NASA's research, the rings of which planet are disappearing at a worst-case-scenario rate?

NASA के अनुसंधान के अनुसार, किस ग्रह के वलय न्यूनतम-अनुकूल (worst-case) दर से लुप्त हो रहे हैं?

(A) Mars / मंगल
(B) Saturn / शनि
(C) Venus / शुक्र
(D) Mercury / बुध

Q89. Around the year 1713, Sawai Raja Jai Singh of Amer was appointed as the governor of which region?

लगभग 1713 ईस्वी में आमेर के सवाई राजा जय सिंह को किस क्षेत्र का सूबेदार (गवर्नर) नियुक्त किया गया था?

(A) Awadh / अवध
(B) Gujarat / गुजरात
(C) Deccan / दक्कन
(D) Malwa / मालवा

Q90. Which of the following statements is correct regarding the sale of government assets such as the sale of shares in a Public Sector Undertaking (PSU) ?

सरकारी परिसंपत्तियों की बिक्री, जैसे किसी सार्वजनिक क्षेत्र के उपक्रम (PSU) के शेयरों की बिक्री, के संबंध में निम्नलिखित में से कौन-सा कथन सही है?

(A) It increases the fiscal deficit permanently / इससे राजकोषीय घाटा स्थायी रूप से बढ़ता है
(B) Proceeds from the sale of shares form part of capital receipts / शेयरों की बिक्री से प्राप्त राशि पूँजीगत प्राप्तियों का भाग होती है
(C) Proceeds from the sale of shares are treated as revenue receipts / शेयरों की बिक्री से प्राप्त राशि को राजस्व प्राप्ति माना जाता है
(D) It leads to an increase in government liabilities / इससे सरकार की देयताओं में वृद्धि होती है

Q91. The establishment of the Foreign Investment Promotion Board (FIPB) in India was a consequence of which Industrial Policy?

भारत में विदेशी निवेश संवर्धन बोर्ड (FIPB) की स्थापना किस औद्योगिक नीति का परिणाम थी?

(A) 1956
(B) 1977
(C) 1980
(D) 1991

Q92. Rani Lakshmibai was defeated and killed in which of the following years?

रानी लक्ष्मीबाई निम्नलिखित में से किस वर्ष परास्त होकर मारी गई थीं?

(A) June 1858 / जून 1858
(B) July 1857 / जुलाई 1857
(C) February 1859 / फरवरी 1859
(D) August 1860 / अगस्त 1860

Q93. During 2001-02, the excise duty structure in India was rationalised to a single CENVAT (Central Value Added Tax) rate of how many per cent?

2001-02 के दौरान भारत में उत्पाद शुल्क की संरचना को युक्तिसंगत बनाकर कितने प्रतिशत की एकल CENVAT (केंद्रीय मूल्य वर्धित कर) दर पर लाया गया था?

(A) 16
(B) 12
(C) 18
(D) 20

Q94. Who holds the Contingency Fund of an Indian State?

भारत के किसी राज्य की आकस्मिकता निधि किसके पास रहती है?

(A) Chief Secretary / मुख्य सचिव
(B) Accountant General / महालेखाकार
(C) Governor / राज्यपाल
(D) Advocate General / महाधिवक्ता

Q95. **Which port experiences significant silt deposition in the Hugli River, affecting its operations?**
हुगली नदी में गाद के अत्यधिक जमाव से किस बंदरगाह का संचालन प्रभावित होता है?

(A) Paradip Port / पारादीप बंदरगाह
(B) Vishakhapatnam Port / विशाखापत्तनम बंदरगाह
(C) Haldia Port / हल्दिया बंदरगाह
(D) Kolkata Port / कोलकाता बंदरगाह

Q96. **What was the main role of the Planning Commission of India?**
भारत के योजना आयोग की मुख्य भूमिका क्या थी?

(A) To control government expenditure / सरकारी व्यय को नियंत्रित करना
(B) To manage public debt / सार्वजनिक ऋण का प्रबंधन करना
(C) To formulate and implement Five-Year Plans / पंचवर्षीय योजनाएँ बनाना और उन्हें लागू करना
(D) To supervise banking policies / बैंकिंग नीतियों का पर्यवेक्षण करना

Q97. **In which year was the National Youth Policy launched in India?**
भारत में राष्ट्रीय युवा नीति किस वर्ष प्रारंभ की गई थी?

(A) 2000
(B) 2012
(C) 2014
(D) 2016

Q98. **In humans, which organ of the digestive system secretes lipase to digest emulsified fats?**
मनुष्य में, पाचन तंत्र का कौन-सा अंग इमल्सीकृत वसा के पाचन के लिए लाइपेज का स्राव करता है?

(A) Stomach / आमाशय
(B) Liver / यकृत
(C) Pancreas / अग्न्याशय
(D) Esophagus / ग्रासनली

Q99. **Which statement about haemoglobin in humans is correct ?**

I. It acts as the respiratory pigment.
II. It is responsible for blood clotting.
मनुष्य में हीमोग्लोबिन के बारे में कौन-सा कथन सही है?

I. यह श्वसन वर्णक के रूप में कार्य करता है।
II. यह रक्त के थक्का जमने के लिए उत्तरदायी है।

(A) Only II / केवल II
(B) Neither I nor II / न तो I और न ही II
(C) Only I / केवल I
(D) Both I and II / I और II दोनों

Q100. **In ancient India, the summaries of conferences were referred to as:**
प्राचीन भारत में, सभाओं के सार-संक्षेप को क्या कहा जाता था?

(A) Agamas / आगम
(B) Vedas / वेद
(C) Upanishads / उपनिषद्
(D) Samhitas / संहिता

Answer Key – SSC CHSL Tier-1 12 November 2025, Shift 3

1	B	2	D	3	A	4	D	5	B
6	B	7	B	8	B	9	B	10	B
11	B	12	C	13	B	14	A	15	B
16	A	17	B	18	C	19	B	20	B
21	B	22	C	23	C	24	C	25	D
26	D	27	C	28	D	29	D	30	C
31	C	32	A	33	C	34	D	35	C
36	B	37	A	38	D	39	B	40	D
41	D	42	B	43	A	44	B	45	B
46	D	47	A	48	A	49	C	50	B
51	A	52	C	53	C	54	B	55	D
56	B	57	A	58	D	59	C	60	C
61	C	62	A	63	C	64	B	65	D
66	B	67	B	68	B	69	C	70	C
71	B	72	B	73	B	74	D	75	D
76	C	77	D	78	C	79	C	80	A
81	B	82	B	83	C	84	B	85	A
86	A	87	D	88	B	89	D	90	B
91	D	92	A	93	A	94	C	95	D
96	C	97	C	98	C	99	C	100	D

Why is an answer correct?
Scan for detailed solutions of all 100 questions in Hindi & English – free with login.

Keep practising with airGurukul

All SSC CHSL Tier-1 previous year papers – free PDFs, online tests and solved eBooks at **airgurukul.com/library/pyp/ssc-chsl-tier-1**.

Attempt this paper online – free
Full test and section-wise tests with timer, score and rank at airgurukul.com/test-series

Join airGurukul

Telegram Channel
t.me/airgurukulofficial

WhatsApp Channel
whatsapp.com/channel/0029VbBP7n00VycAFq6AGJ0l

YouTube Channel
youtube.com/@airGurukulSSCExams

Android App
play.google.com/...?id=in.airgurukul

airGurukul

airGurukul Institute for Career Growth · Prince Edutech Private Limited
Call +91-7042559948 · info@airgurukul.com · www.airgurukul.com