airGurukul

Preparing Bharat, Empowering Futures

SSC CHSL Tier-1 2025 Question Paper

13 November 2025, Shift 3 · with Answer Key

100 questions | 200 marks | 60 minutes | +2 / −0.5

Hindi + English

Attempt this paper online – free

Real exam timer, instant score, all-India rank and detailed solutions in Hindi & English.

Scan · airgurukul.com/test-series

Call +91-7042559948 · www.airgurukul.com

Telegram Channel
t.me/airgurukulofficial

WhatsApp Channel
whatsapp.com/channel/0029VbBP7n00VycAFq6AGJ0l

YouTube Channel
youtube.com/@airGurukulSSCExams

Android App
play.google.com/...?id=in.airgurukul

Instructions

1. Total 100 questions (English Language 25, General Intelligence 25, Quantitative Aptitude 25, General Awareness 25).
2. Each correct answer carries 2 marks; 0.5 mark is deducted for each wrong answer.
3. Answer key is given at the end. Detailed solutions: scan the QR code on the last page.

Section 1: English Language (Q1–25)

Q1. **Identify the part of the sentence that contains a grammatical error.**

A. The legal advise B. given by the C. lawyer was very D. helpful to us.

(A) The legal advise
(B) given by the
(C) lawyer was very
(D) helpful to us

Q2. **Fill in the blank with the most appropriate preposition:**

The quiet environment was conducive ___ deep concentration and effective study.

(A) for
(B) in
(C) to
(D) with

Q3. **Select the most appropriate synonym of the word: TIMELESS**

(A) Transhistorical
(B) Temporary
(C) Contemporary
(D) Momentary

Q4. **Choose the correctly spelt word:**

(A) Introvirseon
(B) Introverison
(C) Introversoin
(D) Introversion

Q5. **Which of the following sentences uses the word "minute" with the same meaning as in the following sentence?**

Please wait just one minute while I finish this tack

(A) He noticed a minute crack in the expensive glass vase.
(B) The meeting will start in exactly one minute from now.
(C) She spent hours studying the minute details of the painting.
(D) There were minute traces of gold found within the sand.

Q6. **Choose the incorrectly spelt word:**

(A) Blatant
(B) Blister
(C) Baffled
(D) Busynis

Directions (Qs. 7-11): Read the following passage carefully and answer the questions that follow.

The concept of urbanization has always been linked to economic growth and the modernization of society. Every industrial shift has triggered massive migrations that have redefined community life in history. From the Industrial Revolution to the rise of megacities, urban expansion has molded the way we reside, trade, and interact. But with our entry into an era of smart cities, high-density living, and digital infrastructure comes a growing contradiction: while these metropolises offer unmatched opportunities and amenities, they also strain traditional community bonds and erode the very

essence of connection with nature. Urban development, fundamentally, has provided access to resources much superior. Infrastructure improvements like mass transit and modern healthcare centers hold the potential to elevate lifestyles that were once considered unattainable. Cultural integration has made cities think collectively in ways that isolated regions could not have envisioned years ago, with diverse populations able to coexist across backgrounds with relative closeness. But the same urbanization has heavy repercussions. Gentrification is displacing residents from affordable housing, particularly where property values can be monetized. The pace of development has left many marginalized, and with it there is a feeling of alienation, anxiety about the environment. Furthermore, our reliance on dense urban systems is generating fundamental questions regarding sustainability, pollution, and mental well-being. As we embed concrete into every landscape, we must pause and ask ourselves: are we designing cities for people, or are people merely fueling the cities? The dilemma of urbanization, therefore, lies in its dual character. On one hand, the city stands as a beacon of economic hope for humanity's greatest aspirations, yet it also introduces ecological challenges that society must address to ensure development implies a more livable and balanced tomorrow.

Q7. **What is the main contradiction introduced in the passage regarding urbanization?**

(A) Urbanization creates wealth but destroys all forms of employment
(B) Urbanization leads to perfect equality among all citizens
(C) Urbanization offers opportunities and amenities but strains community bonds and nature
(D) Urbanization solves environmental issues but creates political instability

Q8. **According to the passage, what has been one of the beneficial outcomes of urban development?**

(A) It has reduced the need for mass transit systems
(B) Infrastructure improvements and healthcare centers have elevated lifestyles
(C) It has encouraged people to live in isolated regions
(D) Urban development has had no impact on cultural integration

Q9. **What negative repercussion of urbanization is mentioned in the passage?**

(A) It creates a surplus of affordable housing
(B) It leads to a feeling of alienation and anxiety about the environment
(C) It prevents diverse populations from coexisting
(D) It forces everyone to move back to rural areas

Q10. **What question does the passage raise about our relationship with city planning?**

(A) How can we build taller skyscrapers?
(B) Why are property values decreasing in cities?
(C) Are we designing cities for people, or are people merely fueling the cities?
(D) Should we abandon cities and return to nature?

Q11. **What does the passage suggest is essential to make development more livable and balanced?**

(A) Ignoring the ecological challenges
(B) Addressing the ecological challenges and new issues
(C) Stopping all new construction projects immediately
(D) Focusing solely on economic hope

Q12. **Select the correct meaning of the highlighted idiom.**

Practice and patience are part and parcel of learning a new language, as progress takes time and consistent effort.

(A) An unrelated extra item
(B) An essential part or feature
(C) An expected element of a situation
(D) A gift sent by post

Q13. **Select the most appropriate antonym of the word: Skeptical**

(A) Dubious
(B) Credulous
(C) Cynical
(D) Reserved

Q14. **Choose the correct one-word substitute for:**

The killing of one's own sister.

(A) Sororicide
(B) Fratricide
(C) Matricide
(D) Suicide

Q15. **Choose the correct one-word substitute for:**

A group of people travelling together, especially on a trade expedition.

(A) Outflow
(B) Exodus
(C) Caravan
(D) Sojourn

Q16. **Change the following sentence into the Active form.**

A detailed map is being drawn by the architect.

(A) The architect is drawing a detailed map.
(B) A detailed map drew the architect.
(C) The architect drew a detailed map.
(D) The architect has drawn a detailed map.

Q17. **Select the most appropriate antonym of the word: Expressible**

(A) Ineffable
(B) Relentless
(C) Unsparing
(D) Inflexible

Q18. **Select the option that expresses the given sentence in indirect voice. The captain said, "We will reach the summit by noon.'**

(A) The captain said that they would reach the summit by noon.
(B) The captain said that we would reach the summit by noon.
(C) The captain said that they will reach the summit by noon.
(D) The captain said that we will reach the summit by noon.

Q19. **Choose the most suitable option to replace the highlighted part of the sentence:**

Thirty miles have been the distance we drove to reach the beach house.

(A) Thirty miles are the distance
(B) Thirty miles is the distance
(C) Thirty mile is the distance
(D) Thirty miles are the distance covered

Q20. **Choose the most suitable option to replace the highlighted part of the sentence:**

Versatility being the trend of the season, she altered the jacket to suit formal events even though it have originally stitched for casual one.

(A) it has originally have been stitched for casual one
(B) it has originally been stitched for casual ones
(C) it has originally was stitched for casual ones
(D) it has originally has been stitched to casual one

Q21. **Choose the correct active voice transformation of the sentence:**

The diligent student's final thesis will have been submitted by the end of the semester.

(A) The diligent student will have been submitting his final thesis by the end of the semester.
(B) The diligent student will submit his final thesis by the end of the semester.
(C) The diligent student will have submitted his final thesis by the end of the semester.
(D) The diligent student has submitted his final thesis by the end of the semester.

Q22. **Choose the correct passive voice transformation of the sentence: The manager should have warned the staff about the changes in the schedule.**

(A) The staff should being warned about the changes in the schedule by the manager.
(B) The staff should have been warned about the changes in the schedule by the manager.
(C) The staff should have been warning about the changes in the schedule by the manager.
(D) The staff should have warned about the changes in the schedule by the manager.

Q23. **Select the option that expresses the given sentence in direct voice. The director told the staff that their creative input and loyalty had been seen and admired.**

(A) The director said, "Your creative input and loyalty had been seen and admired."
(B) The director said, "Your creative input and loyalty have been seen and admired."
(C) The director told the staff, 'Their creative input and loyalty had been seen and admired.'
(D) The director said, "Their creative input and loyalty were seen and admired."

Q24. **Select the option that expresses the given sentence in direct voice. She asked him if he would have been able to solve the puzzle that day if she had not given him the clue, which had been a very subtle hint.**

(A) "Would you have been able to solve the puzzle today if I had not given you the clue, which was a very subtle hint?' she asked him.
(B) "Will you have been able to solve the puzzle today if I did not give you the clue, which was a very subtle hint?" she asked him.
(C) "Would you have been able to solve the puzzle that day if I had not given you the clue, which was a very subtle hint?' she asked him.
(D) "Could you solve the puzzle today if I had not given you the clue, which was a very subtle hint?" she asked him.

Q25. **Rearrange the following sentence parts to form a meaningful and grammatically correct paragraph:**

P. He selected a sunny spot and dug a deep hole in the nutrient-rich soil.
Q. The young tree stood tall and upright, ready to grow in the garden.
R. He carefully positioned the plant and filled the empty space with loose earth.
S. Before placing the sapling inside, he mixed some organic compost into the base.

(A) S, P, R, Q
(B) P, S, R, Q
(C) Q, S, R, P
(D) R, S, P, Q

Section 2: General Intelligence (Q26–50)

Q26. **Each item describes a situation and is followed by four possible responses. Indicate the response you find most appropriate. Choose only one response for each item. The responses will be evaluated based on the level of appropriateness for the given situation. Rohit runs a small manufacturing business that is struggling due to rising costs. A large company offers to partner with him but wants decision-making power in key areas. Rohit values independence but wants the business to survive. What is the most appropriate decision?**

प्रत्येक प्रश्न में एक परिस्थिति दी गई है और उसके बाद चार संभावित प्रतिक्रियाएँ दी गई हैं। आप जो प्रतिक्रिया सर्वाधिक उपयुक्त समझते हैं, उसे बताइए। प्रत्येक प्रश्न के लिए केवल एक ही प्रतिक्रिया चुनिए। प्रतिक्रियाओं का मूल्यांकन दी गई परिस्थिति के लिए उनकी उपयुक्तता के स्तर के आधार पर किया जाएगा। रोहित एक छोटा विनिर्माण व्यवसाय चलाता है, जो बढ़ती लागतों के कारण संकट में है। एक बड़ी कंपनी उसके साथ साझेदारी करने का प्रस्ताव देती है, किंतु प्रमुख क्षेत्रों में निर्णय लेने का अधिकार चाहती है। रोहित स्वतंत्रता को महत्व देता है, परंतु चाहता है कि उसका व्यवसाय बना रहे। सबसे उपयुक्त निर्णय क्या है?

(A) Reject the offer and continue alone despite losses / प्रस्ताव अस्वीकार कर दें और घाटे के बावजूद अकेले ही चलते रहें
(B) Accept all terms without discussion / बिना किसी चर्चा के सभी शर्तें स्वीकार कर लें
(C) Negotiate terms to share control while protecting core interests / नियंत्रण साझा करने के लिए शर्तों पर बातचीत करें और अपने मूल हितों की रक्षा करें
(D) Shut down the business immediately / व्यवसाय तुरंत बंद कर दें

Q27. **A colleague often asks you to cover their work but rarely returns the favor, which starts affecting your own deadlines. What is the most appropriate response?**

एक सहकर्मी प्रायः आपसे अपना कार्य संभालने के लिए कहता है, किंतु बदले में शायद ही कभी सहायता करता है, जिससे आपकी अपनी समय-सीमाएँ प्रभावित होने लगती हैं। सबसे उपयुक्त प्रतिक्रिया क्या है?

(A) Complain about them openly in front of others / दूसरों के सामने खुलेआम उसकी शिकायत करें
(B) Refuse all help and avoid interaction / हर प्रकार की सहायता से इनकार कर दें और बातचीत से बचें
(C) Communicate boundaries clearly and discuss fair sharing of responsibilities / सीमाएँ स्पष्ट रूप से बताएँ और उत्तरदायित्वों के उचित बँटवारे पर चर्चा करें
(D) Continue helping silently to maintain peace / शांति बनाए रखने के लिए चुपचाप सहायता करते रहें

Q28. **There are 40 cars parked in a row. Car A is 10th from the left side and Car B is 15 th from the right side. Find the number of cars between A and B .**

एक पंक्ति में 40 कारें खड़ी हैं। कार A बाईं ओर से 10वीं है और कार B दाईं ओर से 15वीं है। A और B के बीच कारों की संख्या ज्ञात कीजिए।

(A) 10
(B) 15
(C) 12
(D) 14

Q29. **In each question below is given a statement followed by two courses of action numbered I and II. You have to assume everything in the statement to be true and on the basis of the information given in the statement, decide which of the suggested courses of action logically follow(s) for pursuing.**

Statement: A large number of road accidents are being reported due to overspeeding in the city.
Course of action I: Ban all vehicles in the city immediately.
Course of action II: Implement stricter traffic rules and run awareness campaigns for drivers.

नीचे दिए गए प्रत्येक प्रश्न में एक कथन दिया गया है, जिसके बाद I और II क्रमांकित दो कार्यवाहियाँ दी गई हैं। आपको कथन में दी गई प्रत्येक बात को सत्य मानना है और कथन में दी गई जानकारी के आधार पर यह निर्णय करना है कि सुझाई गई कार्यवाहियों में से कौन-सी कार्यवाही करने योग्य रूप से तार्किक रूप से अनुसरण करती है।

कथन: शहर में तेज़ गति से वाहन चलाने के कारण बड़ी संख्या में सड़क दुर्घटनाएँ होने की सूचना मिल रही है।
कार्यवाही I: शहर में सभी वाहनों पर तुरंत प्रतिबंध लगा दिया जाए।
कार्यवाही II: कड़े यातायात नियम लागू किए जाएँ और चालकों के लिए जागरूकता अभियान चलाए जाएँ।

(A) Only I follows / केवल I अनुसरण करती है
(B) Only II follows / केवल II अनुसरण करती है
(C) Both follow / दोनों अनुसरण करती हैं
(D) Either I or II follows / या तो I या II अनुसरण करती है

Q30. **Few of the letters are given followed by a question mark (?) these letters are following a specific pattern you have to give the correct option which can replace question mark.**

What will complete the following:
F, I, L, O, ?

कुछ अक्षर दिए गए हैं जिनके बाद एक प्रश्नवाचक चिह्न (?) है; ये अक्षर एक विशिष्ट पैटर्न का अनुसरण कर रहे हैं। आपको वह सही विकल्प बताना है जो प्रश्नवाचक चिह्न के स्थान पर आ सकता है।

निम्नलिखित को कौन पूरा करेगा:
F, I, L, O, ?

(A) T
(B) N
(C) Q
(D) R

Q31. **In this question some conditions or circumstances is provided to you, you have to make logical judgement according to mentioned circumstances and mark the correct judgement for question.**

A town is facing frequent water shortages. To address this, the local authorities must act quickly in the public's interest. Which step is the most reasonable first?

इस प्रश्न में आपको कुछ शर्तें अथवा परिस्थितियाँ दी गई हैं; आपको उल्लिखित परिस्थितियों के अनुसार तार्किक निर्णय करना है और प्रश्न के लिए सही निर्णय चिह्नित करना है।

एक कस्बा बार-बार जल की कमी का सामना कर रहा है। इसका समाधान करने के लिए स्थानीय प्रशासन को जनहित में शीघ्र कार्रवाई करनी है। सबसे उचित पहला कदम कौन-सा है?

(A) Organize a street festival / एक सड़क उत्सव का आयोजन करें
(B) Implement water conservation measures and repair pipelines / जल संरक्षण के उपाय लागू करें और पाइपलाइनों की मरम्मत करें
(C) Plant decorative trees on streets / सड़कों पर सजावटी पेड़ लगाएँ
(D) Open new shopping centers / नए शॉपिंग सेंटर खोलें

Q32. **Four meaningful words are given in the options. You have to check which of the following words cannot be formed from the letters of "INSPIRATION".**

विकल्पों में चार अर्थपूर्ण शब्द दिए गए हैं। आपको जाँचना है कि निम्नलिखित में से कौन-सा शब्द "INSPIRATION" के अक्षरों से नहीं बनाया जा सकता।

(A) STAR
(B) PAIN
(C) RAIN
(D) PIPE

Q33. **A mirror is placed on the line AB. Out of the option figures, which figure will be the right image of the question figure?**

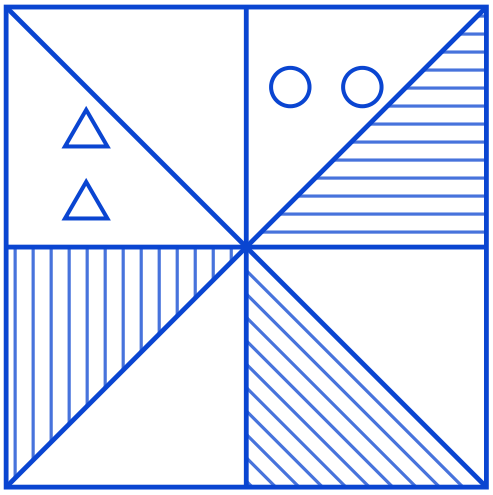



रेखा AB पर एक दर्पण रखा गया है। दी गई विकल्प आकृतियों में से कौन-सी आकृति प्रश्न आकृति का सही प्रतिबिंब होगी?

(A)

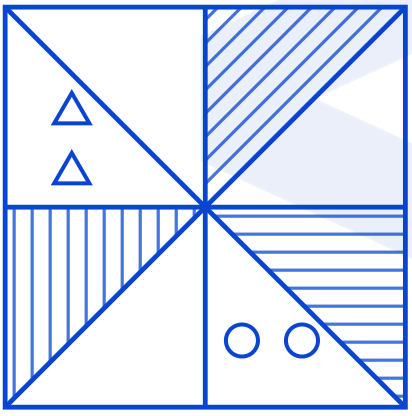

(B)



(C)

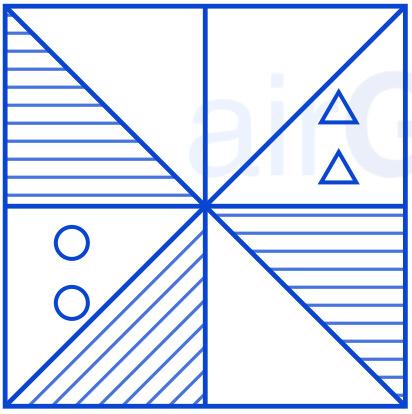

(D)

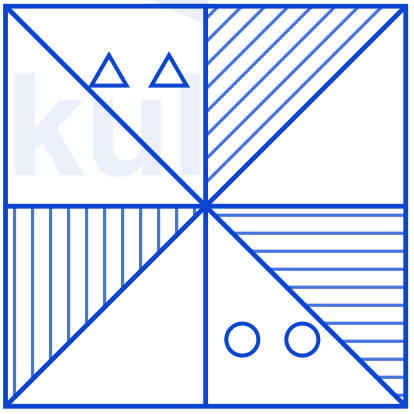

Q34. In this type of questions, question is provided with some issues/ disputes/problem, followed by few methods to resolve the problem in statement choosing the appropriate problem solving method that can be implemented.

A school principal has a limited budget for improving facilities. Students and staff request improvements in all areas. What is the logical first step?

इस प्रकार के प्रश्नों में कोई मुद्दा/विवाद/समस्या दी जाती है, जिसके बाद कथन में उस समस्या को हल करने की कुछ विधियाँ दी जाती हैं; आपको वह उपयुक्त समस्या-समाधान विधि चुननी है जिसे लागू किया जा सके।

एक विद्यालय के प्रधानाचार्य के पास सुविधाओं में सुधार के लिए सीमित बजट है। विद्यार्थी और कर्मचारी सभी क्षेत्रों में सुधार की माँग करते हैं। तार्किक पहला कदम क्या है?

(A) Spend all the money on the principal's favorite classroom / सारा धन प्रधानाचार्य की पसंदीदा कक्षा पर व्यय कर दें

(B) Postpone the decision indefinitely / निर्णय अनिश्चित काल के लिए टाल दें

(C) Allocate funds equally to all areas regardless of need / आवश्यकता की परवाह किए बिना सभी क्षेत्रों को समान रूप से धन आवंटित करें

(D) Conduct a survey to identify priority areas and allocate based on importance / प्राथमिकता वाले क्षेत्रों की पहचान के लिए सर्वेक्षण कराएँ और महत्व के आधार पर धन आवंटित करें

Q35. In this type of questions, question is provided with some issues/ disputes/problem, followed by few methods to resolve the problem in statement choosing the appropriate problem solving method that can be implemented.

A university library receives many repeated requests for information about opening hours and book availability. The most efficient solution is:

इस प्रकार के प्रश्नों में कोई मुद्दा/विवाद/समस्या दी जाती है, जिसके बाद कथन में उस समस्या को हल करने की कुछ विधियाँ दी जाती हैं; आपको वह उपयुक्त समस्या-समाधान विधि चुननी है जिसे लागू किया जा सके।

एक विश्वविद्यालय के पुस्तकालय में खुलने के समय और पुस्तकों की उपलब्धता के विषय में बार-बार वही पूछताछ आती रहती है। सबसे कुशल समाधान है:

(A) Close the library / पुस्तकालय बंद कर दें

(B) Ignore the repeated requests / बार-बार की जाने वाली पूछताछ की उपेक्षा करें

(C) Penalize students asking repeatedly / बार-बार पूछने वाले विद्यार्थियों को दंडित करें

(D) Introduce a FAQ page and an automated information system / एक FAQ पृष्ठ और स्वचालित सूचना प्रणाली आरंभ करें

Q36. **In each of the following questions, there is a certain relationship between two given letter pairs on one side of (::) and pair is given on another side of (::) where another pair is to be found from the given alternatives, having the same relationship with this pair as the pairs of the given pair bear. Choose the best alternative.**

AD : EH :: JM : ?

निम्नलिखित प्रत्येक प्रश्न में, (::) के एक ओर दिए गए दो अक्षर-युग्मों के बीच एक निश्चित संबंध है तथा (::) की दूसरी ओर एक युग्म दिया गया है, जिसके लिए दिए गए विकल्पों में से ऐसा युग्म ज्ञात करना है जिसका इस युग्म के साथ वही संबंध हो जो दिए गए युग्मों के बीच है। सर्वोत्तम विकल्प चुनिए।

AD : EH :: JM : ?

(A) NO
(B) NQ
(C) QN
(D) NL

Q37. **Find the next element that replaces the ? Logically.**

620, 891, 1222, 1619, ?

वह अगला पद ज्ञात कीजिए जो ? के स्थान पर तार्किक रूप से आएगा।

620, 891, 1222, 1619, ?

(A) 2104
(B) 2095
(C) 2081
(D) 2088

Q38. **In three of the following pairs are same by same pattern except one pair. Which pair does not follow this pattern?**

निम्नलिखित में से तीन युग्म एक ही पैटर्न पर आधारित हैं, केवल एक युग्म को छोड़कर। कौन-सा युग्म इस पैटर्न का अनुसरण नहीं करता?

(A) 49, 64
(B) 15,22
(C) 121, 144
(D) 36, 49

Q39. **In this type of questions, question is provided with substitutes for various mathematical symbols, followed by a question involving calculation of an expression or choosing the correct/ incorrect equation. You have to put the real signs in the given equation and then solve the questions as required.**

If '$' stands for '+', '!' stands for ' $\times$ ', '*' stands for ' $\div$ ', '#' stands for '-', then find the value of: $14*28\$8\#24 =$ **?**

इस प्रकार के प्रश्नों में विभिन्न गणितीय चिह्नों के स्थान पर प्रतीक दिए जाते हैं, जिसके बाद एक प्रश्न दिया जाता है जिसमें किसी व्यंजक का मान ज्ञात करना अथवा सही/गलत समीकरण चुनना होता है। आपको दिए गए समीकरण में वास्तविक चिह्न रखकर आवश्यकतानुसार प्रश्न हल करना है।

यदि '$' का अर्थ '+' है, '!' का अर्थ ' $\times$ ' है, '*' का अर्थ ' $\div$ ' है, '#' का अर्थ '-' है, तो निम्नलिखित का मान ज्ञात कीजिए: $14*28\$8\#24 =$?

(A) $\frac{-41}{2}$
(B) $\frac{-31}{2}$
(C) $\frac{-21}{2}$
(D) $\frac{-51}{2}$

Q40. **A piece of paper is folded and punched as shown below in the question figures. From the given option figures, indicate how it will appear when opened.**

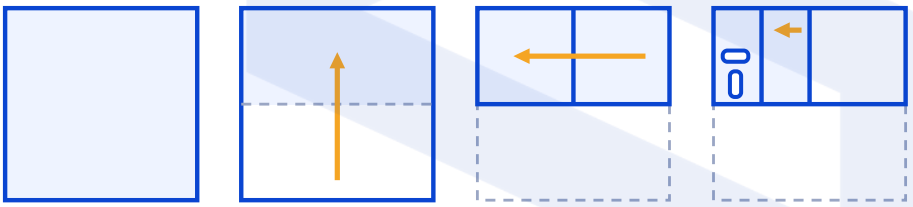

Question figures: folded three times, then punched

(a) **(b)** **(c)** **(d)**

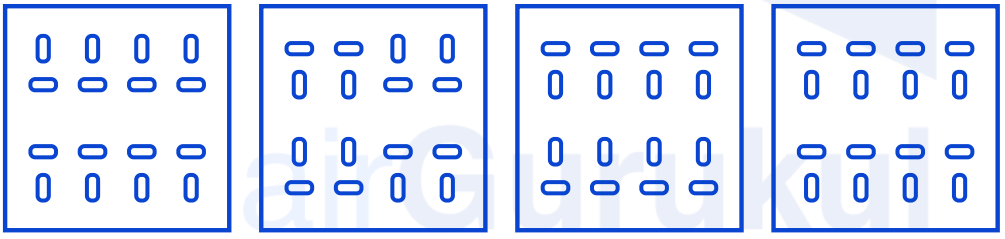

कागज़ के एक टुकड़े को नीचे प्रश्न आकृतियों में दर्शाए अनुसार मोड़ा और छेदा गया है। दी गई विकल्प आकृतियों में से बताइए कि खोलने पर वह कैसा दिखाई देगा।

(A) (a)
(B) (b)
(C) (c)
(D) (d)

Q41. Select the option figure which is embedded in the given figure (rotation is NOT allowed).

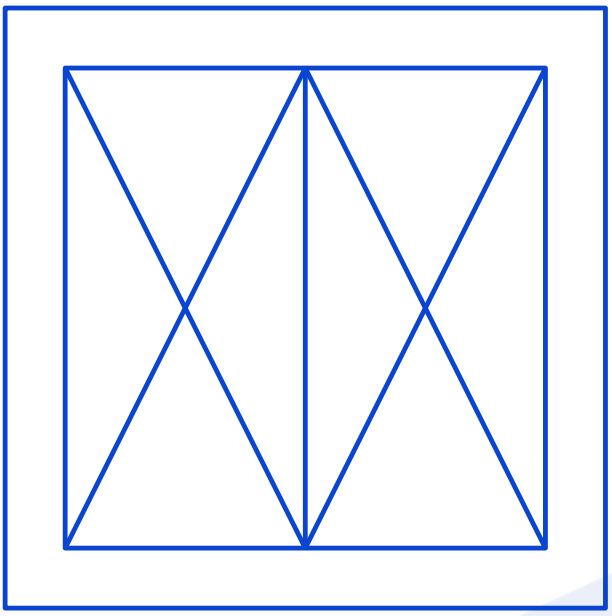

उस विकल्प आकृति का चयन कीजिए जो दी गई आकृति में सन्निहित (embedded) है (घुमाने की अनुमति नहीं है)।

A

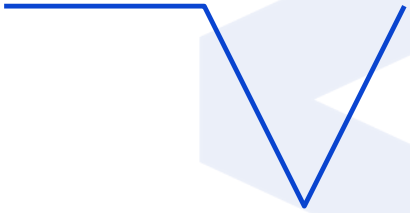

B



C

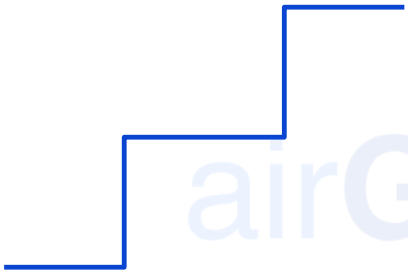

D



Q42. **In the following question, select the number which can be placed at the sign of question mark (?) from the given alternatives.**

8	**6**	**4**	**36**
9	**8**	**5**	**44**
?	**6**	**7**	**32**

निम्नलिखित प्रश्न में, दिए गए विकल्पों में से उस संख्या का चयन कीजिए जिसे प्रश्नवाचक चिह्न (?) के स्थान पर रखा जा सकता है।

8	6	4	36
9	8	5	44
?	6	7	32

(A) 1
(B) 3
(C) 4
(D) 2

Q43. **How many triangles are there in the given figure?**

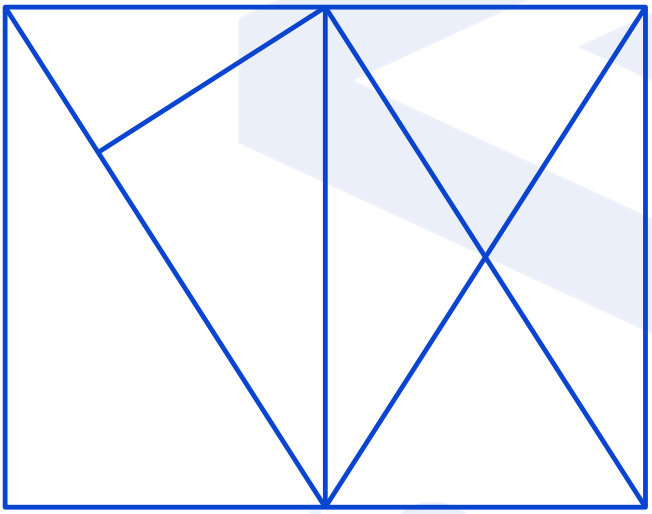

दी गई आकृति में कितने त्रिभुज हैं?

(A) 13
(B) 14
(C) 10
(D) 16

Q44. **In the figure given below the rectangle represents socks, the triangle represents watches and the circle represents caps. The number in each area represents the number of items in that area.**

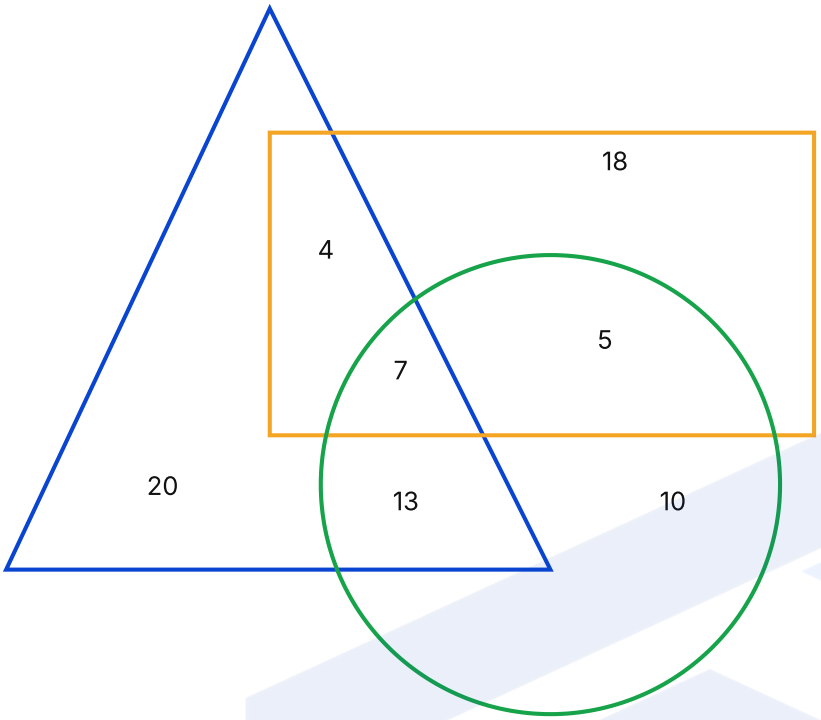

How many caps are socks ?

नीचे दी गई आकृति में आयत मोज़ों को, त्रिभुज घड़ियों को तथा वृत्त टोपियों को दर्शाता है। प्रत्येक क्षेत्र में लिखी संख्या उस क्षेत्र की वस्तुओं की संख्या दर्शाती है।

कितनी टोपियाँ मोज़े हैं?

(A) 13
(B) 5
(C) 7
(D) 10

Q45. **Identify the diagram that best represents the relationship among the given classes.**

Colour, Red, Yellow

उस आरेख की पहचान कीजिए जो दिए गए वर्गों के बीच के संबंध को सर्वोत्तम रूप से दर्शाता है।

रंग, लाल, पीला

(A)

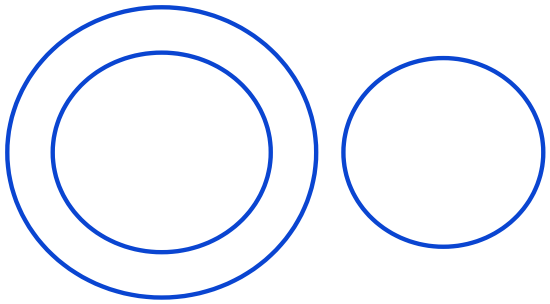

(B)

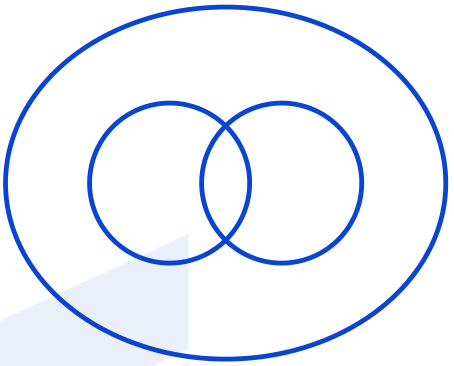

(C)

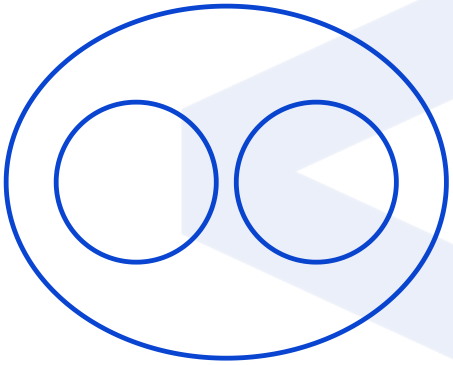

(D)



Q46. **Select the option that represents the correct order of the given words as they would appear in an English dictionary.**

1.Creation
2. Creative 3. Creature
4. Credit
5. Crisis

उस विकल्प का चयन कीजिए जो दिए गए शब्दों का वह सही क्रम दर्शाता है जिसमें वे अंग्रेज़ी शब्दकोश में आएँगे।

1.Creation
2. Creative 3. Creature
4. Credit
5. Crisis

(A) 1, 2, 3, 4, 5
(B) 1, 3, 2, 4, 5
(C) 2, 1, 3, 5, 4
(D) 1, 2, 4, 3, 5

Q47. **Which option figure will complete the pattern in the question figure?**

(Rotation is not allowed)

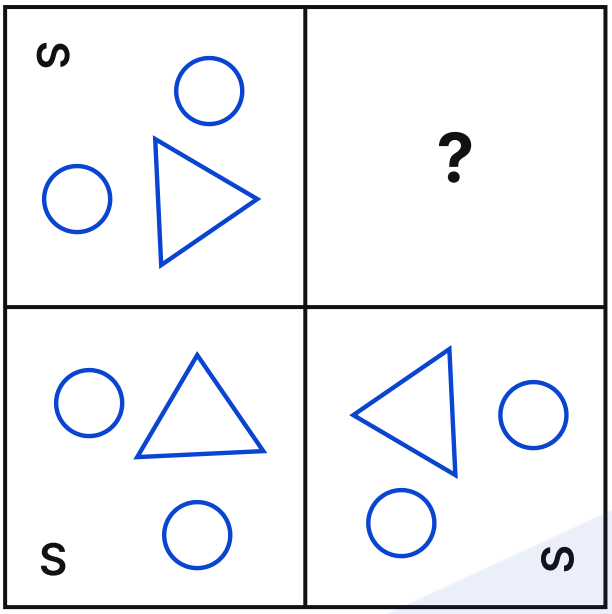

कौन-सी विकल्प आकृति प्रश्न आकृति के पैटर्न को पूरा करेगी?

(घुमाने की अनुमति नहीं है)

A

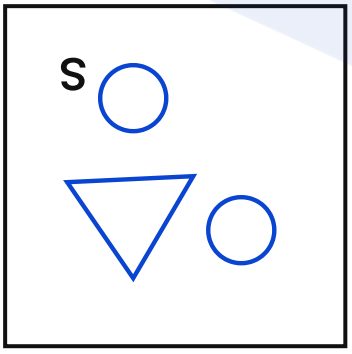

B

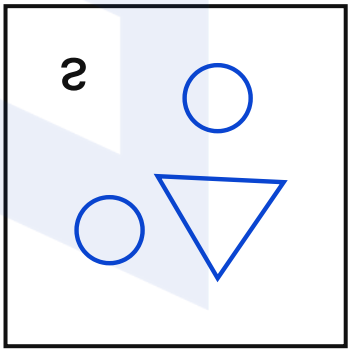

C

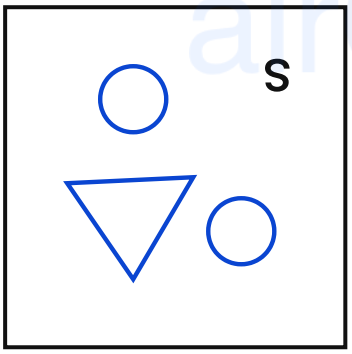

D

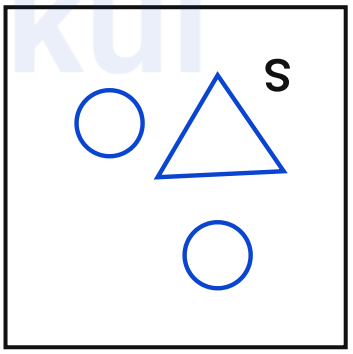

Q48. **In the following question, in each option a pair of figures is given. In each pair the figure towards the left of (:) is related by some logic/rule/relation with the figure on the right of (:). Select the odd figure pair from the given alternatives.**

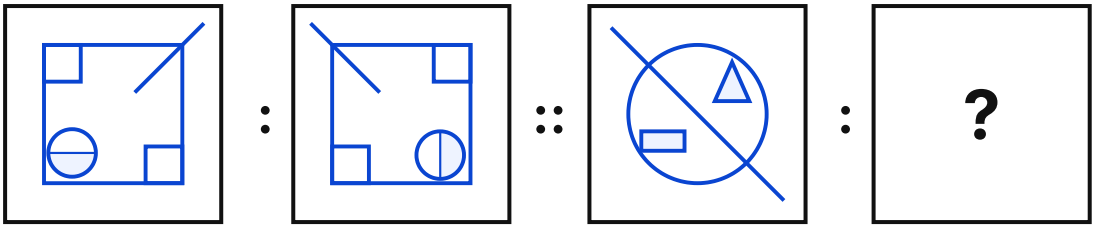

निम्नलिखित प्रश्न में, प्रत्येक विकल्प में आकृतियों का एक युग्म दिया गया है। प्रत्येक युग्म में (:) के बाईं ओर की आकृति, (:) के दाईं ओर की आकृति से किसी तर्क/नियम/संबंध द्वारा संबंधित है। दिए गए विकल्पों में से विषम आकृति-युग्म का चयन कीजिए।

A

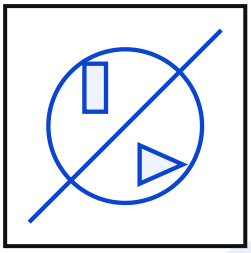

B

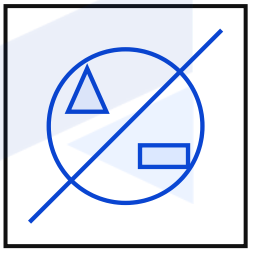

C

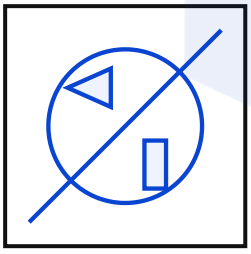

D

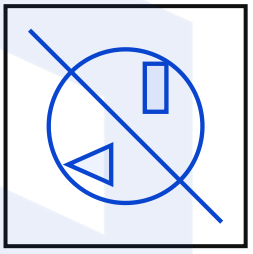

Q49. **In the following figure series, select the figure which can be placed at the sign of question mark (?) from the given alternatives.**

निम्नलिखित आकृति श्रृंखला में, दिए गए विकल्पों में से उस आकृति का चयन कीजिए जिसे प्रश्नवाचक चिह्न (?) के स्थान पर रखा जा सकता है।

(A)

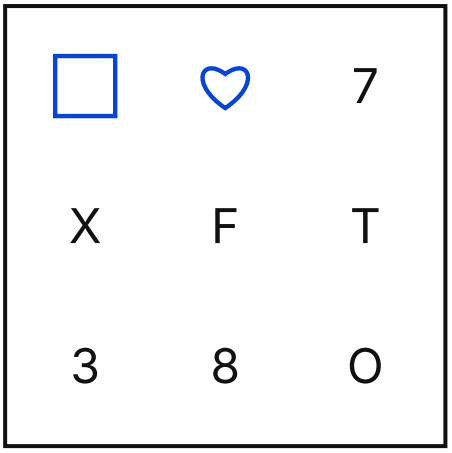

(B)

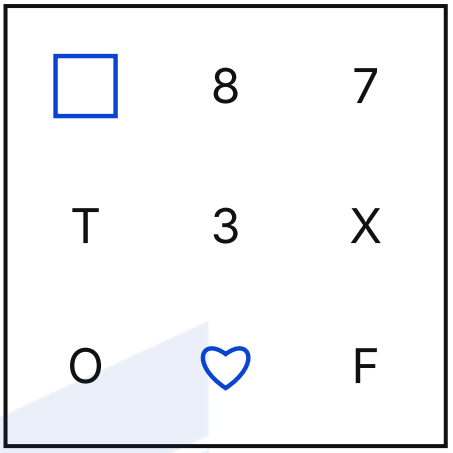

(C)

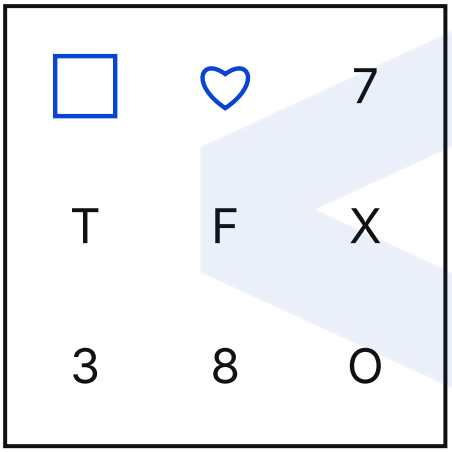

(D)

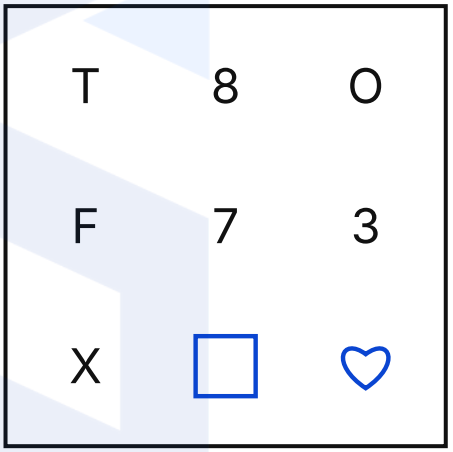

Q50. **In a certain coded language 'KBQU' is coded as 'HYNR' and 'RPFY' is coded as 'OMCV'. How will 'NTIH' be coded in the same code language?**

एक निश्चित कूट भाषा में 'KBQU' को 'HYNR' के रूप में तथा 'RPFY' को 'OMCV' के रूप में कूटबद्ध किया जाता है। उसी कूट भाषा में 'NTIH' को किस प्रकार कूटबद्ध किया जाएगा?

(A) KFEQ
(B) KEQF
(C) KFQE
(D) KQFE

Want to clear SSC CHSL Tier-1?

Prepare with **Samyān (सम्यान) 1.0 – SSC Foundation Course** – structured classes, practice and doubt support for SSC CHSL Tier-1.

Every PYP as an online test
Shift-wise papers with timer, score and rank.

Detailed solutions
Step-by-step answers in Hindi and English.

Free live classes
Daily classes on our YouTube channel airGurukul SSC Exams.

Exam updates
Notifications, admit cards and results on WhatsApp.

See the course

Attempt this paper online

Detailed solutions

Free classes & exam updates

Telegram Channel
t.me/airgurukulofficial

WhatsApp Channel
whatsapp.com/channel/0029VbBP7n00VycAFq6AGJ0I

YouTube Channel
youtube.com/@airGurukulSSCExams

Android App
play.google.com/...?id=in.airgurukul

Call / WhatsApp **+91-7042559948** · www.airgurukul.com

Section 3: Quantitative Aptitude (Q51–75)

Q51. **A bicycle is sold for ₹2000 at a loss of 20%. At what price should it be sold to gain 10% ?**

एक साइकिल ₹2000 में 20% की हानि पर बेची जाती है। 10% का लाभ प्राप्त करने के लिए इसे किस मूल्य पर बेचा जाना चाहिए?

(A) ₹2450
(B) ₹2150
(C) ₹2350
(D) ₹2750

Q52. **P, Q, and R started a business. P contributed Rs. 10,000, Q contributed Rs. 12,000 , and R contributed Rs. 16,000 . After 6 months, Q withdrew Rs. 4,000, while R added Rs. 8,000. If the total profit at the end of the year is Rs. 8,4000 how much did R receive?**

P, Q और R ने एक व्यवसाय आरंभ किया। P ने Rs. 10,000, Q ने Rs. 12,000 तथा R ने Rs. 16,000 का निवेश किया। 6 महीने बाद Q ने Rs. 4,000 निकाल लिए, जबकि R ने Rs. 8,000 और जोड़ दिए। यदि वर्ष के अंत में कुल लाभ Rs. 8,4000 है, तो R को कितना प्राप्त हुआ?

(A) ₹36,000
(B) ₹24,000
(C) ₹42,000
(D) ₹48,000

Q53. **Simplify the expression:** $\mathrm{cosec}x\cos x + \sec x\sin x$.

व्यंजक को सरल कीजिए: $\mathrm{cosec}x\cos x + \sec x\sin x$।

(A) -1
(B) $\tan x\sin x$
(C) $2\sin x$
(D) $\cot x + \tan x$

Q54. **If the ratio of shoes to socks is 5 : 3 and there are 50 shoes, how many socks are there?**

यदि जूतों और मोज़ों का अनुपात 5 : 3 है और जूते 50 हैं, तो मोज़े कितने हैं?

(A) 30
(B) 40
(C) 20
(D) 10

Q55. **The compound interest on ₹6,000 for 1 year 6 months at 20% p.a., compounded yearly, is:**

₹6,000 पर 1 वर्ष 6 महीने के लिए 20% वार्षिक दर से, वार्षिक रूप से संयोजित चक्रवृद्धि ब्याज कितना होगा?

(A) ₹1920
(B) ₹2120
(C) ₹2,540
(D) ₹2,000

Q56. **A man deposits ₹2,50,000 at a CI rate of 20% p.a. After the first year's interest is credited, he withdraws 40% of the interest earned. What is his account balance at the end of the second year?**

एक व्यक्ति ₹2,50,000 की राशि 20% वार्षिक चक्रवृद्धि ब्याज दर पर जमा करता है। पहले वर्ष का ब्याज जमा हो जाने के बाद वह अर्जित ब्याज का 40% निकाल लेता है। दूसरे वर्ष के अंत में उसके खाते में कितनी राशि होगी?

(A) ₹2,80,000
(B) ₹2,36,000
(C) ₹3,36,000
(D) ₹2,50,000

Q57. **The ratio of two numbers is $5:3$ and their LCM is 180 . What is the sum of the two numbers?**

दो संख्याओं का अनुपात $5:3$ है और उनका ल.स. 180 है। दोनों संख्याओं का योग क्या है?

(A) 96
(B) 90
(C) 75
(D) 80

Q58. **The average age of 25 students is 16 years. A group of 5 new students joins, increasing the average to 18 years. Find the average age of the 5 new students.**

25 विद्यार्थियों की औसत आयु 16 वर्ष है। 5 नए विद्यार्थियों का एक समूह इसमें सम्मिलित हो जाता है, जिससे औसत बढ़कर 18 वर्ष हो जाता है। 5 नए विद्यार्थियों की औसत आयु ज्ञात कीजिए।

(A) 30
(B) 32
(C) 28
(D) 34

Q59. **Which of the following is the least?**

निम्नलिखित में से सबसे कम कौन-सा है?

(A) 16% of 350 / 350 का 16%
(B) 25% of 400 / 400 का 25%
(C) 28% of 300 / 300 का 28%
(D) 30% of 340 / 340 का 30%

Q60. **Rohan goes to shop at a speed of $7\text{km} / h$ and returns home at $5\text{km} / h$. If the total time taken is 6 hours, what is the distance between his home and shop?**

रोहन $7\text{km} / h$ की चाल से दुकान जाता है और $5\text{km} / h$ की चाल से घर लौटता है। यदि कुल लिया गया समय 6 घंटे है, तो उसके घर और दुकान के बीच की दूरी कितनी है?

(A) 12.75 km
(B) 13.25 km
(C) 17.5 km
(D) 14.25 km

Q61. **P, Q, R together finish a job in 16 days. P and Q together take 24 days, while Q and R together take 32 days. In how many days can R alone finish the job?**

P, Q, R मिलकर एक कार्य को 16 दिनों में पूरा करते हैं। P और Q मिलकर 24 दिन लेते हैं, जबकि Q और R मिलकर 32 दिन लेते हैं। R अकेला उस कार्य को कितने दिनों में पूरा कर सकता है?

(A) 36 days / 36 दिन
(B) 40 days / 40 दिन
(C) 48 days / 48 दिन
(D) 60 days / 60 दिन

Q62. **In a sale, a shopkeeper offers a 10% discount on clothes if you buy more than two items. Priyanka buys three pants for ₹2700. If the shopkeeper still makes a 25% profit, find the profit the shopkeeper would make if he had sold the pants at full price.**

एक सेल में, एक दुकानदार कपड़ों पर 10% की छूट देता है, यदि आप दो से अधिक वस्तुएँ खरीदते हैं। प्रियंका तीन पैंट ₹2700 में खरीदती है। यदि दुकानदार फिर भी 25% लाभ कमाता है, तो वह लाभ ज्ञात कीजिए जो दुकानदार को तब होता, यदि उसने पैंट पूरे मूल्य पर बेची होतीं।

(A) ₹640
(B) ₹840
(C) ₹700
(D) ₹600

Q63. **At simple interest, a certain amount of money triples in four years. What is the interest rate?**

साधारण ब्याज पर कोई धनराशि चार वर्षों में तीन गुनी हो जाती है। ब्याज की दर क्या है?

(A) 40%
(B) 35%
(C) 20%
(D) 50%

Q64. **The length of a cuboid is six times of its breadth and the height of a cuboid is four times of its breadth. If the breadth of the cuboid is 3 cm , then what is the total surface area of the cuboid ?**

एक घनाभ की लंबाई उसकी चौड़ाई की छह गुनी है तथा घनाभ की ऊँचाई उसकी चौड़ाई की चार गुनी है। यदि घनाभ की चौड़ाई 3 cm है, तो घनाभ का कुल पृष्ठीय क्षेत्रफल क्या है?

(A) 484cm^2
(B) 612cm^2
(C) 576cm^2
(D) 676cm^2

Q65. **What is the value of the expression**

$\sqrt{(1236)^2 + 1236 + 1237} = ?$

निम्नलिखित व्यंजक का मान क्या है?

$\sqrt{(1236)^2 + 1236 + 1237} = ?$

(A) 1235
(B) 1236
(C) 1237
(D) 1234

Q66. **A container can hold 60 liters of juice. First, 6 liters of juice are removed and the same amount of water is poured in to refill the container. The mixture is then thoroughly stirred. This entire process of removing 6 liters of juice and replacing it with water is carried out once again.**

After these two successive operations, how many liters of pure juice remain in the container?

एक पात्र में 60 लीटर जूस आ सकता है। पहले 6 लीटर जूस निकाला जाता है और पात्र को पुनः भरने के लिए उतनी ही मात्रा में पानी डाल दिया जाता है। इसके बाद मिश्रण को अच्छी तरह मिलाया जाता है। 6 लीटर जूस निकालने और उसके स्थान पर पानी डालने की यह पूरी प्रक्रिया एक बार और की जाती है।

इन दो क्रमिक प्रक्रियाओं के बाद पात्र में कितने लीटर शुद्ध जूस शेष रहता है?

(A) 45 liters / 45 लीटर
(B) 42 liters / 42 लीटर
(C) 48.6 liters / 48.6 लीटर
(D) 40.5 liters / 40.5 लीटर

Q67. **The perimeter of a rectangle is equal to the perimeter of a square. If the length and the breadth of the rectangle are 10 cm and 8 cm , respectively, then what will be the area of the square?**

एक आयत का परिमाप एक वर्ग के परिमाप के बराबर है। यदि आयत की लंबाई और चौड़ाई क्रमशः 10 cm और 8 cm हैं, तो वर्ग का क्षेत्रफल क्या होगा?

(A) 72cm^2
(B) 98cm^2
(C) 81cm^2
(D) 64cm^2

Q68. **A bus travels at a constant speed. It covers $\frac{3}{7}$ of a journey in 6 hours. How long will it take to cover the remaining journey?**

एक बस नियत चाल से चलती है। वह किसी यात्रा का $\frac{3}{7}$ भाग 6 घंटों में तय करती है। शेष यात्रा तय करने में उसे कितना समय लगेगा?

(A) 12 hours / 12 घंटे
(B) 8 hours / 8 घंटे
(C) 15 hours / 15 घंटे
(D) 10 hours / 10 घंटे

Q69. **In $\triangle ABC$, the coordinates of the vertices are $A(2,6)$, $B(3,3)$, and $C(4,9)$. Find the coordinates of the centroid.**

$\triangle ABC$ में शीर्षों के निर्देशांक $A(2,6)$, $B(3,3)$ तथा $C(4,9)$ हैं। केंद्रक के निर्देशांक ज्ञात कीजिए।

(A) $(7,3)$
(B) $(3,7)$
(C) $(6,3)$
(D) $(3,6)$

Q70. **Two similar triangles have areas in the ratio of $36:64$. What is the ratio of their corresponding perimeters?**

दो समरूप त्रिभुजों के क्षेत्रफलों का अनुपात $36:64$ है। उनके संगत परिमापों का अनुपात क्या है?

(A) 6 : 8
(B) 36 : 64
(C) 7 : 11
(D) 3 : 7

Q71. **What is the slope of the line that passes through the points $(3,2)$ and (5, 12) ?**

उन बिंदुओं $(3,2)$ और (5, 12) से होकर जाने वाली रेखा की ढाल क्या है?

(A) 4
(B) $\frac{3}{4}$
(C) $\frac{3}{5}$
(D) 5

Q72. **Solve:**

$$\frac{y}{(y+1)}+\frac{1}{y}=4.$$

हल कीजिए:

$$\frac{y}{(y+1)}+\frac{1}{y}=4.$$

(A) $y=\frac{-3+\sqrt{21}}{6}$
(B) $y=\frac{(-1+\sqrt{5})}{2}$
(C) $y=\frac{(3+\sqrt{21})}{6}$
(D) $y=\frac{(-1+\sqrt{5})}{8}$

Q73. **Two triangles are similar. The ratio of their corresponding side lengths is 5: 8. If the length of an altitude of the smaller triangle is 15 cm , what is the length of the corresponding altitude of the larger triangle?**

दो त्रिभुज समरूप हैं। उनकी संगत भुजाओं की लंबाइयों का अनुपात 5: 8 है। यदि छोटे त्रिभुज के एक शीर्षलंब की लंबाई 15 cm है, तो बड़े त्रिभुज के संगत शीर्षलंब की लंबाई क्या है?

(A) 8 cm
(B) 16 cm
(C) 24 cm
(D) 32 cm

Q74. **Solve:**

$25^{\frac{3}{2}} + 25^{\frac{3}{2}} = ?$

हल कीजिए:

$25^{\frac{3}{2}} + 25^{\frac{3}{2}} = ?$

(A) $\frac{125}{15626}$
(B) $\frac{15626}{125}$
(C) $\frac{15626}{625}$
(D) $\frac{15626}{25}$

Q75. **If $\frac{\sin\theta}{1+\cos\theta} + \frac{1+\cos\theta}{\sin\theta} = \frac{4}{\sqrt{3}}$ $0^\circ < \theta < 90^\circ$, then the value of $(\tan\theta + \sec\theta)^{-1}$ is :**

यदि $\frac{\sin\theta}{1+\cos\theta} + \frac{1+\cos\theta}{\sin\theta} = \frac{4}{\sqrt{3}}$ $0^\circ < \theta < 90^\circ$ है, तो $(\tan\theta + \sec\theta)^{-1}$ का मान क्या होगा?

(A) $2-\sqrt{3}$
(B) $3-\sqrt{2}$
(C) $3+\sqrt{2}$
(D) $2+\sqrt{3}$

Section 4: General Awareness (Q76–100)

Q76. **Article 51 of the Indian Constitution primarily deals with which of the following objectives?**

भारतीय संविधान का अनुच्छेद 51 मुख्य रूप से निम्नलिखित में से किस उद्देश्य से संबंधित है?

(A) Development of rural cooperative institutions / ग्रामीण सहकारी संस्थाओं का विकास
(B) Promotion of international peace and security / अंतर्राष्ट्रीय शांति और सुरक्षा को बढ़ावा देना
(C) Implementation of a Uniform Civil Code / समान नागरिक संहिता का कार्यान्वयन
(D) Regulation of agriculture and livestock activities / कृषि और पशुधन संबंधी गतिविधियों का विनियमन

Q77. **In September 2024, who assumed the position of Director General of the Narcotics Control Bureau (NCB) in India ?**

सितंबर 2024 में भारत में स्वापक नियंत्रण ब्यूरो (NCB) के महानिदेशक का पद किसने ग्रहण किया?

(A) Rakesh Singh
(B) Anurag Garg
(C) Vivek Sharma
(D) Anil Verma

Q78. **The Dharti Aaba Janjatiya Gram Utkarsh Abhiyan was launched on October 2, 2024, in which Indian state?**

धरती आबा जनजातीय ग्राम उत्कर्ष अभियान 2 अक्तूबर, 2024 को भारत के किस राज्य में आरंभ किया गया था?

(A) Chhattisgarh / छत्तीसगढ़
(B) Odisha / ओडिशा
(C) Jharkhand / झारखंड
(D) Maharashtra / महाराष्ट्र

Q79. **In the World Competitiveness Index 2024, India holds which rank globally?**

विश्व प्रतिस्पर्धात्मकता सूचकांक 2024 में भारत का वैश्विक स्थान कौन-सा है?

(A) 29th / 29वाँ
(B) 46th / 46वाँ
(C) 39th / 39वाँ
(D) 52nd / 52वाँ

Q80. **The State of the World's Children 2024 report is released by which international organization?**

The State of the World's Children 2024 रिपोर्ट किस अंतर्राष्ट्रीय संगठन द्वारा जारी की जाती है?

(A) WHO
(B) UNICEF
(C) UNESCO
(D) IMF

Q81. **Allographa effusosoredica, a species recently discovered in the Western Ghats, belongs to which category?**

Allographa effusosoredica, जो हाल ही में पश्चिमी घाट में खोजी गई एक प्रजाति है, किस श्रेणी से संबंधित है?

(A) Moss / मॉस
(B) Lichen / लाइकेन
(C) Frog / मेढक
(D) Beetle / भृंग

Q82. **The book "Above Average" is written by which author?**

पुस्तक "Above Average" किस लेखक द्वारा लिखी गई है?

(A) Chetan Bhagat
(B) Amitabha Bagchi
(C) Kiran Desai
(D) Arundhati Roy

Q83. **'Mangal' folk songs, often performed during auspicious wedding ceremonies, are traditional to which Indian state?**

'Mangal' लोकगीत, जो प्रायः शुभ विवाह समारोहों में गाए जाते हैं, किस भारतीय राज्य की पारंपरिक विधा हैं?

(A) Gujarat / गुजरात
(B) Uttarakhand / उत्तराखंड
(C) Odisha / ओडिशा
(D) Karnataka / कर्नाटक

Q84. **The novel Pinjar, which depicts the hardships and trauma of the Partition of India, was authored by which writer?**

उपन्यास Pinjar, जो भारत विभाजन की कठिनाइयों और पीड़ा को चित्रित करता है, किस लेखक द्वारा लिखा गया था?

(A) Bhisham Sahni
(B) Amrita Pritam
(C) Rajinder Singh Bedi
(D) Shashi Deshpande

Q85. Which traditional dance is an important part of Sikkim's cultural heritage?

कौन-सा पारंपरिक नृत्य सिक्किम की सांस्कृतिक विरासत का महत्वपूर्ण अंग है?

(A) Garba / गरबा
(B) Snow Lion / स्नो लायन
(C) Bihu / बिहू
(D) Lavani / लावणी

Q86. The widely accepted scientific explanation for the origin of the universe is known as the ___.

ब्रह्मांड की उत्पत्ति की व्यापक रूप से स्वीकृत वैज्ञानिक व्याख्या ___ के रूप में जानी जाती है।

(A) Steady State Theory / स्थिर अवस्था सिद्धांत
(B) Big Bang Theory / बिग बैंग सिद्धांत
(C) Theory of Relativity / सापेक्षता का सिद्धांत
(D) Multiverse Theory / बहुविश्व सिद्धांत

Q87. When an object's speed or direction changes, it indicates which of the following?

जब किसी वस्तु की चाल या दिशा में परिवर्तन होता है, तो यह निम्नलिखित में से किसका संकेत देता है?

(A) Variation in its mass / उसके द्रव्यमान में परिवर्तन
(B) Change in its state of motion / उसकी गति की अवस्था में परिवर्तन
(C) Alteration in its shape / उसके आकार में परिवर्तन
(D) Modification in its temperature / उसके तापमान में परिवर्तन

Q88. India's first full-stack 25 -qubit quantum computer was developed by which startup?

भारत का पहला फुल-स्टैक 25-क्यूबिट क्वांटम कंप्यूटर किस स्टार्टअप द्वारा विकसित किया गया था?

(A) Quantech Innovations
(B) QpiAI
(C) Photonix Labs
(D) Qubit Solutions

Q89. In the late 1980s, to manage the economic crisis, India approached which institution, also known as the International Bank for Reconstruction and Development?

1980 के दशक के अंत में, आर्थिक संकट से निपटने के लिए भारत ने किस संस्था से संपर्क किया था, जिसे अंतर्राष्ट्रीय पुनर्निर्माण एवं विकास बैंक के रूप में भी जाना जाता है?

(A) Asian Development Bank / एशियाई विकास बैंक
(B) International Monetary Fund / अंतर्राष्ट्रीय मुद्रा कोष
(C) World Bank / विश्व बैंक
(D) New Development Bank / न्यू डेवलपमेंट बैंक

Q90. As of July 2025, which central public sector enterprise has been granted the prestigious "Navratna" status?

जुलाई 2025 तक, किस केंद्रीय सार्वजनिक क्षेत्र के उद्यम को प्रतिष्ठित "नवरत्न" का दर्जा प्रदान किया गया है?

(A) Bharat Electronics Limited / भारत इलेक्ट्रॉनिक्स लिमिटेड
(B) Rashtriya Chemicals and Fertilizers Limited / राष्ट्रीय केमिकल्स एंड फर्टिलाइजर्स लिमिटेड
(C) Coal India Limited / कोल इंडिया लिमिटेड
(D) Oil India Limited / ऑयल इंडिया लिमिटेड

Q91. **The Khalsa was formally established in the year 1699 by which Sikh Guru ?**
खालसा की औपचारिक स्थापना वर्ष 1699 में किस सिख गुरु द्वारा की गई थी?

(A) Guru Angad Dev / गुरु अंगद देव
(B) Guru Amar Das / गुरु अमर दास
(C) Guru Har Rai / गुरु हर राय
(D) Guru Gobind Singh / गुरु गोबिंद सिंह

Q92. **Which slogan is historically associated with the Indian nationalist leader Bal Gangadhar Tilak ?**
कौन-सा नारा ऐतिहासिक रूप से भारतीय राष्ट्रवादी नेता बाल गंगाधर तिलक से संबद्ध है?

(A) "Inquilab Zindabad" / "इंकलाब जिंदाबाद"
(B) "Do or Die" / "करो या मरो"
(C) "Freedom is my birthright and I shall have it!" / "स्वतंत्रता मेरा जन्मसिद्ध अधिकार है और मैं इसे लेकर रहूँगा!"
(D) "Vande Mataram" / "वंदे मातरम्"

Q93. **Who has the constitutional authority to dissolve the House of the People (Lok Sabha) before the completion of its term?**
जनता के सदन (लोकसभा) को उसका कार्यकाल पूरा होने से पहले भंग करने का संवैधानिक अधिकार किसे प्राप्त है?

(A) The Election Commission of India / भारत का निर्वाचन आयोग
(B) The Vice President of India / भारत के उपराष्ट्रपति
(C) The Chief Minister of India / भारत के मुख्यमंत्री
(D) The President acting on the advice of the Prime Minister / प्रधानमंत्री की सलाह पर कार्य करने वाले राष्ट्रपति

Q94. **Which of the following crops is not typically grown under dryland farming conditions?**
निम्नलिखित में से कौन-सी फसल सामान्यतः शुष्क भूमि कृषि की परिस्थितियों में नहीं उगाई जाती है?

(A) Sorghum (Jowar) / ज्वार (Sorghum)
(B) Pearl millet / बाजरा
(C) Jute / जूट
(D) Finger millet / रागी (फिंगर मिलेट)

Q95. **What was the primary objective of land reform measures introduced in India after Independence?**
स्वतंत्रता के बाद भारत में लागू किए गए भूमि सुधार उपायों का प्राथमिक उद्देश्य क्या था?

(A) To bring changes in the ownership and distribution of landholdings / भू-जोतों के स्वामित्व और वितरण में परिवर्तन लाना
(B) To promote rapid urban development / तीव्र शहरी विकास को बढ़ावा देना
(C) To encourage foreign investment in the agricultural sector / कृषि क्षेत्र में विदेशी निवेश को प्रोत्साहित करना
(D) To transfer agricultural land entirely to private corporations / कृषि भूमि को पूर्णतः निजी कंपनियों को हस्तांतरित करना

Q96. **In which financial year was Child Budgeting introduced for the first time by the Government of India?**

भारत सरकार द्वारा पहली बार किस वित्तीय वर्ष में बाल बजटिंग (Child Budgeting) प्रारंभ की गई थी?

(A) 2008-09
(B) 2005-06
(C) 2010-11
(D) 2016-17

Q97. **Which type of deficit accounts exclusively for transactions related to the government's current income and current expenditure?**

कौन-सा घाटा विशेष रूप से सरकार की चालू आय और चालू व्यय से संबंधित लेन-देन का ही लेखा रखता है?

(A) Budgetary deficit / बजटीय घाटा
(B) Revenue deficit / राजस्व घाटा
(C) Capital deficit / पूंजीगत घाटा
(D) Primary deficit / प्राथमिक घाटा

Q98. **When air enters the human respiratory system, how is it filtered at the initial stage?**

जब वायु मानव श्वसन तंत्र में प्रवेश करती है, तो प्रारंभिक चरण में उसका निस्पंदन (छनन) किस प्रकार होता है?

(A) By fine hairs present in the nostrils / नासाछिद्रों में उपस्थित महीन बालों द्वारा
(B) By the alveoli of the lungs / फेफड़ों की वायुकोष्ठिकाओं (एल्विओलाई) द्वारा
(C) By the epiglottis / एपिग्लॉटिस द्वारा
(D) By the tracheal cartilage rings / श्वासनली के उपास्थि वलयों द्वारा

Q99. **With reference to the phloem in plants, consider the following statements:**

I. The movement of food through phloem requires energy.
II. Substances are loaded into the phloem using ATP.
Which of the statements given above is/are correct?

पादपों में फ्लोएम के संदर्भ में, निम्नलिखित कथनों पर विचार कीजिए:

I. फ्लोएम के माध्यम से भोजन की गति के लिए ऊर्जा की आवश्यकता होती है।
II. पदार्थों को ATP का उपयोग करके फ्लोएम में लोड किया जाता है।
उपर्युक्त कथनों में से कौन-सा/से सही है/हैं?

(A) Statement I only / केवल कथन I
(B) Statement II only / केवल कथन II
(C) Both I and II / I और II दोनों
(D) Neither statement is correct / कोई भी कथन सही नहीं है

Q100. **In Jaina ethical philosophy, what does the vow of aparigraha signify?**

जैन नैतिक दर्शन में, अपरिग्रह के व्रत का क्या अभिप्राय है?

(A) Observing extreme fasting / अत्यधिक उपवास करना
(B) Avoiding the act of stealing / चोरी के कृत्य से बचना
(C) Practising absolute truthfulness / पूर्ण सत्यनिष्ठा का पालन करना
(D) non-possession of things more than one's requirement / अपनी आवश्यकता से अधिक वस्तुओं का संग्रह न करना

Answer Key – SSC CHSL Tier-1 13 November 2025, Shift 3

1	A	2	C	3	A	4	D	5	B
6	D	7	C	8	B	9	B	10	C
11	B	12	B	13	B	14	A	15	C
16	A	17	A	18	A	19	B	20	B
21	C	22	B	23	B	24	A	25	B
26	C	27	C	28	B	29	B	30	D
31	B	32	D	33	B	34	D	35	D
36	B	37	D	38	B	39	B	40	C
41	A	42	B	43	A	44	B	45	C
46	A	47	C	48	C	49	A	50	D
51	D	52	C	53	D	54	A	55	A
56	C	57	A	58	C	59	A	60	C
61	C	62	B	63	D	64	B	65	C
66	C	67	C	68	B	69	D	70	A
71	D	72	A	73	C	74	B	75	A
76	B	77	B	78	C	79	C	80	B
81	B	82	B	83	B	84	B	85	B
86	B	87	B	88	B	89	C	90	B
91	D	92	C	93	D	94	C	95	A
96	A	97	B	98	A	99	C	100	D

Why is an answer correct?
Scan for detailed solutions of all 100 questions in Hindi & English – free with login.

Keep practising with airGurukul

All SSC CHSL Tier-1 previous year papers – free PDFs, online tests and solved eBooks at **airgurukul.com/library/pyp/ssc-chsl-tier-1**.

Attempt this paper online – free
Full test and section-wise tests with timer, score and rank at airgurukul.com/test-series

Join airGurukul

Telegram Channel
t.me/airgurukulofficial

WhatsApp Channel
whatsapp.com/channel/0029VbBP7n00VycAFq6AGJ0l

YouTube Channel
youtube.com/@airGurukulSSCExams

Android App
play.google.com/...?id=in.airgurukul

airGurukul

airGurukul Institute for Career Growth · Prince Edutech Private Limited
Call +91-7042559948 · info@airgurukul.com · www.airgurukul.com