airGurukul

Preparing Bharat, Empowering Futures

SSC CHSL Tier-1 2025 Question Paper

14 November 2025, Shift 3 · with Answer Key

100 questions | 200 marks | 60 minutes | +2 / −0.5

Hindi + English

Attempt this paper online – free

Real exam timer, instant score, all-India rank and detailed solutions in Hindi & English.

Scan · airgurukul.com/test-series

Call +91-7042559948 · www.airgurukul.com

Telegram Channel
t.me/airgurukulofficial

WhatsApp Channel
whatsapp.com/channel/0029VbBP7n00VycAFq6AGJ0l

YouTube Channel
youtube.com/@airGurukulSSCExams

Android App
play.google.com/...?id=in.airgurukul

Instructions

1. Total 100 questions (English Language 25, General Intelligence 25, Quantitative Aptitude 25, General Awareness 25).
2. Each correct answer carries 2 marks; 0.5 mark is deducted for each wrong answer.
3. Answer key is given at the end. Detailed solutions: scan the QR code on the last page.

Section 1: English Language (Q1–25)

Q1. **Identify the part of the sentence that contains a grammatical error.**

A. The large box of chocolates
B. were distributed among
C. the children present
D. at the birthday party.

(A) The large box of chocolates
(B) were distributed among
(C) the children present
(D) at the birthday party

Q2. **Fill in the blank with the most appropriate preposition:**

The thieves broke ___ the guarded vault during the midnight storm.

(A) into
(B) onto
(C) up
(D) open

Q3. **Select the most appropriate synonym of the word:**

PURPOSE-DRIVEN

(A) Teleological
(B) Random
(C) Historical
(D) Reactive

Q4. **Choose the incorrectly spelt word:**

(A) Acknowlegement
(B) Responsibility
(C) Environment
(D) Management

Q5. **Which of the following sentences uses the word "desert" with the same meaning as in the sentence below?**

"We were forced to desert the ship when the engine malfunctioned."

(A) The Sahara Desert experiences extremely high daytime temperatures.
(B) Plants in the desert have adapted to survive with little water.
(C) Travelers crossed a vast desert during their journey.
(D) He would never desert his companions when they needed him most.

Q6. **Choose the incorrectly spelt word:**

(A) Commemoretive
(B) Celebration
(C) Anniversary
(D) Memorial

Directions (Qs. 7-11): Read the following passage carefully and answer the questions that follow.

The rapid advancement of Genetic Engineering (GE) in modern medicine introduces a tangled web of moral dilemmas that need to be carefully addressed. While GE offers the promise of eradicating hereditary diseases, enhancing physical resilience, and new opportunities for biological improvement, it raises to its highest power fundamental questions regarding eugenics, genetic inequality, and the

alteration of human nature. Robust ethical frameworks and international regulatory treaties are necessary to counteract societal polarization in the face of the possibility of a genetic divide, particularly between the wealthy and the underprivileged. More alarmingly, GE technologies that edit the germline have the potential to introduce and even accelerate permanent changes to the human gene pool, resulting in unforeseen mutations or irreversible biological consequences. This creates issues of consent and safety in a more manipulated future. In addition, as GE influences increasing numbers of evolutionary outcomes, the liability question is at the forefront: who is to blame when a genetic modification triggers a catastrophic side effect or ecological imbalance?

Q7. **What is one of the main moral concerns related to the advancement of GE in medicine?**

(A) Increased medical costs in all hospitals
(B) Introduction and acceleration of permanent changes to the gene pool
(C) Improved surgical techniques in emergency care
(D) Reduction in the study of biology in schools

Q8. **What is necessary to address societal polarization caused by GE in medicine?**

(A) Increased privatization of medical research
(B) Robust ethical frameworks and international regulatory treaties
(C) Limiting the use of medicine in certain countries
(D) Complete removal of doctors from hospitals

Q9. **Which of the following is the primary liability question associated with GE, as discussed in the passage?**

(A) The loss of natural immunity in the general population
(B) The challenge of determining who is to blame when a modification triggers side effects
(C) The introduction of highly expensive medical procedures
(D) The complete removal of government oversight in research

Q10. **Which of the following statements is grammatically correct?**

(A) The advancement of GE in modern medicine introduces questions regarding eugenics, genetic inequality, and the alteration of human nature.
(B) The advancement of GE in modern medicine introduce questions regarding eugenics, genetic inequality, and the alteration of human nature.
(C) The advancement of GE in modern medicine introduce questions regarding eugenics, genetic inequality, and the alteration of human natures.
(D) The advancement of GE in modern medicine introduces questions regarding eugenics, genetic inequality, and the alteration of human natures.

Q11. **How does the application of GE create a potential risk in terms of biological safety, according to the passage ?**

(A) GE will completely replace natural reproduction, leading to population decline
(B) GE's editing of the germline could result in unforeseen mutations or irreversible biological consequences.
(C) GE will make biological decisions based on politics rather than science
(D) GE's impact on evolution will primarily benefit the pharmaceutical industry

Q12. **Choose the correct meaning of the highlighted idiom.**

Despite their different backgrounds, the two partners <u>see eye to eye</u> on all major decisions.

(A) To look directly into someone's eyes
(B) To have the same opinions or views
(C) To carefully observe someone's behavior
(D) To strongly oppose another person

Q13. **Select the most appropriate antonym of the word: Light**

(A) Fragile
(B) Ponderous
(C) Petite
(D) Slender

Q14. **Choose the correct one-word substitute for:**

A person who flies an aircraft.

(A) Captain
(B) Pilot
(C) Mason
(D) Salior

Q15. **Choose the correct one-word substitute for:**

A person who has an exceptional aptitude in one particular field.

(A) Layman
(B) Dilettante
(C) Amateur
(D) Savant

Q16. **Change the following sentence into the Active form.**

Fresh vegetables are sold at the market every Sunday morning.

(A) Fresh vegetables sell at the market every Sunday morning.
(B) They sell fresh vegetables at the market every Sunday morning.
(C) They are selling fresh vegetables at the market every Sunday morning.
(D) Fresh vegetables have been sold at the market every Sunday morning.

Q17. **Select the most appropriate antonym of the word:**

Oppose

(A) Resist
(B) Reject
(C) Connive
(D) Protest

Q18. **Select the option that expresses the given sentence in indirect voice. She said, 'I cooked the dinner, and I was waiting for the guests."**

(A) She said that she had cooked the dinner and she was waiting for the guests.
(B) She said that she had cooked the dinner and she had been waiting for the guests.
(C) She said that she cooked the dinner and she had been waiting for the guests.
(D) She said that she cooked the dinner and she was waiting for the guests.

Q19. **Choose the most suitable option to replace the highlighted part of the sentence:**

A fraction of the student body are attended the seminar.

(A) A fractions of the student body have attended
(B) A fraction of the student body have attended
(C) A fraction of the student body were attended
(D) A fraction of the student body has attended

Q20. **Choose the most suitable option to replace the highlighted part of the sentence:**

Anita , a skilled chef who managed the kitchen in hotels as well as resorts, will be prepare the feast Sunday in Goa.

(A) will prepare
(B) in preparation
(C) will preparing
(D) is prepare

Q21. **Choose the correct passive voice transformation of the sentence:**

The scientists, after endless months of testing, have developed a new effective vaccine.

(A) A new effective vaccine was developed by the scientists after endless months of testing.
(B) A new effective vaccine has been developed by the scientists after endless months of testing.
(C) A new effective vaccine had been developed by the scientists after endless months of testing.
(D) A new effective vaccine is developed by the scientists after endless months of testing.

Q22. **Choose the correct passive voice transformation of the sentence: Why do they always place such a high tax on imported goods?**

(A) Why is such a high tax always placed on imported goods?
(B) Why such a high tax is always placed on imported goods?
(C) Why was such a high tax always placed on imported goods?
(D) Why has such a high tax always been placed on imported goods?

Q23. **Select the option that expresses the given sentence in direct voice. The new clerk asked his boss how he could finish his daily task.**

(A) The new clerk asked, 'How could I finish my daily task?"
(B) The new clerk said, "How can he finish his daily task?"
(C) The new clerk said to his boss, "How could he finish his daily task?"
(D) The new clerk asked his boss, "How can I finish my daily task?"

Q24. **Select the option that expresses the given sentence in direct voice. The general said that the captain's plan of retreat had been a breach of the army's code, as the map which had been drawn by the scout had clearly shown that he was safe.**

(A) 'The captain's plan of retreat has been a breach of the army's code, as the map which was drawn by the scout has clearly shown that he was safe," the general said.
(B) "The captain's plan of retreat had been a breach of the army's code, as the map which was drawn by the scout had clearly shown that he was safe," the general said.
(C) "The captain's plan of retreat has been a breach of the army's code, as the map which was drawn by the scout has clearly shown that he is safe," the general said.
(D) "The captain's plan of retreat was a breach of the army's code, as the map which was drawn by the scout has clearly shown that he is safe," the general said.

Q25. **Rearrange the following sentence parts to form a meaningful and grammatically correct paragraph:**

P. After setting up the equipment in the lab, the students began to observe the chemical reaction.
Q. They meticulously recorded the changes in color and temperature as the solution was slowly heated up.
R. Every result they noted, including the gas bubbles and precipitates, was analyzed and compared later.
S. The findings confirmed the theory of the professor by providing solid proof of the concept.

(A) P, Q, R, S
(B) Q, P, R, S
(C) S, R, Q, P
(D) P, R, Q, S

Section 2: General Intelligence (Q26–50)

Q26. **Each item describes a situation and is followed by four possible responses. Indicate the response you find most appropriate. Choose only one response for each item. The responses will be evaluated based on the level of appropriateness for the given situation. Sneha is working on a college project. One member of her group is not contributing which is affecting the entire project. Sneha is the group leader. What should she do ?**

प्रत्येक प्रश्न में एक स्थिति दी गई है जिसके बाद चार संभावित प्रतिक्रियाएँ दी गई हैं। आपको वह प्रतिक्रिया बतानी है जो आपको सर्वाधिक उपयुक्त लगती है। प्रत्येक प्रश्न के लिए केवल एक ही प्रतिक्रिया चुनिए। प्रतिक्रियाओं का मूल्यांकन दी गई स्थिति के लिए उनकी उपयुक्तता के स्तर के आधार पर किया जाएगा। स्नेहा एक कॉलेज प्रोजेक्ट पर कार्य कर रही है। उसके समूह का एक सदस्य योगदान नहीं दे रहा है, जिससे पूरा प्रोजेक्ट प्रभावित हो रहा है। स्नेहा समूह की नेता है। उसे क्या करना चाहिए?

(A) Immediately remove the member / सदस्य को तुरंत हटा दे
(B) Complain to the teacher / शिक्षक से शिकायत करे
(C) Talk to the member to understand the problem and provide guidance / सदस्य से बात करके समस्या समझे और मार्गदर्शन दे
(D) Do the member's work herself / सदस्य का कार्य स्वयं कर दे

Q27. **In a multicultural workplace, a color or symbol used by a member turns out to be offensive to another culture. What should the team do?**

एक बहुसांस्कृतिक कार्यस्थल में किसी सदस्य द्वारा प्रयुक्त कोई रंग या प्रतीक किसी अन्य संस्कृति के लिए आपत्तिजनक सिद्ध हो जाता है। टीम को क्या करना चाहिए?

(A) Ignore it / इसे अनदेखा कर दे
(B) Publicly reprimand the member / सदस्य को सार्वजनिक रूप से फटकारे
(C) Discuss cultural sensitivity and take precautions in the future / सांस्कृतिक संवेदनशीलता पर चर्चा करे और भविष्य में सावधानी बरते
(D) Remove the member from the team / सदस्य को टीम से हटा दे

Q28. **In this type of questions, question is provided with substitutes for various mathematical symbols, followed by a question involving calculation of an expression or choosing the correct/ incorrect equation. You have to put the real signs in the given equation and then solve the questions as required.**

If '#' stands for 'x', '^' stands for '+', '!' stands for '.', '&' stands for '+', then find the value of:
$5!14\&28!22 = ?$

इस प्रकार के प्रश्नों में विभिन्न गणितीय चिह्नों के स्थान पर प्रतीक दिए जाते हैं, जिसके बाद किसी व्यंजक का मान ज्ञात करने अथवा सही/गलत समीकरण चुनने से संबंधित प्रश्न पूछा जाता है। आपको दिए गए समीकरण में वास्तविक चिह्न रखकर प्रश्न को हल करना है।

यदि '#' का अर्थ 'x' है, '^' का अर्थ '+' है, '!' का अर्थ '-' है, '&' का अर्थ '+' है, तो निम्नलिखित का मान ज्ञात कीजिए:
$5!14\&28!22 = ?$

(A) 1
(B) -2
(C) -1
(D) -3

Q29. **In a row of 45 students, Rahul is 15th from the left and Kajal is 38th from the right. How many students are sitting between Rahul and Kajal?**

45 विद्यार्थियों की एक पंक्ति में राहुल बाएँ से 15वें स्थान पर है तथा काजल दाएँ से 38वें स्थान पर है। राहुल और काजल के बीच में कितने विद्यार्थी बैठे हैं?

(A) 5
(B) 7
(C) 8
(D) 6

Q30. **A series is given with one term wrong. Select the wrong term from the given alternatives.**

986, 982, 974, 962, 946, 926, 905, 874

एक श्रृंखला दी गई है जिसमें एक पद गलत है। दिए गए विकल्पों में से गलत पद चुनिए।

986, 982, 974, 962, 946, 926, 905, 874

(A) 947
(B) 963
(C) 905
(D) 975

Q31. **In each question below is given a statement followed by two courses of action numbered I and II. You have to assume everything in the statement to be true and on the basis of the information given in the statement, decide which of the suggested courses of action logically follow(s) for pursuing.**

Statement: The level of moral values in schools is continuously declining.
Course of Action I: Moral education should be made a compulsory part of the curriculum.
Course of Action II: All co-curricular activities in schools should be discontinued.

नीचे दिए गए प्रत्येक प्रश्न में एक कथन दिया गया है जिसके बाद I और II क्रमांकित दो कार्यवाहियाँ दी गई हैं। आपको कथन में दी गई प्रत्येक बात को सत्य मानते हुए तथा कथन में दी गई सूचना के आधार पर यह निर्णय करना है कि सुझाई गई कार्यवाहियों में से कौन-सी कार्यवाही तर्कसंगत रूप से अनुसरण करती है।

कथन: विद्यालयों में नैतिक मूल्यों का स्तर निरंतर गिर रहा है।
कार्यवाही I: नैतिक शिक्षा को पाठ्यक्रम का अनिवार्य भाग बनाया जाना चाहिए।
कार्यवाही II: विद्यालयों में सभी सह-पाठ्यचर्या गतिविधियाँ बंद कर दी जानी चाहिए।

(A) Only I follows / केवल I अनुसरण करती है
(B) Only II follows / केवल II अनुसरण करती है
(C) Both I and II follow / I और II दोनों अनुसरण करती हैं
(D) Neither I nor II follows / न तो I और न ही II अनुसरण करती है

Q32. **Few of the letters are given followed by a question mark (?) these letters are following a specific pattern you have to give the correct option which can replace question mark.**

Identify the next term: B, D, F, H, ?

नीचे कुछ अक्षर दिए गए हैं जिनके बाद एक प्रश्नवाचक चिह्न (?) है। ये अक्षर एक विशेष पैटर्न का अनुसरण कर रहे हैं, आपको वह सही विकल्प बताना है जो प्रश्नवाचक चिह्न के स्थान पर आ सकता है।

अगला पद ज्ञात कीजिए: B, D, F, H, ?

(A) I
(B) J
(C) K
(D) L

Q33. In this question some conditions or circumstances is provided to you, you have to make logical judgement according to mentioned circumstances and mark the correct judgement for question.

It has been found in an educational institution that some groups of students are instigating other students by spreading misleading information on social media.

इस प्रश्न में आपको कुछ स्थितियाँ या परिस्थितियाँ दी गई हैं, आपको उल्लिखित परिस्थितियों के अनुसार तार्किक निर्णय करना है तथा प्रश्न के लिए सही निर्णय चिह्नित करना है।

एक शैक्षणिक संस्थान में यह पाया गया है कि विद्यार्थियों के कुछ समूह सोशल मीडिया पर भ्रामक सूचनाएँ फैलाकर अन्य विद्यार्थियों को भड़का रहे हैं।

(A) Impose a complete ban on social media across the entire institution / पूरे संस्थान में सोशल मीडिया पर पूर्ण प्रतिबंध लगा दिया जाए

(B) Expel the concerned students without any evidence / संबंधित विद्यार्थियों को बिना किसी साक्ष्य के निष्कासित कर दिया जाए

(C) Implement a digital code of conduct and adopt awareness and disciplinary procedures / डिजिटल आचार संहिता लागू की जाए तथा जागरूकता एवं अनुशासनात्मक प्रक्रिया अपनाई जाए

(D) Take no action on this issue as it is a matter of personal expression / इस मुद्दे पर कोई कार्यवाही न की जाए क्योंकि यह व्यक्तिगत अभिव्यक्ति का विषय है

Q34. Four meaningful words are given in the options you have to check that which of the following words cannot be formed from the letters.

'ENVIRONMENT'?

विकल्पों में चार अर्थपूर्ण शब्द दिए गए हैं, आपको यह जाँचना है कि निम्नलिखित में से कौन-सा शब्द दिए गए अक्षरों से नहीं बनाया जा सकता।

'ENVIRONMENT'?

(A) TONE

(B) RENT

(C) MOTHER

(D) ENTER

Q35. **A mirror is placed on the line AB. Out of the option figures which figure will be the right image of the question figure?**

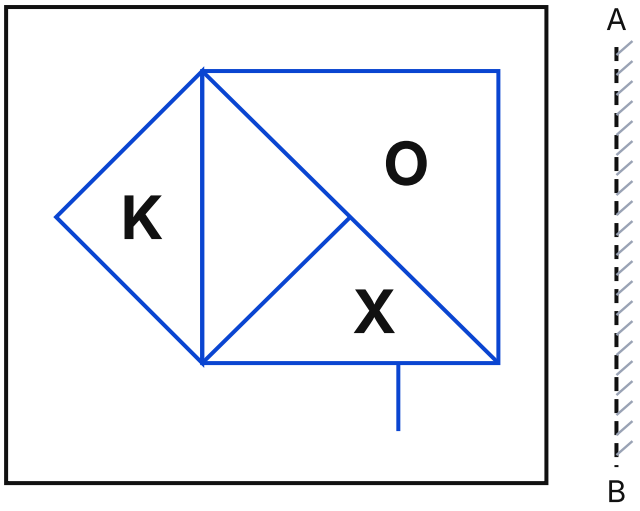

रेखा AB पर एक दर्पण रखा गया है। विकल्प आकृतियों में से कौन-सी आकृति प्रश्न आकृति का सही प्रतिबिंब होगी?

(A)

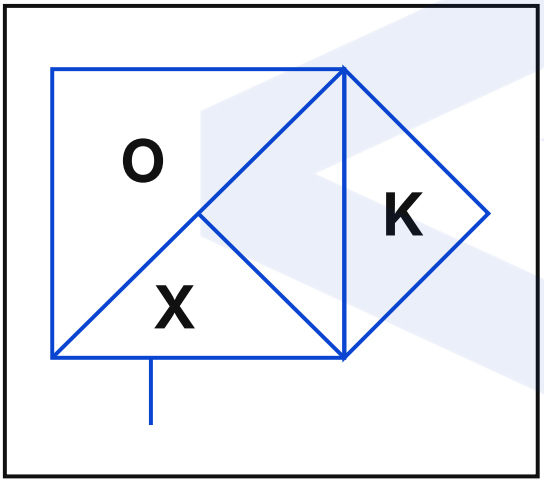

(B)

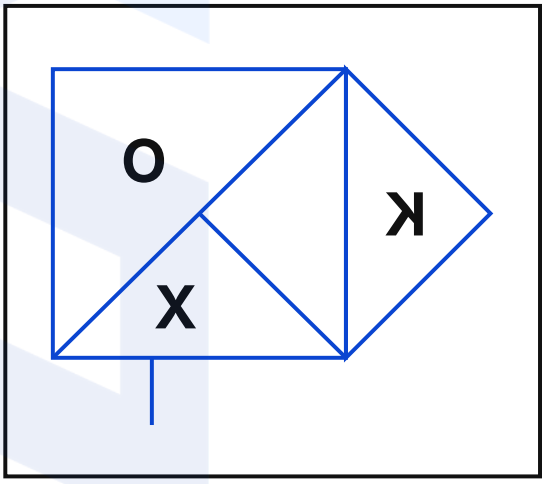

(C)

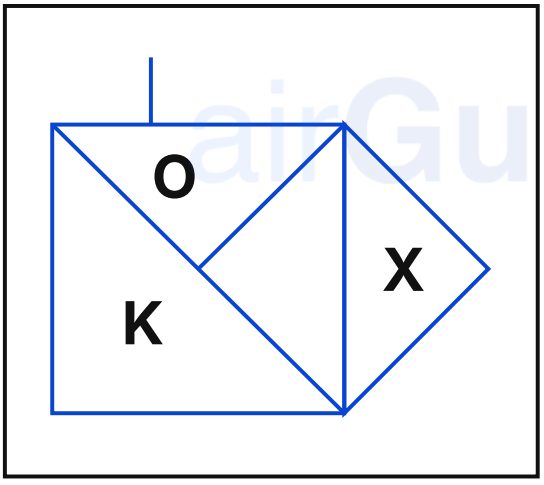

(D)

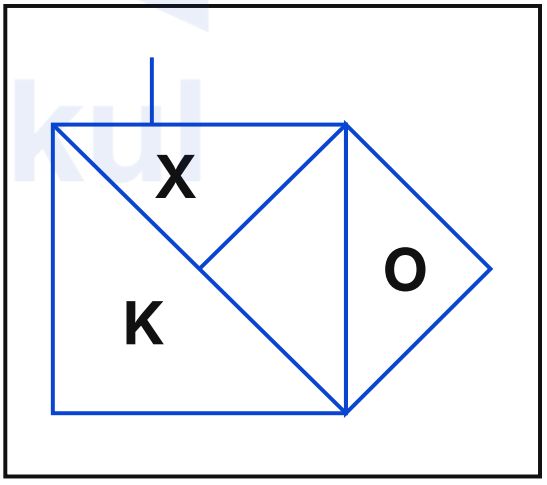

Q36. In this type of questions, questions are provided with some issues/disputes/problems, followed by few methods to resolve the problem in a statement choosing the appropriate problem solving method that can be implemented.

A large company is experiencing significant loss and misuse of office supplies.

इस प्रकार के प्रश्नों में कुछ मुद्दे/विवाद/समस्याएँ दी जाती हैं, जिनके बाद कथन में समस्या के समाधान की कुछ विधियाँ दी जाती हैं; आपको वह उपयुक्त समस्या-समाधान विधि चुननी है जिसे लागू किया जा सके।

एक बड़ी कंपनी में कार्यालय सामग्री की भारी हानि तथा दुरुपयोग हो रहा है।

(A) Punish employees without notice / कर्मचारियों को बिना सूचना दिए दंडित करें
(B) Implement a transparent tracking and feedback system for supply usage / सामग्री के उपयोग के लिए पारदर्शी ट्रैकिंग एवं फीडबैक प्रणाली लागू करें
(C) Blame only one department / केवल एक विभाग को दोषी ठहराएँ
(D) Ignore the incidents of misuse / दुरुपयोग की घटनाओं को अनदेखा करें

Q37. In this type of questions, question is provided with some issues / disputes /problem, followed by few methods to resolve the problem in statement choosing the appropriate problem solving method that can be implemented.

Patient files and medical records are being misused in a hospital, putting confidentiality at risk.

इस प्रकार के प्रश्नों में कुछ मुद्दे/विवाद/समस्याएँ दी जाती हैं, जिनके बाद कथन में समस्या के समाधान की कुछ विधियाँ दी जाती हैं; आपको वह उपयुक्त समस्या-समाधान विधि चुननी है जिसे लागू किया जा सके।

एक अस्पताल में रोगियों की फाइलों तथा चिकित्सा अभिलेखों का दुरुपयोग हो रहा है, जिससे गोपनीयता खतरे में है।

(A) Punish employees without investigation / बिना जाँच के कर्मचारियों को दंडित करें
(B) Implement digital record tracking, access logs, and an awareness campaign / डिजिटल अभिलेख ट्रैकिंग, एक्सेस लॉग तथा जागरूकता अभियान लागू करें
(C) Ignore the problem / समस्या को अनदेखा करें
(D) Publicly blame only a few employees / सार्वजनिक रूप से केवल कुछ कर्मचारियों को दोषी ठहराएँ

Q38. **In each of the following questions, there is a certain relationship between two given letter pairs on one side of (::) and pair is given on another side of (:) where another pair is to be found from the given alternatives, having the same relationship with this pair as the pairs of the given pair bear. Choose the best alternative.**

DF : UW : : MO : ?

निम्नलिखित प्रत्येक प्रश्न में (::) के एक ओर दिए गए दो अक्षर-युग्मों के बीच एक निश्चित संबंध है तथा (:) की दूसरी ओर एक युग्म दिया गया है, जिसके लिए दिए गए विकल्पों में से ऐसा युग्म ज्ञात करना है जिसका इस युग्म से वही संबंध हो जो दिए गए युग्मों के बीच है। सर्वोत्तम विकल्प चुनिए।

DF : UW : : MO : ?

(A) LN
(B) MN
(C) LM
(D) NM

Q39. **In three of the following pairs are same by same pattern except one pair. Which pair does not follow this pattern?**

निम्नलिखित में से तीन युग्म एक ही पैटर्न पर आधारित हैं, केवल एक युग्म को छोड़कर। कौन-सा युग्म इस पैटर्न का अनुसरण नहीं करता?

(A) 64,125
(B) 8,27
(C) 47,729
(D) 343,512

Q40. **A piece of paper is folded and punched as shown below in the question figures. From the given option figures, indicate how it will appear when opened.**

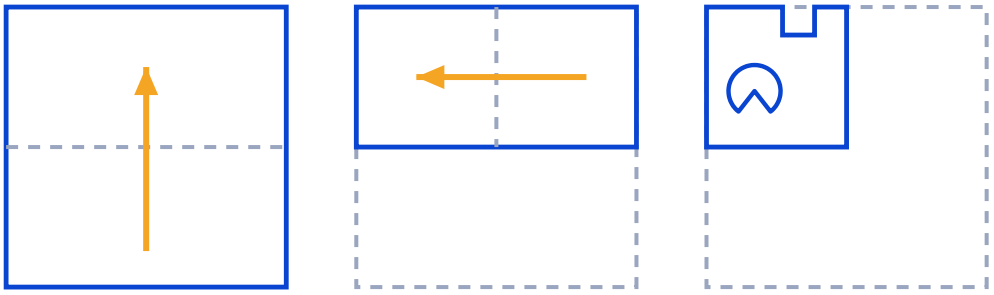

एक कागज़ को नीचे प्रश्न आकृतियों में दर्शाए अनुसार मोड़ा और छेदा गया है। दी गई विकल्प आकृतियों में से बताइए कि खोलने पर वह कैसा दिखाई देगा।

(A)

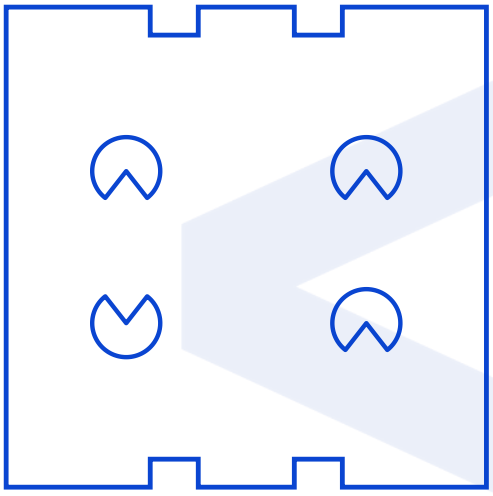

(B)

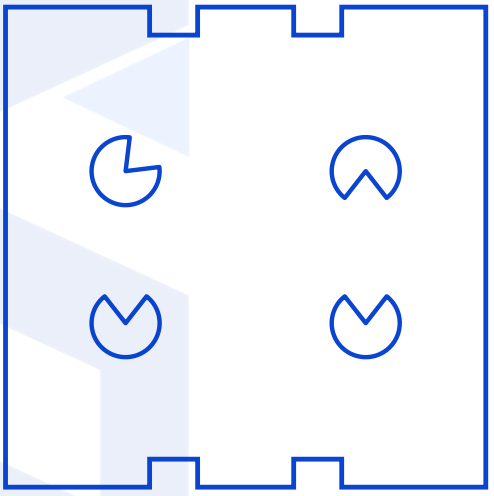

(C)

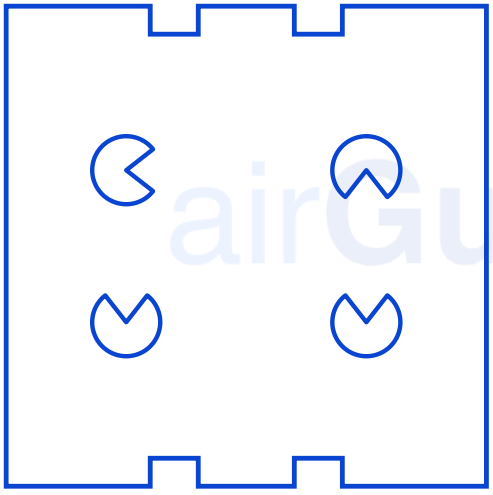

(D)

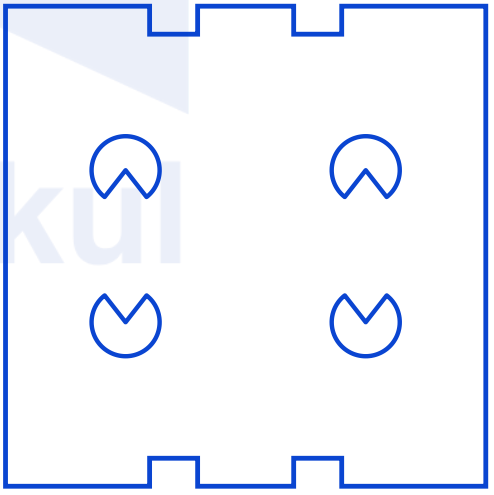

Q41. **From the given option figures, select the one in which the question figure is hidden/embedded. (Rotation is not allowed)**



दी गई विकल्प आकृतियों में से उस आकृति का चयन कीजिए, जिसमें प्रश्न आकृति छिपी/अंतर्निहित है। (घुमाने की अनुमति नहीं है)

(A)

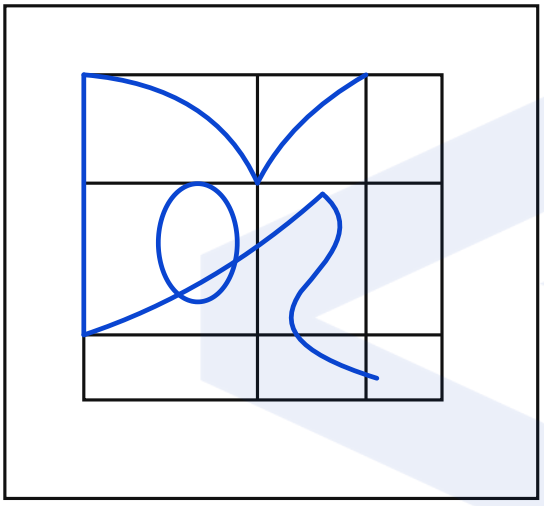

(B)

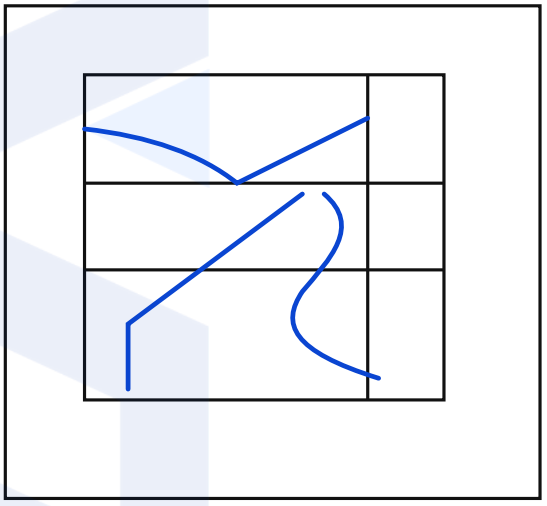

(C)

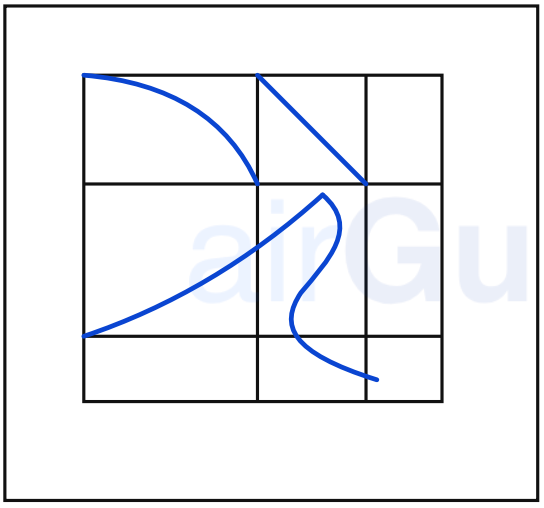

(D)

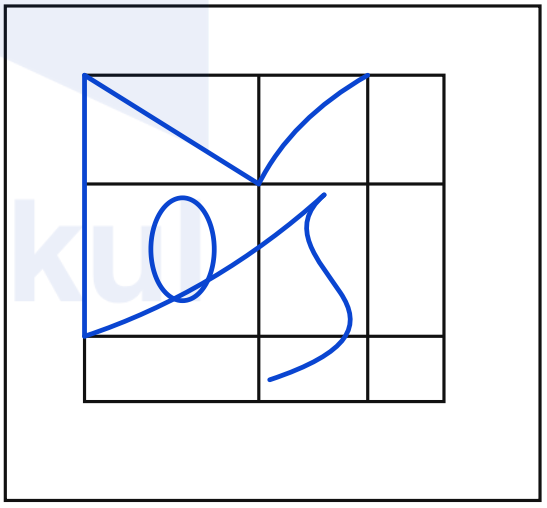

Q42. **In the following question, select the number which can be placed at the sign of question mark (?) from the given alternatives.**

10	11	6	54
7	?	9	42
13	8	5	52

निम्नलिखित प्रश्न में, दिए गए विकल्पों में से उस संख्या का चयन कीजिए जिसे प्रश्नवाचक चिह्न (?) के स्थान पर रखा जा सकता है।

10	11	6	54
7	?	9	42
13	8	5	52

(A) 11
(B) 8
(C) 5
(D) 10

Q43. **In the figure given below the triangle represents pens, the rectangle represents pencils and the circle represents erasers. The number in each area represents the number of items in that area. How many pens are pencils?**

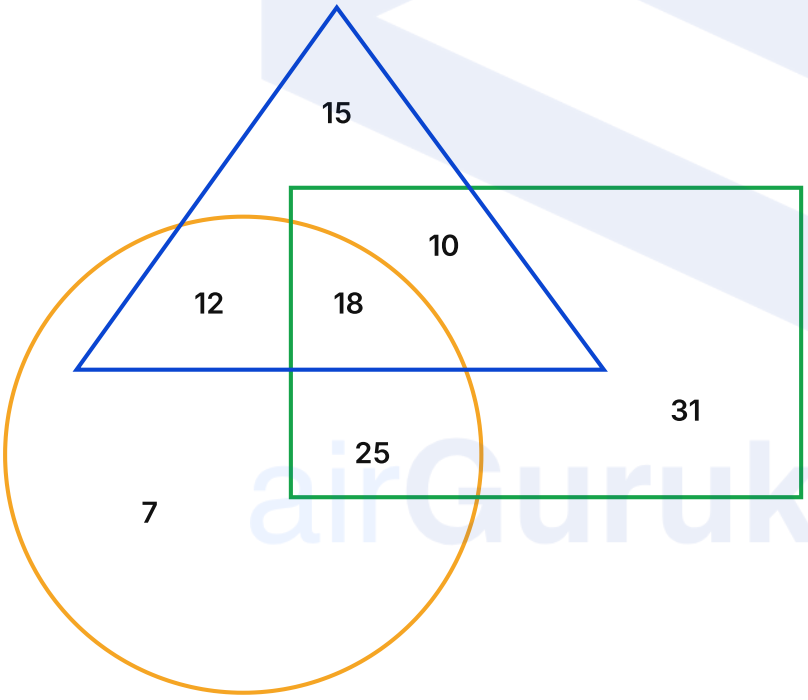

नीचे दी गई आकृति में त्रिभुज पेनों को, आयत पेंसिलों को तथा वृत्त रबड़ों को निरूपित करता है। प्रत्येक क्षेत्र में लिखी संख्या उस क्षेत्र की वस्तुओं की संख्या दर्शाती है। कितने पेन पेंसिल हैं?

(A) 35
(B) 30
(C) 31
(D) 28

Q44. How many triangles are there in the given figure?

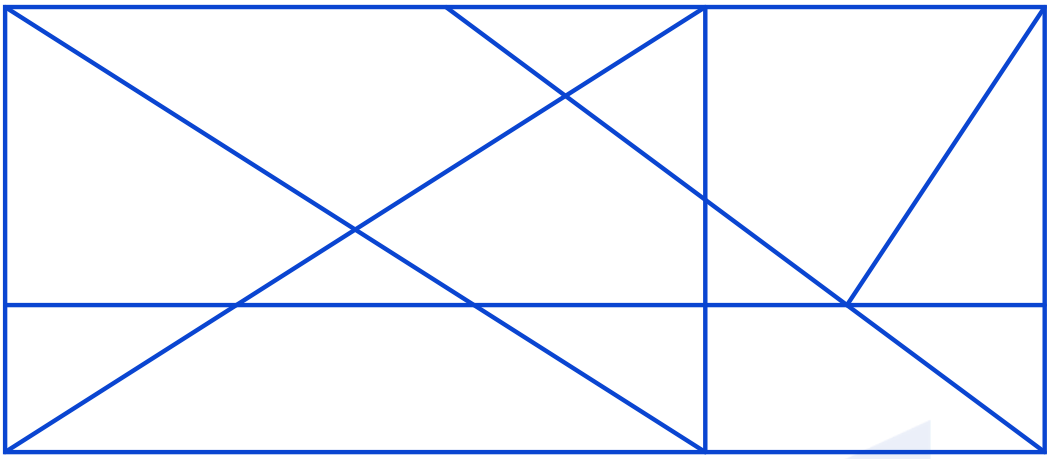

दी गई आकृति में कितने त्रिभुज हैं?

(A) 26
(B) 27
(C) 25
(D) 24

Q45. **Identify the diagram that best represents the relationship among the given classes.**

Fruits, Apple, Mango

उस आरेख की पहचान कीजिए जो दिए गए वर्गों के बीच के संबंध को सर्वोत्तम रूप से निरूपित करता है।

फल, सेब, आम

(A)

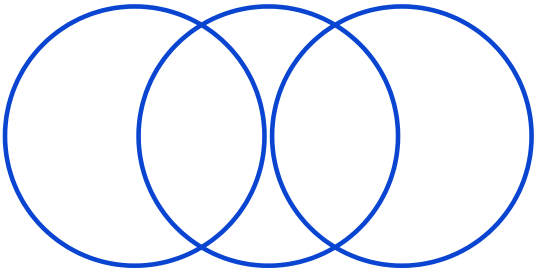

(B)



(C)



(D)

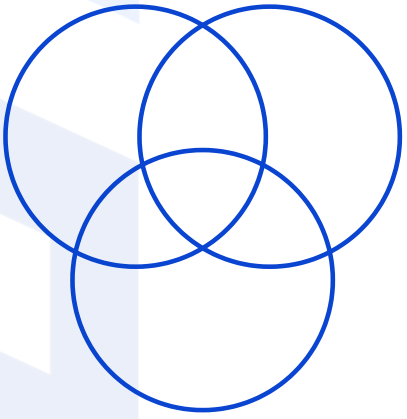

airGurukul

Q46. **Select the option that represents the correct order of the given words as they would appear in an English dictionary.**

1. Accommodation
2. Appointment
3. Appreciation
4. Administration
5. Advertisement

उस विकल्प का चयन कीजिए जो दिए गए शब्दों का वह सही क्रम निरूपित करता है, जिस क्रम में वे अंग्रेज़ी शब्दकोश में आएँगे।

1. Accommodation
2. Appointment
3. Appreciation
4. Administration
5. Advertisement

(A) 1, 4, 5, 2, 3
(B) 1, 5, 4, 2, 3
(C) 1, 4, 5, 3, 2
(D) 1, 5, 4, 3, 2

airGurukul

Q47. **Which option figure will complete the pattern in the question figure? (Rotation is not allowed)**

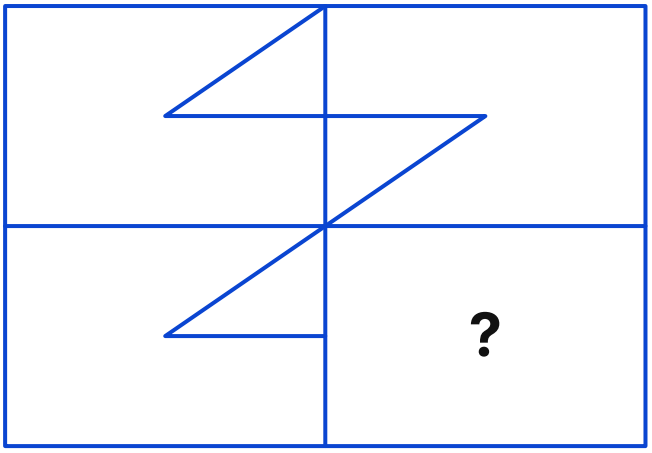

कौन-सी विकल्प आकृति प्रश्न आकृति के पैटर्न को पूरा करेगी? (घुमाने की अनुमति नहीं है)

(A)


(B)


(C)


(D)


Q48. **Out of the four given figures, three are similar in a certain way, while one is different. Select the odd one out.**

दी गई चार आकृतियों में से तीन एक निश्चित प्रकार से समान हैं, जबकि एक भिन्न है। भिन्न आकृति का चयन कीजिए।

(A)

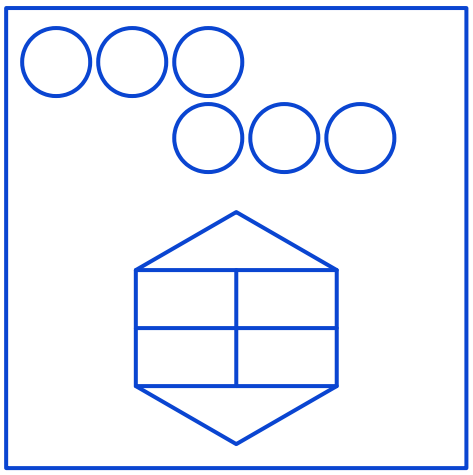

(B)

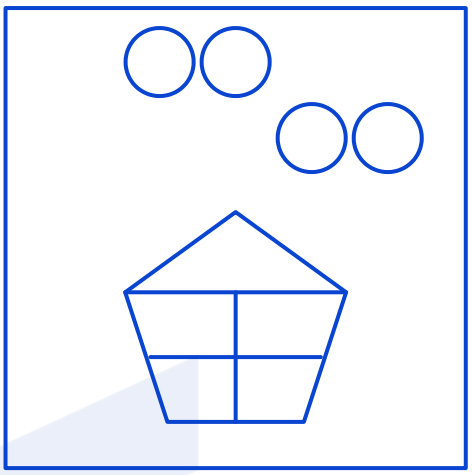

(C)

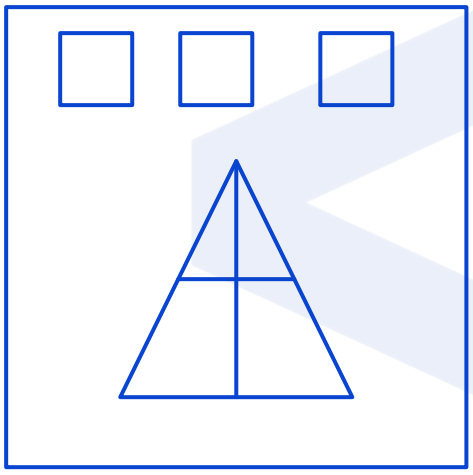

(D)

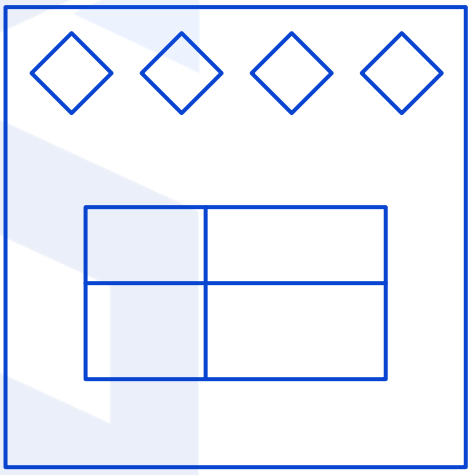

airGurukul

Q49. **In the following figure series, select the figure which can be placed at the sign of question mark (?) from the given alternatives.**



निम्नलिखित आकृति श्रृंखला में, दिए गए विकल्पों में से उस आकृति का चयन कीजिए जिसे प्रश्नवाचक चिह्न (?) के स्थान पर रखा जा सकता है।

(A)
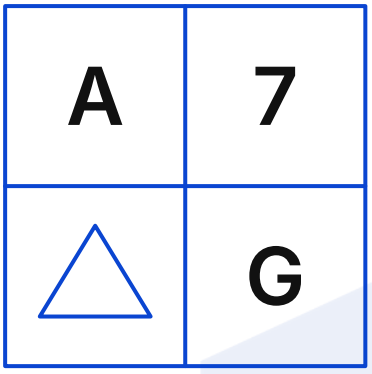

(B)
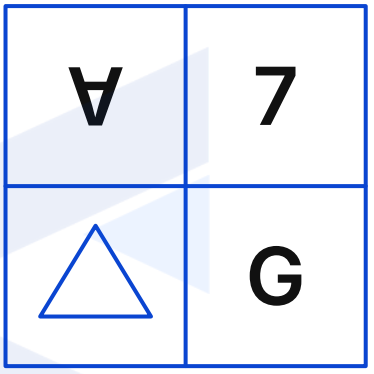

(C)
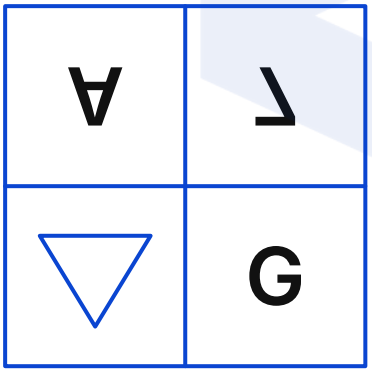

(D)
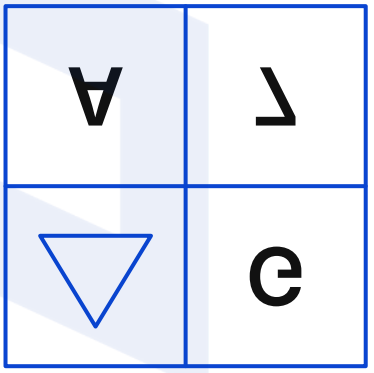

Q50. **In a certain coded language 'MANGO' is coded as 'RGSMT' and 'GRAPE' is coded as 'LXFVJ'. How will**

'APPLE' be coded in the same code language?

एक निश्चित कूट भाषा में 'MANGO' को 'RGSMT' के रूप में कूटबद्ध किया जाता है तथा 'GRAPE' को 'LXFVJ' के रूप में कूटबद्ध किया जाता है। उसी कूट भाषा में

'APPLE' को किस प्रकार कूटबद्ध किया जाएगा?

(A) FVRUJ
(B) FVRJU
(C) FVJRU
(D) FVURJ

Want to clear SSC CHSL Tier-1?

Prepare with **Samyān (सम्यान) 1.0 – SSC Foundation Course** – structured classes, practice and doubt support for SSC CHSL Tier-1.

Every PYP as an online test
Shift-wise papers with timer, score and rank.

Detailed solutions
Step-by-step answers in Hindi and English.

Free live classes
Daily classes on our YouTube channel airGurukul SSC Exams.

Exam updates
Notifications, admit cards and results on WhatsApp.

See the course

Attempt this paper online

Detailed solutions

Free classes & exam updates

Telegram Channel
t.me/airgurukulofficial

WhatsApp Channel
whatsapp.com/channel/0029VbBP7n00VycAFq6AGJ0I

YouTube Channel
youtube.com/@airGurukulSSCExams

Android App
play.google.com/...?id=in.airgurukul

Call / WhatsApp **+91-7042559948** · www.airgurukul.com

Section 3: Quantitative Aptitude (Q51–75)

Q51. **A person sells 15 pens for ₹ 750 and suffers a loss equal to the selling price of 3 pens. What is the cost price of one pen?**

एक व्यक्ति 15 पेन ₹ 750 में बेचता है और उसे 3 पेनों के विक्रय मूल्य के बराबर हानि होती है। एक पेन का क्रय मूल्य कितना है?

(A) ₹ 70
(B) ₹ 65
(C) ₹ 75
(D) ₹ 60

Q52. **A, B, and C each started a business. A invested ₹150,000, B ₹100,000, and $C₹120,000$. After 8 months, A added ₹30,000, and C withdrew ₹20,000. If the total profit at the end of 2 years is ₹1,69,500 what will be A's profit?**

A, B और C में से प्रत्येक ने एक व्यवसाय आरंभ किया। A ने ₹150,000, B ने ₹100,000 तथा $C₹120,000$ निवेश किया। 8 महीने बाद A ने ₹30,000 और मिला दिए तथा C ने ₹20,000 निकाल लिए। यदि 2 वर्ष के अंत में कुल लाभ ₹1,69,500 है, तो A का लाभ कितना होगा?

(A) ₹76,500
(B) ₹92,000
(C) ₹80,000
(D) ₹98,000

Q53. **If $\cot\theta = \frac{12}{5}$ and θ is in Quadrant III, what is the value of $\sin\theta$?**

यदि $\cot\theta = \frac{12}{5}$ है तथा θ तृतीय चतुर्थांश में है, तो $\sin\theta$ का मान क्या है?

(A) $\frac{5}{13}$
(B) $-\frac{5}{13}$
(C) $\frac{12}{13}$
(D) $-\frac{12}{13}$

Q54. **If $m:n = 7:8$ and $n:p = 3:2$, then find $m:n:p$.**

यदि $m:n = 7:8$ तथा $n:p = 3:2$ है, तो $m:n:p$ ज्ञात कीजिए।

(A) 21 : 24 : 16
(B) 21: 16 : 24
(C) 24 : 21 : 16
(D) $24:16:21$

Q55. **The difference between the compound interest and simple interest on a sum for 3 years at 10% p.a. is ₹ 31 . What is the sum?**

किसी धनराशि पर 3 वर्ष के लिए 10% वार्षिक दर से चक्रवृद्धि ब्याज और साधारण ब्याज का अंतर ₹ 31 है। वह धनराशि कितनी है?

(A) ₹1,100
(B) ₹1,000
(C) ₹1,500
(D) ₹1,200

Q56. **The amount at the end of the 2nd and 3rd years on a certain principal at CI is ₹4,840 and ₹5,324 respectively. Find the principal.**

किसी निश्चित मूलधन पर चक्रवृद्धि ब्याज (CI) से 2रे और 3रे वर्ष के अंत में मिश्रधन क्रमशः ₹4,840 तथा ₹5,324 है। मूलधन ज्ञात कीजिए।

(A) ₹5,000
(B) ₹4,000
(C) ₹6,800
(D) ₹7,000

Q57. **The average of 13 numbers is 51 . If the first seven numbers have an average of 50 and the last seven numbers have an average of 51 , find the middle number.**

13 संख्याओं का औसत 51 है। यदि पहली सात संख्याओं का औसत 50 है तथा अंतिम सात संख्याओं का औसत 51 है, तो बीच वाली संख्या ज्ञात कीजिए।

(A) 44
(B) 45
(C) 40
(D) 42

Q58. **The largest four-digit number which when divided by 8,14 , or 26 leaves a remainder of 6 in each case is:**

वह सबसे बड़ी चार अंकों की संख्या, जिसे 8, 14 या 26 से भाग देने पर प्रत्येक स्थिति में शेषफल 6 बचता है, है:

(A) 9463
(B) 9460
(C) 9464
(D) 9470

Q59. **If the price of a notebook decreases by 20%, then a man can buy 4 more notebooks for Rs. 300. What is the new price (in Rs) of each notebook?**

यदि एक नोटबुक के मूल्य में 20% की कमी हो जाती है, तो एक व्यक्ति Rs. 300 में 4 नोटबुक अधिक खरीद सकता है। प्रत्येक नोटबुक का नया मूल्य (Rs. में) क्या है?

(A) 20
(B) 10
(C) 15
(D) 25

Q60. **A boy cycles to the park at $4\text{km} / h$ and comes back at $2\text{km} / h$. If the total time taken is 3 hours, find the distance between his home and the park.**

एक लड़का $4\text{km} / h$ की चाल से साइकिल चलाकर पार्क जाता है और $2\text{km} / h$ की चाल से वापस आता है। यदि कुल लिया गया समय 3 घंटे है, तो उसके घर और पार्क के बीच की दूरी ज्ञात कीजिए।

(A) 4 km
(B) 6 km
(C) 5 km
(D) 7 km

Q61. **A can do a work in 20 days, B in 25 days. They start together, but after 8 days A leaves. In how many more days will B finish the remaining work?**

A एक कार्य को 20 दिन में कर सकता है और B उसे 25 दिन में कर सकता है। वे एक साथ कार्य आरंभ करते हैं, परंतु 8 दिन बाद A कार्य छोड़ देता है। शेष कार्य को पूरा करने में B को और कितने दिन लगेंगे?

(A) 9 days / 9 दिन
(B) 7 days / 7 दिन
(C) 8 days / 8 दिन
(D) 6 days / 6 दिन

Q62. **A person borrows ₹10,000 at 6% per annum simple interest for 5 years. What is the total interest he will pay at the end of the 5 years?**

एक व्यक्ति ₹10,000 की राशि 6% वार्षिक साधारण ब्याज की दर पर 5 वर्ष के लिए उधार लेता है। 5 वर्ष के अंत में वह कुल कितना ब्याज चुकाएगा?

(A) ₹5,000
(B) ₹4,000
(C) ₹3,000
(D) ₹2,000

Q63. **A sum of ₹x amounts to ₹121,00 at 5 % per annum in a time in which a sum of ₹15,000 amounts to ₹18,000 at 10 % per annum, both at simple interest. The value of x is:**

₹x की एक राशि 5 % वार्षिक दर से उतने समय में ₹121,00 हो जाती है, जितने समय में ₹15,000 की राशि 10 % वार्षिक दर से ₹18,000 हो जाती है; दोनों साधारण ब्याज पर हैं। x का मान है:

(A) ₹11,000
(B) ₹10,000
(C) ₹12,000
(D) ₹15,000

Q64. **What is the integer part of the value of the expression $x = \frac{1}{\sqrt{169} - \sqrt{168}}$?**

व्यंजक $x=\frac{1}{\sqrt{169}-\sqrt{168}}$ के मान का पूर्णांक भाग क्या है?

(A) 25
(B) 26
(C) 24
(D) 27

Q65. **A right circular cone of base radius r and height h is placed inside a sphere in such a way that the circular edge of the base of the cone lies on the sphere and the centre of the sphere is the mid-point of the axis of the cone. If the diameter of the sphere is D, what is the correct relationship between the height h of the cone and its radius r ?**

आधार त्रिज्या r और ऊँचाई h वाले एक लंब वृत्तीय शंकु को एक गोले के अंदर इस प्रकार रखा गया है कि शंकु के आधार की परिधि गोले के पृष्ठ पर स्थित है तथा गोले का केंद्र शंकु के अक्ष का मध्य-बिंदु है। यदि गोले का व्यास D है, तो शंकु की ऊँचाई h और उसकी त्रिज्या r के बीच सही संबंध क्या है?

(A) $h = \sqrt{D^2 - 4r^2}$ / $h=\sqrt{{D}^{2}-4{r}^{2}}$
(B) $2h = \sqrt{5D^2 - 4r^2}$ / $2 h=\sqrt{5{D}^{2}-4{r}^{2}}$
(C) $3h = \sqrt{D^2 - r^2}$ / $3 h=\sqrt{{D}^{2}-{r}^{2}}$
(D) $h = \sqrt{5D^2 - r^2}$ / $h=\sqrt{5{D}^{2}-{r}^{2}}$

Q66. **A container holds 50 litres of a milk water mixture in which water makes up 10% of the total. How many litres of pure water should be added so that the proportion of water in the mixture increases to 25% ?**

एक पात्र में दूध और पानी के मिश्रण के 50 लीटर हैं, जिसमें पानी कुल का $10%$ है। मिश्रण में पानी का अनुपात बढ़कर 25% हो जाए, इसके लिए कितने लीटर शुद्ध पानी मिलाया जाना चाहिए?

(A) 10 liters / 10 लीटर
(B) 15 liters / 15 लीटर
(C) 18 liters / 18 लीटर
(D) 20 liters / 20 लीटर

Q67. **A hemispherical bowl is made of iron with a thickness of 1 cm . The inner radius is 6 cm . Find the volume of iron used to make the bowl.**

एक अर्धगोलाकार कटोरा लोहे का बना है जिसकी मोटाई 1 cm है। इसकी आंतरिक त्रिज्या 6 cm है। कटोरा बनाने में प्रयुक्त लोहे का आयतन ज्ञात कीजिए।

(A) $\frac{143\pi}{11}\text{cm}^3$ / $\frac{143π}{11}{ cm}^{3}$

(B) $\frac{255\pi}{13}\text{cm}^3$ / $\frac{255π}{13}{ cm}^{3}$

(C) $\frac{127\pi}{3}\text{cm}^3$ / $\frac{127π}{3}{ cm}^{3}$

(D) $\frac{254\pi}{3}\text{cm}^3$ / $\frac{254π}{3}{ cm}^{3}$

Q68. **Convert the recurring decimal $0.545454\ldots$ into a simple fraction in its lowest terms.**

आवर्ती दशमलव $0.545454...$ को निम्नतम पदों में एक साधारण भिन्न में बदलिए।

(A) $\frac{27}{100}$ / $\frac{27}{100}$

(B) $\frac{6}{11}$ / $\frac{6}{11}$

(C) $\frac{7}{11}$ / $\frac{7}{11}$

(D) $\frac{1}{33}$ / $\frac{1}{33}$

Q69. **If $\left(7^3\right)^2 = 7^x$, what is x ?**

यदि ${\left({7}^{3} \right)}^{2}={7}^{x}$ है, तो x क्या है?

(A) 5

(B) 4

(C) 6

(D) 3

Q70. **The coordinates of the vertices of a triangle are $A\left(0,0\right), B\left(9,0\right)$, and $C\left(0,12\right)$. What is the location of the orthocenter?**

एक त्रिभुज के शीर्षों के निर्देशांक $A(0,0),B(9,0)$ और $C(0,12)$ हैं। लंबकेंद्र की स्थिति क्या है?

(A) $\left(0,0\right)$ / $(0,0)$

(B) $\left(9,12\right)$ / $(9,12)$

(C) $\left(9,0\right)$ / $(9,0)$

(D) $\left(0,12\right)$ / $(0,12)$

Q71. **Two similar triangles have areas in the ratio of $144:169$. What is the ratio of their corresponding altitudes?**

दो समरूप त्रिभुजों के क्षेत्रफलों का अनुपात $144:169$ है। उनके संगत शीर्षलंबों का अनुपात क्या है?

(A) 8 : 13

(B) 12 : 13

(C) 13 : 12

(D) 12 : 9

Q72. **Find the equation of a line that is parallel to $y = 5x-7$ and passes through the point $\left(3,5\right)$**

उस रेखा का समीकरण ज्ञात कीजिए जो $y=5x-7$ के समांतर है और बिंदु $(3,5)$ से होकर जाती है

(A) $y = 5x-15$ / $y=5x-15$

(B) $y = 5x+10$ / $y=5x+10$

(C) $y = 5x-10$ / $y=5x-10$

(D) $y = 5x+15$ / $y=5x+15$

Q73. **A triangular-shaped park and a model of the park are similar. The ratio of their corresponding side lengths is 100 : 1. If a path in the park is 25 meters long, what is the length of the corresponding path in the model?**

एक त्रिभुजाकार पार्क और उस पार्क का एक मॉडल समरूप हैं। उनकी संगत भुजाओं की लंबाइयों का अनुपात 100 : 1 है। यदि पार्क में एक रास्ता 25 मीटर लंबा है, तो मॉडल में संगत रास्ते की लंबाई कितनी होगी?

(A) 15 cm
(B) 25 cm
(C) 30 cm
(D) 40 cm

Q74. **Simplify:**

$$\frac{\left((144-121)^3 + (121-81)^3 + (81-144)^3 \right)}{\left((12-11)^3 + (11-9)^3 + (9-12)^3 \right)}$$

सरल कीजिए:

$\frac{\left. (144-121{})}^{3}+(121-81{})}^{3}+(81-144{})}^{3} \right)}{\left((12-11{})}^{3}+(11-9{})}^{3}+(9-12{})}^{3} \right)}$

(A) 9660
(B) 9670
(C) 9650
(D) 9600

Q75. **If $\tan\theta + \cot\theta = 3$, find $\sin\theta\cos\theta$.**

यदि $tanθ+cotθ=3$ है, तो $sinθcosθ$ ज्ञात कीजिए।

(A) 3
(B) $\frac{1}{4}$ / $\frac{1}{4}$
(C) $\frac{1}{3}$ / $\frac{1}{3}$
(D) $\frac{1}{9}$ / $\frac{1}{9}$

Section 4: General Awareness (Q76–100)

Q76. **In the Preamble of the Indian Constitution, Justice is expressed in three forms. Which of the following is one of them?**

भारतीय संविधान की प्रस्तावना में न्याय को तीन रूपों में व्यक्त किया गया है। निम्नलिखित में से कौन-सा उनमें से एक है?

(A) Socialist / समाजवादी
(B) Sovereign / संप्रभु
(C) Secular / पंथनिरपेक्ष
(D) Economic / आर्थिक

Q77. **Who is the senior-most administrative officer in a state responsible for coordinating departments and advising the state government on administrative matters?**

किसी राज्य में वह वरिष्ठतम प्रशासनिक अधिकारी कौन होता है, जो विभागों के समन्वय तथा प्रशासनिक मामलों में राज्य सरकार को परामर्श देने के लिए उत्तरदायी होता है?

(A) District Collector / जिला कलेक्टर
(B) Cabinet Secretary / कैबिनेट सचिव
(C) Chief Secretary / मुख्य सचिव
(D) Home Secretary / गृह सचिव

Q78. **According to the MNRE announcement (December 2024), by which year are rooftop solar installations under the PM Surya Ghar : Muft Bijli Yojana expected to reach 1 crore households?**

MNRE की घोषणा (दिसंबर 2024) के अनुसार, PM सूर्य घर : मुफ्त बिजली योजना के अंतर्गत छत पर सौर संयंत्रों की स्थापना किस वर्ष तक 1 करोड़ परिवारों तक पहुँचने की अपेक्षा है?

(A) March 2025 / मार्च 2025
(B) March 2026 / मार्च 2026
(C) March 2027 / मार्च 2027
(D) March 2028 / मार्च 2028

Q79. **What was India's global ranking in the Global Innovation Index (GII) 2024 ?**

ग्लोबल इनोवेशन इंडेक्स (GII) 2024 में भारत की वैश्विक रैंकिंग क्या थी?

(A) 52nd / 52वाँ
(B) 47th / 47वाँ
(C) 39th / 39वाँ
(D) 28th / 28वाँ

Q80. **According to the Reserve Bank of India (RBI), what was the value of the Financial Inclusion Index (FIFI) in 2025 ?**

भारतीय रिज़र्व बैंक (RBI) के अनुसार, 2025 में वित्तीय समावेशन सूचकांक (FIFI) का मान क्या था?

(A) 54
(B) 61
(C) 67
(D) 72

Q81. **Which national park near Junagadh strengthens its suitability as the location for the National Referral Centre for Wildlife ?**

जूनागढ़ के निकट स्थित कौन-सा राष्ट्रीय उद्यान, National Referral Centre for Wildlife (वन्यजीवों हेतु राष्ट्रीय रेफरल केंद्र) के स्थल के रूप में उसकी उपयुक्तता को और सुदृढ़ करता है?

(A) Kaziranga National Park / काजीरंगा राष्ट्रीय उद्यान
(B) Gir National Park / गिर राष्ट्रीय उद्यान
(C) Ranthambore National Park / रणथंभौर राष्ट्रीय उद्यान
(D) Bandipur National Park / बांदीपुर राष्ट्रीय उद्यान

Q82. **Who is the author of the book "Gandhi in Champaran"?**

पुस्तक "Gandhi in Champaran" के लेखक कौन हैं?

(A) Louis Fischer
(B) D. G. Tendulkar
(C) Rajmohan Gandhi
(D) Bipan Chandra

Q83. **Bhopa, a traditional folk music and storytelling tradition involving the use of a painted scroll called Phad, belongs to which Indian state?**

भोपा, एक पारंपरिक लोक संगीत एवं कथा-वाचन परंपरा जिसमें फड़ नामक चित्रित पट (स्क्रॉल) का प्रयोग होता है, भारत के किस राज्य से संबंधित है?

(A) Gujarat / गुजरात
(B) Rajasthan / राजस्थान
(C) Madhya Pradesh / मध्य प्रदेश
(D) Haryana / हरियाणा

Q84. **Who is the author of the mythological fiction novel *Mohini : The Enchantress"?**

पौराणिक कथा-आधारित उपन्यास "Mohini : The Enchantress" के लेखक/लेखिका कौन हैं?

(A) Chitra Banerjee Divakaruni
(B) Amish Tripathi
(C) Anuja Chandramouli
(D) Devdutt Pattanaik

Q85. **Jhijhiya, a traditional folk dance performed during Durga Puja and Dussehra, is associated with which Indian state?**

झिझिया, दुर्गा पूजा एवं दशहरा के अवसर पर किया जाने वाला एक पारंपरिक लोक नृत्य, भारत के किस राज्य से संबद्ध है?

(A) Uttar Pradesh / उत्तर प्रदेश
(B) Bihar / बिहार
(C) Jharkhand / झारखंड
(D) West Bengal / पश्चिम बंगाल

Q86. **In which year was India's INSAT (Indian National Satellite System) program officially established with the launch of INSAT-1B ?**

भारत का INSAT (Indian National Satellite System) कार्यक्रम INSAT-1B के प्रक्षेपण के साथ किस वर्ष औपचारिक रूप से स्थापित हुआ था?

(A) 1975
(B) 1980
(C) 1983
(D) 1986

Q87. **What is the physical quantity defined as the force acting per unit area of a surface ?**

किसी सतह के प्रति एकांक क्षेत्रफल पर लगने वाले बल के रूप में परिभाषित भौतिक राशि कौन-सी है?

(A) Work / कार्य
(B) Pressure / दाब
(C) Power / शक्ति
(D) Density / घनत्व

Q88. **In January 2025, which organization launched the National Mission on Sustainable Packaging Solutions to promote eco-friendly and recyclable packaging technologies in India ?**

जनवरी 2025 में किस संगठन ने भारत में पर्यावरण-अनुकूल एवं पुनर्चक्रण योग्य पैकेजिंग प्रौद्योगिकियों को बढ़ावा देने हेतु National Mission on Sustainable Packaging Solutions आरंभ किया?

(A) NITI Aayog / नीति आयोग
(B) Bureau of Indian Standards (BIS) / भारतीय मानक ब्यूरो (BIS)
(C) Council of Scientific and Industrial Research (CSIR) / वैज्ञानिक तथा औद्योगिक अनुसंधान परिषद (CSIR)
(D) Ministry of Environment, Forest and Climate Change / पर्यावरण, वन एवं जलवायु परिवर्तन मंत्रालय

Q89. Which of the following statements correctly describes public goods?

निम्नलिखित में से कौन-सा कथन सार्वजनिक वस्तुओं (public goods) का सही वर्णन करता है?

(A) They are available only to paying users / वे केवल भुगतान करने वाले उपयोगकर्ताओं को उपलब्ध होती हैं

(B) Their benefits decrease when more people use them / अधिक लोगों के उपयोग करने पर उनके लाभ घट जाते हैं

(C) Generally, the benefits of public goods are available to all / सामान्यतः सार्वजनिक वस्तुओं के लाभ सभी को उपलब्ध होते हैं

(D) They can be easily restricted to specific individuals / उन्हें सरलता से विशिष्ट व्यक्तियों तक सीमित किया जा सकता है

Q90. Who were the parents of Chhatrapati Shivaji Maharaj?

छत्रपति शिवाजी महाराज के माता-पिता कौन थे?

(A) Maloji Bhosale and Tukabai / मालोजी भोसले और तुकाबाई

(B) Shahaji Bhosale and Jijabai / शाहजी भोसले और जीजाबाई

(C) Sambhaji Bhosale and Soyarabai / संभाजी भोसले और सोयराबाई

(D) Shahu Maharaj and Sakvarbai / शाहू महाराज और सकवारबाई

Q91. What was the primary purpose of the National Renewal Fund (NRF), established in 1992 ?

वर्ष 1992 में स्थापित राष्ट्रीय नवीकरण निधि (National Renewal Fund - NRF) का प्रमुख उद्देश्य क्या था?

(A) To promote foreign direct investment (FDI) in India / भारत में प्रत्यक्ष विदेशी निवेश (FDI) को बढ़ावा देना

(B) To provide borrowing support to private industries / निजी उद्योगों को उधार संबंधी सहायता उपलब्ध कराना

(C) To compensate and retrain workers affected by industrial restructuring / औद्योगिक पुनर्संरचना से प्रभावित श्रमिकों को क्षतिपूर्ति एवं पुनर्प्रशिक्षण देना

(D) To provide financial relief during natural disasters / प्राकृतिक आपदाओं के समय वित्तीय राहत उपलब्ध कराना

Q92. During the Revolt of 1857, in which centre did Nana Saheb (Nana Sahib Peshwa) play a leading role against the British?

1857 के विद्रोह के दौरान नाना साहेब (नाना साहिब पेशवा) ने किस केंद्र पर अंग्रेजों के विरुद्ध अग्रणी भूमिका निभाई थी?

(A) Meerut / मेरठ

(B) Jhansi / झाँसी

(C) Kanpur / कानपुर

(D) Lucknow / लखनऊ

Q93. The Kisan Credit Card (KCC) scheme, introduced to provide timely and simplified credit to farmers, was launched in 1998 on the recommendation of which committee ?

किसानों को समयबद्ध एवं सरल ऋण उपलब्ध कराने हेतु आरंभ की गई किसान क्रेडिट कार्ड (KCC) योजना 1998 में किस समिति की सिफारिश पर शुरू की गई थी?

(A) M.S. Swaminathan Committee / एम.एस. स्वामीनाथन समिति

(B) R.V. Gupta Committee / आर.वी. गुप्ता समिति

(C) Narasimham Committee / नरसिम्हम समिति

(D) Rangarajan Committee / रंगराजन समिति

Q94. Who has the constitutional authority to dissolve the State Legislative Assembly before the completion of its term?

राज्य विधान सभा को उसके कार्यकाल की समाप्ति से पूर्व भंग करने का संवैधानिक अधिकार किसे प्राप्त है?

(A) Speaker of the Legislative Assembly / विधान सभा के अध्यक्ष को
(B) President of India / भारत के राष्ट्रपति को
(C) Governor, on the advice of the Chief Minister and Council of Ministers / राज्यपाल को, मुख्यमंत्री तथा मंत्रिपरिषद की सलाह पर
(D) Chief Justice of the High Court / उच्च न्यायालय के मुख्य न्यायाधीश को

Q95. The Sulaipet and Badampahar mines, known for high-grade iron ore deposits, are located in which Indian state?

उच्च कोटि के लौह अयस्क भंडारों के लिए प्रसिद्ध सुलैपेट तथा बादामपहाड़ खानें भारत के किस राज्य में स्थित हैं?

(A) Jharkhand / झारखंड
(B) Chhattisgarh / छत्तीसगढ़
(C) Odisha / ओडिशा
(D) Karnataka / कर्नाटक

Q96. The inward-looking trade strategy adopted in early Five-Year Plans is also known as:

आरंभिक पंचवर्षीय योजनाओं में अपनाई गई अंतर्मुखी व्यापार नीति को और किस नाम से जाना जाता है?

(A) Export promotion / निर्यात संवर्धन
(B) Import substitution / आयात प्रतिस्थापन
(C) Liberalisation / उदारीकरण
(D) Globalisation / वैश्वीकरण

Q97. According to Census 2011, what was the level of urbanisation in India?

जनगणना 2011 के अनुसार भारत में नगरीकरण का स्तर कितना था?

(A) 21.16%
(B) 25.50%
(C) 31.16%
(D) 36.20%

Q98. What is the primary function of an artificial kidney (dialysis machine) ?

कृत्रिम वृक्क (डायलिसिस मशीन) का प्रमुख कार्य क्या है?

(A) To produce urine / मूत्र का निर्माण करना
(B) To filter glucose from the blood / रक्त से ग्लूकोज को छानना
(C) To remove nitrogenous wastes like urea and creatinine / यूरिया तथा क्रिएटिनिन जैसे नाइट्रोजनी अपशिष्टों को हटाना
(D) To increase blood pressure / रक्तदाब बढ़ाना

Q99. Which of the following is a part of the central nervous system (CNS) in humans ?

निम्नलिखित में से कौन मनुष्य के केंद्रीय तंत्रिका तंत्र (CNS) का भाग है?

(A) Heart / हृदय
(B) Lungs / फेफड़े
(C) Spinal cord / मेरुरज्जु
(D) Kidney / वृक्क

Q100. **Who is the author of the ancient Indian treatise 'Arthashastra' ?**

प्राचीन भारतीय ग्रंथ 'अर्थशास्त्र' के रचयिता कौन हैं?

(A) Megasthenes / मेगस्थनीज
(B) Banabhatta / बाणभट्ट
(C) Kautilya (Chanakya) / कौटिल्य (चाणक्य)
(D) Kalidasa / कालिदास

airGurukul

Answer Key – SSC CHSL Tier-1 14 November 2025, Shift 3

1	B	2	A	3	A	4	A	5	D
6	A	7	B	8	B	9	B	10	A
11	B	12	B	13	B	14	B	15	D
16	B	17	C	18	B	19	D	20	A
21	B	22	A	23	D	24	C	25	A
26	C	27	C	28	D	29	D	30	C
31	A	32	B	33	C	34	C	35	B
36	B	37	B	38	A	39	C	40	D
41	A	42	C	43	D	44	C	45	B
46	A	47	C	48	B	49	D	50	D
51	D	52	A	53	B	54	A	55	B
56	B	57	A	58	D	59	C	60	A
61	B	62	C	63	A	64	A	65	A
66	A	67	D	68	B	69	C	70	A
71	B	72	C	73	B	74	A	75	C
76	D	77	C	78	C	79	C	80	C
81	B	82	B	83	B	84	C	85	B
86	C	87	B	88	C	89	C	90	B
91	C	92	C	93	B	94	C	95	C
96	B	97	C	98	C	99	C	100	C

Why is an answer correct?
Scan for detailed solutions of all 100 questions in Hindi & English – free with login.

Keep practising with airGurukul

All SSC CHSL Tier-1 previous year papers – free PDFs, online tests and solved eBooks at **airgurukul.com/library/pyp/ssc-chsl-tier-1**.

Attempt this paper online – free
Full test and section-wise tests with timer, score and rank at airgurukul.com/test-series

Join airGurukul

Telegram Channel
t.me/airgurukulofficial

WhatsApp Channel
whatsapp.com/channel/0029VbBP7n00VycAFq6AGJ0l

YouTube Channel
youtube.com/@airGurukulSSCExams

Android App
play.google.com/...?id=in.airgurukul

airGurukul

airGurukul Institute for Career Growth · Prince Edutech Private Limited
Call +91-7042559948 · info@airgurukul.com · www.airgurukul.com