airGurukul

Preparing Bharat, Empowering Futures

SSC CHSL Tier-1 2025 Question Paper

25 November 2025, Shift 3 · with Answer Key

100 questions | 200 marks | 60 minutes | +2 / −0.5 | Hindi + English

Attempt this paper online – free

Real exam timer, instant score, all-India rank and detailed solutions in Hindi & English.

Scan · airgurukul.com/test-series

Call +91-7042559948 · www.airgurukul.com

Telegram Channel
t.me/airgurukulofficial

WhatsApp Channel
whatsapp.com/channel/0029VbBP7n00VycAFq6AGJ0l

YouTube Channel
youtube.com/@airGurukulSSCExams

Android App
play.google.com/...?id=in.airgurukul

Instructions

1. Total 100 questions (English Language 25, General Intelligence 25, Quantitative Aptitude 25, General Awareness 25).
2. Each correct answer carries 2 marks; 0.5 mark is deducted for each wrong answer.
3. Answer key is given at the end. Detailed solutions: scan the QR code on the last page.

Section 1: English Language (Q1–25)

Q1. **Choose the one word substitute for the below sentence.**

Susan asked her husband, a person who is highly knowledgeable in a particular field?

(A) Amateur
(B) Novice
(C) Expert
(D) Prodigy

Q2. **Choose the one word substitute for the below sentence.**

Robert was curious about what a person who abandons his religion is called.

(A) Apostate
(B) Agnostic
(C) Devotee
(D) Infidel

Q3. **Identify the grammatically incorrect sentence.**

(A) The basic principles of science is hard to grasp.
(B) Responses to the annual play have been favourable.
(C) The writer of the stories in these books is Mary Gomes.
(D) Several lines in the poem are particularly good.

Q4. **Fill in the blank with the most appropriate preposition:**

The professor insisted ___ absolute silence during class.

(A) over
(B) with
(C) on
(D) at

Q5. **Choose the best option to replace the underlined part to improve the given sentence. If no substitution is required, select 'No substitution.'**

People applauded as Rohit <u>stepped from</u> the car.

(A) stepped out of
(B) stepped off the car
(C) stepped out the car
(D) No substitution

Q6. **Select the sentence containing the homonym of the highlighted word:**

He gave him a small <u>wave</u> before departing.

(A) The crowd gave a cheerful wave to the president.
(B) A huge wave crashed onto the shore.
(C) Anita gave him a friendly wave as she walked out the door.
(D) Anwar gave a final wave to his family as the plane took off.

Q7. **From the alternatives given below, select the correct passive voice of the following sentence.**

Do not put your arm over the stove lest you should burn your skin.

(A) Let your arm be not put over the stove lest your skin should be burnt.
(B) Lest your arm be not put over the stove let your skin should be burnt.
(C) Let your arm not put over the stove lest your skin should be burnt.
(D) Let your arm be not put over the stove lest your skin should burn.

Q8. **From the alternatives given below, select the correct passive voice of the following sentence.**

Let her wrap the gift with that blue paper kept on the shelf.

(A) Let the paper be wrapped with by her the gift with that blue paper kept on the shelf.
(B) Let the gift wrapped by her with that blue paper be kept on the shelf.
(C) Let the gift be wrapped with that blue paper by her kept on the shelf.
(D) Let the gift be wrapped by her with that blue paper kept on the shelf.

Q9. **Choose the correct indirect narration of the following statement from the given alternatives:**

Priya said to her father, 'Please help me with my homework."

(A) Priya requested her father to help her with her homework.
(B) Priya requested her father to please help her with her homework.
(C) Priya requested her father to help me with her homework.
(D) Priya requested her father to help me with my homework.

Q10. **Choose the correct indirect narration of the following statement from the given alternatives:**

He said to Mohit, 'What is the matter with you that you look so cross today?'

(A) He asked Mohit what was the matter with him that he looked so cross today.
(B) He asked Mohit what was the matter with him that he looked so cross that day.
(C) He asked Mohit what was the matter with him that he looks so cross that day.
(D) He asked Mohit what is the matter with him that he looked so cross that day.

Q11. **Choose the correct indirect narration of the following statement from the given alternatives:**

The teacher said to the student, "What were you doing in the library at 9:00 am on Friday when the event took place?"

(A) The teacher asked the student what he was doing in the library at 9:00 am on Friday when the event had taken place.

(B) The teacher asked the student what he had been doing in the library at 9:00 am on Friday when the event took place.

(C) The teacher asked the student what he had been doing in the library at 9:00 am on Friday when the event had taken place.

(D) The teacher asked the student what was doing in the library at 9:00 am on Friday when the event took place.

Q12. **Change the following sentence into the Active form.**

The prize will be presented to the champion.

(A) They will present the prize to the champion.

(B) The champion will be presented with the prize.

(C) The prize is presented to the champion.

(D) The prize was presented to the champion.

Q13. **Change the following sentence into the Active form.**

The project had been completed by the engineers.

(A) The engineers completed the project.

(B) The project was completed by the engineers.

(C) The engineers had completed the project.

(D) The engineers have completed the project.

Q14. **Choose the option that is the most appropriate conversion of the following sentence into Direct Speech.**

The researcher commented that the survey results had evidently been misunderstood, which might have distorted the findings.

(A) The researcher said, "The survey results are evidently misunderstood, which might have distorted the findings."
(B) The researcher said, "The survey results had evidently been misunderstood, which has distorted the findings."
(C) The researcher said, "The survey results have evidently been misunderstood, which may have distorted the findings."
(D) The researcher said, "The survey results were evidently misunderstood, which distorted the findings."

Directions (Qs. 15-19): Read the following passage carefully and answer the questions that follow.

In a world shifting towards flexible work, managing remote productivity has become a significant topic for companies and employees alike. While telecommuting has transformed how business is conducted and expanded, excessive isolation can have adverse effects on workers. Various reports have suggested that unchecked isolation may lead to burnout, lower job satisfaction, and weakened team cohesion.

Conversely, when managed effectively, remote work can boost autonomy, efficiency, and work-life balance. Thus, managers argue for a structured framework, highlighting the necessity for regular check-ins and shared goals. Promoting social interaction, tracking progress, and defining boundaries are key methods recommended to ensure that flexibility acts as a benefit rather than a hurdle to an organization's success.

Q15. **Choose the option that correctly converts this sentence into passive voice:**

"Managers argue for a structured framework."

(A) A structured framework was argued by managers.
(B) A structured framework has been arguing by managers.
(C) A structured framework is argued for by managers.
(D) A structured framework argues managers.

Q16. **Which of the following sentences from the passage contains a present perfect tense verb?**

(A) Managing remote productivity has become a significant topic.
(B) Promoting social interaction, tracking progress, and defining boundaries are key methods.
(C) Managers argue for a structured framework.
(D) Excessive isolation can have adverse effects on workers.

Q17. What does the word "adverse" most nearly mean as used in the passage?

(A) Helpful
(B) Unfavorable
(C) Invisible
(D) Temporary

Q18. Which word is the closest synonym for "hurdle" as used in the passage?

(A) Obstacle
(B) Advantage
(C) Pathway
(D) Strategy

Q19. According to the passage, what is one way to ensure remote work benefits the organization?

(A) Avoid any use of telecommuting tools entirely.
(B) Allow employees to work in total isolation.
(C) Define boundaries and promote social interaction.
(D) Encourage employees to ignore shared goals.

Q20. Which word is nearest in meaning to imbued?

Her speech was powerful, as if imbued with deep emotion.

(A) Lacking
(B) Removed
(C) Infused
(D) Depleted

Q21. Which word can best replace groped?

In the darkness, she groped through her bag to find the keys.

(A) Threw
(B) Fumbled
(C) Observed
(D) Arranged

Q22. Which of the following options is NOT a meaning of the homonym 'content'?

(A) The subject matter or information included in a book, document, or programme
(B) A feeling of satisfaction or quiet happiness
(C) The quantity or proportion of a particular substance present in something
(D) A vessel or container used for holding liquids

Q23. Fill in the blank with the correctly spelt word.

The doctor diagnosed a rare inherited ___ condition during the examination.

(A) hemaglobinopathy
(B) hemoglobinapathy
(C) haemoglobinopathi
(D) hemoglobinopathy

Q24. **Fill in the blank with the correctly spelt word.**

The archaeologist studied the ___ layers of the ancient site.

(A) stratographic
(B) stratigraphic
(C) strategraphic
(D) stratigrafik

Q25. **Which part of the following sentence contains a spelling error?**

The scholar's thesis (1) on modern histriography (2) received acclaim for its clarity, insight, (3) and analytical approach (4).

(A) (4)
(B) (3)
(C) (2)
(D) (1)

Section 2: General Intelligence (Q26–50)

Q26. **In this type of questions, question is provided with substitutes for various mathematical symbols, followed by a question involving calculation of an expression or choosing the correct/incorrect equation. You have to put the real signs in the given equation and then solve the questions as required. If '*' stands for ' C ', ' $\$$ ' stands for ' $\times$ ', '!' stands for '÷', '~' stands for '+', then find the value of:** $24!9*4*6 =$ **?**

इस प्रकार के प्रश्नों में विभिन्न गणितीय चिह्नों के स्थान पर उनके प्रतिस्थापी प्रतीक दिए जाते हैं, और उसके बाद किसी व्यंजक का मान निकालने अथवा सही/गलत समीकरण चुनने का प्रश्न पूछा जाता है। आपको दिए गए समीकरण में वास्तविक चिह्न रखकर प्रश्न को हल करना है। यदि '*' का अर्थ ' C ' है, ' $\$$ ' का अर्थ ' $\times$ ' है, '!' का अर्थ '÷' है, '~' का अर्थ '+' है, तो निम्नलिखित का मान ज्ञात कीजिए: $24!9*4*6 =$?

(A) $\frac{-22}{3}$
(B) $\frac{-25}{3}$
(C) $\frac{-21}{3}$
(D) $\frac{-27}{3}$

Q27. **A person walks 5 km south, then 7 km west, and finally 5 km north. In which direction is he from his starting point?**

एक व्यक्ति 5 km दक्षिण की ओर चलता है, फिर 7 km पश्चिम की ओर और अंत में 5 km उत्तर की ओर चलता है। वह अपने प्रारंभिक बिंदु से किस दिशा में है?

(A) North / उत्तर
(B) South / दक्षिण
(C) East / पूर्व
(D) West / पश्चिम

Q28. **A piece of paper is folded and punched as shown below in the question figures. From the given option figures, indicate how it will appear when opened.**

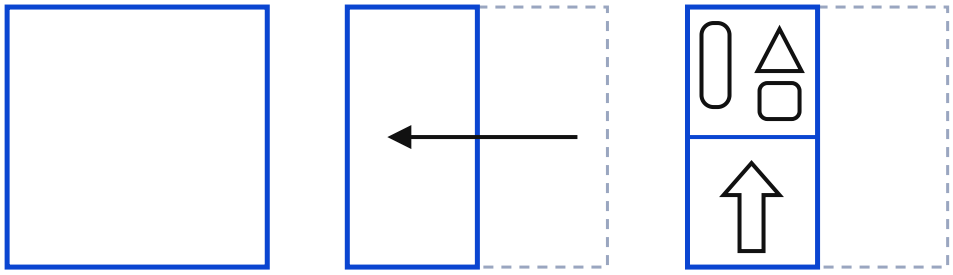

एक कागज़ को मोड़ा और छेदा गया है, जैसा कि नीचे प्रश्न आकृतियों में दर्शाया गया है। दी गई विकल्प आकृतियों में से बताइए कि खोलने पर वह कैसा दिखाई देगा।

(A) 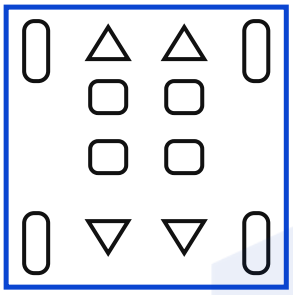

(B) 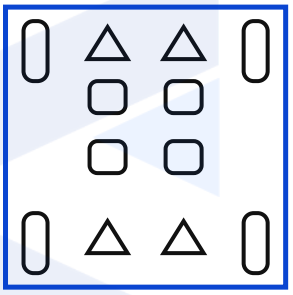

(C) 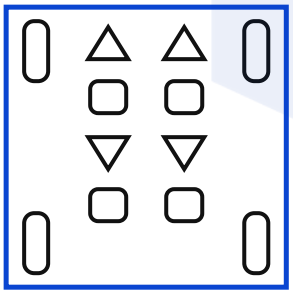

(D) 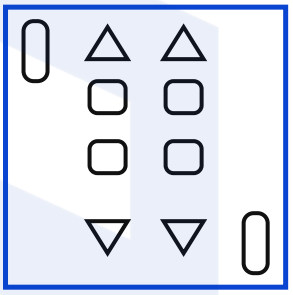

Q29. **Pick the correct options from below.**

12,27,48,75,?

नीचे दिए गए विकल्पों में से सही विकल्प चुनिए।

12,27,48,75,?

(A) 100
(B) 108
(C) 96
(D) 112

Q30. **Five friends Rahul, Ritu, Ramesh, Rohan, and Reena were born in different consecutive years starting from 2002.Reena was neither born in 2003 nor in 2006.Rahul is the oldest among all. Ritu is younger than Rohan. Ramesh was born in a leap year. Who was born in 2003?**

पाँच मित्र Rahul, Ritu, Ramesh, Rohan और Reena का जन्म 2002 से आरंभ होने वाले भिन्न-भिन्न क्रमागत वर्षों में हुआ। Reena का जन्म न तो 2003 में हुआ और न ही 2006 में। Rahul सबसे बड़ा है। Ritu, Rohan से छोटी है। Ramesh का जन्म एक अधिवर्ष (leap year) में हुआ। 2003 में किसका जन्म हुआ?

(A) Rohan
(B) Ritu
(C) Reena
(D) Ramesh

Q31. **You are given a Master Address (MA) from official records. Your task is to identify the correct candidate address that matches exactly with the master address in terms of formatting, punctuation, spelling, and structure.**

Master Address (MA):
H.No-21, Sector B-4, Green Valley, MG Road, Jaipur - 302015
Candidate Addresses:

आपको आधिकारिक अभिलेखों से एक मास्टर पता (MA) दिया गया है। आपका कार्य उस अभ्यर्थी पते की पहचान करना है जो प्रारूप, विराम-चिह्न, वर्तनी तथा संरचना की दृष्टि से मास्टर पते से पूर्णतः मेल खाता हो।

मास्टर पता (MA):
H.No-21, Sector B-4, Green Valley, MG Road, Jaipur - 302015 अभ्यर्थी पते:

(A) H.No-21, Sector B-4, Green Valley, M.G. Road, Jaipur - 302015
(B) H.No.21, Sector B-4, Green Valley, MG Road, Jaipur - 302015
(C) H.No-21, Sector B 4, Green Valley, MG Road, Jaipur - 302015
(D) H.No-21, Sector B-4, Green Valley, MG Road, Jaipur - 302015

Q32. **Identify the next number in the sequence.**

6, 18, 36, 60, 90, ?

अनुक्रम में अगली संख्या ज्ञात कीजिए।

6, 18, 36, 60, 90, ?

(A) 126
(B) 132
(C) 138
(D) 144

Q33. **In the following question, select the number which can be placed at the sign of question mark (?) from the given alternatives.**

निम्नलिखित प्रश्न में, दिए गए विकल्पों में से वह संख्या चुनिए जिसे प्रश्नवाचक चिह्न (?) के स्थान पर रखा जा सकता है।

(A) 13
(B) 14
(C) 5
(D) 9

Q34. **In the following question, select the number which can be placed at the sign of question mark (?) from the given alternatives.**

निम्नलिखित प्रश्न में, दिए गए विकल्पों में से वह संख्या चुनिए जिसे प्रश्नवाचक चिह्न (?) के स्थान पर रखा जा सकता है।

(A) 7
(B) 4
(C) 8
(D) 9

Q35. **How many triangles are there in the given figure ?**

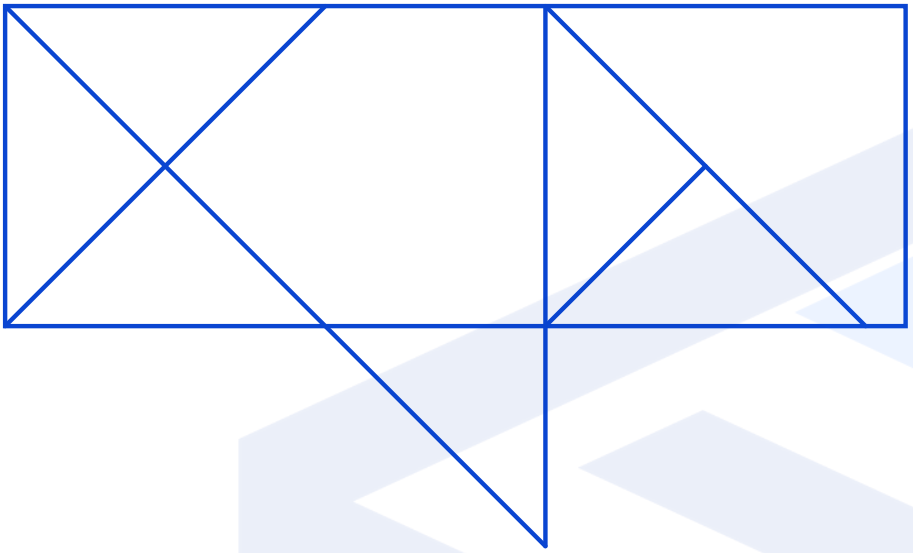

दी गई आकृति में कितने त्रिभुज हैं ?

(A) 8
(B) 10
(C) 9
(D) 11

Q36. **How many triangles are there in the given figure ?**

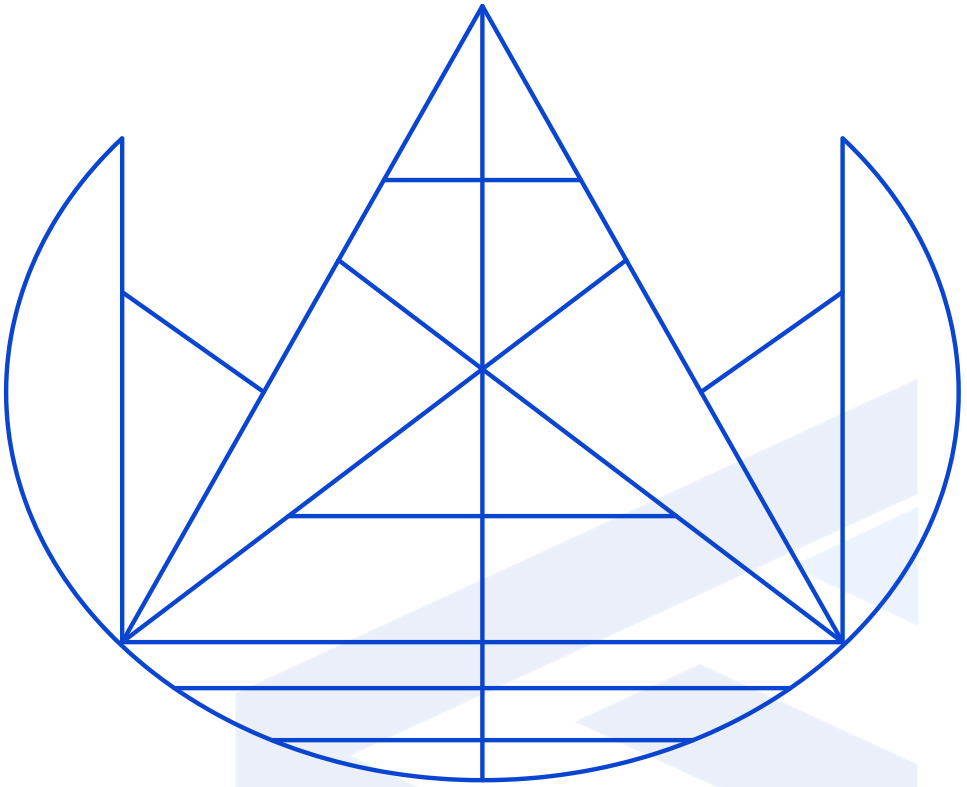

दी गई आकृति में कितने त्रिभुज हैं ?

(A) 22
(B) 23
(C) 24
(D) 20

Q37. **5 persons P, Q, R, S and T are sitting around a circular table facing towards the centre (not necessarily in the same order). Q is sitting second to the right of $S.P$ is sitting second to the right of $Q.R$ is not an immediate neighbour of P. Who is to the immediate right of P ?**

5 व्यक्ति P, Q, R, S और T एक वृत्ताकार मेज़ के चारों ओर केंद्र की ओर मुख करके बैठे हैं (आवश्यक नहीं कि इसी क्रम में)। Q, $S.P$ के दाईं ओर दूसरे स्थान पर बैठा है, $Q.R$ के दाईं ओर दूसरे स्थान पर बैठा है, P का निकटतम पड़ोसी नहीं है। P के ठीक दाईं ओर कौन है ?

(A) T
(B) Q
(C) R
(D) S

Q38. **5 persons P, Q, R, S and T are sitting around a circular table facing towards the centre (not necessarily in the same order). Q is sitting second to the right of S. P is sitting second to the right of $Q.R$ is not an immediate neighbour of P . Who is sitting third to the right of R ?**

5 व्यक्ति P, Q, R, S और T एक वृत्ताकार मेज़ के चारों ओर केंद्र की ओर मुख करके बैठे हैं (आवश्यक नहीं कि इसी क्रम में)। Q, S के दाईं ओर दूसरे स्थान पर बैठा है। P, $Q.R$ के दाईं ओर दूसरे स्थान पर बैठा है, P का निकटतम पड़ोसी नहीं है। R के दाईं ओर तीसरे स्थान पर कौन बैठा है ?

(A) Q
(B) P
(C) S
(D) T

Q39. **A man is facing towards North. By taking which of the following combination of turns, he will be finally facing towards West?**

एक व्यक्ति उत्तर दिशा की ओर मुख किए हुए है। निम्नलिखित में से मोड़ों के किस संयोजन को अपनाने पर वह अंत में पश्चिम दिशा की ओर मुख किए होगा?

(A) Left, Right, Left, Right, Right / बाएँ, दाएँ, बाएँ, दाएँ, दाएँ

(B) Right, Left, Right, Left, Left / दाएँ, बाएँ, दाएँ, बाएँ, बाएँ

(C) Right, Right, Right, Left, Left / दाएँ, दाएँ, दाएँ, बाएँ, बाएँ

(D) Right, Right, Left, Right, Left / दाएँ, दाएँ, बाएँ, दाएँ, बाएँ

Q40. **Which option figure will complete the pattern in the question figure? (Rotation is not allowed)**



कौन-सी विकल्प आकृति प्रश्न आकृति के प्रतिरूप को पूर्ण करेगी? (घुमाने की अनुमति नहीं है)

(A)
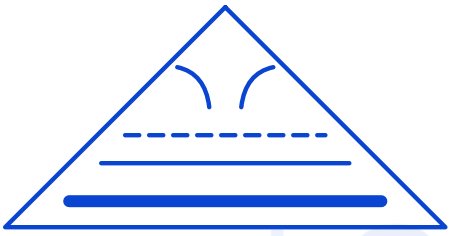

(B)


(C)


(D)


Q41. **In the following figure series, select the figure which can be placed at the sign of question mark (?) from the given alternatives.**

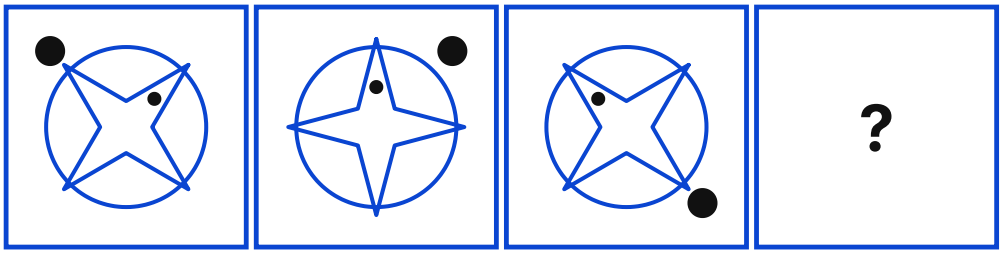

निम्नलिखित आकृति श्रृंखला में, दिए गए विकल्पों में से उस आकृति का चयन कीजिए जिसे प्रश्नवाचक चिह्न (?) के स्थान पर रखा जा सकता है।

(A) 

(B) 

(C) 

(D) 

airGurukul

Q42. **In the following figure series, select the figure which can be placed at the sign of question mark (?) from the given alternatives.**

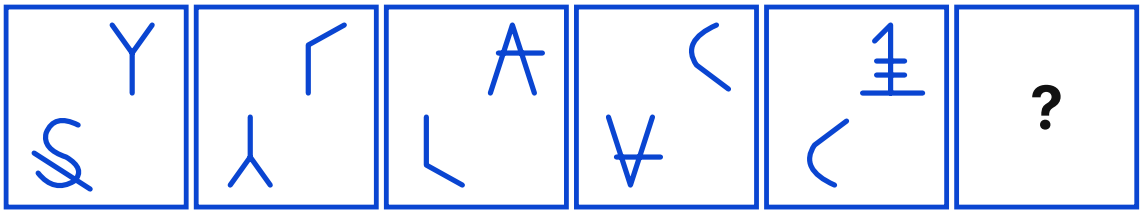

निम्नलिखित आकृति श्रृंखला में, दिए गए विकल्पों में से उस आकृति का चयन कीजिए जिसे प्रश्नवाचक चिह्न (?) के स्थान पर रखा जा सकता है।

(A) 

(B) 

(C) 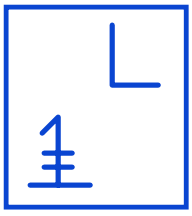

(D) 

Q43. **If 'A' means '÷', 'B' means 'x', 'C' means '+' and 'D' means '-', then find the value of :-**

36A4B2C8D5=?

यदि 'A' का अर्थ '÷' है, 'B' का अर्थ 'x' है, 'C' का अर्थ '+' है तथा 'D' का अर्थ '-' है, तो निम्नलिखित का मान ज्ञात कीजिए :-

36A4B2C8D5=?

(A) 15
(B) 21
(C) 25
(D) 19

Q44. **By interchanging the given two numbers (not digits) which of the following equation will NOT be correct ? 5 and 9**

I. $9 \times 4 + 5 - 6 \div 2 = 20$
II. $3 \times 5 + 9 - 12 \div 4 = 34$

दी गई दो संख्याओं (अंकों को नहीं) को आपस में बदलने पर निम्नलिखित में से कौन-सा समीकरण सही नहीं होगा? 5 और 9

I. $9 \times 4 + 5 - 6 \div 2 = 20$
II. $3 \times 5 + 9 - 12 \div 4 = 34$

(A) Only I / केवल I
(B) Only II / केवल II
(C) Both I and II / I और II दोनों
(D) Neither I nor II / न तो I और न ही II

Q45. **In the following question, four number pairs are given. In each pair the number on left side of (-) is related to the number of the right side of (-) with some Logic/Rule/Relation. Three pairs are similar on the basis of same Logic / Rule /Relation. Select the odd one out from the given alternatives.**

(NOTE: Operations should be performed on the whole numbers, without breaking down the number into its constituent digits. E.g. 13 - Operations on 13 such as adding /subtracting /multiplying etc. to 13 can be performed. Breaking down 13 into 1 and 3 and then performing mathematical operations on 1 and 3 is not allowed)

निम्नलिखित प्रश्न में चार संख्या-युग्म दिए गए हैं। प्रत्येक युग्म में (-) के बाईं ओर की संख्या दाईं ओर की संख्या से किसी तर्क/नियम/संबंध द्वारा संबंधित है। तीन युग्म एक ही तर्क/नियम/संबंध के आधार पर समान हैं। दिए गए विकल्पों में से असंगत युग्म का चयन कीजिए।

(नोट: संक्रियाएँ पूर्ण संख्याओं पर की जानी चाहिए, संख्या को उसके अंकों में तोड़े बिना। जैसे 13 - 13 पर जोड़ना/घटाना/गुणा करना आदि संक्रियाएँ की जा सकती हैं। 13 को 1 और 3 में तोड़कर फिर 1 और 3 पर गणितीय संक्रियाएँ करना मान्य नहीं है।)

(A) 17-289
(B) 16-256
(C) 15-225
(D) 14-197

Q46. **In a certain coded language 'GOLD' is coded as 'BIGX' and 'FISH' is coded as 'ACNB'. How will 'TASK' be coded in the same code language?**

एक निश्चित कूट भाषा में 'GOLD' को 'BIGX' के रूप में तथा 'FISH' को 'ACNB' के रूप में कूटबद्ध किया जाता है। उसी कूट भाषा में 'TASK' को किस प्रकार कूटबद्ध किया जाएगा?

(A) OTND
(B) OUNE
(C) PVNF
(D) PTMD

Q47. **In a certain code language, 'study work hard success' is coded as 'la ka ma na', 'hard play daily growth' is coded as 'ma ta pa sa', and 'work growth focus result' is coded as 'ka pa ra va'. How will 'work growth' be coded in that code language ?**

एक निश्चित कूट भाषा में 'study work hard success' को 'la ka ma na', 'hard play daily growth' को 'ma ta pa sa' तथा 'work growth focus result' को 'ka pa ra va' के रूप में कूटबद्ध किया जाता है। उस कूट भाषा में 'work growth' को किस प्रकार कूटबद्ध किया जाएगा?

(A) la ma
(B) ka pa
(C) na sa
(D) ta ra

Q48. **From the given alternatives, select the word that CANNOT be formed by using the letters of the given word. DEMOCRATIC**

दिए गए विकल्पों में से उस शब्द का चयन कीजिए, जिसे दिए गए शब्द के अक्षरों का प्रयोग करके नहीं बनाया जा सकता।
DEMOCRATIC

(A) COMRADE
(B) CREDIT
(C) ACTION
(D) METRIC

Q49. **From the given alternatives, select the word that CANNOT be formed by using the letters of the given word. COMMUNICATION**

दिए गए विकल्पों में से उस शब्द का चयन कीजिए, जिसे दिए गए शब्द के अक्षरों का प्रयोग करके नहीं बनाया जा सकता।
COMMUNICATION

(A) ACTION
(B) UNION
(C) MUSIC
(D) MOTION

Q50. **A series is given with one term missing. Select the correct alternative from the given ones that will complete the series.**

MZ200 , KV245 , IR290 , GN335 , ?

एक श्रृंखला दी गई है जिसमें एक पद लुप्त है। दिए गए विकल्पों में से उस सही विकल्प का चयन कीजिए, जो श्रृंखला को पूर्ण करेगा।

MZ200 , KV245 , IR290 , GN335 , ?

(A) EI385
(B) DJ370
(C) EJ380
(D) FK380

airGurukul

Want to clear SSC CHSL Tier-1?

Prepare with **Samyān (सम्यान) 1.0 – SSC Foundation Course** – structured classes, practice and doubt support for SSC CHSL Tier-1.

Every PYP as an online test
Shift-wise papers with timer, score and rank.

Detailed solutions
Step-by-step answers in Hindi and English.

Free live classes
Daily classes on our YouTube channel airGurukul SSC Exams.

Exam updates
Notifications, admit cards and results on WhatsApp.

See the course

Attempt this paper online

Detailed solutions

Free classes & exam updates

Telegram Channel
t.me/airgurukulofficial

WhatsApp Channel
whatsapp.com/channel/0029VbBP7n00VycAFq6AGJ0I

YouTube Channel
youtube.com/@airGurukulSSCExams

Android App
play.google.com/...?id=in.airgurukul

Call / WhatsApp **+91-7042559948** · www.airgurukul.com

Section 3: Quantitative Aptitude (Q51–75)

Q51. **An article sold for Rs. 960 after a discount of 20%. What was the marked price?**

एक वस्तु 20% की छूट के बाद Rs. 960 में बेची गई। उसका अंकित मूल्य क्या था?

(A) Rs. 1250
(B) Rs. 1100
(C) Rs. 1200
(D) Rs. 1000

Q52. **In a warehouse, 9 crates of goods have an average weight of 94.5 kg . One of the crates, weighing 89.2 kg , is replaced by a new crate. As a result, the average weight becomes 97.1 kg . Later, 5 more crates are added, each weighing 101.3 kg . What is the weight of the new crate that replaced the old one ?**

एक गोदाम में सामान के 9 क्रेटों का औसत भार 94.5 kg है। इनमें से 89.2 kg भार वाले एक क्रेट को एक नए क्रेट से बदल दिया जाता है। परिणामस्वरूप औसत भार 97.1 kg हो जाता है। बाद में 101.3 kg भार वाले 5 और क्रेट जोड़ दिए जाते हैं। पुराने क्रेट के स्थान पर रखे गए नए क्रेट का भार कितना है?

(A) 116.8 kg
(B) 118.1 kg
(C) 112.6 kg
(D) 115.7 kg

Q53. **A right circular cone has a height of 15 cm and a radius of 8 cm . Find its slant height and curved surface area.**

एक लंब वृत्तीय शंकु की ऊँचाई 15 cm तथा त्रिज्या 8 cm है। इसकी तिर्यक ऊँचाई और वक्र पृष्ठीय क्षेत्रफल ज्ञात कीजिए।

(A) 17 cm and 427.42cm^2 / 17 cm तथा 427.42cm^2
(B) 12 cm and 504.2cm^2 / 12 cm तथा 504.2cm^2
(C) 18 cm and 204.2cm^2 / 18 cm तथा 204.2cm^2
(D) 17 cm and 604.2cm^2 / 17 cm तथा 604.2cm^2

Q54. **If in a right-angled triangle, $\sin A = \frac{8}{17}$, find the value of $\cot A - \cos A$.**

यदि एक समकोण त्रिभुज में $\sin A = \frac{8}{17}$ है, तो $\cot A - \cos A$ का मान ज्ञात कीजिए।

(A) $\frac{121}{136}$
(B) $\frac{87}{136}$
(C) $\frac{95}{136}$
(D) $\frac{135}{136}$

Q55. **Two circles with centers C_1 and C_2 have radii $r_1 = 7\text{cm}$ and $r_2 = 5\text{cm}$, respectively. The distance between their centers is 13 cm . A common internal tangent touches the circles at points A_1 and A_2. What is the length of the segment A_1A_2 ?**

केंद्र C_1 तथा C_2 वाले दो वृत्तों की त्रिज्याएँ क्रमशः $r_1 = 7\text{cm}$ तथा $r_2 = 5\text{cm}$ हैं। उनके केंद्रों के बीच की दूरी 13 cm है। एक उभयनिष्ठ आंतरिक स्पर्श रेखा वृत्तों को A_1 तथा A_2 बिंदुओं पर स्पर्श करती है। रेखाखंड A_1A_2 की लंबाई कितनी है?

(A) 6 cm
(B) 4 cm
(C) 5 cm
(D) 7 cm

Q56. **From point ' A ' on the ground, a long metallic cable is laid to the top of a cliff, making an angle of 60° with the ground such that the length of the cable laid is $540\sqrt{2}$ metres. Find the distance between point ' A ' and the foot of the cliff.**

ज़मीन पर स्थित बिंदु ' A ' से एक चट्टान की चोटी तक एक लंबी धातु की केबल इस प्रकार डाली गई है कि वह ज़मीन के साथ 60° का कोण बनाती है और डाली गई केबल की लंबाई $540\sqrt{2}$ मीटर है। बिंदु ' A ' तथा चट्टान के पाद के बीच की दूरी ज्ञात कीजिए।

(A) $370\sqrt{2}$ metres / $370\sqrt{2}$ मीटर
(B) $450\sqrt{2}$ metres / $450\sqrt{2}$ मीटर
(C) $270\sqrt{2}$ metres / $270\sqrt{2}$ मीटर
(D) $570\sqrt{2}$ metres / $570\sqrt{2}$ मीटर

Q57. **The ratio of gold to copper in a bracelet is $5:8$. If the price of copper is $\frac{1}{12}$ th the price of gold, find the cost of the bracelet if the cost of copper in the bracelet is 32000 rupees.**

एक कंगन में सोने और ताँबे का अनुपात $5:8$ है। यदि ताँबे का मूल्य सोने के मूल्य का $\frac{1}{12}$ वाँ भाग है, तो कंगन की लागत ज्ञात कीजिए, जबकि कंगन में लगे ताँबे की लागत 32000 रुपये है।

(A) Rs. 280000
(B) Rs. 290000
(C) Rs. 272000
(D) Rs. 278000

Q58. **Rice worth Rs. 140 per kg and Rs. 150 per kg are mixed with a third variety in the ratio $2:2:3$. If the mixture is worth Rs. 160 per kg, what is the price of the third variety per kg?**

Rs. 140 प्रति kg तथा Rs. 150 प्रति kg मूल्य के चावल को एक तीसरी किस्म के साथ $2:2:3$ के अनुपात में मिलाया जाता है। यदि मिश्रण का मूल्य Rs. 160 प्रति kg है, तो तीसरी किस्म का मूल्य प्रति kg कितना है?

(A) 180
(B) 185
(C) 175
(D) 190

Q59. **Ajay is thrice as good a workman as Vipin and therefore can finish a job in 40 days less than Vipin. How many days are required to complete the job if working together ?**

अजय, विपिन से तीन गुना अच्छा कारीगर है और इसलिए वह एक काम को विपिन से 40 दिन कम में पूरा कर सकता है। यदि दोनों साथ मिलकर काम करें, तो उस काम को पूरा करने में कितने दिन लगेंगे?

(A) 13 days / 13 दिन
(B) 22 days / 22 दिन
(C) 15 days / 15 दिन
(D) 26 days / 26 दिन

Q60. **If $\cot\theta + \tan\theta = 8$, and θ is an acute angle, find the value of $\cot^2\theta + \tan^2\theta$.**

यदि $\cot\theta + \tan\theta = 8$ है तथा θ एक न्यून कोण है, तो $\cot^2\theta + \tan^2\theta$ का मान ज्ञात कीजिए।

(A) 60
(B) 61
(C) 62
(D) 63

Q61. **A person covers some distance by car, travelling at 65 km/h in 6.6 hours, and the remaining distance by bus, travelling at 57.5 km/h in 6.2 hours. Find the total distance travelled by the person.**

एक व्यक्ति कुछ दूरी कार से 65 km/h की चाल से 6.6 घंटे में तय करता है, और शेष दूरी बस से 57.5 km/h की चाल से 6.2 घंटे में तय करता है। व्यक्ति द्वारा तय की गई कुल दूरी ज्ञात कीजिए।

(A) 772.5 km
(B) 788 km
(C) 767 km
(D) 785.5 km

Q62. **In a circle with center O, PQ is a chord. OM is perpendicular to PQ , and M is the midpoint of PQ . If the angle $\angle \mathrm{POQ} = 60^{\circ}$, and the radius of the circle is 12 cm , what is the length of the chord PQ ?**

एक वृत्त में, केंद्र O, PQ एक जीवा है। OM, PQ पर लंब है, और M, PQ का मध्यबिंदु है। यदि कोण $\angle \mathrm{POQ} = 60^{\circ}$ है, तथा वृत्त की त्रिज्या 12 cm है, तो जीवा PQ की लंबाई कितनी है?

(A) $6\sqrt{3}\ \mathrm{cm}$
(B) $12\sqrt{2}\ \mathrm{cm}$
(C) 12 cm
(D) $12\sqrt{3}\ \mathrm{cm}$

Q63. **A solid metallic sphere of radius R is heated so that its radius increases by 20%. Find the approximate percentage increase in its volume.**

त्रिज्या R वाले एक ठोस धात्विक गोले को गर्म किया जाता है, जिससे उसकी त्रिज्या 20% बढ़ जाती है। उसके आयतन में लगभग कितने प्रतिशत की वृद्धि होगी, ज्ञात कीजिए।

(A) 70%
(B) 72.8 %
(C) 71%
(D) 75%

Q64. **In a parallelogram, the diagonals are 34 cm and 16 cm and intersect at right angles. Find the side length and the area of the parallelogram.**

एक समांतर चतुर्भुज में, विकर्ण 34 cm और 16 cm हैं तथा वे परस्पर समकोण पर प्रतिच्छेद करते हैं। समांतर चतुर्भुज की भुजा की लंबाई और क्षेत्रफल ज्ञात कीजिए।

(A) $\sqrt{353}\ \mathrm{cm}$ and $272\mathrm{cm}^2$ / $\sqrt{353}\ \mathrm{cm}$ और $272\mathrm{cm}^2$
(B) $\sqrt{367}\ \mathrm{cm}$ and $272\mathrm{cm}^2$ / $\sqrt{367}\ \mathrm{cm}$ और $272\mathrm{cm}^2$
(C) $\sqrt{398}\ \mathrm{cm}$ and $210\mathrm{cm}^2$ / $\sqrt{398}\ \mathrm{cm}$ और $210\mathrm{cm}^2$
(D) $\sqrt{353}\ \mathrm{cm}$ and $240\mathrm{cm}^2$ / $\sqrt{353}\ \mathrm{cm}$ और $240\mathrm{cm}^2$

Q65. **A trader marks up an article by 20% on its cost price. He then offers two successive discounts: 10% followed by 5% on the marked price. If the cost price (CP) is ₹520, what is the final profit or loss percent ?**

एक व्यापारी किसी वस्तु पर उसके क्रय मूल्य से 20% अधिक अंकित मूल्य रखता है। इसके बाद वह अंकित मूल्य पर दो क्रमिक छूट देता है: पहले 10% और फिर 5%। यदि क्रय मूल्य (CP) ₹520 है, तो अंतिम लाभ या हानि प्रतिशत क्या है?

(A) 2.6%Profit / 2.6% लाभ
(B) 3.6% Loss / 3.6% हानि
(C) 2.6% Loss / 2.6% हानि
(D) 3.6% Profit / 3.6% लाभ

Q66. **Shivan and Balram enter into a partnership with capitals in the ratio 3 : 5. If the total profit is Rs 16,000 , what will Shivan share be ?**

शिवन और बलराम 3 : 5 के अनुपात में पूँजी लगाकर एक साझेदारी में प्रवेश करते हैं। यदि कुल लाभ Rs 16,000 है, तो शिवन का हिस्सा कितना होगा?

(A) Rs 3,600
(B) Rs 4,000
(C) Rs 4,500
(D) Rs 6,000

Q67. **The ratio of the length to the width of a rectangle is $8:5$. If its perimeter is 104 cm , what is its area ?**

एक आयत की लंबाई और चौड़ाई का अनुपात $8:5$ है। यदि उसका परिमाप 104 cm है, तो उसका क्षेत्रफल क्या है?

(A) 640cm^2
(B) 604cm^2
(C) 644cm^2
(D) 600cm^2

Q68. **Aman's daily water intake for 5 days was 2.5 L, 3 L, 2 L, 3.5 L, and 3 L. On the 6th day, he forgot to note his intake. If the average intake for 6 days is 3 L , how much water did he drink on the 6th day?**

अमन का 5 दिनों का दैनिक जल-सेवन 2.5 L, 3 L, 2 L, 3.5 L और 3 L रहा। छठे दिन वह अपना सेवन नोट करना भूल गया। यदि 6 दिनों का औसत सेवन 3 L है, तो उसने छठे दिन कितना पानी पिया?

(A) 2.5 L
(B) 3 L
(C) 4 L
(D) 3.5 L

Q69. **In a circle with a radius of 30 cm , a chord measures 36 cm in length. Find the perpendicular distance from the center of the circle to this chord.**

30 cm त्रिज्या वाले एक वृत्त में, एक जीवा की लंबाई 36 cm है। वृत्त के केंद्र से इस जीवा पर लंब दूरी ज्ञात कीजिए।

(A) 20 cm
(B) 24 cm
(C) 36 cm
(D) 40 cm

Q70. **Two chords, AB and CD , cross at point P inside a circle. Segments AP, PB, and CP have lengths of $7\text{cm}, 9\text{cm}$, and 5 cm, respectively. How long is the chord CD in total ?**

दो जीवाएँ, AB और CD, एक वृत्त के भीतर बिंदु P पर एक-दूसरे को काटती हैं। खंड AP, PB, और CP की लंबाइयाँ क्रमशः $7\text{cm}, 9\text{cm}$, और 5 cm हैं। जीवा CD की कुल लंबाई कितनी है?

(A) 12.6 cm
(B) 17.6 cm
(C) 18.6 cm
(D) 14.7 cm

Q71. **What is the x-intercept of the line given by $5x-2y=20$?**

x-अंतःखंड क्या होगा, यदि रेखा का समीकरण $5x-2y=20$ है?

(A) - 4
(B) 4
(C) 5
(D) 6

Q72. **P is 25% more than Q. Q is 20% less than R. R is 10% more than S. S is 40% less than T. By how much percentage is P more or less than T?**

P, Q से 25% अधिक है। Q, R से 20% कम है। R, S से 10% अधिक है। S, T से 40% कम है। P, T से कितने प्रतिशत अधिक या कम है?

(A) 24% more / 24% अधिक
(B) 34% less / 34% कम
(C) 26% less / 26% कम
(D) 34% more / 34% अधिक

Q73. **If a certain sum of money becomes triple of itself in 7 years 6 months at simple interest, then what will be the annual rate of interest (approximate)?**

यदि कोई धनराशि साधारण ब्याज पर 7 वर्ष 6 माह में स्वयं की तीन गुनी हो जाती है, तो वार्षिक ब्याज दर (लगभग) क्या होगी?

(A) 20.09 percent / 20.09 प्रतिशत
(B) 21.11 percent / 21.11 प्रतिशत
(C) 26.66 percent / 26.66 प्रतिशत
(D) 26.50 percent / 26.50 प्रतिशत

Q74. **The difference between simple interest on a certain sum at the annual rate of 15 percent for 10 years and 12 years is Rs. 120. What is the sum ?**

किसी निश्चित धनराशि पर 15 प्रतिशत वार्षिक दर से 10 वर्ष और 12 वर्ष के साधारण ब्याज का अंतर Rs. 120 है। वह धनराशि क्या है?

(A) Rs. 620
(B) Rs. 400
(C) Rs. 450
(D) Rs. 600

Q75. **Pipe P and Q together can fill a tank in 20 minutes. Pipe Q and R together can fill the same tank in 24 minutes. Pipe R and P together can fill the same tank in 28 minutes. Firstly pipe R is opened. After ' M ' minutes, pipes P and Q both are also opened. Remaining tank got filled in 8 minutes. What is the value of M ?**

पाइप P और Q मिलकर एक टंकी को 20 मिनट में भर सकते हैं। पाइप Q और R मिलकर उसी टंकी को 24 मिनट में भर सकते हैं। पाइप R और P मिलकर उसी टंकी को 28 मिनट में भर सकते हैं। सबसे पहले पाइप R खोला जाता है। ' M ' मिनट बाद, पाइप P और Q दोनों भी खोल दिए जाते हैं। शेष टंकी 8 मिनट में भर जाती है। M का मान क्या है?

(A) $\frac{840}{23}$
(B) $\frac{412}{23}$
(C) $\frac{632}{23}$
(D) $\frac{824}{23}$

Section 4: General Awareness (Q76–100)

Q76. **Among the rulers of the Chola dynasty, who is widely regarded as the most powerful and influential monarch?**

चोल वंश के शासकों में, किसे व्यापक रूप से सर्वाधिक शक्तिशाली और प्रभावशाली सम्राट माना जाता है?

(A) Vijayalaya Chola
(B) Kulothunga Chola I
(C) Rajaraja I
(D) Parantaka I

Q77. Following the decline of the Tughlaq rulers, which two dynasties governed Agra up to the advent of Mughal rule in 1526 ?

Tughlaq शासकों के पतन के बाद, 1526 में मुगल शासन के आगमन तक किन दो वंशों ने Agra पर शासन किया?

(A) Khiljis and Surs / Khilji और Sur
(B) Khiljis and Lodis / Khilji और Lodi
(C) Tughlaqs and Sayyids / Tughlaq और Sayyid
(D) Sayyids and Lodis / Sayyid और Lodi

Q78. Which provision of the Indian Constitution safeguards the cultural and educational interests of minority communities?

भारतीय संविधान का कौन-सा उपबंध अल्पसंख्यक समुदायों के सांस्कृतिक और शैक्षिक हितों की रक्षा करता है?

(A) Article 34 / अनुच्छेद 34
(B) Article 28 / अनुच्छेद 28
(C) Article 29 / अनुच्छेद 29
(D) Article 36 / अनुच्छेद 36

Q79. The National Education Policy 2020 marked the completion of five years since its adoption in which month of 2025?

राष्ट्रीय शिक्षा नीति 2020 ने अपने अंगीकरण के पाँच वर्ष 2025 के किस महीने में पूरे किए?

(A) January / जनवरी
(B) April / अप्रैल
(C) July / जुलाई
(D) October / अक्टूबर

Q80. How many women cadets successfully completed training in the first graduating batch of the National Defence Academy ?

राष्ट्रीय रक्षा अकादमी के पहले स्नातक बैच में कितनी महिला कैडेटों ने सफलतापूर्वक प्रशिक्षण पूरा किया?

(A) 11
(B) 17
(C) 19
(D) 21

Q81. The "SOAR" initiative launched by the Government of India in July 2025 is primarily aimed at which target group?

भारत सरकार द्वारा जुलाई 2025 में आरंभ की गई "SOAR" पहल मुख्य रूप से किस लक्ष्य समूह के लिए है?

(A) Training rural women in digital marketing / ग्रामीण महिलाओं को डिजिटल मार्केटिंग का प्रशिक्षण देना
(B) Providing AI education to students of Classes 6 to 12 / कक्षा 6 से 12 के विद्यार्थियों को AI शिक्षा प्रदान करना
(C) Skill development of traditional artisans / पारंपरिक कारीगरों का कौशल विकास
(D) Employment-oriented training for gig workers / गिग श्रमिकों के लिए रोज़गारोन्मुखी प्रशिक्षण

Q82. **To promote the growth of the technical textiles sector in India, the National Technical Textiles Mission (NTTM) was approved with a total financial outlay of ₹1,480 crore. For which of the following time periods was this mission implemented?**

भारत में तकनीकी वस्त्र (technical textiles) क्षेत्र की वृद्धि को बढ़ावा देने के लिए राष्ट्रीय तकनीकी वस्त्र मिशन (NTTM) को ₹1,480 करोड़ के कुल वित्तीय परिव्यय के साथ स्वीकृति दी गई थी। यह मिशन निम्नलिखित में से किस अवधि के लिए कार्यान्वित किया गया?

(A) 2024-25 to 2026-28 / 2024-25 से 2026-28
(B) 2021-22 to 2024-25 / 2021-22 से 2024-25
(C) 2020-21 to 2025-26 / 2020-21 से 2025-26
(D) 2022-23 to 2025-26 / 2022-23 से 2025-26

Q83. **The State Mining Readiness Index (SMRI) in India is prepared to assess the preparedness of states for mining sector development. How many key indicators are used in the construction of this index?**

भारत में राज्य खनन तत्परता सूचकांक (SMRI) राज्यों की खनन क्षेत्र के विकास हेतु तैयारी का आकलन करने के लिए तैयार किया जाता है। इस सूचकांक के निर्माण में कितने प्रमुख संकेतकों का उपयोग किया जाता है?

(A) 4
(B) 6
(C) 2
(D) 8

Q84. **India released its first Export Preparedness Index (EPI) to evaluate the export readiness of states and union territories in which year?**

भारत ने राज्यों तथा केंद्रशासित प्रदेशों की निर्यात तत्परता का मूल्यांकन करने के लिए अपना पहला निर्यात तत्परता सूचकांक (EPI) किस वर्ष जारी किया?

(A) 2022
(B) 2014
(C) 2015
(D) 2020

Q85. **The headquarters of India's National Anti Doping Agency (NADA) is located in which of the following cities?**

भारत की राष्ट्रीय डोपिंग रोधी एजेंसी (NADA) का मुख्यालय निम्नलिखित में से किस शहर में स्थित है?

(A) Gurugram / गुरुग्राम
(B) Chennai / चेन्नई
(C) Mumbai / मुंबई
(D) New Delhi / नई दिल्ली

Q86. **The bird sanctuaries named Sakkarakottai and Therthangal are located in which Indian state ?**

सक्करकोट्टई तथा तेर्थंगल नामक पक्षी अभयारण्य किस भारतीय राज्य में स्थित हैं?

(A) Gujarat / गुजरात
(B) Chhattishgarh / छत्तीसगढ़
(C) Tamil Nadu / तमिलनाडु
(D) Uttarkhand / उत्तराखंड

Q87. **The inaugural edition of the Senior National Handball Championship, hosted in Rohtak (Haryana), took place in which year?**

रोहतक (हरियाणा) में आयोजित सीनियर राष्ट्रीय हैंडबॉल चैंपियनशिप का पहला संस्करण किस वर्ष हुआ था?

(A) 1942
(B) 1962
(C) 1972
(D) 1982

Q88. **The novel Midnight's Children, which won the Booker Prize, was written by which author?**
बुकर पुरस्कार जीतने वाला उपन्यास Midnight's Children किस लेखक द्वारा लिखा गया था?

(A) Amitav Ghosh
(B) Salman Rushdie
(C) Rohinton Mistry
(D) Vikram Seth

Q89. **Consider the following monument-state combinations and identify the correct option:**

I. Golconda Fort - Rajasthan
II. Bharatpur Fort - Telangana
Which of the statements given above is/are accurate ?
निम्नलिखित स्मारक-राज्य संयोजनों पर विचार कीजिए तथा सही विकल्प की पहचान कीजिए:

I. गोलकोंडा किला - राजस्थान
II. भरतपुर किला - तेलंगाना उपर्युक्त कथनों में से कौन-सा/से सही है/हैं?

(A) Only II / केवल II
(B) Only I / केवल I
(C) Neither I nor II / न तो I और न ही II
(D) Both I and II / I और II दोनों

Q90. **The initial developmental flight of India's Geosynchronous Satellite Launch Vehicle (GSLV-D1) used how many propulsion stages ?**
भारत के भूस्थिर उपग्रह प्रक्षेपण यान (GSLV-D1) की प्रथम विकासात्मक उड़ान में कितने प्रणोदन चरणों का उपयोग किया गया था?

(A) Nine / नौ (b) तीन (c) छह (d) सात
(B) Three
(C) Six
(D) Seven

Q91. **In physics, the term inertia refers to which property of matter ?**
भौतिकी में जड़त्व (inertia) शब्द पदार्थ के किस गुण को दर्शाता है?

(A) Ability of a body to accelerate easily / किसी पिंड की सरलता से त्वरित हो जाने की क्षमता
(B) Resistance offered by a body to any change in its motion or rest / किसी पिंड द्वारा अपनी गति या विराम की अवस्था में परिवर्तन का विरोध
(C) Force exerted by machines / मशीनों द्वारा लगाया गया बल
(D) Attraction exerted by the Earth / पृथ्वी द्वारा लगाया गया आकर्षण

Q92. **During the planetary parade observed in early 2025, the visible planets appeared arranged according to which scientific criterion?**
वर्ष 2025 के आरंभ में देखी गई ग्रह परेड (planetary parade) के दौरान दृश्यमान ग्रह किस वैज्ञानिक कसौटी के अनुसार क्रमबद्ध प्रतीत हुए?

(A) Relative size of the planets / ग्रहों का सापेक्ष आकार
(B) Apparent brightness / आभासी चमक
(C) Speed of revolution / परिक्रमण की चाल
(D) Distance from the Sun / सूर्य से दूरी

Q93. **During the later phase of Mughal decline, Nagaur was brought under the control of which Rajput ruling house ?**

मुगल पतन के उत्तरवर्ती चरण में नागौर किस राजपूत शासक वंश के नियंत्रण में आया?

(A) Sisodias of Mewar / मेवाड़ के सिसोदिया
(B) Kachwahas of Amber / आमेर के कछवाहा
(C) Bhatis of Jaisalmer / जैसलमेर के भाटी
(D) Rathores of Jodhpur / जोधपुर के राठौड़

Q94. **In the early phase of India's foreign investment policy framework, the leadership of the Foreign Investment Promotion Board (FIPB) was held by which official?**

भारत की विदेशी निवेश नीति संरचना के प्रारंभिक चरण में विदेशी निवेश संवर्धन बोर्ड (FIPB) का नेतृत्व किस अधिकारी के पास था?

(A) Principal Secretary to the Prime Minister / प्रधानमंत्री के प्रधान सचिव
(B) Union Finance Minister / केंद्रीय वित्त मंत्री
(C) Minister of External Affairs / विदेश मंत्री
(D) Union Home Minister / केंद्रीय गृह मंत्री

Q95. **In which year was the Banking Codes and Standards Board of India (BCSBI) formally established on 18 February ?**

भारतीय बैंकिंग संहिता एवं मानक बोर्ड (BCSBI) की औपचारिक स्थापना 18 फरवरी को किस वर्ष हुई थी?

(A) 2009
(B) 2007
(C) 2006
(D) 2008

Q96. **Which of the following nationalist leaders openly criticised the Moderates for what they described as a "politics of prayer"?**

I. Bipin Chandra Pal
II. Bal Gangadhar Tilak
III. Lala Lajpat Rai

निम्नलिखित में से किन राष्ट्रवादी नेताओं ने उदारवादियों (Moderates) की उस नीति की खुलकर आलोचना की जिसे उन्होंने "प्रार्थना की राजनीति" कहा?

I. Bipin Chandra Pal
II. Bal Gangadhar Tilak
III. Lala Lajpat Rai

(A) Only I and III / केवल I और III
(B) Only II and III / केवल II और III
(C) Only I and II / केवल I और II
(D) I, II and III / I, II और III

Q97. **Under which Article of the Indian Constitution is the Union entrusted with the responsibility to safeguard States from external aggression and internal unrest ?**

भारतीय संविधान के किस अनुच्छेद के अंतर्गत संघ को राज्यों की बाह्य आक्रमण तथा आंतरिक अशांति से रक्षा करने का उत्तरदायित्व सौंपा गया है?

(A) Article 348 / अनुच्छेद 348
(B) Article 358 / अनुच्छेद 358
(C) Article 355 / अनुच्छेद 355
(D) Article 365 / अनुच्छेद 365

Q98. **What type of population trend was observed in India during the decade 1911 to 1921 ?**

वर्ष 1911 से 1921 के दशक में भारत में किस प्रकार की जनसंख्या प्रवृत्ति देखी गई थी?

(A) Rapid population increase / तीव्र जनसंख्या वृद्धि
(B) Decline in population size / जनसंख्या के आकार में गिरावट
(C) Uniform population growth / एकसमान जनसंख्या वृद्धि
(D) Sudden population boom / अचानक जनसंख्या विस्फोट

Q99. **Before the introduction of GST, which of the following taxes were imposed by the Central Government ?**

I. Entertainment Tax
II. Entry Tax

GST लागू होने से पहले, निम्नलिखित में से कौन-से कर केंद्र सरकार द्वारा लगाए जाते थे?

I. मनोरंजन कर
II. प्रवेश कर

(A) Only II / केवल II
(B) Only I / केवल I
(C) Neither I nor II / न तो I और न ही II
(D) Both I and II / I और II दोनों

Q100. **Which foreign envoy from the Greek world visited the court of Chandragupta Maurya after being deputed by a West Asian ruler ?**

किस विदेशी यूनानी राजदूत ने पश्चिम एशियाई शासक द्वारा भेजे जाने पर चंद्रगुप्त मौर्य के दरबार का दौरा किया था?

(A) Al-Biruni
(B) Nicolo Conti
(C) François Bernier
(D) Megasthenes

Answer Key – SSC CHSL Tier-1 25 November 2025, Shift 3

1	C	2	A	3	A	4	C	5	A
6	B	7	A	8	D	9	A	10	B
11	C	12	A	13	C	14	C	15	C
16	A	17	B	18	A	19	C	20	C
21	B	22	D	23	D	24	B	25	C
26	A	27	D	28	A	29	B	30	A
31	D	32	A	33	C	34	A	35	B
36	C	37	D	38	B	39	B	40	C
41	D	42	A	43	B	44	C	45	D
46	B	47	B	48	C	49	C	50	C
51	C	52	C	53	A	54	D	55	C
56	C	57	C	58	A	59	C	60	C
61	D	62	C	63	B	64	A	65	A
66	D	67	A	68	C	69	B	70	B
71	B	72	B	73	C	74	B	75	D
76	C	77	D	78	C	79	C	80	B
81	B	82	C	83	A	84	D	85	D
86	C	87	C	88	B	89	C	90	B
91	B	92	D	93	D	94	A	95	C
96	D	97	C	98	B	99	C	100	D

Why is an answer correct?
Scan for detailed solutions of all 100 questions in Hindi & English – free with login.

Keep practising with airGurukul

All SSC CHSL Tier-1 previous year papers – free PDFs, online tests and solved eBooks at **airgurukul.com/library/pyp/ssc-chsl-tier-1**.

Attempt this paper online – free
Full test and section-wise tests with timer, score and rank at airgurukul.com/test-series

Join airGurukul

Telegram Channel
t.me/airgurukulofficial

WhatsApp Channel
whatsapp.com/channel/0029VbBP7n00VycAFq6AGJ0l

YouTube Channel
youtube.com/@airGurukulSSCExams

Android App
play.google.com/...?id=in.airgurukul

airGurukul

airGurukul Institute for Career Growth · Prince Edutech Private Limited
Call +91-7042559948 · info@airgurukul.com · www.airgurukul.com