airGurukul

Preparing Bharat, Empowering Futures

SSC CHSL Tier-1 2025 Question Paper

27 November 2025, Shift 1 · with Answer Key

100 questions | 200 marks | 60 minutes | +2 / −0.5

Hindi + English

Attempt this paper online – free

Real exam timer, instant score, all-India rank and detailed solutions in Hindi & English.

Scan · airgurukul.com/test-series

Call +91-7042559948 · www.airgurukul.com

Telegram Channel
t.me/airgurukulofficial

WhatsApp Channel
whatsapp.com/channel/0029VbBP7n00VycAFq6AGJ0l

YouTube Channel
youtube.com/@airGurukulSSCExams

Android App
play.google.com/...?id=in.airgurukul

Instructions

1. Total 100 questions (English Language 25, General Intelligence 25, Quantitative Aptitude 25, General Awareness 25).
2. Each correct answer carries 2 marks; 0.5 mark is deducted for each wrong answer.
3. Answer key is given at the end. Detailed solutions: scan the QR code on the last page.

Section 1: English Language (Q1–25)

Q1. **Choose a word that is similar in meaning to the word in bold.**

Students often rely on reference books that are not easily obtainable in small libraries.

(A) Reachable
(B) Interminable
(C) Probable
(D) Accessible

Q2. **Choose the option that has an error in the sentence.**

It is necessary for employees to become more responsibility at the workplace.

(A) It is necessary
(B) for employees to become
(C) more responsibility
(D) at the workplace

Q3. **Choose the correct sentence.**

(A) Sahil suggested me to take rest.
(B) Sahil suggested that I take rest.
(C) Sahil suggested me that I take rest.
(D) Sahil suggested for me to take rest.

Q4. **Fill in the blank with the most appropriate preposition:**

Revant was accused ___ embezzling public money.

(A) for
(B) about
(C) with
(D) of

Q5. **Fill in the blank with the most appropriate option:**

During the negotiations, her approach was ___ aiming to ease tensions and promote agreement.

(A) abrasive
(B) unpredictable
(C) conciliatory
(D) gloomy

Q6. **Choose the correctly spelt word:**

(A) Abbreivation
(B) Abbreviation
(C) Abbravietion
(D) Abbriviation

Q7. **Choose the correctly spelt word:**

(A) Milleniuum
(B) Millennium
(C) Millannium
(D) Millennuim

Q8. **Choose the best option to replace the underlined part to improve the given sentence. If no substitution is required, select "No substitution."**

They reunited at the park <u>at a long time</u>.

(A) till a long time
(B) after a long time
(C) before a long time
(D) No substitution

Q9. **Choose the best option to replace the underlined part to improve the given sentence. If no substitution is required, select "No substitution."**

She is <u>married with</u> a man who works in the Air Force.

(A) Married for
(B) Married to
(C) Married by
(D) No substitution

Q10. **Choose the correct indirect narration of the following statement from the given alternatives:**

The teacher said, "There is a library near our school which is filled with different kinds of books."

(A) The teacher said that there was a library near their school which had been filled with different kinds of books.
(B) The teacher said that there had been a library near their school which was filled with different kinds of books.
(C) The teacher said that there was a library near their school which was filled with different kinds of books.
(D) The teacher said that there was a library near your school which was filled with different kinds of books.

Q11. **Change the following sentence into the Active form.**

It was being believed that the decision would be beneficial.

(A) The decision would be beneficial.
(B) The committee believed the decision would be beneficial.
(C) People were believing that the decision would be beneficial.
(D) Someone has believed that the decision would be beneficial.

Q12. **Choose the option that is the most appropriate conversion of the following sentence into Direct Speech.**

The boy said that he was afraid of the darkness and requested the woman to stay with him.

(A) The boy said, "I am afraid of the darkness. Please stay with me."
(B) The boy said, "I was afraid of the darkness. Kindly stay with me."
(C) The boy said, ''I am afraid of the darkness. Will you stay with me?"
(D) The boy said, "I was afraid of the darkness. Stay with me."

Q13. **Which of the following sentences contains a misspelled word?**

(A) The engineer recommended using concrete in the foundation to ensure strength and durability.
(B) The committee demanded a concrete plan before giving approval.
(C) Sheela required more concrete examples to support her argument.
(D) In the absence of concreet proof, the theory remains purely speculative.

Q14. **Choose the correct passive voice transformation of the sentence:**

The dedicated group of scientists, who had been examining the data for a long time, finally published their findings.

(A) Their findings were finally published by the dedicated group of scientists, who had been examining the data for a long time.
(B) Their findings had been finally published by the dedicated group of scientists, who had been examining the data for a long time.
(C) Their findings have been finally published by the dedicated group of scientists, who had been examining the data for a long time.
(D) The dedicated group of scientists was finally published by their findings.

Directions (Qs. 15-19): Read the following passage carefully and answer the questions that follow.

National Farmers' Day, observed every year on 23rd December, commemorates the birth anniversary of Chaudhary Charan Singh. It highlights the importance of India's agriculture sector, which represents not just food security but also rural stability and economic growth.

India is home to millions of small farmers, many of them working in diverse climatic zones. Each state contributes a unique crop variety: such as Basmati rice, Alphonso mangoes, and Darjeeling tea, reflecting the soil, seasons, and labor of its growers.

Despite its vital role, the farming sector faces significant hurdles. With rising costs of chemical fertilizers, traditional cultivators are struggling to maintain their profits. Government schemes, like soil health cards, aim to improve yields and reduce the dependency on harmful inputs. However, access to fair prices and cold storage remains limited for many producers.

National Farmers' Day is more than ceremonial. It reminds us that prioritizing agriculture supports food sovereignty, rural development, and environmental health. As consumer awareness grows around organic produce, farm-fresh goods offer a healthy alternative to processed foods.

By buying local produce, we are not only sustaining a vital industry but also boosting incomes and encouraging chemically-free farming.

Q15. **Identify the type of the following sentence from the passage:**

"Each state contributes a unique crop variety: such as Basmati rice, Alphonso mangoes, and Darjeeling tea, reflecting the soil, seasons, and labor of its growers.*

(A) Simple sentence
(B) Compound sentence
(C) Complex sentence
(D) Compound-complex sentence

Q16. **What is the tense used in the sentence below, and why is it appropriate?**

"National Farmers' Day, observed every year on 23rd December."

(A) Past Continuous - because the event is ongoing
(B) Present Perfect - because it has just happened
(C) Present Simple - because it states a general fact
(D) Future Simple - because it refers to a yearly event

Q17. **What does "environmental health" most likely refer to in this sentence?**

"It reminds us that prioritizing agriculture supports food sovereignty, rural development, and environmental health."

(A) Equal distribution of crops
(B) Balance between rich and poor
(C) Well-being and sustainability of nature
(D) Government pricing laws

Q18. **Which idiom best matches the message conveyed by the sentence below?**

"By buying local produce, we are not only sustaining a vital industry but also boosting incomes and encouraging chemically-free farming."
Which idiom expresses the idea of achieving multiple positive results with a single action?

(A) Burn the midnight oil
(B) Kill two birds with one stone
(C) Add fuel to the fire
(D) Let the cat out of the bag

Q19. **What is the main purpose of observing National Farmers' Day, according to the passage?**

(A) To promote the import of processed foods
(B) To encourage people to leave rural areas
(C) To highlight the value of agriculture and support farmers
(D) To replace farming with industrial robotics

Q20. **Rearrange the following sentence parts to form a meaningful and grammatically correct paragraph:**

P. She removed all old coating and surface defects from the entire car body by thorough sanding.
Q. She observed the fresh coating dry to a smooth finish after applying several thin, even layers.
R. She protected the windows and trims from spray by carefully masking them.
S. The car achieved a flawless colour, looked brand new, and was ready to be driven.

(A) Q, R, P, S
(B) P, R, Q, S
(C) S, R, Q, P
(D) R, P, Q, S

Q21. **What is the antonym of "Wordy"?**

(A) Redundant
(B) Laconic
(C) Verbose
(D) Inflated

Q22. **Which word is closest in meaning to ghastly?**

The detective described the crime scene in such a ghastly manner that everyone felt uneasy.

(A) Cheerful
(B) Ordinary
(C) Gruesome
(D) Mild

Q23. **Which of the following does NOT represent a meaning of the homonym "condition"?**

(A) To make something stronger or more flexible
(B) The physical or mental state of a person or thing
(C) To teach or accustom someone to behave in a particular way
(D) A rule or requirement that must be satisfied for an event to occur

Q24. **Which word is used for a solemn funeral procession?**

(A) Claque
(B) Assembly
(C) Cortege
(D) Carousal

Q25. **Choose the correct one-word substitution for the italicized part.**

Meera has always been a person who strongly resists authority, control, and traditional norms, frequently questioning every rule imposed on her.

(A) Optimist
(B) Traditionalist
(C) Conformist
(D) Anarchist

Section 2: General Intelligence (Q26–50)

Q26. **In this type of questions, question is provided with substitutes for various mathematical symbols, followed by a question involving calculation of an expression or choosing the correct/incorrect equation. You have to put the real signs in the given equation and then solve the questions as required. If '&' stands for '+', '"' stands for '-', ' T stands for ' $\div$ ', '' stands for ' $\times$ ', then find the value of:** $7\hat{}9\hat{}8!6 =$ **?**

इस प्रकार के प्रश्नों में विभिन्न गणितीय चिह्नों के स्थान पर प्रतीक दिए जाते हैं तथा उसके बाद किसी व्यंजक का मान ज्ञात करने अथवा सही/गलत समीकरण चुनने से संबंधित प्रश्न पूछा जाता है। आपको दिए गए समीकरण में वास्तविक चिह्न रखकर प्रश्न को हल करना है। यदि '&' का अर्थ '+' है, '"' का अर्थ '-' है, ' T का अर्थ ' $\div$ ' है, '' का अर्थ ' $\times$ ' है, तो निम्नलिखित का मान ज्ञात कीजिए: $7\hat{}9\hat{}8!6 =$?

(A) $-\frac{19}{5}$
(B) $-\frac{10}{3}$
(C) $-\frac{13}{5}$
(D) $\frac{19}{5}$

Q27. **There are 60 soldiers standing in a parade line. Soldier A is 18th from the front and Soldier B is 22nd from the back. Find the number of soldiers between A and B.**

एक परेड पंक्ति में 60 सैनिक खड़े हैं। सैनिक A आगे से 18वें स्थान पर है तथा सैनिक B पीछे से 22वें स्थान पर है। A और B के बीच कितने सैनिक हैं, ज्ञात कीजिए।

(A) 18
(B) 19
(C) 20
(D) 21

Q28. **In a row, 15 candles are arranged. A red candle is 6th from the left.How many candles are to its right?**

एक पंक्ति में 15 मोमबत्तियाँ रखी गई हैं। एक लाल मोमबत्ती बाएँ से छठे स्थान पर है। उसके दाईं ओर कितनी मोमबत्तियाँ हैं?

(A) 7
(B) 8
(C) 9
(D) 10

Q29. **A series is given with one term missing. Select the correct alternative from the given ones that will complete the series.**

-512,-508,-500,?,-472,-452,-428

एक श्रृंखला दी गई है जिसमें एक पद लुप्त है। दिए गए विकल्पों में से उस सही विकल्प का चयन कीजिए जो श्रृंखला को पूर्ण करेगा।

-512,-508,-500,?,-472,-452,-428

(A) -490
(B) -492
(C) -495
(D) -488

Q30. **A series is given with one term missing. Select the correct alternative from the given ones that will complete the series.**

$-5, -15, -45, ?, -405, -1215, -3645$

एक श्रृंखला दी गई है जिसमें एक पद लुप्त है। दिए गए विकल्पों में से उस सही विकल्प का चयन कीजिए जो श्रृंखला को पूर्ण करेगा।

$-5, -15, -45, ?, -405, -1215, -3645$

(A) -90
(B) -135
(C) -125
(D) -335

Q31. **If $450!9*151 = -101$ and $320!8 * 291 = -251$, then what is the value of 250 ! 5 * 361?**

यदि $450!9*151 = -101$ तथा $320!8 * 291 = -251$ है, तो 250 ! 5 * 361 का मान क्या है?

(A) -239
(B) -244
(C) -311
(D) -235

Q32. **A mirror is placed on the line AB. Out of the option figures which figure will be the right image of the question figure?**

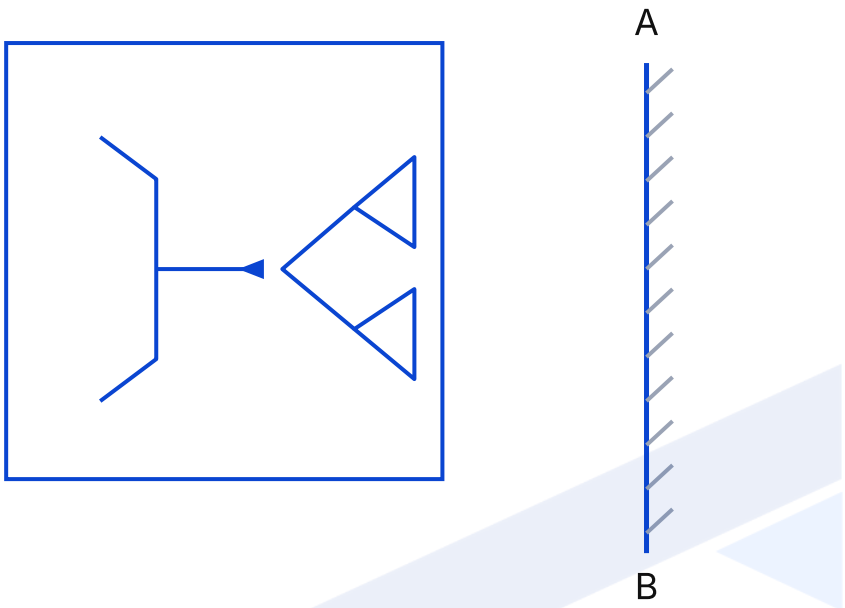

दर्पण रेखा AB पर रखा गया है। विकल्प आकृतियों में से कौन-सी आकृति प्रश्न आकृति का सही प्रतिबिंब होगी?

(A)
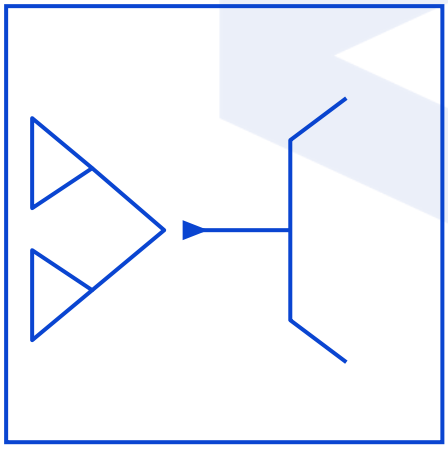

(B)
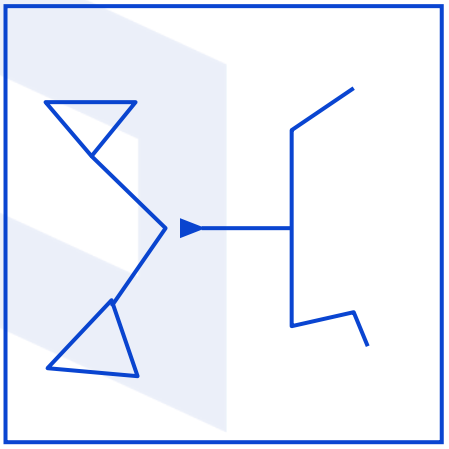

(C)
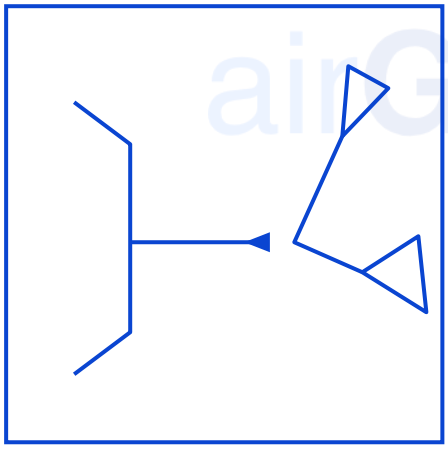

(D)
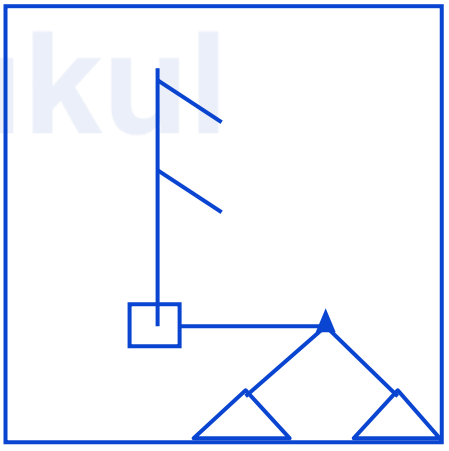

Q33. **A piece of paper is folded and punched as shown below in the question figures. From the given option figures, indicate how it will appear when opened.**

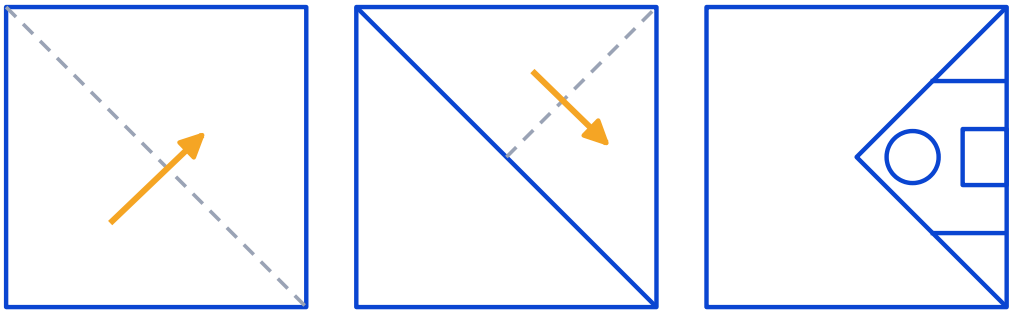

(i) (ii) (iii)

एक कागज़ के टुकड़े को नीचे प्रश्न आकृतियों में दर्शाए अनुसार मोड़ा और पंच किया गया है। दी गई विकल्प आकृतियों में से बताइए कि खोलने पर वह कैसा दिखाई देगा।

A

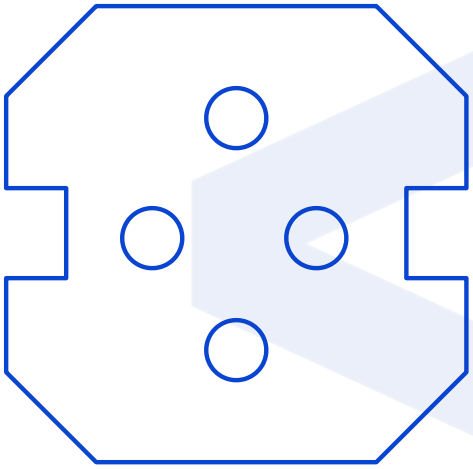

B

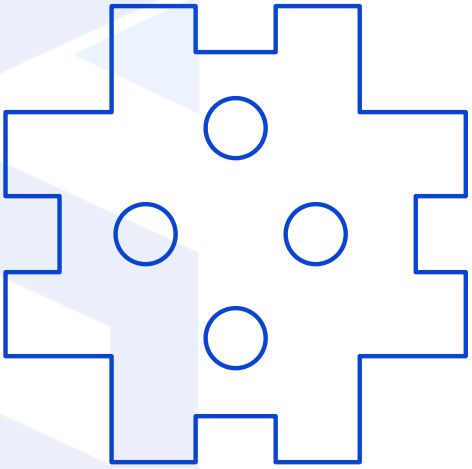

C

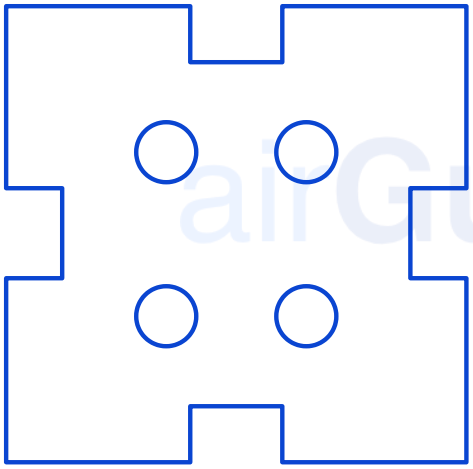

D

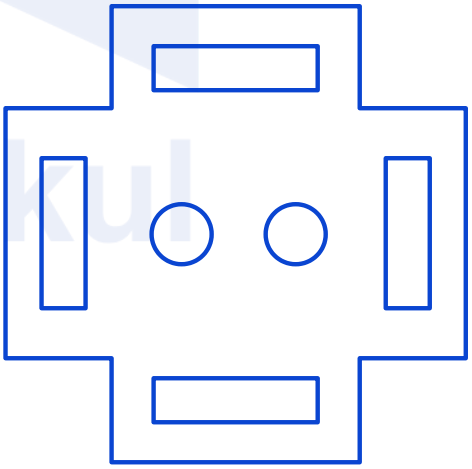

Q34. **A piece of paper is folded and punched as shown below in the question figures. From the given option figures, indicate how it will appear when opened.**

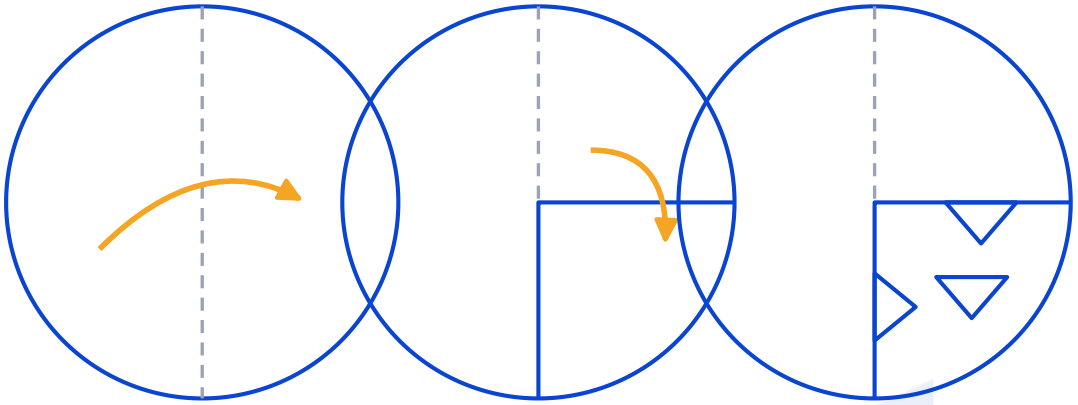

(i) (ii) (iii)

एक कागज़ के टुकड़े को नीचे प्रश्न आकृतियों में दर्शाए अनुसार मोड़ा और पंच किया गया है। दी गई विकल्प आकृतियों में से बताइए कि खोलने पर वह कैसा दिखाई देगा।

A

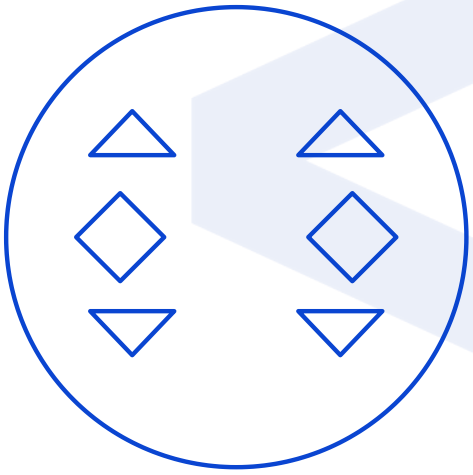

B



C

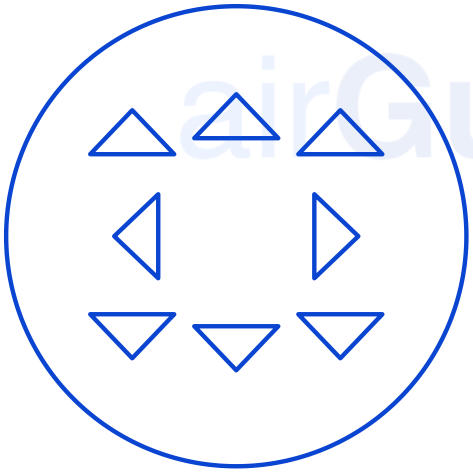

D

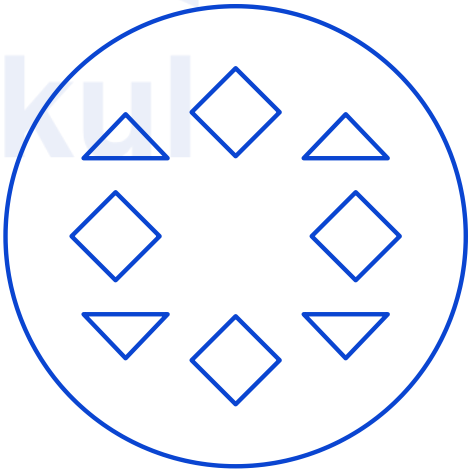

Q35. **Five persons — P, Q, R, S and T — live in five different cities, namely Hyderabad, Pune, Kolkata, Bangalore and Lucknow, and each of them has a different favourite colour among Green, Red, Black, Blue and Yellow.**

P lives in Hyderabad and his favourite colour is Green.
T lives in Lucknow and his favourite colour is Black.
Q lives in Pune.
S does not live in Kolkata.
The person who lives in Kolkata likes Red.
Who among them lives in Kolkata?

पाँच व्यक्ति — P, Q, R, S और T — पाँच अलग-अलग शहरों, अर्थात् हैदराबाद, पुणे, कोलकाता, बेंगलुरु और लखनऊ में रहते हैं, तथा इनमें से प्रत्येक का पसंदीदा रंग हरा, लाल, काला, नीला और पीला में से अलग-अलग है।

P हैदराबाद में रहता है और उसका पसंदीदा रंग हरा है।
T लखनऊ में रहता है और उसका पसंदीदा रंग काला है।
Q पुणे में रहता है।
S कोलकाता में नहीं रहता है।
जो व्यक्ति कोलकाता में रहता है, उसे लाल रंग पसंद है।
इनमें से कौन कोलकाता में रहता है?

(A) P
(B) S
(C) R
(D) T

Q36. **Find the next number in the sequence.**

3, 7, 15, 31, 63, ?
अनुक्रम में अगली संख्या ज्ञात कीजिए।

3, 7, 15, 31, 63, ?

(A) 127
(B) 125
(C) 129
(D) 130

Q37. **In the following question, select the number which can be placed at the sign of question mark (?) from the given alternatives.**
निम्नलिखित प्रश्न में, दिए गए विकल्पों में से वह संख्या चुनिए जिसे प्रश्नवाचक चिह्न (?) के स्थान पर रखा जा सकता है।

(A) 4
(B) 5
(C) 9
(D) 6

Q38. **Find the number of triangles in the given figure.**

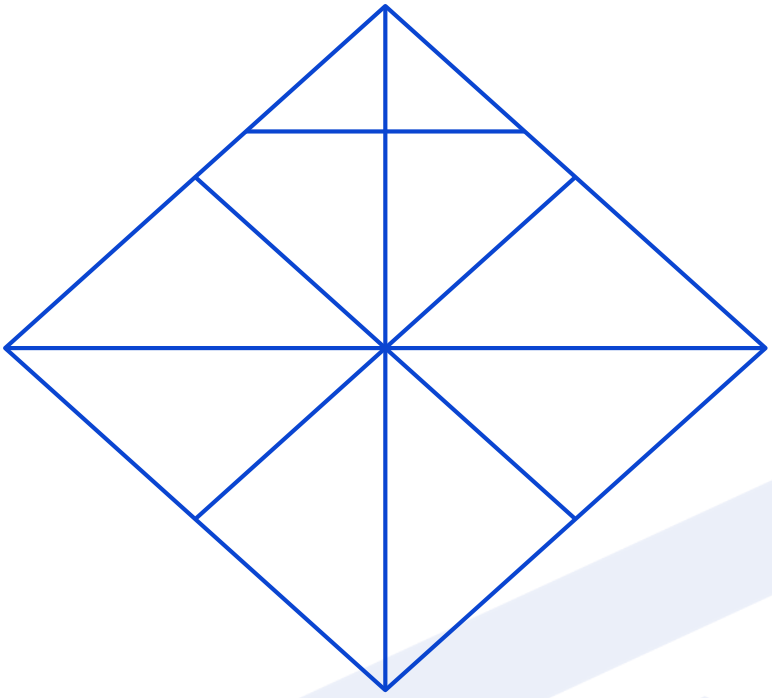

दी गई आकृति में त्रिभुजों की संख्या ज्ञात कीजिए।

(A) 15
(B) 13
(C) 17
(D) 19

airGurukul

Q39. How many triangles are there in the given figure?

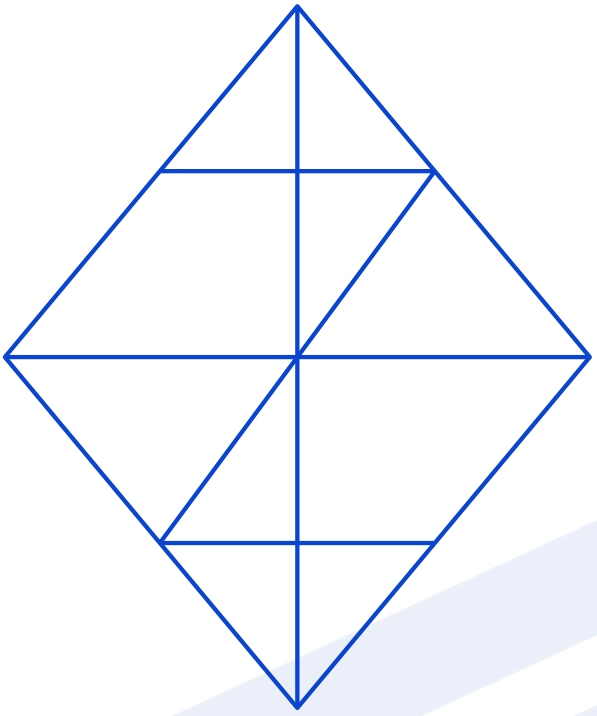

दी गई आकृति में कितने त्रिभुज हैं?

(A) 16
(B) 20
(C) 18
(D) 22

airGurukul

Q40. **In the figure given below the circle represents yellow, the rectangle represents pink and the triangle represents green. The number in each area represents the number of items in that area.**

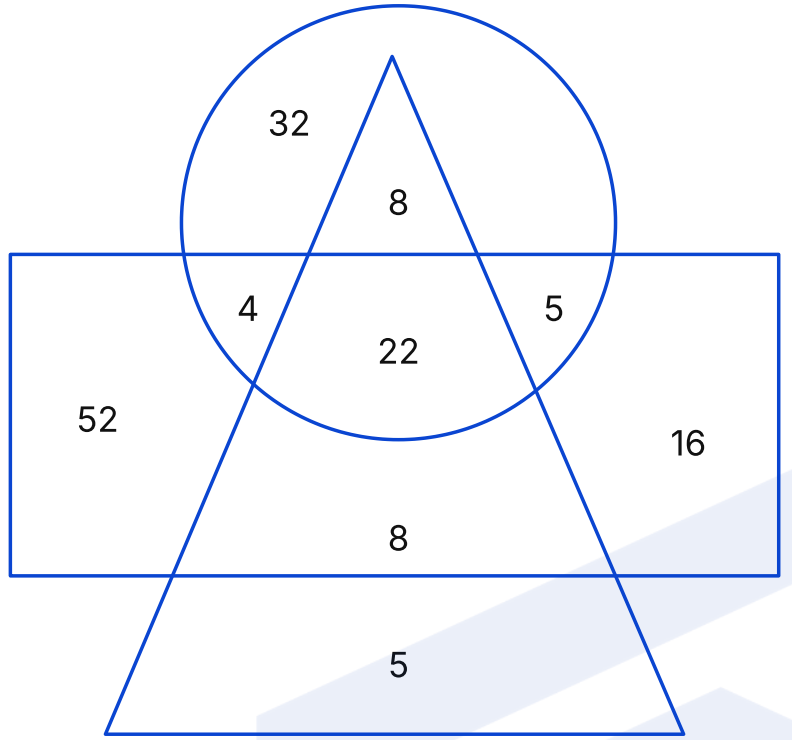

How many yellow are green?

नीचे दी गई आकृति में वृत्त yellow को, आयत pink को तथा त्रिभुज green को निरूपित करता है। प्रत्येक क्षेत्र में लिखी संख्या उस क्षेत्र की वस्तुओं की संख्या दर्शाती है।

कितने yellow, green हैं?

(A) 35
(B) 38
(C) 30
(D) 32

Q41. **The thickness of 5 tyres A, B, C, D, and E are compared. No two tyres have the same thickness. A is thicker than C but not thicker than E. B is thicker than D, and D is thicker than E . If the thickness of tyre A is 48, what is the possible thickness of tyre C?**

5 टायरों A, B, C, D और E की मोटाई की तुलना की जाती है। किन्हीं दो टायरों की मोटाई समान नहीं है। A, C से अधिक मोटा है परंतु E से अधिक मोटा नहीं है। B, D से अधिक मोटा है तथा D, E से अधिक मोटा है। यदि टायर A की मोटाई 48 है, तो टायर C की संभावित मोटाई क्या है?

(A) 57
(B) 58
(C) 49
(D) 47

Q42. **Six boxes A, B, C, D, E, and F have different weights. Weight of C is the 4th heaviest. Box A is heavier than B and D but lighter than E and F. Box E is not the heaviest. How many boxes are lighter than A ?**

छह बक्सों A, B, C, D, E और F के भार अलग-अलग हैं। C का भार चौथा सबसे अधिक है। बक्सा A, B और D से भारी है परंतु E और F से हल्का है। बक्सा E सबसे भारी नहीं है। कितने बक्से A से हल्के हैं?

(A) 1
(B) 2
(C) 3
(D) 4

Q43. **8 women P, Q, R, S, T, U, V and W are sitting around a circular table facing opposite to the centre (not necessarily in the same order). Q is second to the left of W. P is third to the left of Q. S is to the immediate right of $W.U$ is fourth to the left of $S.R$ is the immediate neighbour of W and Q , V is second to the right of W. Who are the immediate neighbours of U ?**

8 महिलाएँ P, Q, R, S, T, U, V और W एक वृत्ताकार मेज़ के चारों ओर केंद्र के विपरीत दिशा में मुख करके बैठी हैं (आवश्यक नहीं कि इसी क्रम में)। Q, W के दूसरे बाएँ बैठी है। P, Q के तीसरे बाएँ बैठी है। S, $W.U$ के ठीक दाएँ है $S.R$ के चौथे बाएँ है, W और Q की निकटतम पड़ोसी है, V, W के दूसरे दाएँ है। U की निकटतम पड़ोसी कौन हैं?

(A) R and T / R और T
(B) Q and T / Q और T
(C) V and R / V और R
(D) W and R / W और R

Q44. **After interchanging the given two numbers (not digits), what will be the value of the given equation ?**

8 and 4

$5 \times 8 + 4 - 12 \div 2 =$ **?**

दी गई दो संख्याओं (अंकों को नहीं) को आपस में बदलने के बाद, दिए गए समीकरण का मान क्या होगा?

8 और 4

$5 \times 8 + 4 - 12 \div 2 =$?

(A) 25
(B) 22
(C) 34
(D) 40

Q45. **Select the correct combination of mathematical signs to replace (*) signs sequentially and to balance the given equation.**

$84 * 12 * 15 * 5 * 2 = 12$

(*) चिह्नों को क्रमिक रूप से प्रतिस्थापित करने तथा दिए गए समीकरण को संतुलित करने के लिए गणितीय चिह्नों का सही संयोजन चुनिए।

$84 * 12 * 15 * 5 * 2 = 12$

(A) $\times, -, +, \div$
(B) $\div, +, -, \times$
(C) ,,$+ + \times, -$
(D) $\div, -, \times, +$

Q46. **In the following question, four letter-number pairs are given. The letter-number on the left side of (-) is related to the letter-number on the right side of (-) with some Logic/Rule/Relation. Three pairs are similar on the basis of the same Logic/Rule/Relation. Select the odd one out from the given alternatives.**

(NOTE: Operations should be performed on the whole numbers, without breaking down the number into its constituent digits. E.g. 13 - Operations on 13 such as adding /subtracting /multiplying etc. to 13 can be performed. Breaking down 13 into 1 and 3 and then performing mathematical operations on 1 and 3 is not allowed)

निम्नलिखित प्रश्न में, चार अक्षर-संख्या युग्म दिए गए हैं। (-) के बाईं ओर की अक्षर-संख्या, (-) के दाईं ओर की अक्षर-संख्या से किसी तर्क/नियम/संबंध द्वारा संबंधित है। तीन युग्म एक ही तर्क/नियम/संबंध के आधार पर समान हैं। दिए गए विकल्पों में से असंगत युग्म चुनिए।

(नोट: संक्रियाएँ पूर्ण संख्याओं पर की जानी चाहिए, संख्या को उसके अंकों में विभाजित किए बिना। जैसे 13 - 13 पर जोड़ने/घटाने/गुणा करने आदि जैसी संक्रियाएँ की जा सकती हैं। 13 को 1 और 3 में विभाजित करके 1 और 3 पर गणितीय संक्रियाएँ करना मान्य नहीं है।)

A) GL120-1060
B) PS440 - RV220
C) EK248 - GN124
D) JW360 - LZ190

Q47. **In a certain coded language 'SMILE' is coded as 'BHFIP' and 'TOWER' is coded as 'OATKQ'. How will 'PLANT' be coded in the same code language ?**

एक निश्चित कूट भाषा में 'SMILE' को 'BHFIP' के रूप में कूटबद्ध किया जाता है तथा 'TOWER' को 'OATKQ' के रूप में कूटबद्ध किया जाता है। उसी कूट भाषा में 'PLANT' को किस प्रकार कूटबद्ध किया जाएगा?

A) QJYIN
B) QJXHM
C) PJXIM
D) RKXGN

Q48. **In a certain coded language 'SPACE' is coded as 'JMBZX' and 'GHOST' is coded as 'VUNJI'. How will 'BRAIN' be coded in the same code language ?**

एक निश्चित कूट भाषा में 'SPACE' को 'JMBZX' के रूप में कूटबद्ध किया जाता है तथा 'GHOST' को 'VUNJI' के रूप में कूटबद्ध किया जाता है। उसी कूट भाषा में 'BRAIN' को किस प्रकार कूटबद्ध किया जाएगा?

A) AKBTO
B) OKBTA
C) AOBTK
D) AKTBO

Q49. **A series is given with one term missing. Select the correct alternative from the given ones that will complete the series.**

HS600, GQ550, FO500, EM450, ?

एक श्रृंखला दी गई है जिसमें एक पद लुप्त है। दिए गए विकल्पों में से वह सही विकल्प चुनिए जो श्रृंखला को पूरा करेगा।

HS600, GQ550, FO500, EM450, ?

A) DK400
B) DL350
C) CK400
D) DJ400

Q50. **A series is given with one term wrong. Select that wrong term from the given alternatives.**

BD10, HI50, NO250, TS1250, ZX6250

एक श्रृंखला दी गई है जिसमें एक पद गलत है। दिए गए विकल्पों में से उस गलत पद को चुनिए।

BD10, HI50, NO250, TS1250, ZX6250

(A) HI50
(B) NO250
(C) TS1250
(D) ZX6250

Want to clear SSC CHSL Tier-1?

Prepare with **Samyān (सम्यान) 1.0 – SSC Foundation Course** – structured classes, practice and doubt support for SSC CHSL Tier-1.

Every PYP as an online test
Shift-wise papers with timer, score and rank.

Detailed solutions
Step-by-step answers in Hindi and English.

Free live classes
Daily classes on our YouTube channel airGurukul SSC Exams.

Exam updates
Notifications, admit cards and results on WhatsApp.

See the course

Attempt this paper online

Detailed solutions

Free classes & exam updates

Telegram Channel
t.me/airgurukulofficial

WhatsApp Channel
whatsapp.com/channel/0029VbBP7n00VycAFq6AGJ0I

YouTube Channel
youtube.com/@airGurukulSSCExams

Android App
play.google.com/...?id=in.airgurukul

Call / WhatsApp **+91-7042559948** · www.airgurukul.com

Section 3: Quantitative Aptitude (Q51–75)

Q51. **In analyzing underground pressure, the expression is simplified from $\left(a^2+b^2\right)^2-(2ab)^2$. What's the final expression?**

भूमिगत दाब के विश्लेषण में, व्यंजक $\left(a^2+b^2\right)^2-(2ab)^2$ को सरल किया जाता है। अंतिम व्यंजक क्या होगा?

(A) $a^4-2a^2b^2+b^4$
(B) $a^4+2a^2b^2+b^4$
(C) $a^4-6a^2b^2+b^4$
(D) a^4-b^4

Q52. **Compare the values: $\sqrt{15}, 3\sqrt{5}$, and $\sqrt{30}$. Which is the greatest ?**

मानों की तुलना कीजिए: $\sqrt{15}, 3\sqrt{5}$, तथा $\sqrt{30}$। इनमें से सबसे बड़ा कौन-सा है?

(A) $\sqrt{15}$
(B) $3\sqrt{5}$
(C) $\sqrt{30}$
(D) All are equal / सभी बराबर हैं

Q53. **The ratio of incomes of A and B is $5:4$ and the ratio of their expenditures is 3 : 2. If both save ₹3000 per month, what is A's income?**

A और B की आय का अनुपात $5:4$ है तथा उनके व्यय का अनुपात 3 : 2 है। यदि दोनों प्रति माह ₹3000 की बचत करते हैं, तो A की आय कितनी है?

(A) ₹7500
(B) ₹6500
(C) ₹5200
(D) ₹6000

Q54. **What percent of Rs. 500 is Rs. 75 ?**

Rs. 500 का कितना प्रतिशत Rs. 75 है?

(A) 10%
(B) 15%
(C) 20%
(D) 25%

Q55. **A dishonest shopkeeper professes to sell grains at the cost price, but he uses a weight of 920 gm for 1 kg weight. Find his gain percentage (round up to two decimal places).**

एक बेईमान दुकानदार अनाज को क्रय मूल्य पर बेचने का दावा करता है, परंतु वह 1 kg के बाट के स्थान पर 920 gm के बाट का प्रयोग करता है। उसका लाभ प्रतिशत ज्ञात कीजिए (दो दशमलव स्थानों तक)।

(A) 7.90%
(B) 8.70%
(C) 8.50%
(D) 7.80%

Q56. **A cyclist covers a certain distance in 4 hours. If his speed had been 5 km/h more, he would have taken 1 hour less. Find his original speed.**

एक साइकिल चालक एक निश्चित दूरी 4 घंटे में तय करता है। यदि उसकी चाल 5 km/h अधिक होती, तो उसे 1 घंटा कम लगता। उसकी मूल चाल ज्ञात कीजिए।

(A) 10 km/h
(B) $12\text{km} / h$
(C) 15 km/h
(D) $20\text{km} / h$

Q57. **Two trains start from stations A and B towards each other and meet after 5 hours. A train from A travels 20% faster than a train from B. If the distance between A and B is 660 km , find the speed of the slower train.**

दो रेलगाड़ियाँ स्टेशन A तथा B से एक-दूसरे की ओर चलना प्रारंभ करती हैं और 5 घंटे बाद मिलती हैं। A से चलने वाली रेलगाड़ी, B से चलने वाली रेलगाड़ी की अपेक्षा 20% तेज़ चलती है। यदि A और B के बीच की दूरी 660 km है, तो धीमी रेलगाड़ी की चाल ज्ञात कीजिए।

(A) 55 km/h
(B) 60 km/h
(C) 65 km/h
(D) 70 km/h

Q58. **A sum of Rs. 7290 amounts to Rs. 8410 in 2 years at compound interest. Find the rate per annum.**

Rs. 7290 की राशि चक्रवृद्धि ब्याज पर 2 वर्षों में Rs. 8410 हो जाती है। वार्षिक ब्याज दर ज्ञात कीजिए।

(A) 8.41%
(B) 7.40 %
(C) 9.35%
(D) 7.35%

Q59. **A can complete a work in 20 days, while B can complete the same work in 25 days. Both worked together for 10 days and then C alone completed the remaining work in 10 days. In how many days will A, B and C together complete the same work**

A एक कार्य को 20 दिनों में पूरा कर सकता है, जबकि B उसी कार्य को 25 दिनों में पूरा कर सकता है। दोनों ने मिलकर 10 दिनों तक कार्य किया और फिर C ने अकेले शेष कार्य 10 दिनों में पूरा किया। A, B और C मिलकर उसी कार्य को कितने दिनों में पूरा करेंगे?

(A) 10 days / 10 दिन
(B) 5 days / 5 दिन
(C) 8 days / 8 दिन
(D) 12 days / 12 दिन

Q60. **What sum will amount to ₹9000 in 2 years at 10% simple interest per annum?**

10% वार्षिक साधारण ब्याज की दर से 2 वर्षों में कौन-सी राशि ₹9000 हो जाएगी?

(A) ₹7200
(B) ₹7333.33
(C) ₹7500
(D) ₹7600

Q61. **A skylight is trapezium-shaped with area 98cm^2 and bases 12 cm, 16 cm . What is its height ?**

एक रोशनदान समलंब चतुर्भुज के आकार का है जिसका क्षेत्रफल 98cm^2 है तथा जिसकी समांतर भुजाएँ 12 cm और 16 cm हैं। इसकी ऊँचाई क्या है?

(A) 5
(B) 7
(C) 6
(D) 8

Q62. **A wooden box is in the shape of a cuboid with dimensions $4m \times 2.5m \times$ 1.5 m . Find the cost of painting its outer surface at the rate of Rs. 12 per square meter.**

एक लकड़ी का बक्सा घनाभ के आकार का है जिसकी विमाएँ $4m \times 2.5m \times$ 1.5 m हैं। Rs. 12 प्रति वर्ग मीटर की दर से इसके बाहरी पृष्ठ को रँगवाने की लागत ज्ञात कीजिए।

(A) Rs. 360
(B) Rs. 450
(C) Rs. 474
(D) Rs. 480

Q63. **A decorative model is in the shape of a right pyramid whose base is an equilateral triangle of side 10 cm and the height of the pyramid is 9 cm . Find the volume of the model.**

एक सजावटी मॉडल एक लंब पिरामिड के आकार का है जिसका आधार 10 cm भुजा वाला समबाहु त्रिभुज है तथा पिरामिड की ऊँचाई 9 cm है। मॉडल का आयतन ज्ञात कीजिए।

(A) 129.9cm^3
(B) 150cm^3
(C) 173.2cm^3
(D) 180cm^3

Q64. **In the right triangle PQR, right angled at ' Q ', $PQ = 10\text{cm}.QM$ is perpendicular to PR such that $\text{PR} = 2\text{QM}$. If $\angle\text{QPR} = \angle\text{QRP}$, then find the numerical value of $\left(\text{PR}^2 - \text{QM}^2\right)$.**

समकोण त्रिभुज PQR में, ' Q ' पर समकोण है, $PQ = 10\text{cm}.QM$, PR पर लंब इस प्रकार है कि $\text{PR} = 2\text{QM}$। यदि $\angle\text{QPR} = \angle\text{QRP}$, तो $\left(\text{PR}^2 - \text{QM}^2\right)$ का संख्यात्मक मान ज्ञात कीजिए।

(A) 150
(B) 124
(C) 156
(D) 100

Q65. **The point of intersection of the medians of a triangle is called:**

त्रिभुज की माध्यिकाओं का प्रतिच्छेद बिंदु कहलाता है:

(A) Circumcenter / परिकेन्द्र
(B) Centroid / केन्द्रक
(C) Incenter / अंतःकेन्द्र
(D) Orthocenter / लंबकेन्द्र

Q66. **The volume of a right circular cone is 50% of the volume of a right circular cylinder. The height of the cylinder is double the height of the cone. If the radius of the cone is 12 cm , find the radius of the cylinder.**

एक लंब वृत्तीय शंकु का आयतन एक लंब वृत्तीय बेलन के आयतन का 50% है। बेलन की ऊँचाई शंकु की ऊँचाई की दोगुनी है। यदि शंकु की त्रिज्या 12 cm है, तो बेलन की त्रिज्या ज्ञात कीजिए।

(A) $6\sqrt{2}\,\text{cm}$
(B) $4\sqrt{3}\,\text{cm}$
(C) $3\sqrt{8}\,\text{cm}$
(D) $8\sqrt{3}\,\text{cm}$

Q67. **The radii of two circles are r_1 and r_2, and the distance between their centers is d , where $(r_1 - r_2) < d < (r_1 + r_2)$. If d represents the distance between the centers, how many common tangents are there between the two circles ?**

दो वृत्तों की त्रिज्याएँ r_1 और r_2 हैं, तथा उनके केंद्रों के बीच की दूरी d है, जहाँ $(r_1 - r_2) < d < (r_1 + r_2)$। यदि d केंद्रों के बीच की दूरी को निरूपित करती है, तो दोनों वृत्तों की कितनी उभयनिष्ठ स्पर्श रेखाएँ होंगी?

(A) 1
(B) 2
(C) 3
(D) 4

Q68. **Simplify the expression : $\dfrac{\cot x}{\text{cosec}x}$**

व्यंजक को सरल कीजिए : $\dfrac{\cot x}{\text{cosec}x}$

(A) $\cos x$
(B) cosecx
(C) 1
(D) $\sin x$

Q69. **P and Q invest in a business in the ratio $5:3$. If 10% of the total profit is donated to charity and P's share of the remaining profit is ₹900, find the total profit.**

P और Q एक व्यवसाय में $5:3$ के अनुपात में निवेश करते हैं। यदि कुल लाभ का 10% दान में दे दिया जाता है और शेष लाभ में P का हिस्सा ₹900 है, तो कुल लाभ ज्ञात कीजिए।

(A) Rs. 1425
(B) Rs. 1200
(C) Rs. 1537
(D) Rs. 1600

Q70. **A shopkeeper offers two successive discounts of 10% and 20% on a Rs. 1,500 article. What is the final price after the two discounts ?**

एक दुकानदार Rs. 1,500 की वस्तु पर 10% और 20% की दो क्रमिक छूट देता है। दोनों छूटों के बाद अंतिम मूल्य क्या है?

(A) ₹1092
(B) ₹1080
(C) ₹1064
(D) ₹1065

Q71. **The price of a museum ticket for adults and children is in the ratio 7 : 4 . If an adult ticket costs 280 , what is the price of a child ticket ?**

एक संग्रहालय के टिकट का मूल्य वयस्कों और बच्चों के लिए 7 : 4 के अनुपात में है। यदि एक वयस्क टिकट का मूल्य 280 है, तो बच्चे के टिकट का मूल्य क्या है?

(A) 100
(B) 120
(C) 160
(D) 200

Q72. **A student scored 40, 55, 60, and 45 marks in four tests. What marks must he score in the 5th test so that his average becomes 52 marks?**

एक विद्यार्थी ने चार परीक्षाओं में 40, 55, 60 और 45 अंक प्राप्त किए। पाँचवीं परीक्षा में उसे कितने अंक प्राप्त करने चाहिए ताकि उसका औसत 52 अंक हो जाए?

(A) 50
(B) 55
(C) 60
(D) 65

Q73. **A common internal tangent is drawn to two circles with radii 3 and 7 unit. If the length of the tangent segment is 24 unit, what is the distance between the centers of the two circles ?**

3 और 7 इकाई त्रिज्या वाले दो वृत्तों की एक उभयनिष्ठ आंतरिक स्पर्श रेखा खींची जाती है। यदि स्पर्श रेखा खंड की लंबाई 24 इकाई है, तो दोनों वृत्तों के केंद्रों के बीच की दूरी क्या है?

(A) 13 unit / 13 इकाई
(B) 15 unit / 15 इकाई
(C) 25 unit / 25 इकाई
(D) 26 unit / 26 इकाई

Q74. **If $\operatorname{cosec}\left(x\right) = \frac{5}{3}$, find $\sec\left(x\right)$.**

यदि $\operatorname{cosec}\left(x\right) = \frac{5}{3}$, तो $\sec\left(x\right)$ ज्ञात कीजिए।

(A) $\frac{4}{5}$
(B) $\frac{5}{4}$
(C) $\frac{3}{5}$
(D) $\frac{8}{7}$

Q75. If $\cot\theta = \frac{3}{4}$, find $\sec^2\theta - \text{cosec}^2\theta$.

यदि $\cot\theta = \frac{3}{4}$, तो $\sec^2\theta - \text{cosec}^2\theta$ ज्ञात कीजिए।

(A) $\frac{175}{144}$
(B) $\frac{144}{175}$
(C) $\frac{5}{144}$
(D) $\frac{144}{5}$

Section 4: General Awareness (Q76–100)

Q76. **Which of the following Delhi Sultans maintained a large standing army in Delhi in response to repeated Mongol invasions, creating major administrative challenges?**

I. Alauddin Khalji
II. Muhammad bin Tughluq

निम्नलिखित में से किस दिल्ली सुल्तान ने बार-बार होने वाले मंगोल आक्रमणों के प्रत्युत्तर में दिल्ली में एक विशाल स्थायी सेना रखी, जिससे बड़ी प्रशासनिक चुनौतियाँ उत्पन्न हुईं?

I. अलाउद्दीन खलजी
II. मुहम्मद बिन तुगलक

(A) Only I / केवल I
(B) Only I / केवल I
(C) Neither I nor II / न तो I और न ही II
(D) Both I and II / I और II दोनों

Q77. **The devotional hymns composed by the Alvar saints are compiled in which sacred Tamil text?**

आळवार संतों द्वारा रचित भक्ति-स्तोत्र किस पवित्र तमिल ग्रंथ में संकलित हैं?

(A) Silappadikaram / शिलप्पदिकारम
(B) Divya Prabandham / दिव्य प्रबंधम
(C) Tirukkural / तिरुक्कुरल
(D) Manimekalai / मणिमेखलै

Q78. **Which of the following responsibilities is explicitly listed as a Fundamental Duty under the Constitution of India?**

भारत के संविधान के अंतर्गत निम्नलिखित में से कौन-सा दायित्व स्पष्ट रूप से मूल कर्तव्य के रूप में उल्लिखित है?

(A) Paying taxes within due dates / नियत तिथि के भीतर कर का भुगतान करना
(B) Casting vote in Lok Sabha elections / लोकसभा चुनावों में मतदान करना
(C) Providing education to children up to 18 years / 18 वर्ष तक के बच्चों को शिक्षा उपलब्ध कराना
(D) Protecting and improving the natural environment / प्राकृतिक पर्यावरण की रक्षा करना और उसका संवर्धन करना

Q79. Which Constitutional Amendment Act transformed Sikkim into a full-fledged State of India?

किस संविधान संशोधन अधिनियम द्वारा सिक्किम को भारत का पूर्ण राज्य बनाया गया?

(A) 38th Constitutional Amendment Act, 1975 / 38वाँ संविधान संशोधन अधिनियम, 1975
(B) 35th Constitutional Amendment Act, 1974 / 35वाँ संविधान संशोधन अधिनियम, 1974
(C) 42nd Constitutional Amendment Act, 1976 / 42वाँ संविधान संशोधन अधिनियम, 1976
(D) 36th Constitutional Amendment Act, 1975 / 36वाँ संविधान संशोधन अधिनियम, 1975

Q80. As of 31 July 2025, which of the following countries is NOT a member of the South Asian Association for Regional Cooperation (SAARC) ?

31 जुलाई 2025 तक, निम्नलिखित में से कौन-सा देश दक्षिण एशियाई क्षेत्रीय सहयोग संगठन (SAARC) का सदस्य नहीं है?

(A) Afghanistan / अफ़गानिस्तान
(B) Iran / ईरान
(C) Nepal / नेपाल
(D) Bangladesh / बांग्लादेश

Q81. In which sporting event did Praveen Kumar Sobti win medals at the Asian Games?

प्रवीण कुमार सोबती ने एशियाई खेलों में किस खेल स्पर्धा में पदक जीते थे?

(A) Javelin throw / भाला फेंक
(B) Shot put / गोला फेंक
(C) Discus throw / चक्का फेंक
(D) Hammer throw / हथौड़ा फेंक

Q82. The appointment of Sailesh C. Mehta in June 2025 is associated with leadership of which sectoral body?

जून 2025 में Sailesh C. Mehta की नियुक्ति किस क्षेत्रीय निकाय के नेतृत्व से संबंधित है?

(A) Banking regulation / बैंकिंग विनियमन
(B) Agricultural research / कृषि अनुसंधान
(C) Fertilizer industry association / उर्वरक उद्योग संघ
(D) Financial policy think tank / वित्तीय नीति थिंक टैंक

Q83. Who was the Chairperson of the Lok Sabha Estimates Committee as of July 2025 ?

जुलाई 2025 की स्थिति के अनुसार लोक सभा की प्राक्कलन समिति के सभापति कौन थे?

(A) P. P. Chaudhary
(B) Sanjay Jaiswal
(C) Adhir Ranjan Chowdhury
(D) Om Birla

Q84. According to official data cited by the Union Health Ministry, India recorded a TB incidence rate of ___ per 1,00,000 population in 2023.

केंद्रीय स्वास्थ्य मंत्रालय द्वारा उद्धृत आधिकारिक आँकड़ों के अनुसार, वर्ष 2023 में भारत में टीबी की घटना दर प्रति 1,00,000 जनसंख्या पर ___ दर्ज की गई।

(A) 224
(B) 195
(C) 314
(D) 316

Q85. **What is the size of the term loan scheme proposed by the Government in the Budget for FY 2025-26 ?**

वित्त वर्ष 2025-26 के बजट में सरकार द्वारा प्रस्तावित सावधि ऋण योजना का आकार कितना है?

(A) ₹4 crore / ₹4 करोड़
(B) ₹8 crore / ₹8 करोड़
(C) ₹10 crore / ₹10 करोड़
(D) ₹2 crore / ₹2 करोड़

Q86. **The World Poverty Clock Report is published by which organisation?**

विश्व निर्धनता घड़ी (World Poverty Clock) रिपोर्ट किस संगठन द्वारा प्रकाशित की जाती है?

(A) World Data Lab
(B) World Bank / विश्व बैंक
(C) United Nations Development Programme / संयुक्त राष्ट्र विकास कार्यक्रम
(D) International Monetary Fund / अंतर्राष्ट्रीय मुद्रा कोष

Q87. **India's first gold medal at the Asian Games was won by which sportsperson?**

एशियाई खेलों में भारत का पहला स्वर्ण पदक किस खिलाड़ी ने जीता था?

(A) Neeraj Chopra
(B) Sachin Nag
(C) Milkha Singh
(D) K. D. Jadhav

Q88. **The term Surya Namaskar is associated with which discipline?**

'सूर्य नमस्कार' शब्द किस विधा से संबंधित है?

(A) Yoga / योग
(B) Cricket / क्रिकेट
(C) Baseball / बेसबॉल
(D) Football / फुटबॉल

Q89. **The Aravalli Green Wall Project includes which of the following regions ?**

I. Delhi
II. Jharkhand

अरावली ग्रीन वॉल परियोजना में निम्नलिखित में से कौन-से क्षेत्र सम्मिलित हैं?

I. दिल्ली
II. झारखंड

(A) Only II / केवल II
(B) Only I / केवल I
(C) Neither I nor II / न तो I और न ही II
(D) Both I and II / I और II दोनों

Q90. **Which country has been chosen to host the International Shooting Sport Federation World Cup 2027 ?**

अंतर्राष्ट्रीय निशानेबाजी खेल महासंघ (ISSF) विश्व कप 2027 की मेजबानी के लिए किस देश को चुना गया है?

(A) India / भारत
(B) Japan / जापान
(C) Brazil / ब्राज़ील
(D) South Korea / दक्षिण कोरिया

Q91. Who authored the book Development as Freedom ?

'Development as Freedom' पुस्तक के लेखक कौन हैं?

(A) Arundhati Roy
(B) Ramachandra Guha
(C) Amartya Sen
(D) Nandan Nilekani

Q92. Which of the following festivals is not associated with the cultural traditions of Rajasthan?

निम्नलिखित में से कौन-सा त्योहार राजस्थान की सांस्कृतिक परंपराओं से संबंधित नहीं है?

(A) Teej / तीज
(B) Gangaur / गणगौर
(C) Losar / लोसर
(D) Makar Sankranti / मकर संक्रांति

Q93. Which Mauryan-period monument is especially renowned for its finely carved stone gateways (toranas)?

मौर्यकालीन कौन-सा स्मारक अपने बारीक नक्काशीदार पाषाण तोरणद्वारों (तोरण) के लिए विशेष रूप से प्रसिद्ध है?

(A) Sanchi Stupa / साँची स्तूप
(B) Dhauli Rock Edicts / धौली शिलालेख
(C) Barabar Caves / बराबर गुफाएँ
(D) Ashokan Pillar at Sarnath / सारनाथ का अशोक स्तंभ

Q94. India achieved a milestone in agricultural biotechnology in April 2025 with the development of the country's first genome-edited rice varieties. Which institution led to this achievement?

अप्रैल 2025 में भारत ने देश की पहली जीनोम-संपादित (genome-edited) धान की किस्में विकसित कर कृषि जैव प्रौद्योगिकी में एक उपलब्धि हासिल की। इस उपलब्धि का नेतृत्व किस संस्थान ने किया?

(A) Indian Council of Agricultural Research (ICAR) / भारतीय कृषि अनुसंधान परिषद (ICAR)
(B) Central Rice Research Institute (CRRI) / केंद्रीय चावल अनुसंधान संस्थान (CRRI)
(C) Indian Council of Medical Research (ICMR) / भारतीय आयुर्विज्ञान अनुसंधान परिषद (ICMR)
(D) National Bureau of Plant Genetic Resources (NBPGR) / राष्ट्रीय पादप आनुवंशिक संसाधन ब्यूरो (NBPGR)

Q95. In October 2024, the DRDO successfully developed the 'VSHORADS' system. What is its primary operational role?

अक्तूबर 2024 में DRDO ने 'VSHORADS' प्रणाली को सफलतापूर्वक विकसित किया। इसकी प्राथमिक परिचालन भूमिका क्या है?

(A) Coastal surveillance operations / तटीय निगरानी अभियान
(B) Battlefield air defence at close range / निकट दूरी पर युद्धक्षेत्र वायु रक्षा
(C) Naval propulsion control / नौसैनिक प्रणोदन नियंत्रण
(D) Strategic missile launch coordination / सामरिक मिसाइल प्रक्षेपण समन्वय

Q96. Which Indian ruler forged strong diplomatic ties with the French and reorganized his military forces using European methods?

किस भारतीय शासक ने फ्रांसीसियों के साथ प्रगाढ़ राजनयिक संबंध बनाए तथा यूरोपीय पद्धतियों से अपनी सेना का पुनर्गठन किया?

(A) Tipu Sultan
(B) Balaji Vishwanath
(C) Ranjit Singh
(D) Asaf Jah I

Q97. **Which provision of the Indian Constitution explicitly declares the post of the Vice-President of India?**

भारतीय संविधान का कौन-सा उपबंध भारत के उपराष्ट्रपति के पद की स्पष्ट रूप से घोषणा करता है?

(A) Article 63 / अनुच्छेद 63
(B) Article 74 / अनुच्छेद 74
(C) Article 80 / अनुच्छेद 80
(D) Article 52 / अनुच्छेद 52

Q98. **During the implementation period of India's Eighth Five-Year Plan (1992-1997), who was serving as the Prime Minister of the country ?**

भारत की आठवीं पंचवर्षीय योजना (1992-1997) के क्रियान्वयन काल में देश के प्रधानमंत्री कौन थे?

(A) P. V. Narasimha Rao
(B) Atal Bihari Vajpayee
(C) V. P. Singh
(D) H. D. Deve Gowda

Q99. **In the human digestive system, which substances act as biological catalysts to break down food molecules?**

मानव पाचन तंत्र में कौन-से पदार्थ जैविक उत्प्रेरक के रूप में कार्य कर भोजन के अणुओं को विघटित करते हैं?

(A) Enzymes / एंजाइम
(B) Hormones / हार्मोन
(C) Antibodies / एंटीबॉडी
(D) Vitamins / विटामिन

Q100. **Apart from Sanskrit, which two languages were widely used and developed in ancient Vedic India for religious and philosophical expression?**

संस्कृत के अतिरिक्त, प्राचीन वैदिक भारत में धार्मिक एवं दार्शनिक अभिव्यक्ति के लिए कौन-सी दो भाषाएँ व्यापक रूप से प्रयुक्त एवं विकसित हुईं?

(A) Pali and Prakrit / पालि और प्राकृत
(B) Greek and Latin / ग्रीक और लैटिन
(C) Tamil and Telugu / तमिल और तेलुगु
(D) Persian and Arabic / फ़ारसी और अरबी

Answer Key – SSC CHSL Tier-1 27 November 2025, Shift 1

1	D	2	C	3	B	4	D	5	C
6	B	7	B	8	B	9	B	10	C
11	C	12	A	13	D	14	A	15	A
16	C	17	C	18	B	19	C	20	B
21	B	22	C	23	A	24	C	25	D
26	B	27	C	28	C	29	D	30	B
31	C	32	A	33	B	34	D	35	C
36	A	37	A	38	D	39	B	40	C
41	D	42	C	43	B	44	B	45	B
46	D	47	B	48	A	49	A	50	B
51	A	52	B	53	A	54	B	55	B
56	C	57	B	58	B	59	A	60	C
61	B	62	C	63	A	64	A	65	B
66	B	67	B	68	A	69	D	70	B
71	C	72	C	73	D	74	B	75	A
76	D	77	B	78	D	79	D	80	B
81	C	82	C	83	B	84	B	85	D
86	A	87	B	88	A	89	B	90	A
91	C	92	C	93	A	94	A	95	B
96	A	97	A	98	A	99	A	100	A

Why is an answer correct?
Scan for detailed solutions of all 100 questions in Hindi & English – free with login.

Keep practising with airGurukul

All SSC CHSL Tier-1 previous year papers – free PDFs, online tests and solved eBooks at **airgurukul.com/library/pyp/ssc-chsl-tier-1**.

Attempt this paper online – free
Full test and section-wise tests with timer, score and rank at airgurukul.com/test-series

Join airGurukul

Telegram Channel
t.me/airgurukulofficial

WhatsApp Channel
whatsapp.com/channel/0029VbBP7n00VycAFq6AGJ0l

YouTube Channel
youtube.com/@airGurukulSSCExams

Android App
play.google.com/...?id=in.airgurukul

airGurukul

airGurukul Institute for Career Growth · Prince Edutech Private Limited
Call +91-7042559948 · info@airgurukul.com · www.airgurukul.com