airGurukul

Preparing Bharat, Empowering Futures

# SSC CHSL Tier-1 2025 Question Paper

27 November 2025, Shift 3 · with Answer Key

100 questions | 200 marks | 60 minutes | +2 / −0.5 | Hindi + English

**Attempt this paper online – free**

Real exam timer, instant score, all-India rank and detailed solutions in Hindi & English.

**Scan · airgurukul.com/test-series**

Call +91-7042559948 · www.airgurukul.com

**Telegram Channel**
t.me/airgurukulofficial

**WhatsApp Channel**
whatsapp.com/channel/0029VbBP7n00VycAFq6AGJ0l

**YouTube Channel**
youtube.com/@airGurukulSSCExams

**Android App**
play.google.com/...?id=in.airgurukul

## Instructions

1. Total 100 questions (English Language 25, General Intelligence 25, Quantitative Aptitude 25, General Awareness 25).
2. Each correct answer carries 2 marks; 0.5 mark is deducted for each wrong answer.
3. Answer key is given at the end. Detailed solutions: scan the QR code on the last page.

## Section 1: English Language (Q1–25)

**Q1.** **Choose the option which is similar in meaning to the underlined word. She is aware of her responsibilities and fulfills them sincerely.**

(A) Obligations
(B) Preferences
(C) Choices
(D) Opportunities

**Q2.** **Choose the option which is similar in meaning to the underlined word. The team decided not to Forsake their original plan despite the challenges.**

(A) Maintain
(B) Improve
(C) Delay
(D) Abandon

**Q3.** **Choose the option that has an error in the sentence.**

**The school has planned several activities for this years annual function.**

(A) The school has planned
(B) several activities
(C) for this years
(D) annual function

**Q4.** **Identify the error in the given sentence.**

**"Had she took the right turn, she would have reached on time."**

(A) Had she
(B) took the right turn
(C) she would have
(D) reached on time

**Q5.** **Fill in the blank with the most appropriate preposition:**

**After spending the night inside the cave, the travelers came ___ the old cave at sunrise.**

(A) across
(B) beyond
(C) out of
(D) into

**Q6.** **Fill in the blank with the most appropriate option:**

**The unexpected merger announcement sent ___ through the financial market.**

(A) rumours
(B) anecdotes
(C) giggles
(D) tremors

**Q7.** **Choose the correctly spelt word:**

(A) Acommplice
(B) Accomplise
(C) Acoomplice
(D) Accomplice

**Q8.** **Choose the correctly spelt word:**

(A) Garuulous
(B) Garrolous
(C) Garrulous
(D) Garruluos

**Q9.** **Choose the best option to replace the underlined part to improve the given sentence. If no substitution is required, select 'No substitution.'**

**She has been living in this city since 9**

(A) till
(B) for
(C) across
(D) No substitution

**Q10.** **Choose the best option to replace the underlined part to improve the given sentence. If no substitution is required, select 'No substitution.'**

**The coach praised the athlete for her dedication for the sport.**

(A) Dedication to
(B) Dedication with
(C) Dedication into
(D) No substitution

**Q11.** **Choose the correct indirect narration of the following statement from the given alternatives:**

**Riya said to the assistant, 'I phoned the manager to sign this document, but he just passed it to you."**

(A) Riya told the assistant that she phoned the manager to sign that document, but he had just passed it to him.
(B) Riya told the assistant that she had phoned the manager to sign that document, but he just passed it to him.
(C) Riya told the assistant that she had phoned the manager to sign that document, but he had just passed it to him.
(D) Riya told the assistant that she phoned the manager to sign that document, but he just passed it to him.

**Q12.** **Change the following sentence into the Active form.**

**A new bicycle has been purchased for the school.**

(A) The school purchased a new bicycle.
(B) Someone has purchased a new bicycle for the school.
(C) A new bicycle was purchased for the school.
(D) Someone is purchasing a new bicycle for the school.

---

**Q13.** **Choose the option that is the most appropriate conversion of the following sentence into Direct Speech.**

**The manager asked me why I had left my previous position.**

(A) The manager said, "Why did you leave your previous position?"
(B) The manager said, "Why you have left your previous position?"
(C) The manager said, "Why you had left your previous position?"
(D) The manager asked me, "Why you left your previous position?"

---

**Q14.** **One of the following sentences contains an incorrect spelling of the word meaning "overly sentimental, often tearful." Identify the incorrect sentence:**

(A) He grew maudlin while talking about his childhood.
(B) Her maudlin reaction made everyone uncomfortable.
(C) The song was so maudlin that some people laughed.
(D) His moddlin behaviour surprised the audience.

---

**Q15.** **Choose the correct passive voice transformation of the sentence:**

**The diligent candidates, who had been preparing all night, were answering the difficult questions during the entrance test.**

(A) The difficult questions were answered by the diligent candidates during the entrance test.
(B) The difficult questions were being answered by the diligent candidates during the entrance test.
(C) The difficult questions had been answered by the diligent candidates during the entrance test.
(D) The difficult questions are being answered by the diligent candidates during the entrance test.

---

Directions (Qs. 16-20): Read the following passage carefully and answer the questions that follow.

In the current convenience-driven age, plastic products have become essential to daily routines. From grocery bags and bottles to packaging materials, the appetite for cheap and durable synthetics continues to rise.

However, this growing reliance has triggered a major crisis: plastic pollution, specifically single-use plastics.

Single-use plastics refer to disposable items intended to be used once before being thrown away. Unlike organic matter, they contain persistent compounds that do not break down easily in nature.

Careless dumping of plastics permits these pollutants to drift into oceans and landscapes, triggering wide-scale ecological damage and threatening marine life survival.

Coastal regions are particularly susceptible, as they frequently accumulate vast tides of debris from ocean currents. In many instances, local wildlife consumes this debris without any biological defense.

On a positive note, systematic recycling of plastics allows the creation of useful goods like fabric, furniture, and construction blocks. This not only alleviates ecosystem stress but also curbs the demand for crude oil.

Communities and global organizations are pushing for greener habits such as

carrying reusable bags, refusing straws, and adopting strict waste policies. Consumer education, alongside firm laws, is crucial for resolving this mounting issue.

In conclusion, controlling plastic waste requires both personal responsibility and united action. Embracing sustainable choices can guide us toward a greener, healthier, and more balanced planet.

**Q16. Identify the type of the following sentence and justify your answer:**

**"Careless dumping of plastics permits these pollutants to drift into oceans and landscapes, triggering wide-scale ecological damage and threatening marine life survival."**

(A) Simple sentence
(B) Compound sentence
(C) Complex sentence
(D) Compound-complex sentence

**Q17. Transform the above assertive sentence into an interrogative sentence. "Plastic products have become essential to daily routines."**

(A) Why plastic products have become essential to daily routines?
(B) Had plastic products become essential to daily routines?
(C) Are plastic products become essential to daily routines?
(D) Have plastic products become essential to daily routines?

**Q18.** **What is the most appropriate meaning of the word "susceptible" as used in the sentence below?**

**"Coastal regions are particularly susceptible, as they frequently accumulate vast tides of debris from ocean currents.'**

(A) Strong and fortified
(B) Remote and hidden
(C) Prone or liable to harm
(D) Clean and untouched

**Q19.** **Which word is closest in meaning to "alleviates" as used in this sentence?**

**"This not only alleviates ecosystem stress but also curbs the demand for crude oil."**

(A) Increases
(B) Describes
(C) Relieves
(D) Ignores

**Q20.** **Why are coastal regions particularly vulnerable to plastic pollution, according to the passage?**

(A) They produce the most plastic in the world.
(B) They lack any form of government regulation.
(C) They often accumulate large amounts of debris from ocean currents.
(D) Their inhabitants prefer using single-use items.

**Q21.** **Rearrange the following sentences to form a meaningful and grammatically correct paragraph:**

**P. Vast open lands and fertile soil, suitable for agriculture and settlement, attracted them.**
**Q. During the 19th century, a wave of settlers moved westward across the American continent.**
**R. The long and challenging journey was driven by hopes of a new life and affordable land.**
**S. This mass migration brought lasting changes to the region's culture and landscape.**

(A) R, Q, P, S
(B) P, R, Q, S
(C) S, R, P, Q
(D) Q, R, P, S

**Q22.** **What is the antonym of "Attentive"?**

(A) Punctilious
(B) Derelict
(C) Meticulous
(D) Wary

**Q23.** **Which of the following options is NOT a meaning of the homonym 'medium' ?**

(A) A method or means of communication
(B) The lowest level on a rating scale
(C) A material through which something passes
(D) A person who claims to contact spirits

**Q24.** **Which term describes a person who shows concern for the happiness and welfare of other people ?**

(A) Altruist
(B) Narcissist
(C) Philanthropist
(D) Optimist

**Q25.** **Choose the correct one-word substitution for the italicized phrase. "The nation descended into disorder after it was thrown into a state of political instability characterized by the removal of a leader by force."**

(A) Uprising
(B) Sedition
(C) Coup
(D) Revolt

## Section 2: General Intelligence (Q26–50)

**Q26.** **In a row of 80 students, if jaishankar's rank is 30th from the top and geeta's rank is 35th from the bottom, how many students are between jaishankar and geeta ?**

80 विद्यार्थियों की एक पंक्ति में, यदि jaishankar का स्थान ऊपर से 30वाँ है तथा geeta का स्थान नीचे से 35वाँ है, तो jaishankar तथा geeta के बीच कितने विद्यार्थी हैं?

(A) 14
(B) 15
(C) 16
(D) 17

**Q27.** **In a row of 40 students, $A$ is 12th from the top and $B$ is 15 th from the bottom.How many students are between $A$ and $B$ ?**

40 विद्यार्थियों की एक पंक्ति में, $A$ ऊपर से 12वें स्थान पर है तथा $B$ नीचे से 15वें स्थान पर है। $A$ तथा $B$ के बीच कितने विद्यार्थी हैं?

(A) 11
(B) 12
(C) 13
(D) 14

**Q28.** **A series is given with one term missing. Select the correct alternative from the given ones that will complete the series.**

**963, ? , 987, 999, 101, 1023, 1035, 1047**

एक शृंखला दी गई है जिसमें एक पद लुप्त है। दिए गए विकल्पों में से उस सही विकल्प का चयन कीजिए जो शृंखला को पूर्ण करेगा।

963, ? , 987, 999, 101, 1023, 1035, 1047

(A) 975
(B) 987
(C) 981
(D) 993

**Q29.** **A series is given with one term missing. Select the correct alternative from the given ones that will complete the series.**

**13, 42, 130, 393, ?, 3552 , 10660**

एक श्रृंखला दी गई है जिसमें एक पद लुप्त है। दिए गए विकल्पों में से उस सही विकल्प का चयन कीजिए जो श्रृंखला को पूर्ण करेगा।

13, 42, 130, 393, ?, 3552 , 10660

(A) 1180
(B) 1181
(C) 1182
(D) 1183

**Q30.** **If $14 \odot 11 = 770$ and $9 \odot 12 = 540$, then find 10 (c) 15?**

यदि $14 \odot 11 = 770$ तथा $9 \odot 12 = 540$ है, तो 10 (c) 15 का मान ज्ञात कीजिए?

(A) 700
(B) 750
(C) 800
(D) 850

**Q31.** **If 732 # 120 : 15 = 724 and 845 # $285 : 19 = 830$, then what is the value of 512 # 270 : 18 = ?**

यदि 732 # 120 : 15 = 724 तथा 845 # $285 : 19 = 830$ है, तो 512 # 270 : 18 = ? का मान क्या है?

(A) 497
(B) 502
(C) 508
(D) 510

**Q32.** **A mirror is placed on the line AB . Out of the option figures which figure will be the right image of the question figure?**

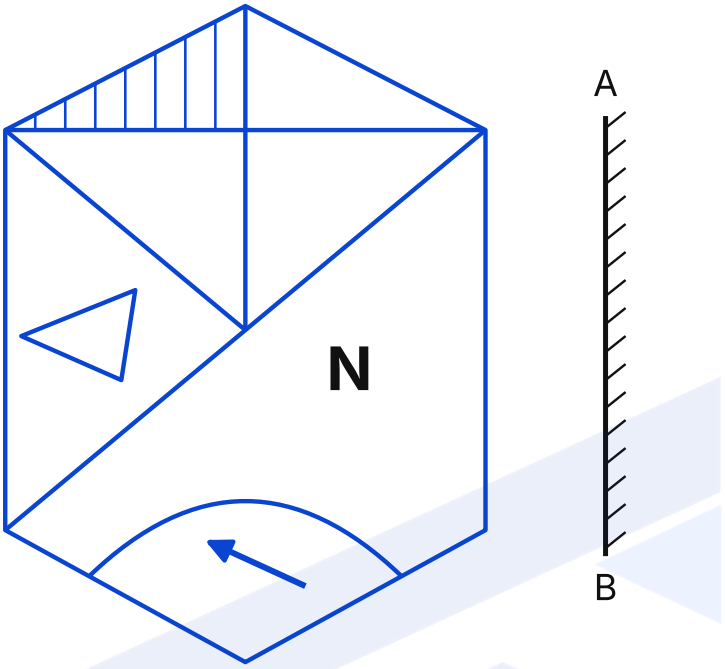


रेखा AB पर एक दर्पण रखा गया है। विकल्प आकृतियों में से कौन-सी आकृति प्रश्न आकृति का सही प्रतिबिंब होगी?

(A)

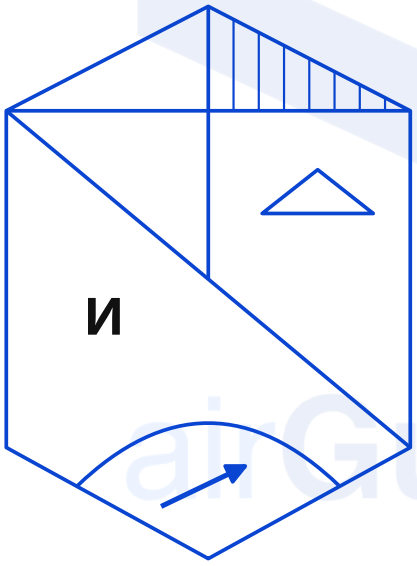


(B)

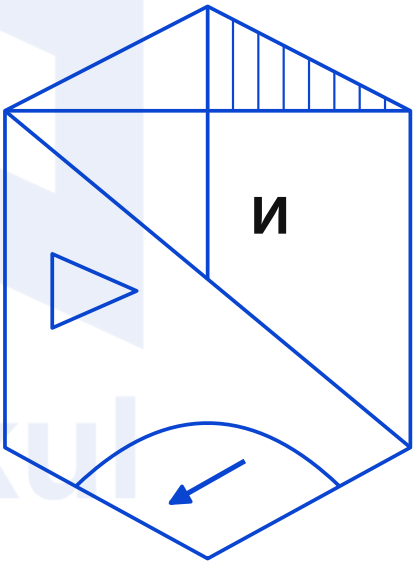

C

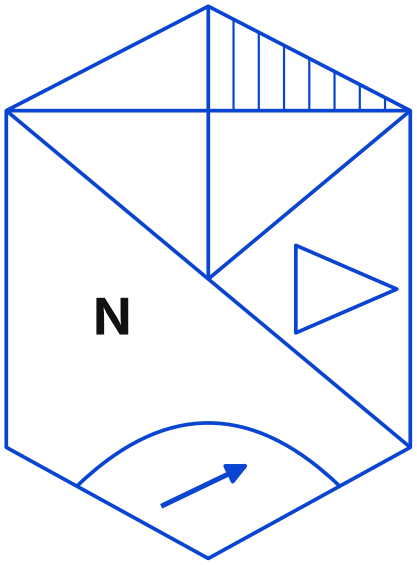


D

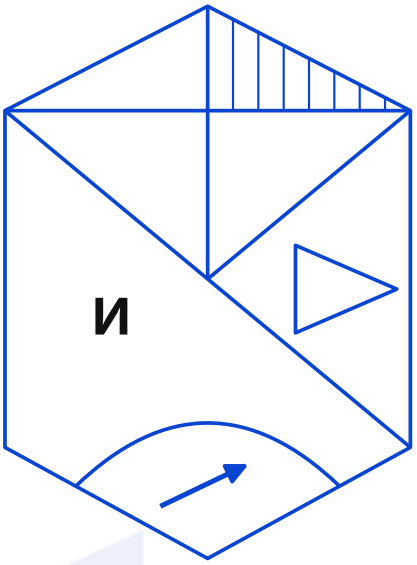


airGurukul

**Q33.** **A piece of paper is folded and punched as shown below in the question figures. From the given option figures, indicate how it will appear when opened**

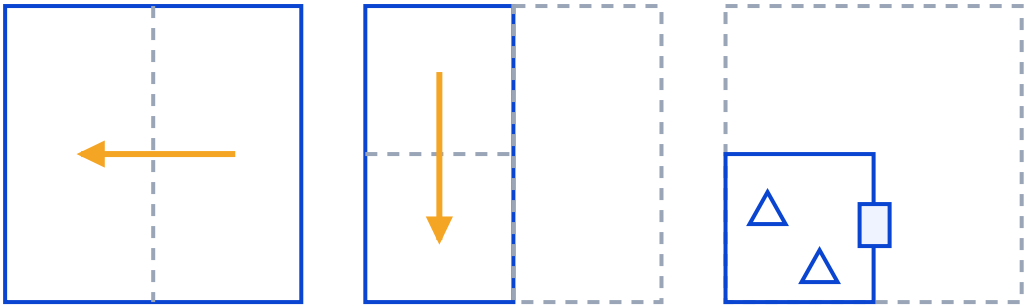

(i) (ii) (iii)

नीचे प्रश्न आकृतियों में दर्शाए अनुसार कागज़ के एक टुकड़े को मोड़ा तथा पंच किया गया है। दी गई विकल्प आकृतियों में से बताइए कि खोलने पर वह किस प्रकार दिखाई देगा।

A

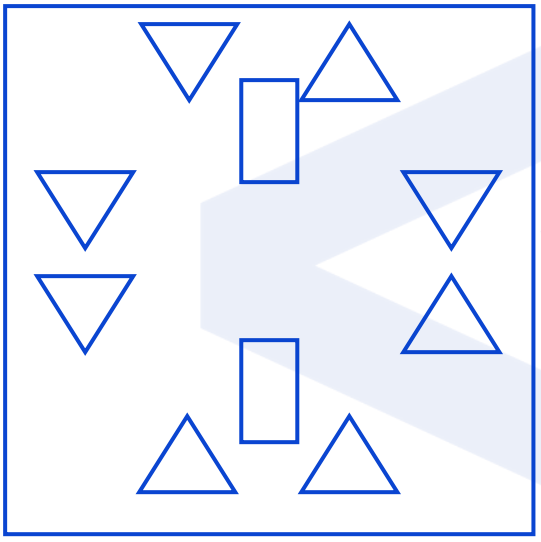

B

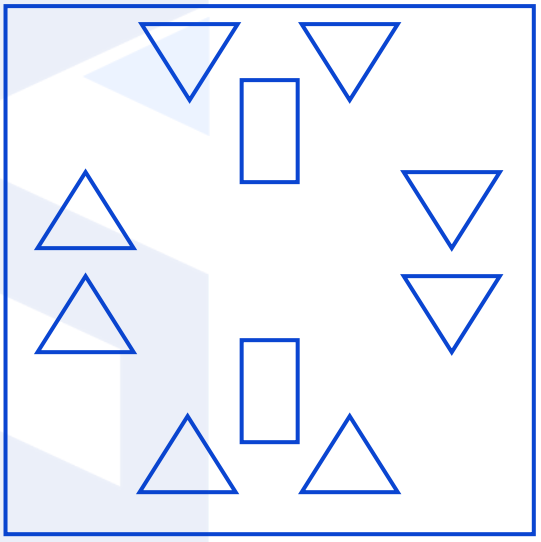

C

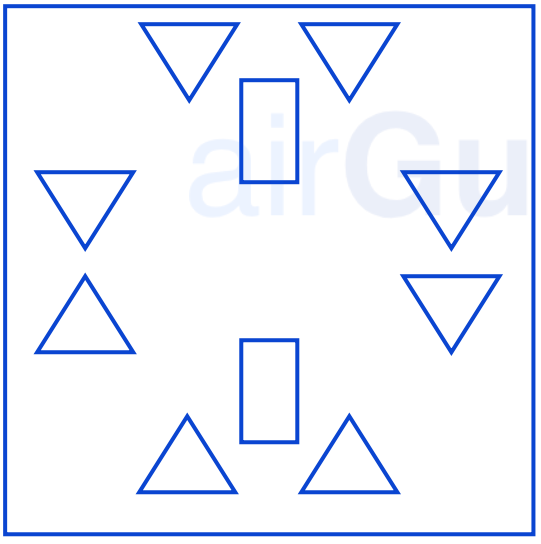

D

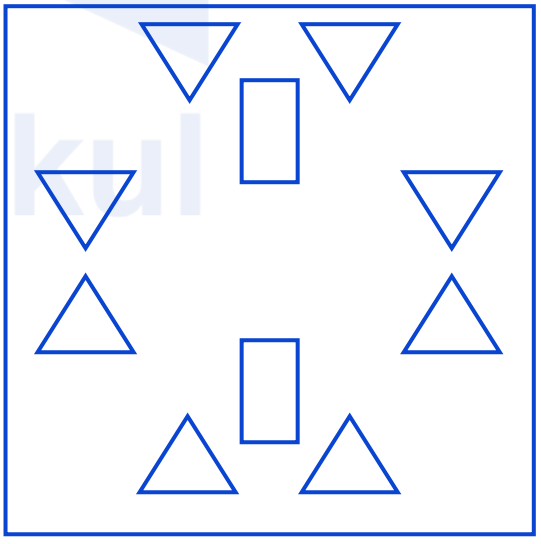

**Q34.** **A piece of paper is folded and punched as shown below in the question figures. From the given option figures, indicate how it will appear when opened.**

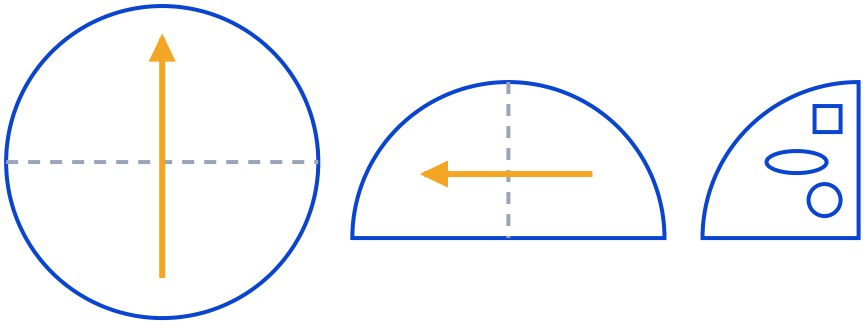

(i) (ii) (iii)

नीचे प्रश्न आकृतियों में दर्शाए अनुसार कागज़ के एक टुकड़े को मोड़ा तथा पंच किया गया है। दी गई विकल्प आकृतियों में से बताइए कि खोलने पर वह किस प्रकार दिखाई देगा।

A

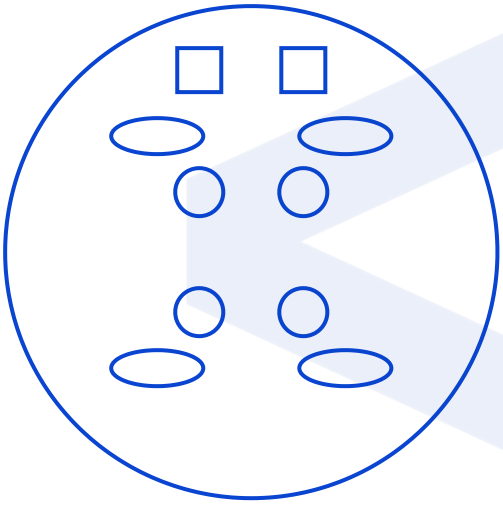

B

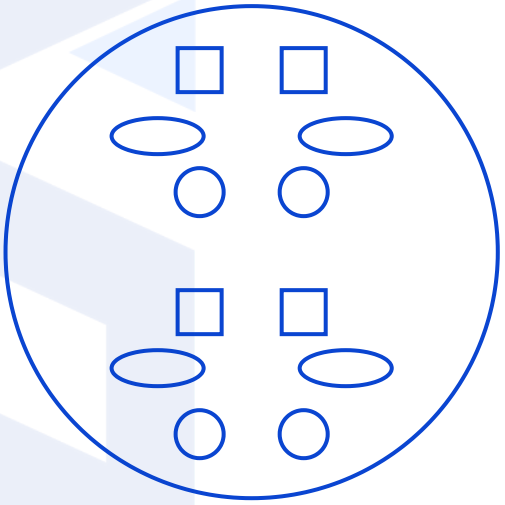

C

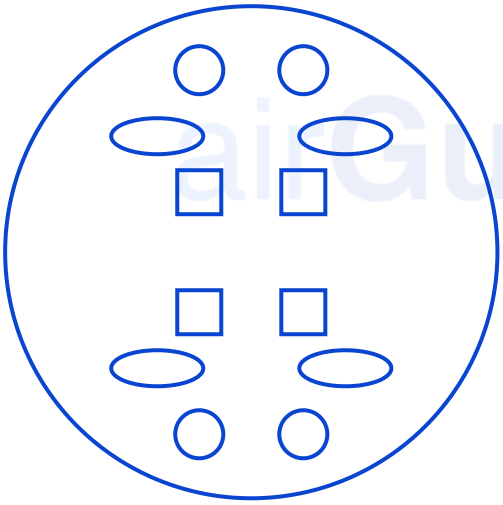

D

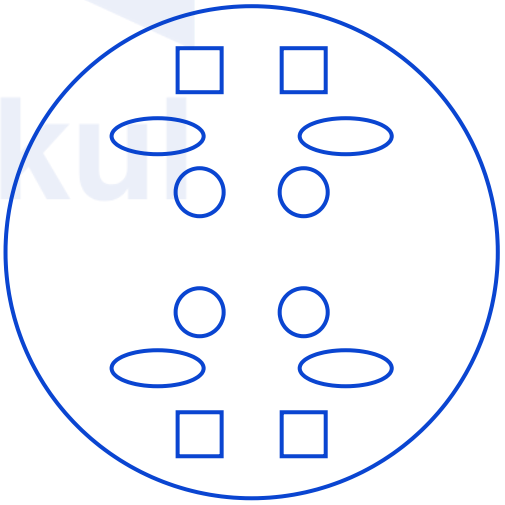

**Q35.** **There are 4 fruits - Apple, Banana, Mango and Orange and 5 snacks - Biscuit, Chips, Cake, Sandwich and Chocolate.**

**Out of these, Rohan's mother selects 2 fruits and 3 snacks for him based on the following conditions:**
**1. Apple and Chips cannot be together.**
**2. Banana and Cake cannot be together.**
**3. Mango and Sandwich must be together.**
**4. Chocolate and Orange cannot be together.**
**5. Biscuit and Cake cannot be together.**
**Which of the following combinations may Rohan get?**
**I. (Mango, Sandwich, Biscuit, Chocolate, Banana)**
**II. (Apple, Orange, Biscuit, Cake, Mango)**
**III. (Banana, Orange, Biscuit, Chips, Sandwich)**

4 फल हैं - Apple, Banana, Mango तथा Orange और 5 स्नैक्स हैं - Biscuit, Chips, Cake, Sandwich तथा Chocolate।

इनमें से Rohan की माँ निम्नलिखित शर्तों के आधार पर उसके लिए 2 फल तथा 3 स्नैक्स चुनती हैं:
1. Apple तथा Chips एक साथ नहीं हो सकते।
2. Banana तथा Cake एक साथ नहीं हो सकते।
3. Mango तथा Sandwich का एक साथ होना अनिवार्य है।
4. Chocolate तथा Orange एक साथ नहीं हो सकते।
5. Biscuit तथा Cake एक साथ नहीं हो सकते।
निम्नलिखित में से कौन-सा संयोजन Rohan को मिल सकता है?
I. (Mango, Sandwich, Biscuit, Chocolate, Banana)
II. (Apple, Orange, Biscuit, Cake, Mango)
III. (Banana, Orange, Biscuit, Chips, Sandwich)

(A) All the given / सभी दिए गए
(B) Only I / केवल I
(C) Only III / केवल III
(D) I and III / I तथा III

**Q36.** **Identify the pattern in the following sequence. 25, 64, 169, 441, 1156, ?**

**What is the next number in the sequence?**
निम्नलिखित अनुक्रम में पैटर्न की पहचान कीजिए। 25, 64, 169, 441, 1156, ?

अनुक्रम में अगली संख्या क्या है?

(A) 3441
(B) 3025
(C) 3450
(D) 3437

**Q37.** **In the following question, select the number which can be placed at the sign of question mark (?) from the given alternatives.**

| | | |
|---|---|---|
| **7** | **3** | **6** |
| **3** | **6** | **?** |
| **2** | **2** | **3** |
| **41** | **35** | **71** |

निम्नलिखित प्रश्न में, दिए गए विकल्पों में से उस संख्या का चयन कीजिए जिसे प्रश्नवाचक चिह्न (?) के स्थान पर रखा जा सकता है।

| | | |
|---|---|---|
| 7 | 3 | 6 |
| 3 | 6 | ? |
| 2 | 2 | 3 |
| 41 | 35 | 71 |

(A) 3
(B) 4
(C) 8
(D) 7

**Q38.** **How many triangles are present in the given figure?**

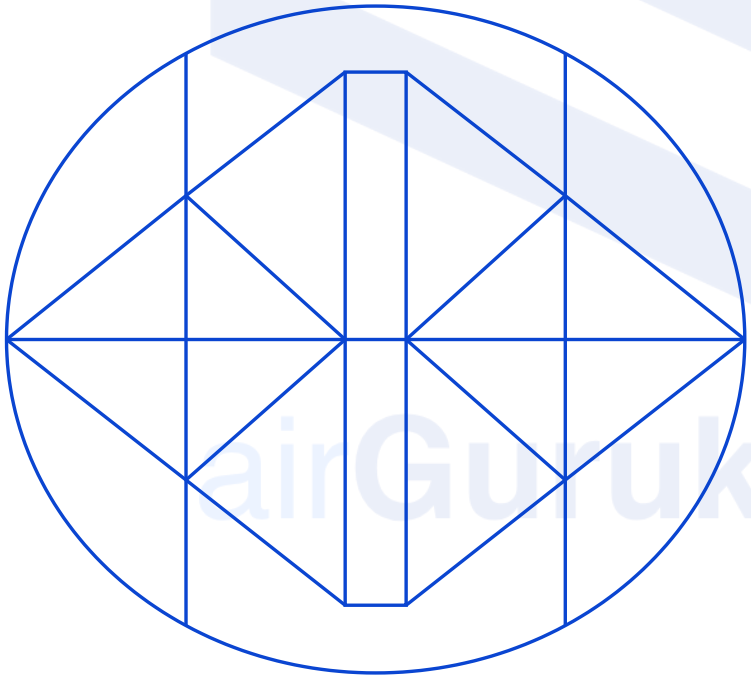

दी गई आकृति में कितने त्रिभुज हैं?

(A) 26
(B) 24
(C) 22
(D) 28

**Q39.** How many quadrilaterals are there in the given figure?

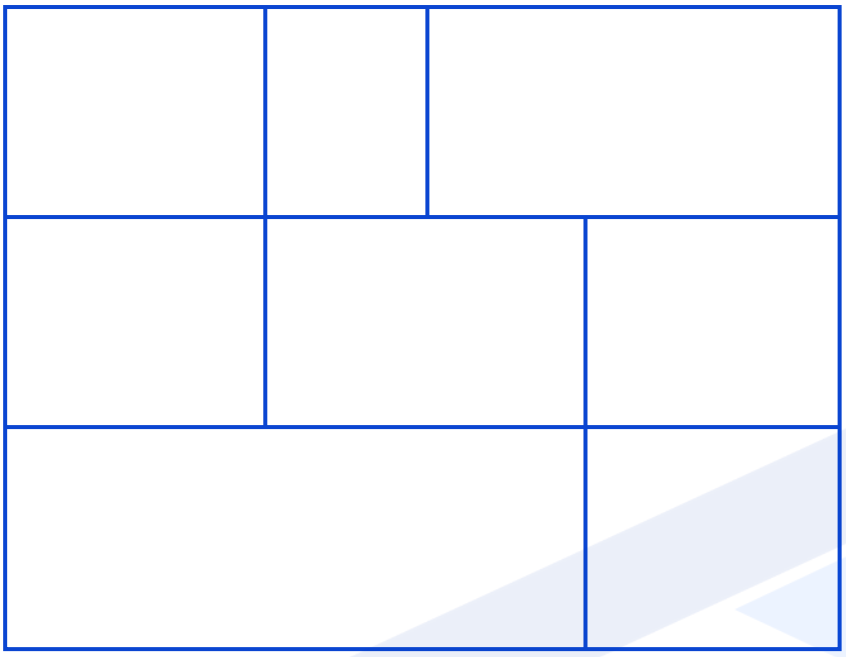

दी गई आकृति में कितने चतुर्भुज हैं?

(A) 19
(B) 21
(C) 18
(D) 22

airGurukul

**Q40.** **In the figure given below the square represents the car, the triangle represents the bus and the circle represents the train. The number in each area represents the number of items in that area.**

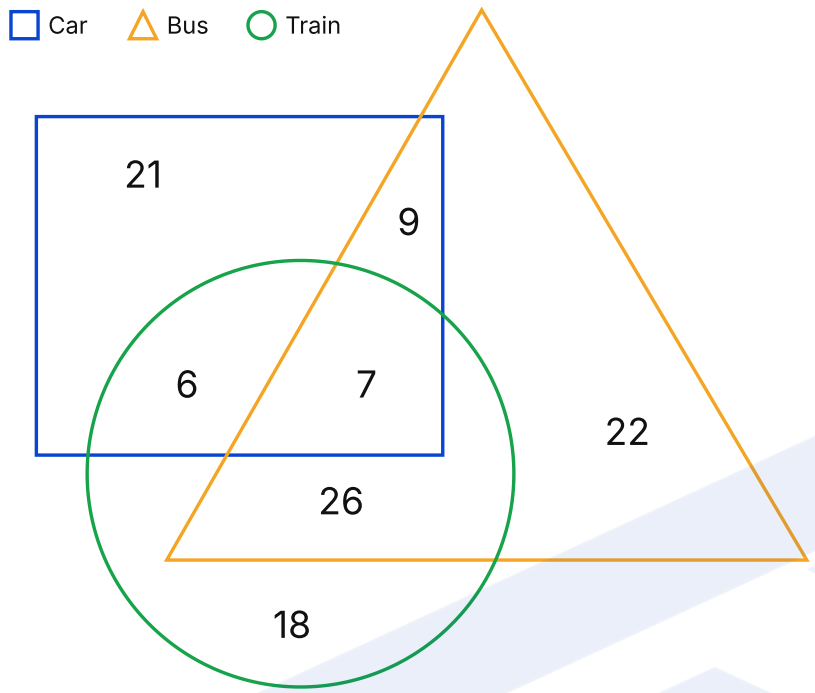


**How many car are bus?**

नीचे दी गई आकृति में वर्ग car को, त्रिभुज bus को तथा वृत्त train को निरूपित करता है। प्रत्येक क्षेत्र में लिखी संख्या उस क्षेत्र की वस्तुओं की संख्या दर्शाती है।

कितने car, bus हैं?

(A) 18
(B) 16
(C) 24
(D) 29

**Q41.** **Length of 5 rectangles $P, Q, R, S$ and $T$ is compared. Length of no two rectangles is same. Length of Q is less than only two rectangles. Length of no rectangle is less than S . Length of R is not more than T but more than P . Length of which rectangle is maximum?**

5 आयतों $P, Q, R, S$ तथा $T$ की लंबाई की तुलना की जाती है। किन्हीं दो आयतों की लंबाई समान नहीं है। Q की लंबाई केवल दो आयतों की लंबाई से कम है। किसी भी आयत की लंबाई S से कम नहीं है। R की लंबाई T से अधिक नहीं है, किंतु P से अधिक है। किस आयत की लंबाई अधिकतम है?

(A) T
(B) R
(C) P
(D) S

**Q42.** **Price of 6 toys P, Q, R, S, T, and U is compared. The price of no two toys is the same. The price of Q is the second highest. The price of T is less than R but mor. The price of $U$ is less than $S$ but more than P.**

**Which toy has the highest price?**

6 खिलौनों P, Q, R, S, T तथा U के मूल्य की तुलना की जाती है। किन्हीं दो खिलौनों का मूल्य समान नहीं है। Q का मूल्य दूसरा सर्वाधिक है। T का मूल्य R से कम है, किंतु S से अधिक है। $U$ का मूल्य $S$ से कम है, किंतु P से अधिक है।

किस खिलौने का मूल्य सर्वाधिक है?

(A) Q
(B) R
(C) S
(D) T

**Q43.** **8 women P, Q, R, S, T, U, V and W are sitting around a circular table facing the centre (not necessarily in the same order). Q is second to the left of $W.P$ is third to the left of Q . S is to the immediate right of $W.U$ is fourth to the left of $S, R$ is the immediate neighbour of W and Q . V is second to the right of W. Who is to the immediate right of T ?**

8 महिलाएँ P, Q, R, S, T, U, V तथा W एक वृत्ताकार मेज़ के चारों ओर केंद्र की ओर मुख करके बैठी हैं (आवश्यक नहीं कि इसी क्रम में)। Q, $W.P$ के बाईं ओर दूसरे स्थान पर है, जो Q के बाईं ओर तीसरे स्थान पर है। S, $W.U$ के ठीक दाईं ओर है, जो $S, R$ के बाईं ओर चौथे स्थान पर है, जो W तथा Q की निकटतम पड़ोसी है। V, W के दाईं ओर दूसरे स्थान पर है। T के ठीक दाईं ओर कौन है?

(A) U
(B) R
(C) S
(D) T

**Q44.** **If ' $A$ ' means '+', ' $B$ ' means '-', ' $C$ ' means ' $x$ ', and ' $D$ ' means ' $\div$ ', then 48 B 8 C 2 A 12 D $3 =$ ?**

यदि ' $A$ ' का अर्थ '+' है, ' $B$ ' का अर्थ '-' है, ' $C$ ' का अर्थ ' $x$ ' है तथा ' $D$ ' का अर्थ ' $\div$ ' है, तो 48 B 8 C 2 A 12 D $3 =$ ?

(A) 28
(B) 36
(C) 20
(D) 16

**Q45.** **Select the correct combination of mathematical signs to replace (*) signs sequentially and to balance the given equation.**

$18 * 6 * 54 * 9 * 12 = 114$

दिए गए समीकरण को संतुलित करने के लिए (*) चिह्नों के स्थान पर क्रमानुसार रखे जाने वाले गणितीय चिह्नों का सही संयोजन चुनिए।

$18 * 6 * 54 * 9 * 12 = 114$

(A) $\times, -, \div, +$
(B) $\div, +, x, -$
(C) $, - \times, +, +$
(D) $, + \div, -, \times$

**Q46.** **In the following question, four letter-number pairs are given. The letter-number on the left side of ( – ) is related to the letter-number on the right side of (-) with some Logic/Rule/Relation. Select the odd one out from the given alternatives.**

**(NOTE: Operations should be performed on the whole numbers, without breaking down the number into its constituent digits. E.g.13- Operations on 13 such as adding /subtracting /multiplying etc. to 13 can be performed. Breaking down 13 into 1 and 3 and then performing mathematical operations on 1 and 3 is not allowed)**

निम्नलिखित प्रश्न में चार अक्षर-संख्या युग्म दिए गए हैं। ( – ) के बाईं ओर का अक्षर-संख्या किसी तर्क/नियम/संबंध के अनुसार (-) के दाईं ओर के अक्षर-संख्या से संबंधित है। दिए गए विकल्पों में से असंगत को चुनिए।

(नोट: संक्रियाएँ पूर्ण संख्याओं पर की जानी चाहिए, संख्या को उसके अंकों में तोड़े बिना। उदाहरण के लिए 13 — 13 पर जोड़ना/घटाना/गुणा करना आदि संक्रियाएँ की जा सकती हैं। 13 को 1 तथा 3 में तोड़कर 1 और 3 पर गणितीय संक्रियाएँ करना मान्य नहीं है।)

(A) B156M - C3120
(B) F204Q - G408S
(C) H175R - I360T
(D) D198N - E396P

**Q47.** **In a certain coded language 'GHOST' is coded as 'QOLDD' and 'BRAIN' is coded as 'KEXNY'. How will 'STORM' be coded in the same code language?**

एक निश्चित कूट भाषा में 'GHOST' को 'QOLDD' तथा 'BRAIN' को 'KEXNY' लिखा जाता है। उसी कूट भाषा में 'STORM' को किस प्रकार लिखा जाएगा?

(A) JKMPP
(B) JNLPP
(C) KMLPQ
(D) INKPO

**Q48.** **In a certain coded language 'MANTRA' is coded as 'QVXREE' and 'POTION' is coded as 'TSMXSR'. How will 'CAMERA' be coded in the same code language?**

एक निश्चित कूट भाषा में 'MANTRA' को 'QVXREE' तथा 'POTION' को 'TSMXSR' लिखा जाता है। उसी कूट भाषा में 'CAMERA' को किस प्रकार लिखा जाएगा?

(A) GUIPEE
(B) GVIQEE
(C) HWJRFF
(D) GVIREE

**Q49.** **A series is given with one term missing. Select the correct alternative from the given ones that will complete the series.**

**TI278, SG246, ? , QC182, PA150**

एक श्रृंखला दी गई है जिसमें एक पद लुप्त है। दिए गए विकल्पों में से वह सही विकल्प चुनिए जो श्रृंखला को पूर्ण करेगा।

TI278, SG246, ? , QC182, PA150

(A) RE250
(B) RE214
(C) RE210
(D) RE256

**Q50.** **A series is given with one term wrong. Select that wrong term from the given alternatives.**

**DK12, KR60, RY300, YF1500, FM7600**

एक श्रृंखला दी गई है जिसमें एक पद गलत है। दिए गए विकल्पों में से उस गलत पद को चुनिए।

DK12, KR60, RY300, YF1500, FM7600

(A) KR60
(B) YF1500
(C) RY300
(D) FM7600

airGurukul

# Want to clear SSC CHSL Tier-1?

Prepare with **Samyān (सम्यान) 1.0 – SSC Foundation Course** – structured classes, practice and doubt support for SSC CHSL Tier-1.

**Every PYP as an online test**
Shift-wise papers with timer, score and rank.

**Detailed solutions**
Step-by-step answers in Hindi and English.

**Free live classes**
Daily classes on our YouTube channel airGurukul SSC Exams.

**Exam updates**
Notifications, admit cards and results on WhatsApp.

See the course

Attempt this paper online

Detailed solutions

## Free classes & exam updates

**Telegram Channel**
t.me/airgurukulofficial

**WhatsApp Channel**
whatsapp.com/channel/0029VbBP7n00VycAFq6AGJ0I

**YouTube Channel**
youtube.com/@airGurukulSSCExams

**Android App**
play.google.com/...?id=in.airgurukul

Call / WhatsApp **+91-7042559948** · www.airgurukul.com

## Section 3: Quantitative Aptitude (Q51–75)

**Q51.** **25% of a number is 35. What is $80\%$ of that number?**

किसी संख्या का 25% 35 है। उस संख्या का $80\%$ कितना होगा?

(A) 100
(B) 112
(C) 122
(D) 132

**Q52.** **On selling 15 articles, a trader gains the cost price of 5 articles. What is his profit percentage?**

15 वस्तुएँ बेचने पर एक व्यापारी को 5 वस्तुओं के क्रय मूल्य के बराबर लाभ होता है। उसका लाभ प्रतिशत क्या है?

(A) 30.33%
(B) 33.33%
(C) 30%
(D) 21.25%

**Q53.** **A can complete a task in 12 days, while B can finish the same task in 18 days. They decide to work alternately, with A starting the work on the first day. How many days will it take for them to complete the entire task?**

A किसी कार्य को 12 दिनों में पूरा कर सकता है, जबकि B उसी कार्य को 18 दिनों में समाप्त कर सकता है। वे एकांतर दिनों में कार्य करने का निर्णय लेते हैं, जिसमें पहले दिन A कार्य आरंभ करता है। संपूर्ण कार्य पूरा करने में उन्हें कितने दिन लगेंगे?

(A) $11\frac{2}{3}$ days / $11\frac{2}{3}$ दिन
(B) $11\frac{1}{3}$ days / $11\frac{1}{3}$ दिन
(C) $14\frac{1}{3}$ days / $14\frac{1}{3}$ दिन
(D) $13\frac{1}{3}$ days / $13\frac{1}{3}$ दिन

**Q54.** **If a car reduces its speed by 8 $\mathrm{km}/h$, it takes 1 hour more for a journey of 160 km . Find original speed.**

यदि कोई कार अपनी चाल 8 $\mathrm{km}/h$ कम कर देती है, तो 160 km की यात्रा में उसे 1 घंटा अधिक लगता है। मूल चाल ज्ञात कीजिए।

(A) 32 km/h
(B) $40\mathrm{km}/h$
(C) 48 km/h
(D) $56\mathrm{km}/h$

**Q55.** **A sum becomes ₹6000 in 5 years at $10\%$ simple interest per annum. What is the original sum?**

कोई धनराशि $10\%$ वार्षिक साधारण ब्याज की दर से 5 वर्षों में ₹6000 हो जाती है। मूलधन कितना है?

(A) ₹3000
(B) ₹5000
(C) ₹4000
(D) ₹6000

**Q56.** **A tank shaped like a rectangular parallelepiped measures $4m \times 1.8m \times$ 1.5 m . How many liters of water can it hold?**

एक टंकी आयताकार समांतर षट्फलक के आकार की है, जिसकी माप $4m \times 1.8m \times$ 1.5 m है। इसमें कितने लीटर पानी आ सकता है?

(A) 10000 L
(B) 11000 L
(C) 10800 L
(D) 10900 L

**Q57.** **An artist carves an ice sculpture in shape of a right triangular pyramid (base triangle: base 5 cm , height 12 cm , pyramid height 15 cm ). What is the volume of ice used?**

एक कलाकार बर्फ की एक मूर्ति लंब त्रिभुजाकार पिरामिड के आकार में तराशता है (आधार त्रिभुज: आधार 5 cm, ऊँचाई 12 cm, पिरामिड की ऊँचाई 15 cm)। प्रयुक्त बर्फ का आयतन कितना है?

(A) $100\text{cm}^3$
(B) $150\text{cm}^3$
(C) $200\text{cm}^3$
(D) $300\text{cm}^3$

**Q58.** **In triangle $\text{PQR}, 'M'$ ' is a point on QR such that $\angle\text{RPM} = \angle\text{QPM}$. If $\text{PQ} = 21, \text{PR} = 14$ and $\text{QR} = 15.5$, then find the length of MR.**

त्रिभुज $\text{PQR}, 'M'$ ', QR पर एक ऐसा बिंदु है कि $\angle\text{RPM} = \angle\text{QPM}$ है। यदि $\text{PQ} = 21, \text{PR} = 14$ तथा $\text{QR} = 15.5$ हो, तो MR की लंबाई ज्ञात कीजिए।

(A) 9.1 cm
(B) 6.2 cm
(C) 6.5 cm
(D) 9 cm

**Q59.** **Out of 400 students, 40% failed the exam. Out of the remaining 40% passed the exam with distinction. Find the ratio of the students who passed the exam with distinction to the students who passed the exam without distinction.**

400 विद्यार्थियों में से 40% परीक्षा में अनुत्तीर्ण हो गए। शेष में से 40% विद्यार्थी परीक्षा में विशेष योग्यता (distinction) के साथ उत्तीर्ण हुए। विशेष योग्यता के साथ उत्तीर्ण विद्यार्थियों तथा बिना विशेष योग्यता के उत्तीर्ण विद्यार्थियों का अनुपात ज्ञात कीजिए।

(A) 2 : 3
(B) 2 : 4
(C) 2 : 1
(D) 2 : 6

**Q60.** **Assertion (A): If in two right-angled triangles the hypotenuse and one side are equal, then the triangles are congruent.**

**Reason (R): The RHS (Right angle-Hypotenuse-Side) congruence rule is applicable to right-angled triangles.**

अभिकथन (A): यदि दो समकोण त्रिभुजों में कर्ण तथा एक भुजा बराबर हों, तो वे त्रिभुज सर्वांगसम होते हैं।

**कारण (R):** RHS (समकोण-कर्ण-भुजा) सर्वांगसमता नियम समकोण त्रिभुजों पर लागू होता है।

(A) Both A and R are true, and R is the correct explanation of A / A और R दोनों सत्य हैं तथा R, A की सही व्याख्या है
(B) Both A and R are true, but R is not the correct explanation of A / A और R दोनों सत्य हैं, किंतु R, A की सही व्याख्या नहीं है
(C) A is true, but R is false / A सत्य है, किंतु R असत्य है
(D) A is false, but R is true / A असत्य है, किंतु R सत्य है

**Q61.** **The ratio of the length and breadth of a rectangle is $7:4$, respectively. It is made from a circular loop of a wire having a radius of 21 cm . Find the sum of the length of the rectangle and the diameter of the loop.**

एक आयत की लंबाई तथा चौड़ाई का अनुपात क्रमशः $7:4$ है। इसे 21 cm त्रिज्या वाले तार के एक वृत्ताकार लूप से बनाया गया है। आयत की लंबाई तथा लूप के व्यास का योग ज्ञात कीजिए।

(A) 84 cm
(B) 91 cm
(C) 70 cm
(D) 86 cm

**Q62.** **If $\operatorname{cosec}\left(\theta\right) = \frac{2}{\sqrt{3}}$, what is the value of $\sec\left(\theta\right)$ .**

यदि $\operatorname{cosec}\left(\theta\right) = \frac{2}{\sqrt{3}}$ है, तो $\sec\left(\theta\right)$ का मान क्या है।

(A) 1
(B) 2
(C) 0
(D) $\sqrt{3}$

**Q63.** **P, Q, and R invest in a business. P invests Rs 40,000, Q invests Rs 50,000, and $R$ invests $Rs60,000$. What is the total profit if the share of $R$ is $Rs6,000$ ?**

P, Q तथा R एक व्यवसाय में निवेश करते हैं। P, Rs 40,000 निवेश करता है, Q, Rs 50,000 निवेश करता है तथा $R$, $Rs60,000$ निवेश करता है। यदि $R$ का हिस्सा $Rs6,000$ है, तो कुल लाभ क्या है?

(A) ₹ 30,000
(B) ₹ 15,000
(C) ₹ 20,000
(D) ₹ 25,000

**Q64.** **Two runners, $A$ and $B$, start from the same point on a circular track of 500 m . They run in the same direction with speeds of $15m / s$ and $20m / s$, respectively. How many times will they cross each other in 10 minutes?**

दो धावक, $A$ तथा $B$, 500 m के एक वृत्ताकार पथ पर एक ही बिंदु से चलना प्रारंभ करते हैं। वे क्रमशः $15m / s$ तथा $20m / s$ की चाल से एक ही दिशा में दौड़ते हैं। 10 मिनट में वे कितनी बार एक-दूसरे को पार करेंगे?

(A) 4
(B) 5
(C) 6
(D) 7

**Q65.** **The average marks of 50 students in a class is 80. Later, it was discovered that a student's marks were recorded as 39 instead of 92. What is the correct average?**

एक कक्षा के 50 विद्यार्थियों के औसत अंक 80 हैं। बाद में ज्ञात हुआ कि एक विद्यार्थी के अंक 92 के स्थान पर 39 दर्ज किए गए थे। सही औसत क्या है?

(A) 80.94
(B) 78.94
(C) 81.94
(D) 79.94

**Q66.** **In a company, the monthly salaries of a manager, supervisor, and worker are in the ratio $9:7:5$. If the supervisor earns 35,000 , what is the manager's salary?**

एक कंपनी में एक प्रबंधक, पर्यवेक्षक तथा श्रमिक के मासिक वेतन का अनुपात $9:7:5$ है। यदि पर्यवेक्षक 35,000 कमाता है, तो प्रबंधक का वेतन क्या है?

(A) 27,000
(B) 54,000
(C) 45,000
(D) 63,000

**Q67.** **In a circle with center O , a tangent touches the circle at point T. A secant drawn from an external point $P$ passes through the center O . The length of the tangent PT is 24 units, and the radius of the circle is 7 units. What is the distance from point $P$ to the nearest point on the circle?**

केंद्र O वाले एक वृत्त में, एक स्पर्श रेखा वृत्त को बिंदु T पर स्पर्श करती है। एक बाह्य बिंदु $P$ से खींची गई एक छेदक रेखा केंद्र O से होकर जाती है। स्पर्श रेखा PT की लंबाई 24 इकाई है तथा वृत्त की त्रिज्या 7 इकाई है। बिंदु $P$ से वृत्त के निकटतम बिंदु की दूरी क्या है?

(A) 18 units / 18 इकाई
(B) 20 units / 20 इकाई
(C) 25 units / 25 इकाई
(D) 17 units / 17 इकाई

**Q68.** **A regular polygon has an interior angle that is 8 times the measure of its exterior angle. How many sides does the polygon have?**

एक सम बहुभुज का एक अंतःकोण उसके बाह्य कोण के माप का 8 गुना है। बहुभुज में कितनी भुजाएँ हैं?

(A) 16
(B) 15
(C) 20
(D) 18

**Q69.** **If $2x^2 + y^2 = 59$ and $xy = 15$, find the value of $2y + x$ and $2y - x$.**

यदि $2x^2 + y^2 = 59$ तथा $xy = 15$ है, तो $2y + x$ तथा $2y - x$ के मान ज्ञात कीजिए।

(A) 12,2
(B) 11,1
(C) 10,8
(D) 9,8

**Q70.** **Simplify the expression:**

$$\left(\frac{32}{243}\right)^{\frac{2}{5}} \times \sqrt[5]{32} \times \left(\frac{243}{32}\right)^{\frac{3}{5}}$$

व्यंजक को सरल कीजिए:

$$\left(\frac{32}{243}\right)^{\frac{2}{5}} \times \sqrt[5]{32} \times \left(\frac{243}{32}\right)^{\frac{3}{5}}$$

(A) 3
(B) 6
(C) 9
(D) 4

**Q71.** **Solve:**

$\cot\theta \times \cos\theta + \sin\theta$

हल कीजिए:

$\cot\theta \times \cos\theta + \sin\theta$

(A) $\sec\theta$
(B) $\operatorname{cosec}\theta$
(C) 1
(D) $\cos\theta$

**Q72.** **If two circles have equal radii and they intersect each other, then how many common tangents are possible?**

यदि दो वृत्तों की त्रिज्याएँ समान हैं तथा वे एक-दूसरे को प्रतिच्छेद करते हैं, तो कितनी उभयनिष्ठ स्पर्श रेखाएँ संभव हैं?

(A) 0
(B) 1
(C) 2
(D) 4

**Q73.** **If $\cos 3A = \frac{7}{25}$, find the values of $\sin 3A$ and $\cot 3A$.**

यदि $\cos 3A = \frac{7}{25}$ है, तो $\sin 3A$ तथा $\cot 3A$ के मान ज्ञात कीजिए।

(A) $\sin 3A = \frac{24}{25}, \cot 3A = \frac{7}{24}$
(B) $\sin 3A = \frac{7}{25}, \cot 3A = \frac{24}{7}$
(C) $\sin 3A = \frac{24}{25}, \cot 3A = \frac{24}{7}$
(D) $\sin 3A = \frac{7}{24}, \cot 3A = \frac{25}{24}$

**Q74.** **At the rate of $10\%$ per annum compound interest (compounded annually), what sum will amount to ₹6050 in 2 years?**

चक्रवृद्धि ब्याज की $10\%$ प्रति वर्ष की दर से (वार्षिक रूप से संयोजित), कौन-सी राशि 2 वर्षों में ₹6050 हो जाएगी?

(A) ₹5000
(B) ₹5500
(C) ₹6000
(D) ₹4500

**Q75.** **Marked price of an article is 150 percent more than the value of discount. Selling price is what percent of the marked price?**

एक वस्तु का अंकित मूल्य छूट के मान से 150 प्रतिशत अधिक है। विक्रय मूल्य, अंकित मूल्य का कितने प्रतिशत है?

(A) 50 percent / 50 प्रतिशत
(B) 60 percent / 60 प्रतिशत
(C) 55 percent / 55 प्रतिशत
(D) 52 percent / 52 प्रतिशत

## Section 4: General Awareness (Q76–100)

**Q76.** **Who authored the three-volume historical account of Emperor Akbar's reign ?**
सम्राट अकबर के शासनकाल का तीन खंडों वाला ऐतिहासिक विवरण किसने लिखा था ?

(A) Abul Fazl / अबुल फ़ज़ल
(B) Al-Biruni / अल-बिरूनी
(C) Ziauddin Barani / ज़ियाउद्दीन बरनी
(D) Minhaj-us-Siraj / मिन्हाज-उस-सिराज

**Q77.** **Which of the following dynasty-region pair(s) is/are correctly matched ?**

**I. Rashtrakuta - Karnataka**
**II. Gurjara-Pratihara - Rajasthan**
निम्नलिखित में से कौन-सा/से राजवंश-क्षेत्र युग्म सही सुमेलित है/हैं ?

I. राष्ट्रकूट - कर्नाटक
II. गुर्जर-प्रतिहार - राजस्थान

(A) Only I / केवल I
(B) Only II / केवल II
(C) Both I and II / I तथा II दोनों
(D) Neither I nor II / न तो I और न ही II

**Q78.** **Article 40 of the Indian Constitution deals with the ___.**
भारतीय संविधान का अनुच्छेद 40 ___ से संबंधित है।

(A) Organization of village panchayats / ग्राम पंचायतों का संगठन
(B) Right to information / सूचना का अधिकार
(C) Uniform civil code / समान नागरिक संहिता
(D) Promotion of international peace / अंतर्राष्ट्रीय शांति का संवर्धन

**Q79.** **Which of the following Indian states is covered under the provisions of the Sixth Schedule of the Indian Constitution?**
निम्नलिखित में से कौन-सा भारतीय राज्य भारतीय संविधान की छठी अनुसूची के उपबंधों के अंतर्गत आता है?

(A) Arunachal Pradesh / अरुणाचल प्रदेश
(B) Nagaland / नागालैंड
(C) Mizoram / मिज़ोरम
(D) Manipur / मणिपुर

**Q80.** **As of 31 July 2025, which of the following countries is NOT a members of the Indian Ocean Rim Association (IORA)?**
31 जुलाई 2025 तक, निम्नलिखित में से कौन-सा देश हिंद महासागर रिम संघ (IORA) का सदस्य नहीं है?

(A) Australia / ऑस्ट्रेलिया
(B) Bangladesh / बांग्लादेश
(C) China / चीन
(D) India / भारत

**Q81.** **Which Indian ruler is popularly remembered as the "Napoleon of India" due to his extensive military campaigns?**
किस भारतीय शासक को उसके व्यापक सैन्य अभियानों के कारण लोकप्रिय रूप से "भारत का नेपोलियन" कहा जाता है?

(A) Harsha / हर्ष
(B) Samudragupta / समुद्रगुप्त
(C) Pulakeshin II / पुलकेशिन II
(D) Rajendra Chola I / राजेन्द्र चोल I

**Q82.** **In March 2025, who was appointed as the Private Secretary to Prime Minister Narendra Modi?**
मार्च 2025 में, प्रधानमंत्री नरेंद्र मोदी के निजी सचिव के रूप में किसे नियुक्त किया गया?

(A) Ajit Doval / अजीत डोभाल
(B) Pramod Kumar Mishra / प्रमोद कुमार मिश्रा
(C) Nidhi Tewari / निधि तिवारी
(D) Rajiv Gauba / राजीव गौबा

**Q83.** **Who took oath as the Chief Minister of Odisha in June 2024?**
जून 2024 में ओडिशा के मुख्यमंत्री के रूप में किसने शपथ ली?

(A) Hemant Soren / हेमंत सोरेन
(B) Mohan Charan Majhi / मोहन चरण माझी
(C) Himanta Biswa Sarma / हिमंत बिस्वा सरमा
(D) Manik Saha / माणिक साहा

**Q84.** **In 2025, which body instructed higher education institutions to keep a check on informal WhatsApp groups used for harassing junior students?**
2025 में, किस निकाय ने उच्च शिक्षण संस्थानों को कनिष्ठ छात्रों को प्रताड़ित करने के लिए प्रयुक्त अनौपचारिक WhatsApp समूहों पर निगरानी रखने का निर्देश दिया?

(A) UGC
(B) NITI Aayog / नीति आयोग
(C) CBSE
(D) Ministry of Education / शिक्षा मंत्रालय

**Q85.** **In April 2025, the Union Cabinet led by Prime Minister Narendra Modi approved the Vibrant Villages Programme-II (VVP-II) as a ___ percent centrally funded scheme.**
अप्रैल 2025 में, प्रधानमंत्री नरेंद्र मोदी की अध्यक्षता में केंद्रीय मंत्रिमंडल ने वाइब्रेंट विलेजेज प्रोग्राम-II (VVP-II) को ___ प्रतिशत केंद्र-वित्तपोषित योजना के रूप में स्वीकृति दी।

(A) 60
(B) 75
(C) 90
(D) 100

**Q86.** **The Technology and Innovation Report is released by which international organisation?**
टेक्नोलॉजी एंड इनोवेशन रिपोर्ट (Technology and Innovation Report) किस अंतर्राष्ट्रीय संगठन द्वारा जारी की जाती है?

(A) UNCTAD
(B) UNESCO
(C) OECD
(D) IMF

**Q87.** **India was represented by only one athlete at the Paris ___ Olympic Games.**
पेरिस ___ ओलंपिक खेलों में भारत का प्रतिनिधित्व केवल एक खिलाड़ी ने किया था।

(A) 1900
(B) 1924
(C) 1912
(D) 1936

**Q88.** **The Ramayana and Mahabharata mention the following sports:**
रामायण तथा महाभारत में निम्नलिखित खेलों का उल्लेख मिलता है:

(A) Only Archery / केवल तीरंदाजी
(B) Only Wrestling / केवल कुश्ती
(C) Both Archery and Wrestling / तीरंदाजी तथा कुश्ती दोनों
(D) Neither Archery nor Wrestling / न तो तीरंदाजी और न ही कुश्ती

**Q89.** **The International Solar Alliance (ISA) has set a target to mobilize how many trillion dollars in solar investments by 2030?**
अंतर्राष्ट्रीय सौर गठबंधन (ISA) ने 2030 तक सौर निवेश में कितने ट्रिलियन डॉलर जुटाने का लक्ष्य निर्धारित किया है?

(A) 1
(B) 5
(C) 3
(D) 4

**Q90.** **In India, the first National Basketball Championship was organised in which year ?**
भारत में पहली राष्ट्रीय बास्केटबॉल चैंपियनशिप का आयोजन किस वर्ष किया गया था ?

(A) 1904
(B) 1934
(C) 1914
(D) 1928

**Q91.** **Which of the following books is authored by Jhumpa Lahiri ?**
निम्नलिखित में से कौन-सी पुस्तक झुंपा लाहिड़ी द्वारा लिखी गई है ?

(A) Whereabouts
(B) The White Tiger
(C) Midnight's Children
(D) The Palace of Illusions

**Q92.** **Which of the following statements about the Harappan drainage system is correct?**

**I. It was highly advanced and systematically planned**
**II. It was used only by the rulers**
हड़प्पा की जल-निकासी प्रणाली के विषय में निम्नलिखित में से कौन-सा कथन सही है?

I. यह अत्यंत उन्नत तथा व्यवस्थित रूप से नियोजित थी
II. इसका उपयोग केवल शासकों द्वारा किया जाता था

(A) Only I / केवल I
(B) Only II / केवल II
(C) Both I and II / I तथा II दोनों
(D) Neither I nor II / न तो I और न ही II

**Q93.** **In which Indian state do married women observe "Jiviti Puja" in devotion to Goddess Parvati?**
भारत के किस राज्य में विवाहित महिलाएँ देवी पार्वती की भक्ति में "जिविती पूजा" (Jiviti Puja) करती हैं?

(A) Assam / असम
(B) Jharkhand / झारखंड
(C) Maharashtra / महाराष्ट्र
(D) Himachal Pradesh / हिमाचल प्रदेश

**Q94.** **In July 2025, which country deployed the communication satellite Dror-1 into orbit?**
जुलाई 2025 में, किस देश ने संचार उपग्रह Dror-1 को कक्षा में स्थापित किया?

(A) France / फ्रांस
(B) Israel / इजराइल
(C) South Korea / दक्षिण कोरिया
(D) Italy / इटली

**Q95.** **In June 2024, which two countries joined hands for the 'TRISHNA' mission?**
जून 2024 में, किन दो देशों ने 'TRISHNA' मिशन के लिए हाथ मिलाया?

(A) India and Germany / भारत तथा जर्मनी
(B) India and France / भारत तथा फ्रांस
(C) India and Australia / भारत तथा ऑस्ट्रेलिया
(D) India and the United States / भारत तथा संयुक्त राज्य अमेरिका

**Q96.** **In 1792, the forces that jointly attacked Tipu Sultan comprised which of the following?**

**I. The Marathas**
**II. The Nizam of Hyderabad**
**III. The East India Company**
1792 में, टीपू सुल्तान पर संयुक्त रूप से आक्रमण करने वाली शक्तियों में निम्नलिखित में से कौन-कौन सम्मिलित थीं?

I. मराठा
II. हैदराबाद का निज़ाम
III. ईस्ट इंडिया कंपनी

(A) Only I and II / केवल I तथा II
(B) Only II and III / केवल II तथा III
(C) Only I and III / केवल I तथा III
(D) I, II and III / I, II तथा III

**Q97.** **Who has the authority to recommend the creation of a Legislative Council in an Indian state?**
भारत के किसी राज्य में विधान परिषद के सृजन की संस्तुति करने का अधिकार किसे प्राप्त है?

(A) Governor of the state / राज्य का राज्यपाल
(B) Prime Minister / प्रधानमंत्री
(C) Chief Justice of India / भारत का मुख्य न्यायाधीश
(D) State Legislative Assembly / राज्य विधानसभा

**Q98.** **What was the main objective of abolishing intermediaries during land reforms in India?**
भारत में भूमि सुधारों के दौरान बिचौलियों की समाप्ति का मुख्य उद्देश्य क्या था?

(A) To increase the power of landlords / ज़मींदारों की शक्ति बढ़ाना
(B) To reduce government oversight in agriculture / कृषि में सरकारी निगरानी कम करना
(C) To establish a direct relationship between tenants and the government / काश्तकारों तथा सरकार के बीच प्रत्यक्ष संबंध स्थापित करना
(D) To allow landlords to acquire more land / ज़मींदारों को अधिक भूमि अर्जित करने देना

**Q99.** **The transport of soluble products of photosynthesis from leaves to other parts of a plant is called:**

प्रकाश-संश्लेषण के घुलनशील उत्पादों का पत्तियों से पौधे के अन्य भागों तक परिवहन कहलाता है:

(A) Respiration / श्वसन
(B) Translocation / स्थानांतरण (ट्रांसलोकेशन)
(C) Evaporation / वाष्पीकरण
(D) Photosynthetic flow / प्रकाश-संश्लेषी प्रवाह

**Q100.** **Tattvarthadhigamasutra, known as the first text on Jain philosophy, was authored by:**

जैन दर्शन पर प्रथम ग्रंथ के रूप में ज्ञात तत्त्वार्थाधिगमसूत्र की रचना किसने की थी:

(A) Kundakunda / कुंदकुंद
(B) Umasvati / उमास्वाति
(C) Aryabhata / आर्यभट
(D) Mahakavi Kalidasa / महाकवि कालिदास

airGurukul

## Answer Key – SSC CHSL Tier-1 27 November 2025, Shift 3

| | | | | | | | | | |
|---|---|---|---|---|---|---|---|---|---|
| 1 | A | 2 | D | 3 | C | 4 | B | 5 | C |
| 6 | D | 7 | D | 8 | C | 9 | B | 10 | A |
| 11 | C | 12 | B | 13 | A | 14 | D | 15 | B |
| 16 | A | 17 | D | 18 | C | 19 | C | 20 | C |
| 21 | D | 22 | B | 23 | B | 24 | A | 25 | C |
| 26 | B | 27 | C | 28 | A | 29 | D | 30 | B |
| 31 | A | 32 | D | 33 | D | 34 | D | 35 | B |
| 36 | B | 37 | B | 38 | A | 39 | D | 40 | B |
| 41 | A | 42 | B | 43 | A | 44 | B | 45 | A |
| 46 | C | 47 | B | 48 | B | 49 | B | 50 | D |
| 51 | B | 52 | B | 53 | C | 54 | B | 55 | C |
| 56 | C | 57 | B | 58 | B | 59 | A | 60 | A |
| 61 | A | 62 | B | 63 | B | 64 | C | 65 | B |
| 66 | C | 67 | A | 68 | D | 69 | B | 70 | A |
| 71 | B | 72 | C | 73 | A | 74 | A | 75 | B |
| 76 | A | 77 | C | 78 | A | 79 | C | 80 | C |
| 81 | B | 82 | C | 83 | B | 84 | A | 85 | D |
| 86 | A | 87 | A | 88 | C | 89 | A | 90 | B |
| 91 | A | 92 | A | 93 | C | 94 | B | 95 | B |
| 96 | D | 97 | D | 98 | C | 99 | B | 100 | B |

**Why is an answer correct?**
Scan for detailed solutions of all 100 questions in Hindi & English – free with login.

# Keep practising with airGurukul

All SSC CHSL Tier-1 previous year papers – free PDFs, online tests and solved eBooks at **airgurukul.com/library/pyp/ssc-chsl-tier-1**.

**Attempt this paper online – free**
Full test and section-wise tests with timer, score and rank at airgurukul.com/test-series

## Join airGurukul

**Telegram Channel**
t.me/airgurukulofficial

**WhatsApp Channel**
whatsapp.com/channel/0029VbBP7n00VycAFq6AGJ0l

**YouTube Channel**
youtube.com/@airGurukulSSCExams

**Android App**
play.google.com/...?id=in.airgurukul

airGurukul

airGurukul Institute for Career Growth · Prince Edutech Private Limited
Call +91-7042559948 · info@airgurukul.com · www.airgurukul.com