airGurukul

Preparing Bharat, Empowering Futures

SSC CHSL Tier-1 2025 Question Paper

28 November 2025, Shift 3 · with Answer Key

100 questions | 200 marks | 60 minutes | +2 / −0.5 | Hindi + English

Attempt this paper online – free

Real exam timer, instant score, all-India rank and detailed solutions in Hindi & English.

Scan · airgurukul.com/test-series

Call +91-7042559948 · www.airgurukul.com

Telegram Channel
t.me/airgurukulofficial

WhatsApp Channel
whatsapp.com/channel/0029VbBP7n00VycAFq6AGJ0l

YouTube Channel
youtube.com/@airGurukulSSCExams

Android App
play.google.com/...?id=in.airgurukul

Instructions

1. Total 100 questions (English Language 25, General Intelligence 25, Quantitative Aptitude 25, General Awareness 25).
2. Each correct answer carries 2 marks; 0.5 mark is deducted for each wrong answer.
3. Answer key is given at the end. Detailed solutions: scan the QR code on the last page.

Section 1: English Language (Q1–25)

Q1. **Choose the one word substitute for: A person who abstains from marriage and sexual relations.**

(A) Divorced
(B) Celibate
(C) Misogamist
(D) Bachelor

Q2. **Identify the meaning of the phrase highlighted in bold.**

Paying by cheque has become a pain in the neck for those who are not used to carrying a cheque book with them.

(A) something that is extremely useful
(B) something that is highly enjoyable
(C) someone/something that is very entertaining
(D) someone/something that is very annoying

Q3. **Choose the option that has an error in the sentence.**

We always face traffic in the city and it is very stressed.

(A) We always face traffic
(B) in the city and
(C) it is very stressed
(D) No correction required

Q4. **Spot the error in the given sentence. On the time / of the inauguration ceremony of the school / a number of people had appeared. / No error**

(A) No error
(B) of the inauguration ceremony of the school
(C) a number of people had appeared
(D) On the time

Q5. **Fill in the blank with the most appropriate preposition:**

After the intense snowfall, the water level rose ___ the height of the bridge.

(A) beneath
(B) above
(C) through
(D) among

Q6. **Read the line and select the word that fits best.**

He went to the ___ to get his beard shaved.

(A) salonn
(B) salon
(C) sallon
(D) saloon

Q7. **Choose the incorrectly spelt word:**

(A) Cigarete
(B) Tobacco
(C) Cigar
(D) Cannabis

Q8. **Choose the best option to replace the underlined part to improve the given sentence. If no substitution is required, select 'No substitution.'**

The protestors had gathered <u>at the streets</u> to express their disappointment.

(A) on the streets
(B) about the streets
(C) into the streets
(D) No substitution

Q9. **Choose the best option to replace the underlined part to improve the given sentence. If no substitution is required, select 'No substitution.'**

I <u>prefer reading books than watching movies</u> in my free time as I like to learn new things.

(A) prefer reading books to watching movies
(B) prefer reading books over watching movies
(C) prefer read books to watch movies
(D) No substitution

Q10. **Choose the option that is the most appropriate conversion of the following sentence into Active Voice.**

The employees were made to attend the training session.

(A) The manager made the employees attend the training session.
(B) The manager makes the employees attend the training session.
(C) The manager is making the employees attend the training session.
(D) The manager has made the employees attend the training session.

Q11. **Choose the correct indirect narration of the following statement from the given alternatives:**

Neha said, "You will finish the exercises tomorrow to improve your stamina as you must perform well in the trial."

(A) Neha said that she would finish the exercises the day after to improve her stamina as she had to perform well in the trial.

(B) Neha said that she should finish the exercises the day after to improve her stamina as she had to perform well in the trial.

(C) Neha said that she should finish the exercises the day after to improve her stamina as she must perform well in the trial.

(D) Neha said that you would finish the exercises the day after to improve your stamina as you had to perform well in the trial.

Q12. **Choose the option that is the most appropriate conversion of the following sentence into Direct Speech:**

The intern inquired what the timeline for the project was.

(A) The intern said, "When is the timeline for the project?"

(B) The intern asked, "What the timeline for the project was?"

(C) The intern inquired, 'What was the timeline for the project?"

(D) The intern inquired, "What is the timeline for the project ?"

Q13. **The following sentence has two blanks. Choose the most suitable set of prepositions from the given options to fill in the blanks and complete the sentence meaningfully:**

The company prides itself ___ excellent customer support and conforms strictly ___ industry regulations.

(A) in, of

(B) for, by

(C) at, on

(D) on, to

Q14. **Choose the option that is the most appropriate conversion of the following sentence into Direct Speech.**

She said that she intended to meet her relatives that evening.

(A) She said, "I intend to meet my relatives this evening."

(B) She said, "I intend to meet my relatives that evening."

(C) She said, 'I intended to meet my relatives in the evening."

(D) She said, "I intend to meet her relatives that evening."

Q15. **Change the following sentence into the Active form.**

The application, which should have been completed by the due date, was rejected due to missing details.

(A) The application, which should have been completed by the due date, but it was rejected due to missing details.
(B) They should have completed the application by the due date, but it was rejected due to missing details.
(C) Due to missing details, the application was rejected, which should have been completed by the due date.
(D) They should have completed the application by the due date, but missing details led to its rejection.

Q16. **Select the part of the sentence containing an incorrect spelling.**

The manager chose to acquiesce to the plan (A)/ remained conscientous in his duties (B)/ acted as a benevolent leader (C)/ and respected the hierarchy.(D)

(A) A
(B) B
(C) C
(D) D

Q17. **Choose the correct passive voice transformation of the sentence:**

They are playing an exciting match today.

(A) An exciting match has been played by them today.
(B) An exciting match is played by them today.
(C) An exciting match was being played by them today.
(D) An exciting match is being played by them today.

Q18. **Choose the correct passive voice transformation of the sentence:**

Had the experienced auditors reviewed all the financial records before they finalized the report?

(A) Were all the financial records reviewed by the experienced auditors before they finalized the report?
(B) Had all the financial records been reviewed by the experienced auditors before they finalized the report?
(C) Has all the financial records been reviewed by the experienced auditors before they finalized the report?
(D) Had all the financial records reviewed by the experienced auditors before they finalized the report?

Directions (Qs. 19-23): Read the following passage carefully and answer the questions that follow.

Gold-plated accessories have been a popular alternative for fashion enthusiasts for decades, valued for their luxurious appearance and cost-effectiveness. In many social circles, wearing these pieces is not just a style choice but is also seen as a practical way to accessorize without the high risk of theft associated with solid gold. Some designers suggest that gold plating can offer the brilliance of precious metal while maintaining the durability of the stronger base metals underneath.

However, the longevity of these items is often debated. Low-quality plating over reactive alloys may cause the surface to tarnish quickly or lead to skin discoloration for those with sensitivities. Additionally, the frequent use of chemical cleaners on plated jewellery can sometimes cause the gold layer to wear off prematurely, especially for those who wear these pieces daily.

Therefore, while plated ornaments can elevate a person's wardrobe and offer a high-end look at a fraction of the cost, it is vital to check the base metal and wear them in moderation. Choosing pieces with thicker plating and avoiding contact with harsh chemicals can help owners preserve the luster of their jewellery without causing damage to the finish.

Q19. **In the sentence: "Gold-plated accessories have been a popular alternative..." why is the verb "have" used instead of "has"?**

(A) Because "accessories" is a plural subject
(B) Because "gold" is a singular material
(C) Because "alternative" is the primary subject
(D) Because the sentence is in the present continuous tense

Q20. **In the sentence: "...it is vital to check the base metal and wear them in moderation," what is the function of the article "the" before "base"?**

(A) It refers to the specific metal underneath the plating
(B) It is used to describe all metals in general
(C) It is used to indicate that the metal is expensive
(D) It acts as a substitute for a conjunction

Q21. **Which word from the passage means 'mixtures of different metals used as a base?**

(A) Pure
(B) Alloy
(C) Polished
(D) plated

Q22. **Which word from the passage means 'balanced and limited use' ?**

(A) Frequent
(B) Moderation
(C) Daily
(D) Avoiding

Q23. What is the main idea of the passage?

(A) Gold-plated accessories are superior to solid gold.
(B) Plated jewellery should be avoided due to skin allergies.
(C) Plated ornaments have benefits but require careful use and quality checks.
(D) Only high-quality alloys should be used in fashion.

Q24. What is the antonym of 'Ordinary'?

(A) Courteous
(B) Normal
(C) Quaint
(D) Gust

Q25. What is the antonym of "Criticise"?

(A) Censure
(B) Praise
(C) Obloquy
(D) Condemnation

Section 2: General Intelligence (Q26–50)

Q26. In a row of students, Ravi is 10th from the left and Sumit is 15th from the right. If they exchange their positions, Ravi becomes 24th from the left. What will be the position of Sumit from the right ?

विद्यार्थियों की एक पंक्ति में रवि बाएँ से 10वें स्थान पर तथा सुमित दाएँ से 15वें स्थान पर है। यदि वे अपने स्थान आपस में बदल लेते हैं, तो रवि बाएँ से 24वें स्थान पर आ जाता है। दाएँ से सुमित का स्थान क्या होगा ?

(A) 28th / 28वाँ
(B) 29th / 29वाँ
(C) 30th / 30वाँ
(D) 31st / 31वाँ

Q27. In a row of 50 students, Arjun is 18th from the left and Neha is 24th from the right. How many students are between Arjun and Neha ?

50 विद्यार्थियों की एक पंक्ति में अर्जुन बाएँ से 18वें तथा नेहा दाएँ से 24वें स्थान पर है। अर्जुन और नेहा के बीच कितने विद्यार्थी हैं ?

(A) 6
(B) 7
(C) 8
(D) 9

Q28. If $56\$20 = 18$ and $74\$30 = 22$,

then what is the value of $63\$18$?

यदि $56\$20 = 18$ तथा $74\$30 = 22$ है,

तो $63\$18$ का मान क्या होगा ?

(A) 20.5
(B) 21.5
(C) 22.5
(D) 23.5

Q29. **If $12;20 = 720$ and $15;20 = 900$, then what is the value of 6 ; 25 ?**

यदि $12;20 = 720$ तथा $15;20 = 900$ है, तो 6 ; 25 का मान क्या होगा ?

(A) 440
(B) 450
(C) 460
(D) 480

Q30. **Find the next element that replaces the ? Logically**

19, 28, 39, 52, ?

? के स्थान पर तार्किक रूप से आने वाला अगला पद ज्ञात कीजिए

19, 28, 39, 52, ?

(A) 65
(B) 67
(C) 70
(D) 57

Q31. **Find the next element that replaces the ? Logically**

11, 18, 27, 38, ?

? के स्थान पर तार्किक रूप से आने वाला अगला पद ज्ञात कीजिए

11, 18, 27, 38, ?

(A) 45
(B) 42
(C) 53
(D) 51

Q32. **A piece of paper is folded and punched as shown below in the question figures. From the given option figures, indicate how it will appear when opened.**

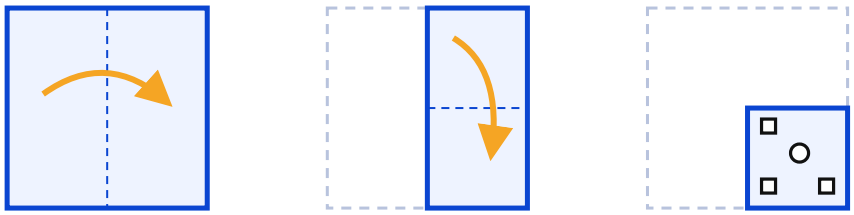

एक कागज़ के टुकड़े को नीचे प्रश्न-आकृतियों में दर्शाए अनुसार मोड़ा और पंच किया गया है। दी गई विकल्प-आकृतियों में से बताइए कि खोलने पर वह कैसा दिखाई देगा।

(A)

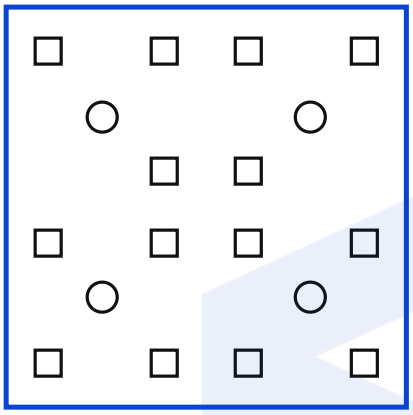

(B)

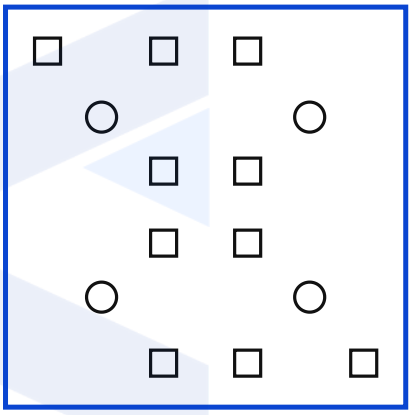

(C)

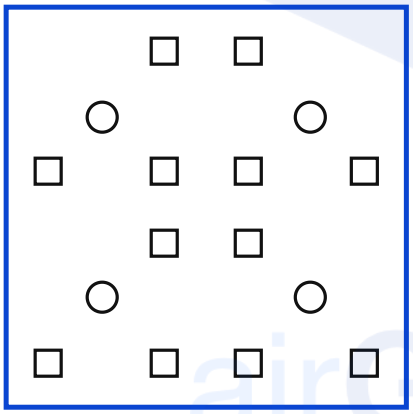

(D)

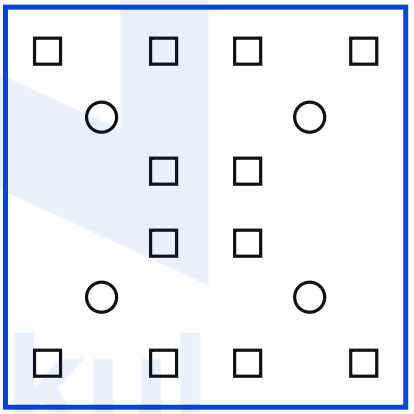

Q33. **A piece of paper is folded and punched as shown below in the question figures. From the given option figures, indicate how it will appear when opened.**

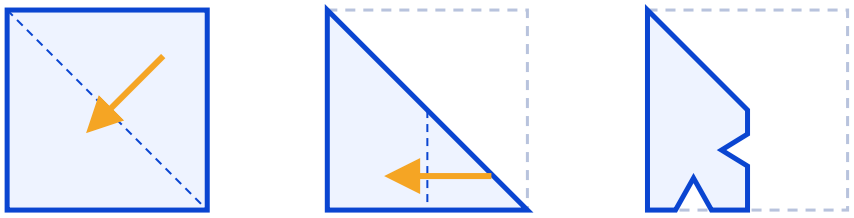

एक कागज़ के टुकड़े को नीचे प्रश्न-आकृतियों में दर्शाए अनुसार मोड़ा और पंच किया गया है। दी गई विकल्प-आकृतियों में से बताइए कि खोलने पर वह कैसा दिखाई देगा।

A
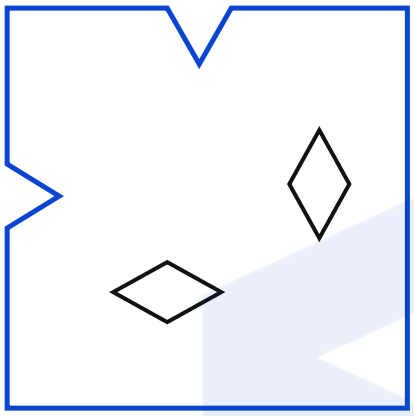

B
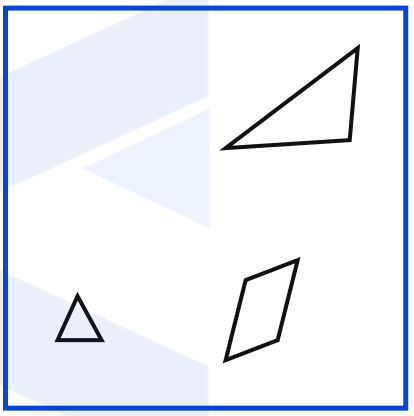

C


D
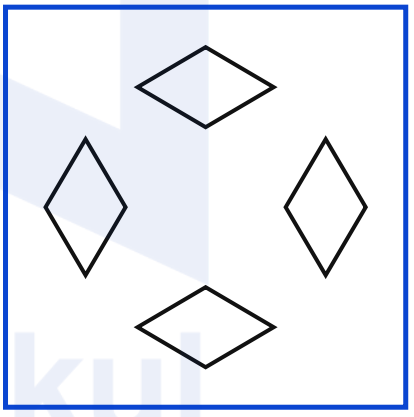

Q34. **In the following question, select the number which can be placed at the sign of question mark (?) from the given alternatives.**

निम्नलिखित प्रश्न में, दिए गए विकल्पों में से वह संख्या चुनिए जिसे प्रश्नवाचक चिह्न (?) के स्थान पर रखा जा सकता है।

A 22
B 25
C 12
D 21

Q35. **In the following question, select the number which can be placed at the sign of question mark (?) from the given alternatives.**

निम्नलिखित प्रश्न में, दिए गए विकल्पों में से वह संख्या चुनिए जिसे प्रश्नवाचक चिह्न (?) के स्थान पर रखा जा सकता है।

(A) 2
(B) 4
(C) 1
(D) 6

Q36. **How many triangles are there in the given figure?**

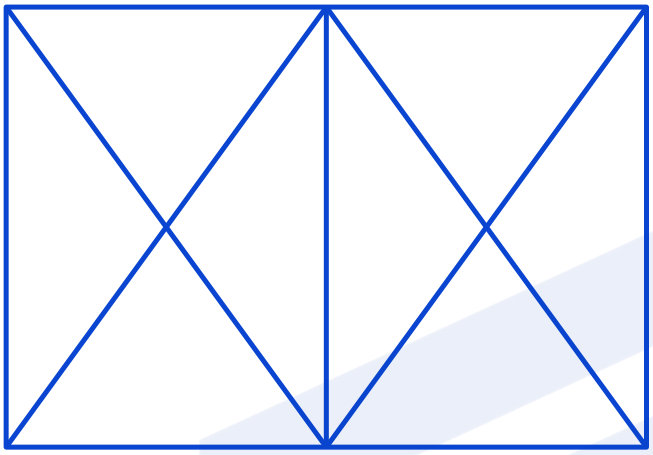

दी गई आकृति में कितने त्रिभुज हैं?

(A) 19
(B) 20
(C) 18
(D) 22

Q37. **In the figure given below, the triangle represents bags, the circle represents leather, and the rectangle represents brown.**

The number written in each region shows the number of items belonging to that particular area.

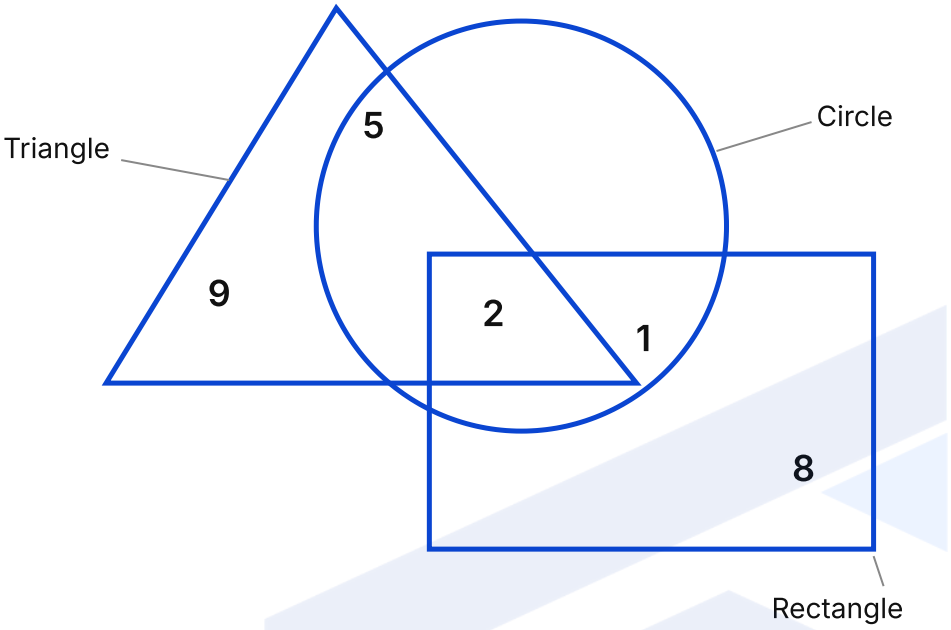

Which of the following statements is/are correct?
I. The number of leather items which are not brown is 14 .
II. The number of brown items which are only bags is 4.

नीचे दी गई आकृति में त्रिभुज बैगों को, वृत्त चमड़े को तथा आयत भूरे रंग को दर्शाता है।

प्रत्येक क्षेत्र में लिखी संख्या उस विशेष क्षेत्र से संबंधित वस्तुओं की संख्या दर्शाती है।

निम्नलिखित में से कौन-सा/से कथन सही है/हैं?
I. चमड़े की ऐसी वस्तुओं की संख्या जो भूरी नहीं हैं, 14 है।
II. भूरी वस्तुओं में केवल बैग वाली वस्तुओं की संख्या 4 है।

(A) Only I / केवल I
(B) Only II / केवल II
(C) Both I and II / I और II दोनों
(D) Neither I nor II / न तो I और न ही II

Q38. **Marks of 5 students P, Q, R, S, and T are compared. Marks of no two students are the same. Marks of Q are less than only P. Marks of S are less than R but more than T. Marks of how many students are less than the marks of R ?**

5 विद्यार्थियों P, Q, R, S और T के अंकों की तुलना की जाती है। किन्हीं दो विद्यार्थियों के अंक समान नहीं हैं। Q के अंक केवल P से कम हैं। S के अंक R से कम परंतु T से अधिक हैं। कितने विद्यार्थियों के अंक R के अंकों से कम हैं ?

(A) 1
(B) 2
(C) 3
(D) 0

Q39. **The weight of 6 friends U, V, W, X, Y , and Z is compared. No two persons have the same weight. The weight of V is the second highest. The weight of Z is more than X and Y but less than W and U . The weight of U is not the maximum. The weight of how many persons is less than U?**

6 मित्रों U, V, W, X, Y तथा Z के भार की तुलना की जाती है। किन्हीं दो व्यक्तियों का भार समान नहीं है। V का भार दूसरा सर्वाधिक है। Z का भार X और Y से अधिक परंतु W और U से कम है। U का भार अधिकतम नहीं है। कितने व्यक्तियों का भार U से कम है?

(A) 1
(B) 2
(C) 3
(D) 0

Q40. **Two figures given on the left side of (:) are related with some logic/rule/relation. Select the missing figure on the right side of (::) from the given alternatives based on the same logic/rule/relation.**

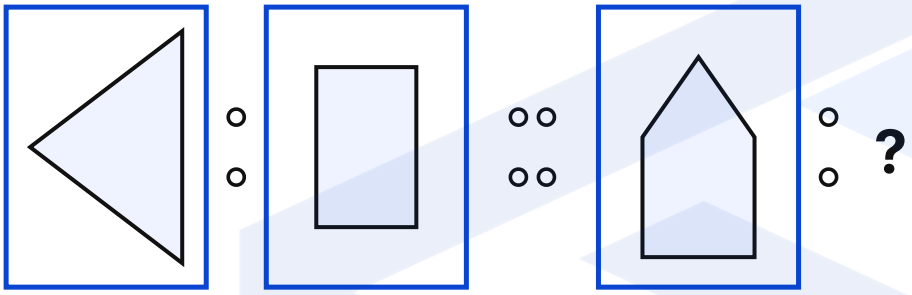

(:) के बाईं ओर दी गई दो आकृतियाँ किसी तर्क/नियम/संबंध से संबंधित हैं। उसी तर्क/नियम/संबंध के आधार पर दिए गए विकल्पों में से (::) के दाईं ओर आने वाली लुप्त आकृति चुनिए।

(A)
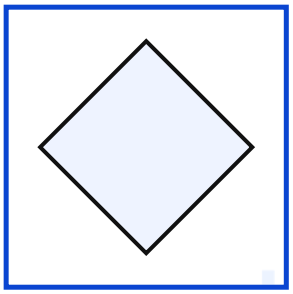

(B)
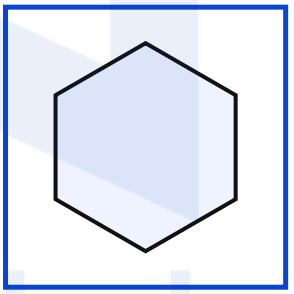

(C)
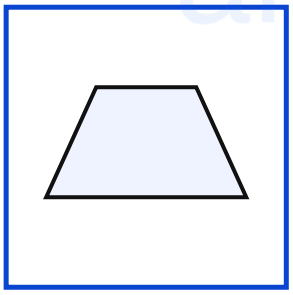

(D)
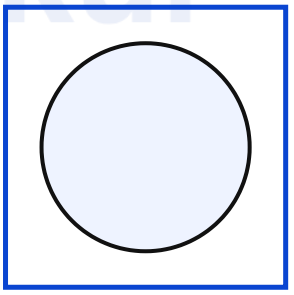

Q41. **Two figures given on the left side of (:) are related with some logic/rule/relation. Select the missing figure on the right side of (:) from the given alternatives based on the same logic/rule/relation.**

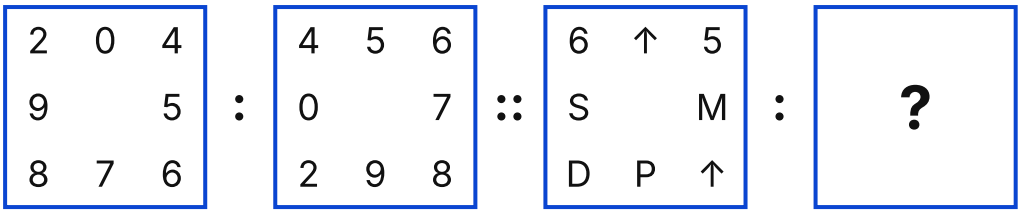

(:) के बाईं ओर दी गई दो आकृतियाँ किसी तर्क/नियम/संबंध से संबंधित हैं। उसी तर्क/नियम/संबंध के आधार पर दिए गए विकल्पों में से (:) के दाईं ओर की लुप्त आकृति का चयन कीजिए।

(A)
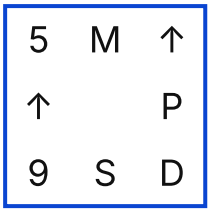

(B)
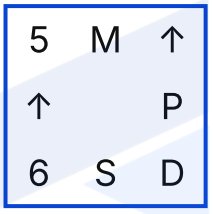

(C)
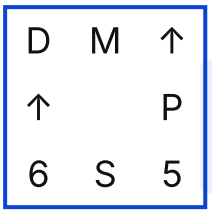

(D)
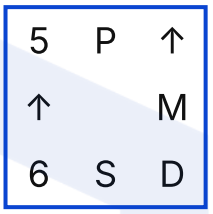

Q42. **In the following figure series, select the figure which can be placed at the sign of question mark (?) from the given alternatives.**

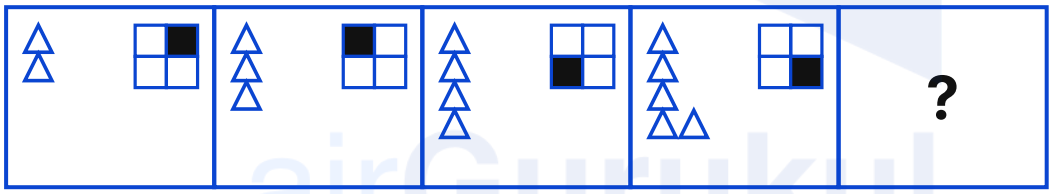

(a)
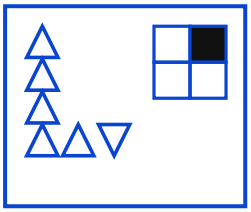

(b)
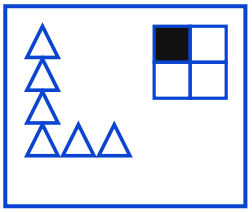

(c)
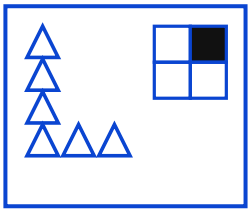

(d)
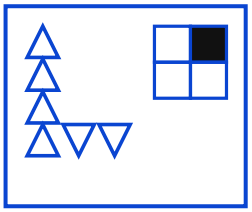

निम्नलिखित आकृति श्रृंखला में, दिए गए विकल्पों में से उस आकृति का चयन कीजिए जिसे प्रश्नवाचक चिह्न (?) के स्थान पर रखा जा सकता है।

(A) (a)
(B) (b)
(C) (c)
(D) (d)

Q43. **If ' - means ' $\div$ ', '+' means '×', '÷' means ' 4 ' and ' x ' means ' + ', then $56-8+4 \div 15 \times 5=$?**

यदि ' - का अर्थ ' $\div$ ' है, '+' का अर्थ '×' है, '÷' का अर्थ ' 4 ' है और ' x ' का अर्थ ' + ' है, तो $56-8+4 \div 15 \times 5=$?

(A) 20
(B) 16
(C) 18
(D) 22

Q44. **Select the correct combination of mathematical signs to replace (*) signs sequentially and to balance the given equation.**

$12 * 4 * 8 * 2 * 5=23$

दिए गए समीकरण को संतुलित करने के लिए (*) चिह्नों को क्रमिक रूप से प्रतिस्थापित करने वाले गणितीय चिह्नों के सही संयोजन का चयन कीजिए।

$12 * 4 * 8 * 2 * 5=23$

(A) $\div, +, x, -$
(B) $+, x, \div, -$
(C) $, -\times, +, +$
(D) ×, - +,+

Q45. **In the following question, select the odd letter-number cluster from the given alternatives.**

(NOTE: Operations should be performed on the whole numbers, without breaking down the number into its constituent digits. E.g. 13 - Operations on 13 such as adding /subtracting /multiplying etc. to 13 can be performed. Breaking down 13 into 1 and 3 and then performing mathematical operations on 1 and 3 is not allowed)

निम्नलिखित प्रश्न में, दिए गए विकल्पों में से विषम अक्षर-संख्या समूह का चयन कीजिए।

(नोट: संक्रियाएँ पूर्ण संख्याओं पर की जानी चाहिए, संख्या को उसके अंकों में विभाजित किए बिना। उदाहरण: 13 - 13 पर जोड़ने/घटाने/गुणा करने आदि जैसी संक्रियाएँ की जा सकती हैं। 13 को 1 और 3 में विभाजित करके 1 और 3 पर गणितीय संक्रियाएँ करने की अनुमति नहीं है।)

(A) JKMN48
(B) UVXY92
(C) CDGH21
(D) FGIJ32

Q46. **In the following question, four letter-number pairs are given. The letter-number on the left side of (-) is related to the letter-number on the right side of (-) with some**

Logic/Rule/Relation. Three pairs are similar on the basis of same Logic/Rule/Relation. Select the odd one out from the given alternatives.
(NOTE: Operations should be performed on the whole numbers, without breaking down the number into its constituent digits. E.g. 13 - Operations on 13 such as adding /subtracting /multiplying etc. to 13 can be performed. Breaking down 13 into 1 and 3 and then performing mathematical operations on 1 and 3 is not allowed)

निम्नलिखित प्रश्न में, चार अक्षर-संख्या युग्म दिए गए हैं। (-) के बाईं ओर की अक्षर-संख्या किसी तर्क/नियम/संबंध से (-) के दाईं ओर की अक्षर-संख्या से संबंधित है। तीन युग्म समान तर्क/नियम/संबंध के आधार पर एक जैसे हैं। दिए गए विकल्पों में से विषम युग्म का चयन कीजिए।

(नोट: संक्रियाएँ पूर्ण संख्याओं पर की जानी चाहिए, संख्या को उसके अंकों में विभाजित किए बिना। उदाहरण: 13 - 13 पर जोड़ने/घटाने/गुणा करने आदि जैसी संक्रियाएँ की जा सकती हैं। 13 को 1 और 3 में विभाजित करके 1 और 3 पर गणितीय संक्रियाएँ करने की अनुमति नहीं है।)

(A) BC500 - DE350
(B) IJ725 - KL575
(C) FG890 - HI740
(D) NO660 - PQ500

Q47. **In the following question, four number pairs are given. In each pair the number on left side of (-) is related to the number of the right side of (-) with some Logic/Rule/Relation. Three pairs are similar on the basis of same Logic/Rule/Relation. Select the odd one out from the given alternatives.**

(NOTE: Operations should be performed on the whole numbers, without breaking down the number into its constituent digits. E.g. 13 - Operations on 13 such as adding /subtracting /multiplying etc. to 13 can be performed. Breaking down 13 into 1 and 3 and then performing mathematical operations on 1 and 3 is not allowed)

निम्नलिखित प्रश्न में, चार संख्या युग्म दिए गए हैं। प्रत्येक युग्म में (-) के बाईं ओर की संख्या किसी तर्क/नियम/संबंध से (-) के दाईं ओर की संख्या से संबंधित है। तीन युग्म समान तर्क/नियम/संबंध के आधार पर एक जैसे हैं। दिए गए विकल्पों में से विषम युग्म का चयन कीजिए।

(नोट: संक्रियाएँ पूर्ण संख्याओं पर की जानी चाहिए, संख्या को उसके अंकों में विभाजित किए बिना। उदाहरण: 13 - 13 पर जोड़ने/घटाने/गुणा करने आदि जैसी संक्रियाएँ की जा सकती हैं। 13 को 1 और 3 में विभाजित करके 1 और 3 पर गणितीय संक्रियाएँ करने की अनुमति नहीं है।)

(A) 441-21
(B) 529-23
(C) 600-24
(D) 676-26

Q48. **In the following question, in each alternative a group of numbers is given. The numbers of each group are related to the numbers of the same group by some Logic/Rule/Relation. Select that group of numbers in which numbers are not related by that same Logic/Rule/Relation.**

(NOTE: Operations should be performed on the whole numbers, without breaking down the number into its constituent digits. E.g. 13 - Operations on 13 such as adding /subtracting /multiplying etc. to 13 can be performed. Breaking down 13 into 1 and 3 and then performing mathematical operations on 1 and 3 is not allowed)

निम्नलिखित प्रश्न में, प्रत्येक विकल्प में संख्याओं का एक समूह दिया गया है। प्रत्येक समूह की संख्याएँ उसी समूह की संख्याओं से किसी तर्क/नियम/संबंध द्वारा संबंधित हैं। उस संख्या समूह का चयन कीजिए जिसमें संख्याएँ उसी तर्क/नियम/संबंध से संबंधित नहीं हैं।

(नोट: संक्रियाएँ पूर्ण संख्याओं पर की जानी चाहिए, संख्या को उसके अंकों में विभाजित किए बिना। उदाहरण: 13 - 13 पर जोड़ने/घटाने/गुणा करने आदि जैसी संक्रियाएँ की जा सकती हैं। 13 को 1 और 3 में विभाजित करके 1 और 3 पर गणितीय संक्रियाएँ करने की अनुमति नहीं है।)

(A) (142, 485, 7)
(B) (215, 1215, 10)
(C) $(310, 1641, 11)$
(D) $(180, 2370, 13)$

Q49. **Select the option that is related to the sixth letter-number cluster in the same way as the first letter-number cluster is related to the second letter-number cluster and third letter-number cluster is related to fourth letter-number cluster.**

(NOTE: Operations should be performed on the whole numbers, without breaking down the number into its constituent digits. E.g. 13 - Operations on 13 such as adding /subtracting /multiplying etc. to 13 can be performed. Breaking down 13 into 1 and 3 and then performing mathematical operations on 1 and 3 is not allowed) PR500 : QQ250 :: BL120 : CK60 :: ? : DG200

उस विकल्प का चयन कीजिए जो छठे अक्षर-संख्या समूह से उसी प्रकार संबंधित है जिस प्रकार पहला अक्षर-संख्या समूह दूसरे अक्षर-संख्या समूह से तथा तीसरा अक्षर-संख्या समूह चौथे अक्षर-संख्या समूह से संबंधित है।

(नोट: संक्रियाएँ पूर्ण संख्याओं पर की जानी चाहिए, संख्या को उसके अंकों में विभाजित किए बिना। उदाहरण: 13 - 13 पर जोड़ने/घटाने/गुणा करने आदि जैसी संक्रियाएँ की जा सकती हैं। 13 को 1 और 3 में विभाजित करके 1 और 3 पर गणितीय संक्रियाएँ करने की अनुमति नहीं है।) PR500 : QQ250 :: BL120 : CK60 :: ? : DG200

(A) CI400
(B) CH400
(C) DH400
(D) CG200

Q50. **Select the option that is related to the fifth letter-number cluster in the same way as the second letter-number cluster is related to the first letter-number cluster and fourth letter-number cluster is related to third letter-number cluster.**

(NOTE: Operations should be performed on the whole numbers, without breaking down the number into its constituent digits. E.g. 13 - Operations on 13 such as adding /subtracting /multiplying etc. to 13 can be performed. Breaking down 13 into 1 and 3 and then performing mathematical operations on 1 and 3 is not allowed)

RJ10 : VN105 :: DL12 : HP149 :: GK14 : ?

उस विकल्प का चयन कीजिए जो पाँचवें अक्षर-संख्या समूह से उसी प्रकार संबंधित है जिस प्रकार दूसरा अक्षर-संख्या समूह पहले अक्षर-संख्या समूह से तथा चौथा अक्षर-संख्या समूह तीसरे अक्षर-संख्या समूह से संबंधित है।

(नोट: संक्रियाएँ पूर्ण संख्याओं पर की जानी चाहिए, संख्या को उसके अंकों में विभाजित किए बिना। उदाहरण: 13 - 13 पर जोड़ने/घटाने/गुणा करने आदि जैसी संक्रियाएँ की जा सकती हैं। 13 को 1 और 3 में विभाजित करके 1 और 3 पर गणितीय संक्रियाएँ करने की अनुमति नहीं है।)

RJ10 : VN105 :: DL12 : HP149 :: GK14 : ?

(A) KO201
(B) KP201
(C) KO199
(D) L0205

Want to clear SSC CHSL Tier-1?

Prepare with **Samyān (सम्यान) 1.0 – SSC Foundation Course** – structured classes, practice and doubt support for SSC CHSL Tier-1.

Every PYP as an online test
Shift-wise papers with timer, score and rank.

Detailed solutions
Step-by-step answers in Hindi and English.

Free live classes
Daily classes on our YouTube channel airGurukul SSC Exams.

Exam updates
Notifications, admit cards and results on WhatsApp.

See the course

Attempt this paper online

Detailed solutions

Free classes & exam updates

Telegram Channel
t.me/airgurukulofficial

WhatsApp Channel
whatsapp.com/channel/0029VbBP7n00VycAFq6AGJ0I

YouTube Channel
youtube.com/@airGurukulSSCExams

Android App
play.google.com/...?id=in.airgurukul

Call / WhatsApp **+91-7042559948** · www.airgurukul.com

Section 3: Quantitative Aptitude (Q51–75)

Q51. **A shopkeeper sells a product at Rs. 240 after losing 20%. What is the cost price?**

एक दुकानदार 20% की हानि पर एक वस्तु Rs. 240 में बेचता है। क्रय मूल्य क्या है?

(A) Rs. 280
(B) Rs. 300
(C) Rs. 320
(D) Rs. 350

Q52. **A shopkeeper mixes 3 kg of rice at ₹60/kg with 2 kg of rice at ₹70/kg. What is the price per kg of the mixture?**

एक दुकानदार ₹60/kg वाले 3 kg चावल को ₹70/kg वाले 2 kg चावल के साथ मिलाता है। मिश्रण का प्रति kg मूल्य क्या है?

(A) ₹62
(B) ₹64
(C) ₹65
(D) ₹66

Q53. **A car travels 240 km at $60\text{km} / h$. Time taken?**

एक कार $60\text{km} / h$ की चाल से 240 km चलती है। लिया गया समय कितना है?

(A) 3 hours / 3 घंटे
(B) 3.5 hours / 3.5 घंटे
(C) 4 hours / 4 घंटे
(D) 5 hours / 5 घंटे

Q54. **P is twice as efficient as Q.P and Q together can complete a piece of work in 18 days. In how many days can P alone complete the work?**

P, Q से दोगुना कार्यकुशल है। P और Q मिलकर एक कार्य 18 दिनों में पूरा कर सकते हैं। P अकेला उस कार्य को कितने दिनों में पूरा कर सकता है?

(A) 24 days / 24 दिन
(B) 27 days / 27 दिन
(C) 36 days / 36 दिन
(D) 54 days / 54 दिन

Q55. **What is the selling price if the marked price is Rs. 1200 and the discount is 15%?**

यदि अंकित मूल्य Rs. 1200 है और छूट 15% है, तो विक्रय मूल्य क्या होगा?

(A) Rs. 1080
(B) Rs. 1020
(C) Rs. 1100
(D) Rs. 1050

Q56. **A solid metallic cuboid with dimensions $50\text{cm} \times 40\text{cm} \times 10\text{cm}$ is melted and recast into small solid cubes of side 2 cm each. How many such cubes can be formed?**

$50\text{cm} \times 40\text{cm} \times 10\text{cm}$ विमाओं वाले एक ठोस धात्विक घनाभ को पिघलाकर 2 cm भुजा वाले छोटे ठोस घनों में ढाला जाता है। ऐसे कितने घन बनाए जा सकते हैं?

(A) 2000
(B) 2500
(C) 3000
(D) 5000

Q57. **Two triangular garden plots are measured. It is found that the three sides of the first plot are exactly equal in length to the corresponding three sides of the second plot. Are these two plots congruent?**

दो त्रिभुजाकार बगीचों की माप ली जाती है। यह पाया जाता है कि पहले भूखंड की तीनों भुजाएँ दूसरे भूखंड की संगत तीनों भुजाओं के ठीक बराबर हैं। क्या ये दोनों भूखंड सर्वांगसम हैं?

(A) Yes, by SSS / हाँ, SSS द्वारा
(B) No / नहीं
(C) Yes, by SAS / हाँ, SAS द्वारा
(D) Cannot say / कह नहीं सकते

Q58. **A right prism has a volume of 2400 cm^3 and a height of 30 cm. What is the area of its base?**

एक लम्ब प्रिज्म का आयतन 2400 cm^3 तथा ऊँचाई 30 cm है। इसके आधार का क्षेत्रफल क्या है?

(A) 60cm^2
(B) 75cm^2
(C) 80cm^2
(D) 100cm^2

Q59. **An 80-liter mixture contains milk and water in the ratio $3:1$. If 10 liters of water is added to the mixture, what will be the new ratio of milk to water?**

80 लीटर के एक मिश्रण में दूध और पानी $3:1$ के अनुपात में हैं। यदि मिश्रण में 10 लीटर पानी मिला दिया जाए, तो दूध और पानी का नया अनुपात क्या होगा?

(A) 3 : 2
(B) 3 : 1
(C) 5 : 3
(D) 2 : 1

Q60. **A circle has a radius of 8 cm. From an external point A , which is 17 cm away from the center of the circle, a tangent is drawn touching the circle at point B. What is the length of the tangent segment AB?**

एक वृत्त की त्रिज्या 8 cm है। वृत्त के केंद्र से 17 cm दूर स्थित एक बाह्य बिंदु A से एक स्पर्श रेखा खींची जाती है जो वृत्त को बिंदु B पर स्पर्श करती है। स्पर्श रेखा खंड AB की लंबाई क्या है?

(A) 25 cm
(B) 9 cm
(C) 15 cm
(D) 12 cm

Q61. **In a circle of radius 13 cm , two parallel chords of lengths 10 cm and 24 cm are drawn on the same side of the center. What is the distance between them?**

13 cm त्रिज्या वाले एक वृत्त में, 10 cm और 24 cm लंबाई की दो समांतर जीवाएँ केंद्र के एक ही ओर खींची गई हैं। उनके बीच की दूरी कितनी है?

(A) 17 cm
(B) 7 cm
(C) 5 cm
(D) 12 cm

Q62. **A hollow spherical container is completely filled with water. A solid cube-shaped block of metal is fully submerged inside it such that the side length of the cube is equal to half the radius of the sphere. What percentage of the sphere's volume is occupied by the metal block? (approximate value)**

एक खोखला गोलाकार पात्र पूरी तरह पानी से भरा हुआ है। धातु का एक ठोस घनाकार टुकड़ा उसमें पूर्णतः डुबोया जाता है, जिसकी भुजा की लंबाई गोले की त्रिज्या की आधी है। गोले के आयतन का कितना प्रतिशत भाग धातु के टुकड़े द्वारा घेरा गया है? (सन्निकट मान)

(A) 2.5%
(B) 3.5%
(C) 3.0%
(D) 4.2%

Q63. **Find the value of:**

$$\left(\sqrt{5}+\sqrt{7}\right)^2+\left(\sqrt{5}-\sqrt{7}\right)^2$$

निम्नलिखित का मान ज्ञात कीजिए:

$$\left(\sqrt{5}+\sqrt{7}\right)^2+\left(\sqrt{5}-\sqrt{7}\right)^2$$

(A) 28
(B) 26
(C) 24
(D) 22

Q64. **A and B invested Rs. 50,000 and Rs. 70,000 , respectively. The profit at the end of the year is Rs. 48,000. What is B's share of the profit?**

A और B ने क्रमशः Rs. 50,000 तथा Rs. 70,000 का निवेश किया। वर्ष के अंत में लाभ Rs. 48,000 है। लाभ में B का हिस्सा कितना है?

(A) Rs. 20,000
(B) Rs. 24,000
(C) Rs. 28,000
(D) Rs. 30,000

Q65. **A total of Rs. 2600 is to be divided into three portions in the ratio of $\frac{1}{2}:\frac{1}{3}:\frac{1}{4}$. The first portion is:**

कुल Rs. 2600 को $\frac{1}{2}:\frac{1}{3}:\frac{1}{4}$ के अनुपात में तीन भागों में विभाजित किया जाना है। पहला भाग है:

(A) Rs. 800
(B) Rs. 1200
(C) Rs. 600
(D) Rs. 1000

Q66. **In an election, 20% of voters did not vote. Out of the votes polled, 10% were declared invalid. The winner secured 55% of the valid votes and defeated his rival by 1,800 votes. Find the total number of voters.**

एक चुनाव में, 20% मतदाताओं ने मत नहीं दिया। डाले गए मतों में से 10% मत अवैध घोषित कर दिए गए। विजेता को वैध मतों के 55% मत मिले और उसने अपने प्रतिद्वंद्वी को 1,800 मतों से पराजित किया। मतदाताओं की कुल संख्या ज्ञात कीजिए।

(A) 20,000
(B) 24,000
(C) 25,000
(D) 30,000

Q67. **A sum of ₹5,000 is lent at a certain rate of simple interest. The amount at the end of 4 years is ₹7,000. If the rate of interest were 3% more, what would the simple interest be at the end of 4 years?**

₹5,000 की राशि एक निश्चित साधारण ब्याज दर पर उधार दी जाती है। 4 वर्ष के अंत में मिश्रधन ₹7,000 हो जाता है। यदि ब्याज दर 3% अधिक होती, तो 4 वर्ष के अंत में साधारण ब्याज कितना होता?

(A) ₹2,400
(B) ₹2,600
(C) ₹2,800
(D) ₹3,000

Q68. **The areas of two similar triangles are in the ratio of $81:49$. If the perimeter of the larger triangle is 63 units, what is the perimeter of the smaller triangle?**

दो समरूप त्रिभुजों के क्षेत्रफलों का अनुपात $81:49$ है। यदि बड़े त्रिभुज का परिमाप 63 इकाई है, तो छोटे त्रिभुज का परिमाप कितना है?

(A) 42 units / 42 इकाई
(B) 56 units / 56 इकाई
(C) 49 units / 49 इकाई
(D) 36 units / 36 इकाई

Q69. **If $3x + \frac{3}{x} = 5$, what is the value of $x^2 + \frac{1}{x^2}$?**

यदि $3x + \frac{3}{x} = 5$, तो $x^2 + \frac{1}{x^2}$ का मान क्या है?

(A) $\frac{25}{9}$
(B) $\frac{7}{9}$
(C) $\frac{1}{3}$
(D) $\frac{16}{9}$

Q70. $4\frac{1}{2} + 44\frac{1}{6} + 444\frac{1}{12} + 4444\frac{1}{20} + 44444\frac{1}{30} =$ **?**

(A) $49380\frac{5}{6}$
(B) $49380\frac{6}{7}$
(C) $49382\frac{6}{7}$
(D) $49381\frac{6}{7}$

Q71. **If $x = \sqrt{50} + \sqrt{2}$, then what is the value of x^2 ?**

यदि $x = \sqrt{50} + \sqrt{2}$, तो x^2 का मान क्या है?

(A) 52
(B) 72
(C) 36
(D) $6\sqrt{2}$

Q72. **Rs. 8000 is invested in a scheme of compound interest (compounding annually) at the annual rate of 15 percent. What will be the difference between compound interest in the second year and third year?**

चक्रवृद्धि ब्याज (वार्षिक चक्रवृद्धि) की एक योजना में Rs. 8000 की राशि 15 प्रतिशत वार्षिक दर पर निवेश की जाती है। दूसरे वर्ष तथा तीसरे वर्ष के चक्रवृद्धि ब्याज में कितना अंतर होगा?

(A) Rs. 195
(B) Rs. 220
(C) Rs. 215
(D) Rs. 207

Q73. **The average of 5 consecutive even natural numbers is 34 . The previous 5 consecutive even natural numbers to these 5 numbers are also identified. What is the average of these newly identified numbers?**

5 क्रमागत सम प्राकृत संख्याओं का औसत 34 है। इन 5 संख्याओं से ठीक पहले की 5 क्रमागत सम प्राकृत संख्याएँ भी ज्ञात की जाती हैं। इन नई ज्ञात संख्याओं का औसत क्या है?

(A) 20
(B) 24
(C) 26
(D) 14

Q74. **The average age of group A consisting of 25 students is 18 years. The average age of group B consisting of**

50 students is ' x ' years. The combined average age of both groups together is 22 years. What is the value of ' x '?

25 विद्यार्थियों वाले समूह A की औसत आयु 18 वर्ष है। समूह B की औसत आयु, जिसमें

50 विद्यार्थी हैं, ' x ' वर्ष है। दोनों समूहों की संयुक्त औसत आयु 22 वर्ष है। ' x ' का मान क्या है?

(A) 20
(B) 24
(C) 25
(D) 26

Q75. **A, B, and C working alone can complete a work in 20, 30, and 60 days respectively. All three of them started the work together, but after 5 days A left the work. B left the work 3 days before the work was completed. C completed the remaining work alone. In how many days was the total work completed?**

A, B और C अकेले-अकेले कार्य करते हुए किसी कार्य को क्रमशः 20, 30 और 60 दिनों में पूरा कर सकते हैं। तीनों ने मिलकर कार्य आरंभ किया, परंतु 5 दिन बाद A ने कार्य छोड़ दिया। कार्य पूरा होने से 3 दिन पहले B ने कार्य छोड़ दिया। शेष कार्य C ने अकेले पूरा किया। कुल कार्य कितने दिनों में पूरा हुआ?

(A) 15
(B) 16
(C) 17
(D) 18

Section 4: General Awareness (Q76–100)

Q76. **Which Indian woman writer received the prestigious Jnanpith Award in recognition of her exceptional literary achievements?**

किस भारतीय महिला लेखिका को उनकी असाधारण साहित्यिक उपलब्धियों के लिए प्रतिष्ठित ज्ञानपीठ पुरस्कार प्रदान किया गया?

(A) Swati Devi / स्वाति देवी
(B) Mahadevi Verma / महादेवी वर्मा
(C) Anuradha Roy / अनुराधा रॉय
(D) Nayantara Sahgal / नयनतारा सहगल

Q77. **In May 2025, who took charge as the Chairperson of the Union Public Service Commission (UPSC) ?**

मई 2025 में, संघ लोक सेवा आयोग (UPSC) के अध्यक्ष के रूप में किसने कार्यभार ग्रहण किया?

(A) Ajay Kumar / अजय कुमार
(B) K. Sanjay Murthy / के. संजय मूर्ति
(C) Akash Bhushan Pandey / आकाश भूषण पांडेय
(D) R. Subrahmanyam / आर. सुब्रह्मण्यम

Q78. **In December 2024, Arif Mohammad Khan was appointed as the Governor of which Indian state?**

दिसंबर 2024 में, आरिफ मोहम्मद खान को किस भारतीय राज्य का राज्यपाल नियुक्त किया गया?

(A) Uttar Pradesh / उत्तर प्रदेश
(B) Bihar / बिहार
(C) Jharkhand / झारखंड
(D) West Bengal / पश्चिम बंगाल

Q79. **In March 2025, the 'Lakhpati Didi Sammelan' was organised in which Indian state?**

मार्च 2025 में, 'लखपति दीदी सम्मेलन' का आयोजन किस भारतीय राज्य में किया गया?

(A) Uttar Pradesh / उत्तर प्रदेश
(B) Gujarat / गुजरात
(C) Madhya Pradesh / मध्य प्रदेश
(D) Chhattisgarh / छत्तीसगढ़

Q80. **In January 2025, the Supreme Court of India prohibited manual scavenging in six major cities. Which of the following cities was not included in that list?**

जनवरी 2025 में, भारत के सर्वोच्च न्यायालय ने छह प्रमुख शहरों में हाथ से मैला ढोने की प्रथा पर प्रतिबंध लगाया। निम्नलिखित में से कौन सा शहर उस सूची में शामिल नहीं था?

(A) Delhi / दिल्ली
(B) Kolkata / कोलकाता
(C) Hyderabad / हैदराबाद
(D) Jaipur / जयपुर

Q81. **The "Aatmanirbharta in Pulses" mission announced in the Union Budget 2025 will run for how many years?**

केंद्रीय बजट 2025 में घोषित "Aatmanirbharta in Pulses" मिशन कितने वर्षों तक चलेगा?

(A) 2
(B) 7
(C) 1
(D) 6

Q82. **Which institution released the Financial Inclusion Index 2025?**

वित्तीय समावेशन सूचकांक (Financial Inclusion Index) 2025 किस संस्था द्वारा जारी किया गया?

(A) Reserve Bank of India / भारतीय रिज़र्व बैंक
(B) NITI Aayog / नीति आयोग
(C) IMF
(D) Asian Development Bank / एशियाई विकास बैंक

Q83. Which organisation published "EnviStats India 2024: Environment Accounts"?

"EnviStats India 2024: Environment Accounts" किस संगठन द्वारा प्रकाशित की गई?

(A) Ministry of Statistics and Programme Implementation / सांख्यिकी एवं कार्यक्रम कार्यान्वयन मंत्रालय
(B) Ministry of Power / विद्युत मंत्रालय
(C) Ministry of Jal Shakti / जल शक्ति मंत्रालय
(D) Ministry of Rural Development / ग्रामीण विकास मंत्रालय

Q84. The world's only floating national park, Keibul Lamjao National Park, is located in which Indian state?

विश्व का एकमात्र तैरता हुआ राष्ट्रीय उद्यान, केइबुल लामजाओ राष्ट्रीय उद्यान, भारत के किस राज्य में स्थित है?

(A) Mizoram / मिज़ोरम
(B) Manipur / मणिपुर
(C) Assam / असम
(D) Meghalaya / मेघालय

Q85. The traditional raga 'Gurjari' is linked to which Indian state?

पारंपरिक राग 'गुर्जरी' भारत के किस राज्य से संबंधित है?

(A) Rajasthan / राजस्थान
(B) Gujarat / गुजरात
(C) Karnataka / कर्नाटक
(D) Punjab / पंजाब

Q86. Which ruler built the city of Tughlaqabad?

तुगलकाबाद नगर का निर्माण किस शासक ने करवाया था?

(A) Balban / बलबन
(B) Ghiyasuddin Tughlaq / ग़यासुद्दीन तुगलक
(C) Iltutmish / इल्तुतमिश
(D) Sher Shah Suri / शेरशाह सूरी

Q87. The folk dance 'Manjira Nritya' is traditionally performed by which community in Gujarat?

लोकनृत्य 'मंजीरा नृत्य' परंपरागत रूप से गुजरात के किस समुदाय द्वारा किया जाता है?

(A) Rabari community / रबारी समुदाय
(B) Padhaar community / पढ़ार समुदाय
(C) Bhil community / भील समुदाय
(D) Garasia community / गरासिया समुदाय

Q88. Which institute developed solar dehydration technology in February 2025 to help farmers reduce post-harvest losses?

किस संस्थान ने फरवरी 2025 में किसानों की कटाई-उपरांत हानि कम करने में सहायता हेतु सौर निर्जलीकरण (solar dehydration) प्रौद्योगिकी विकसित की?

(A) IIT Bhubaneswar / IIT भुवनेश्वर
(B) IIT Kanpur / IIT कानपुर
(C) IIT Hyderabad / IIT हैदराबाद
(D) IIT Rudrapur / IIT रुद्रपुर

Q89. **Which startup from Tamil Nadu developed India's first reusable hybrid rocket, RHUMI-1?**
तमिलनाडु के किस स्टार्टअप ने भारत का पहला पुन: प्रयोज्य हाइब्रिड रॉकेट RHUMI-1 विकसित किया?

(A) Agniksha Space
(B) Orion Aerospace
(C) Space Zone India
(D) Vega Rockets

Q90. **The Planning Commission constituted an Expert Group, chaired by Dr. C. Rangarajan, to review the methodology for measuring poverty in which year?**
योजना आयोग ने निर्धनता मापन की पद्धति की समीक्षा हेतु डॉ. सी. रंगराजन की अध्यक्षता में विशेषज्ञ समूह का गठन किस वर्ष किया था?

(A) 2011
(B) 2012
(C) 2009
(D) 2013

Q91. **In which year did the East India Company annex Sindh?**
ईस्ट इंडिया कंपनी ने सिंध का विलय किस वर्ष किया था?

(A) 1829
(B) 1848
(C) 1850
(D) 1843

Q92. **SEBI issued regulations for underwriters in which year?**
सेबी (SEBI) ने अभिगोपकों (underwriters) के लिए विनियम किस वर्ष जारी किए?

(A) 1992
(B) 1994
(C) 1993
(D) 1996

Q93. **India's petroleum reserves are located in which of the following regions?**

I. Sedimentary basins of Assam
II. Offshore areas in the Arabian Sea
भारत के पेट्रोलियम भंडार निम्नलिखित में से किन क्षेत्रों में स्थित हैं?

I. असम के अवसादी द्रोणी क्षेत्र
II. अरब सागर के अपतटीय क्षेत्र

(A) Only II / केवल II
(B) Only I / केवल I
(C) Both I and II / I और II दोनों
(D) Neither I nor II / न तो I और न ही II

Q94. **In India, planning in the true sense began with which Five-Year Plan?**
भारत में वास्तविक अर्थ में नियोजन का आरंभ किस पंचवर्षीय योजना से हुआ?

(A) Ninth / नौवीं
(B) Second / दूसरी
(C) Third / तीसरी
(D) Fourth / चौथी

Q95. **The Industrial Policy Statement of 1977 primarily focused on:**

I. Decentralisation of industries
II. Giving priority to small-scale industries
1977 का औद्योगिक नीति वक्तव्य मुख्यत: किस पर केंद्रित था:

I. उद्योगों का विकेंद्रीकरण
II. लघु उद्योगों को प्राथमिकता देना

(A) Only II / केवल II
(B) Only I / केवल I
(C) Both I and II / I और II दोनों
(D) Neither I nor II / न तो I और न ही II

Q96. **Which factors influence the distribution of population?**

I. Topography II. Climate
कौन-से कारक जनसंख्या के वितरण को प्रभावित करते हैं?

I. स्थलाकृति II. जलवायु

(A) Only II / केवल II
(B) Only I / केवल I
(C) Both I and II / I और II दोनों
(D) Neither I nor II / न तो I और न ही II

Q97. **Which of the following is not considered a push factor in migration?**
निम्नलिखित में से किसे प्रवास में अपकर्ष (push) कारक नहीं माना जाता है?

(A) Poor living conditions / निम्न जीवन-दशाएँ
(B) Better job opportunities / बेहतर रोज़गार अवसर
(C) Political turmoil / राजनीतिक अस्थिरता
(D) Unemployment / बेरोज़गारी

Q98. **During the day, what is the main driving force that moves water through the xylem?**
दिन के समय, जाइलम के माध्यम से जल को गतिशील करने वाला मुख्य चालक बल कौन-सा है?

(A) Capillary action / केशिका क्रिया
(B) Root pressure / मूल दाब
(C) Transpiration pull / वाष्पोत्सर्जन कर्षण
(D) Diffusion / विसरण

Q99. **What is the main role of growth hormone in humans?**
मनुष्यों में वृद्धि हार्मोन की मुख्य भूमिका क्या है?

(A) Controls thyroid activity / थायरॉइड की क्रियाशीलता को नियंत्रित करना
(B) Regulates insulin production / इंसुलिन उत्पादन का नियमन करना
(C) Regulates growth and development of the body / शरीर की वृद्धि एवं विकास का नियमन करना
(D) Maintains water balance / जल-संतुलन बनाए रखना

Q100. **The second Buddhist council was held during the reign of which ruler?**

द्वितीय बौद्ध संगीति किस शासक के शासनकाल में आयोजित की गई थी?

(A) Chandragupta Maurya / चंद्रगुप्त मौर्य
(B) Ashoka / अशोक
(C) Kalashoka / कालाशोक
(D) Bindusara / बिंदुसार

airGurukul

Answer Key – SSC CHSL Tier-1 28 November 2025, Shift 3

1	B	2	D	3	C	4	D	5	B
6	B	7	A	8	A	9	A	10	A
11	D	12	D	13	C	14	A	15	D
16	B	17	D	18	B	19	A	20	A
21	B	22	B	23	C	24	C	25	B
26	B	27	C	28	C	29	B	30	B
31	D	32	D	33	C	34	C	35	A
36	C	37	D	38	B	39	C	40	B
41	B	42	C	43	C	44	B	45	C
46	D	47	C	48	D	49	B	50	A
51	B	52	B	53	C	54	B	55	B
56	B	57	A	58	C	59	D	60	C
61	B	62	C	63	C	64	C	65	B
66	C	67	B	68	C	69	B	70	A
71	B	72	D	73	B	74	B	75	C
76	B	77	A	78	B	79	B	80	D
81	D	82	A	83	A	84	B	85	B
86	B	87	B	88	B	89	C	90	B
91	D	92	C	93	C	94	B	95	C
96	C	97	B	98	C	99	C	100	C

Why is an answer correct?
Scan for detailed solutions of all 100 questions in Hindi & English – free with login.

Keep practising with airGurukul

All SSC CHSL Tier-1 previous year papers – free PDFs, online tests and solved eBooks at **airgurukul.com/library/pyp/ssc-chsl-tier-1**.

Attempt this paper online – free
Full test and section-wise tests with timer, score and rank at airgurukul.com/test-series

Join airGurukul

Telegram Channel
t.me/airgurukulofficial

WhatsApp Channel
whatsapp.com/channel/0029VbBP7n00VycAFq6AGJ0l

YouTube Channel
youtube.com/@airGurukulSSCExams

Android App
play.google.com/...?id=in.airgurukul

airGurukul

airGurukul Institute for Career Growth · Prince Edutech Private Limited
Call +91-7042559948 · info@airgurukul.com · www.airgurukul.com