airGurukul

Preparing Bharat, Empowering Futures

SSC CHSL Tier-1 2025 Question Paper

29 November 2025, Shift 1 · with Answer Key

100 questions | 200 marks | 60 minutes | +2 / −0.5

Hindi + English

Attempt this paper online – free

Real exam timer, instant score, all-India rank and detailed solutions in Hindi & English.

Scan · airgurukul.com/test-series

Call +91-7042559948 · www.airgurukul.com

Telegram Channel
t.me/airgurukulofficial

WhatsApp Channel
whatsapp.com/channel/0029VbBP7n00VycAFq6AGJ0l

YouTube Channel
youtube.com/@airGurukulSSCExams

Android App
play.google.com/...?id=in.airgurukul

Instructions

1. Total 100 questions (English Language 25, General Intelligence 25, Quantitative Aptitude 25, General Awareness 25).
2. Each correct answer carries 2 marks; 0.5 mark is deducted for each wrong answer.
3. Answer key is given at the end. Detailed solutions: scan the QR code on the last page.

Section 1: English Language (Q1–25)

Q1. **Choose the correct option to give a one-word substitution for the sentence given.**

Killing of one person by another.

(A) Homicide
(B) Paternity
(C) Maternity
(D) Foeticide

Q2. **Select the alternative that best expresses the meaning of the given idiom/phrase:**

Look before you leap

(A) Conceal something
(B) Show humility toward people of lower rank
(C) Rely on others to complete tasks
(D) Analyze the consequences before making a decision

Q3. **Choose the option that has an error in the sentence.**

I'm fortunate that I have been doing a profession I enjoy, all my working life.

(A) I'm fortunate that
(B) I have been doing a profession
(C) I enjoy all my working life.
(D) No correction required

Q4. **Identify the part of the sentence that contains an error.**

"No sooner had he entered the hall when the bell rang."

(A) No sooner
(B) had he entered
(C) the hall when
(D) the bell rang

Q5. **Fill in the blank with the most appropriate preposition:**

The supervisor was taken aback ___ the unexpected departure of several senior staff members.

(A) by
(B) at
(C) for
(D) over

Q6. **Choose the correct word to complete the sentence.**

They constructed a ___ to cross the stream.

(A) brige
(B) bridg
(C) bridge
(D) breidge

Q7. **Choose the correctly spelt word:**

(A) Sacrilege
(B) Sacrelige
(C) Sacrilage
(D) Sasrilege

Q8. **Choose the best option to replace the underlined part to improve the given sentence. If no substitution is required, select 'No substitution.'**

The helicopter flew on the city, providing a clear aerial view.

(A) over the city
(B) in the city
(C) at the city
(D) No substitution

Q9. **Choose the best option to replace the underlined part to improve the given sentence. If no substitution is required, select 'No substitution.'**

The organization has done away for redundant procedures by adopting a fully online system.

(A) Done off
(B) Done away with
(C) Done in for
(D) No substitution

Q10. **From the alternatives given below, select the correct passive voice of the following sentence.**

The trainees were imitating the way of the description by the instructor.

(A) The way of the description by the instructor was imitated by the trainees.
(B) The way of the description by the instructor were being imitated by the trainees.
(C) The way of the description by the instructor had been imitated by the trainees.
(D) The way of the description by the instructor was being imitated by the trainees.

Q11. **Choose the option that is the most appropriate conversion of the following sentence into Active Voice.**

All the preparations had been completed by the committee before we arrived.

(A) The committee completed all the preparations before we arrived.
(B) The committee will have completed all the preparations before we arrive.
(C) The committee had completed all the preparations before we arrived.
(D) The committee have completed all the preparations before we arrived.

Q12. **Choose the correct indirect narration of the following statement from the given alternatives:**

Rohit said, "What a beautiful day today is!"

(A) Rohit exclaimed that that day has been a very beautiful day.
(B) Rohit exclaimed that that day a very beautiful day was.
(C) Rohit exclaimed that day was a very beautiful day.
(D) Rohit exclaimed that that day was a very beautiful day.

Q13. **Choose the option that is the most appropriate conversion of the following sentence into Direct Speech.**

He asked if I knew the way to the library.

(A) He asked, "Do you know the way to the library?"
(B) He asked, "Did you know the way to the library?"
(C) He ask, "If I know the way to the library?"
(D) He said, "Did you knew the way to the library?"

Q14. **The following sentence has two blanks. Choose the most suitable set of prepositions from the given options to fill in the blanks and complete the sentence meaningfully:**

Her familiarity ___ data analysis increased ___ hands-on experience.

(A) of, by
(B) with, through
(C) for, from
(D) at, under

Q15. **Choose the option that is the most appropriate conversion of the following sentence into Direct Speech.**

Ravi said that by the time Meera arrived, the visitors had already started leaving.

(A) Ravi said, "By the time Meera has arrived, the visitors were already leaving."
(B) Ravi said, "By the time Meera had arrived, the visitors had already started leaving."
(C) Ravi said, "By the time Meera arrived, the visitors had already started leaving."
(D) Ravi said, "By the time Meera arrived, the visitors had already started to leave."

Q16. **Change the following sentence into the Active form.**

It was widely believed that the ancient monuments had been built by a previously unknown civilization.

(A) They widely believed that a previously unknown civilization had built the ancient monuments.
(B) People widely believe that a previously unknown civilization had built the ancient monuments.
(C) People widely believed that a previously unknown civilization had built the ancient monuments.
(D) It was believed that a previously unknown civilization had built the ancient monuments widely.

Q17. **One of these words is spelled incorrectly. Which one is it ?**

(A) Acknowledgment
(B) Proficiancy
(C) Perseverance
(D) Reputable

Q18. **Choose the correct passive voice transformation of the sentence:**

Amit was painting the mural.

(A) The mural is being painted by Amit.
(B) The mural was being painted by Amit.
(C) The mural has been painted by Amit.
(D) The mural was painted by Amit.

Directions (Qs. 19-23): Read the following passage carefully and answer the questions that follow.

Sweden is widely recognized across the globe for its deep connection to nature and environmental care. From a young age, Swedish citizens are encouraged to enjoy the outdoors, value sustainability, and prioritise ecological balance over convenience. This cultural dedication to nature has played a significant part in Sweden's ecological success and high quality of life.

One can observe evidence of this care in daily routines; locals recycle diligently at home, forests are preserved despite urban expansion, and green energy is widely used. The Swedish government also heavily invests in renewable resources, conservation projects, and public parks. Such practices help build a mindset of environmental stewardship among residents.

During global challenges, such as climate change discussions, the commitment of Swedish people becomes even more apparent. They remain proactive, innovative, and determined, which makes their contributions impactful and lasting. This social norm has not only preserved their landscapes beautifully but has also gained Sweden a status of leadership and influence in the modern world.

Q19. **In the sentence:**

"From a young age, Swedish citizens are encouraged to enjoy the outdoors, value sustainability, and prioritise ecological balance over convenience,"
What is the part of speech of the word "sustainability"?

(A) Verb
(B) Adjective
(C) Noun
(D) Adverb

Q20. **In the sentence:**

"The Swedish government also heavily invests in renewable resources, conservation projects, and public parks," Why is the verb "invests" used instead of "invest"?

(A) Because "resources" is plural
(B) Because "government" is a singular subject
(C) Because 'heavily' is an adverb
(D) Because the sentence is in the past tense

Q21. **In the sentence:**

"This social norm has not only preserved their landscapes beautifully but has also gained Sweden a status of leadership and influence in the modern world,"
What is the closest synonym for the word "influence"?

(A) Weakness
(B) Impact
(C) Silence
(D) Confusion

Q22. **In the sentence:**

"This cultural dedication to nature has played a significant part in Sweden's ecological success and high quality of life,"
What does the word "dedication" most likely mean in this context?

(A) Dislike
(B) Indifference
(C) Devoted commitment
(D) Lack of knowledge

Q23. **What is the main idea of the passage?**

(A) Sweden focuses on building factories over parks
(B) Environmental care is deeply rooted in Swedish culture and benefits their society
(C) Swedish people rarely go outside
(D) Sweden struggles to maintain renewable energy

Q24. **What is the antonym of "Overt" ?**

(A) Evident
(B) Broad
(C) Surreptitious
(D) Palpable

Q25. **What is the antonym of "Fragrant"?**

(A) Noisome
(B) Alluring
(C) Pleasant
(D) Luscious

Section 2: General Intelligence (Q26–50)

Q26. **Find the next element that replace the ? Logically**

7, 22, 67, 202, ?

? के स्थान पर तर्कसंगत रूप से आने वाला अगला पद ज्ञात कीजिए।

7, 22, 67, 202, ?

(A) 607
(B) 602
(C) 614
(D) 625

Q27. **In a queue, Ravi is 12th from the front and Mohit is 14th from the back. If there are 4 people between them, and Ravi is ahead of Mohit, what is the total number of people in the queue?**

एक कतार में, रवि आगे से 12वें स्थान पर है और मोहित पीछे से 14वें स्थान पर है। यदि उन दोनों के बीच 4 व्यक्ति हैं और रवि, मोहित से आगे है, तो कतार में कुल कितने व्यक्ति हैं?

(A) 30
(B) 31
(C) 32
(D) 33

Q28. **In a row, Amit is 11th from the front and Manoj is 17th from the back. If there are 5 persons between them, and Manoj is ahead of Amit, what is the total number of persons in the row?**

एक पंक्ति में, अमित आगे से 11वें स्थान पर है और मनोज पीछे से 17वें स्थान पर है। यदि उन दोनों के बीच 5 व्यक्ति हैं और मनोज, अमित से आगे है, तो पंक्ति में कुल कितने व्यक्ति हैं?

(A) 21
(B) 22
(C) 23
(D) 24

Q29. **If 124 " $25 = 33$ and $121''61 = 20$, then what is the value of 172° 46?**

यदि 124 " $25 = 33$ और $121''61 = 20$, तो 172° 46 का मान क्या है?

(A) 42
(B) 48
(C) 55
(D) 39

Q30. **If $19!27 = 3078$ and $38!49 =$ 11172 , then what is the value of $3!50$?**

यदि $19!27 = 3078$ और $38!49 =$ 11172, तो $3!50$ का मान क्या है?

(A) 882
(B) 900
(C) 894
(D) 906

Q31. **Find the next element that replace the ? Logically**

1321, 1718, 2187, 2734, ?

? के स्थान पर तर्कसंगत रूप से आने वाला अगला पद ज्ञात कीजिए।

1321, 1718, 2187, 2734, ?

(A) 2760
(B) 3375
(C) 3355
(D) 3365

Q32. **A piece of paper is folded and punched as shown below in the question figures. From the given option figures, indicate how it will appear when opened.**

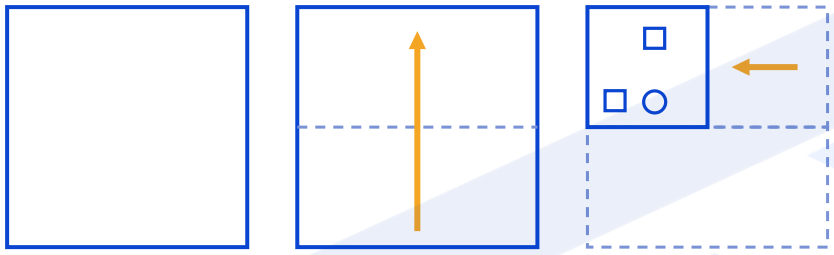

folded twice, then punched

कागज़ के एक टुकड़े को नीचे प्रश्न आकृतियों में दर्शाए अनुसार मोड़ा और छेदा गया है। दी गई विकल्प आकृतियों में से बताइए कि खोलने पर वह कैसा दिखाई देगा।

(A)
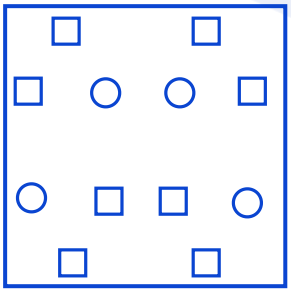

(B)
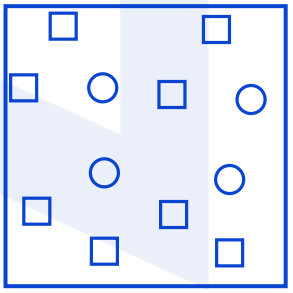

(C)
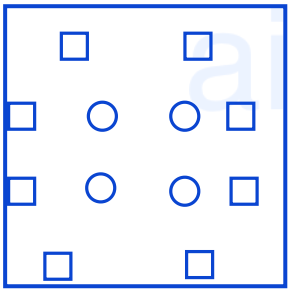

(D)
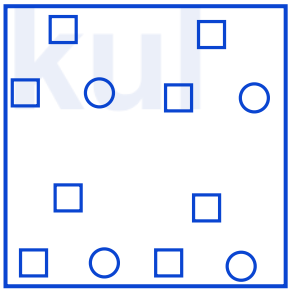

Q33. **A piece of paper is folded and punched as shown below in the question figures. From the given option figures, indicate how it will appear when opened.**

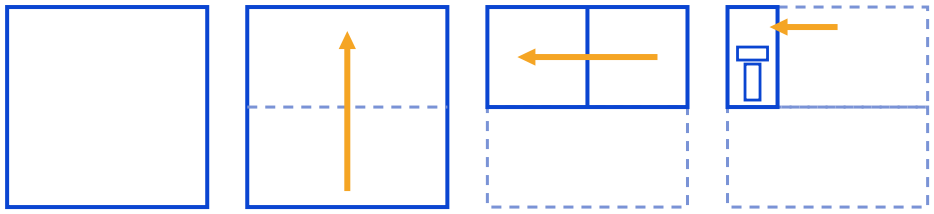

folded three times, then punched

(a) (b) (c) (d)

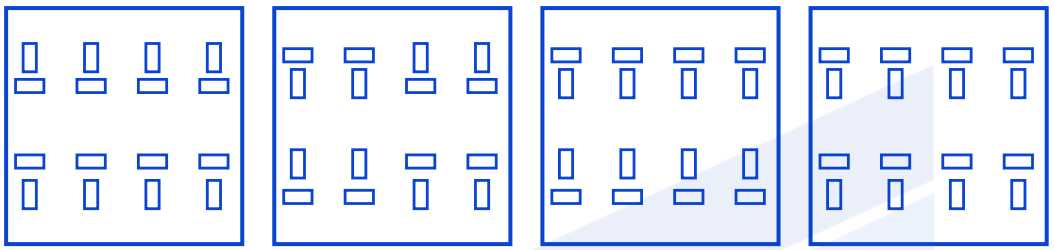

कागज़ के एक टुकड़े को नीचे प्रश्न आकृतियों में दर्शाए अनुसार मोड़ा और छेदा गया है। दी गई विकल्प आकृतियों में से बताइए कि खोलने पर वह कैसा दिखाई देगा।

A (a)
B (b)
C (c)
D (d)

Q34. **Find the next number.**

12, 21, 32, 45, 60, ?

अगली संख्या ज्ञात कीजिए।

12, 21, 32, 45, 60, ?

A 77
B 72
C 73
D 74

Q35. **In the following question, select the number which can be placed at the sign of question mark (?) from the given alternatives.**

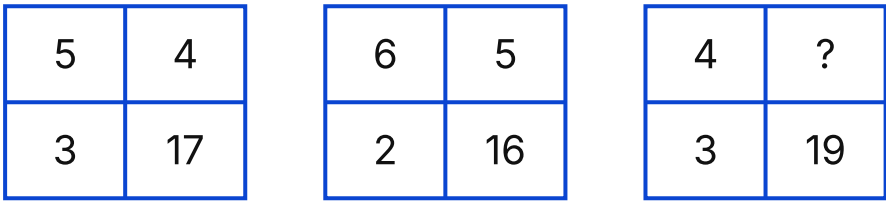

निम्नलिखित प्रश्न में, दिए गए विकल्पों में से वह संख्या चुनिए जिसे प्रश्नवाचक चिह्न (?) के स्थान पर रखा जा सकता है।

A 3
B 4
C 5
D 6

Q36. How many triangles are there in the given figure?

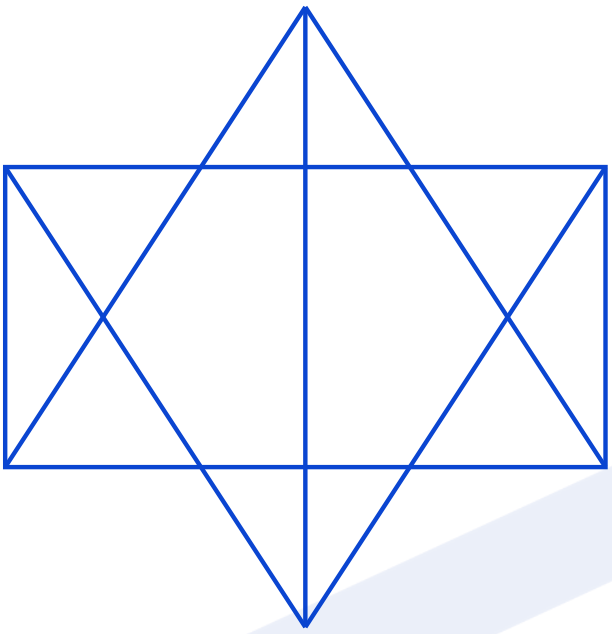

दी गई आकृति में कितने त्रिभुज हैं?

(A) 16
(B) 24
(C) 26
(D) 25

airGurukul

Q37. **In the figure given below the triangle represents bats, the circle represents tables and the rectangle represents balls. The number in each area represents the number of items in that area.**

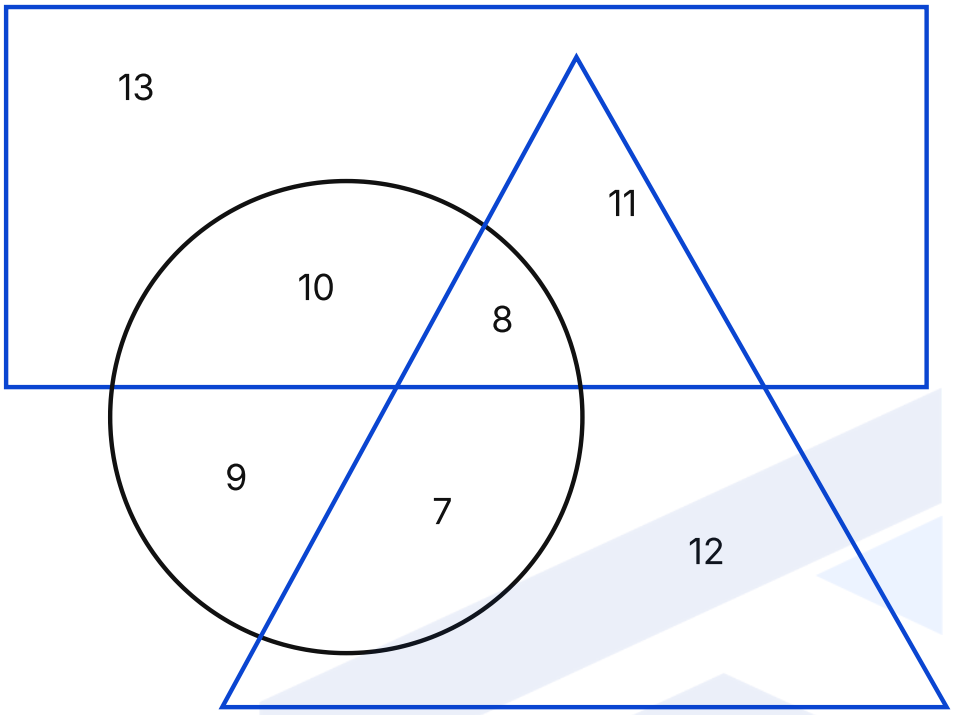

Which of the following statement is correct?
I. Number of balls which are only tables are 10.
II. Total number of bats are 14 less than the total number of balls.

नीचे दी गई आकृति में त्रिभुज bats को, वृत्त tables को तथा आयत balls को दर्शाता है। प्रत्येक क्षेत्र में लिखी संख्या उस क्षेत्र की वस्तुओं की संख्या दर्शाती है।

निम्नलिखित में से कौन-सा कथन सही है?
I. केवल tables होने वाली balls की संख्या 10 है।
II. bats की कुल संख्या, balls की कुल संख्या से 14 कम है।

(A) Only I / केवल I
(B) Only II / केवल II
(C) Both I and II / I और II दोनों
(D) Neither I nor II / न तो I और न ही II

Q38. **5 persons P, Q, R, S and T are sitting around a circular table facing towards the centre (not necessarily in the same order). Q is sitting second to the right of S. P is sitting second to the right of Q. R is not an immediate neighbour of P . Who is third to the right of S ?**

5 व्यक्ति P, Q, R, S और T एक वृत्ताकार मेज़ के चारों ओर केंद्र की ओर मुख करके बैठे हैं (आवश्यक नहीं कि इसी क्रम में)। Q, S. P के दाईं ओर दूसरे स्थान पर बैठा है, Q. R, P का निकटतम पड़ोसी नहीं है। S के दाईं ओर तीसरे स्थान पर कौन है?

(A) Q
(B) R
(C) T
(D) P

Q39. **A certain number of persons are standing in a row facing north (not necessarily in the same order). B is 8th person from left end. Five people stand between B and Y. Y is second person from one of the end. How many persons are standing in the row?**

कुछ व्यक्ति एक पंक्ति में उत्तर की ओर मुख करके खड़े हैं (आवश्यक नहीं कि इसी क्रम में)। B बाएँ छोर से 8वें स्थान पर है। B और Y के बीच पाँच व्यक्ति खड़े हैं। Y किसी एक छोर से दूसरे स्थान पर है। पंक्ति में कितने व्यक्ति खड़े हैं?

(A) 15
(B) 17
(C) 18
(D) 9

Q40. **Two figures given on the left side of (::) are related with some logic/rule/relation. Select the missing figure on the right side of (:) from the given alternatives based on the same logic/rule/relation.**

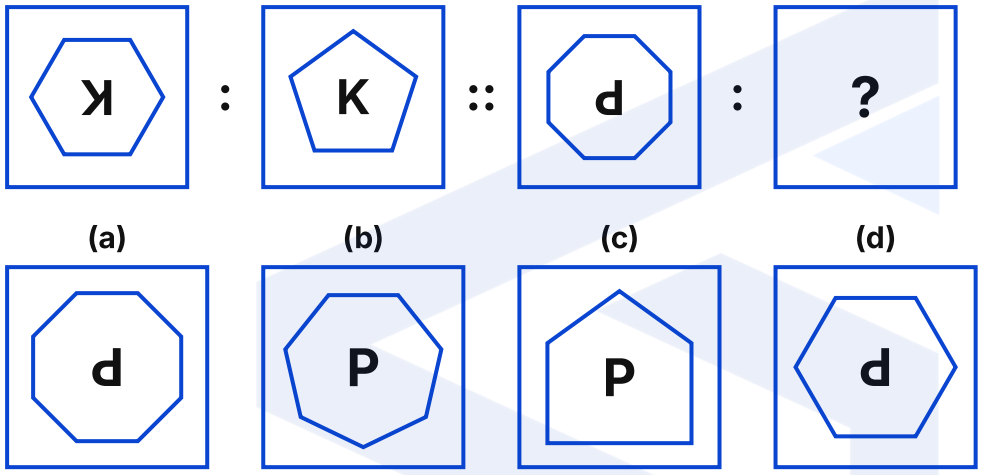

(::) के बाईं ओर दी गई दो आकृतियाँ किसी तर्क/नियम/संबंध से संबंधित हैं। उसी तर्क/नियम/संबंध के आधार पर दिए गए विकल्पों में से (:) के दाईं ओर की लुप्त आकृति चुनिए।

(A) (a)
(B) (b)
(C) (c)
(D) (d)

Q41. **Two figures given on the left side of (::) are related with some logic/rule/relation. Select the missing figure on the right side of (:) from the given alternatives based on the same logic/rule/relation.**

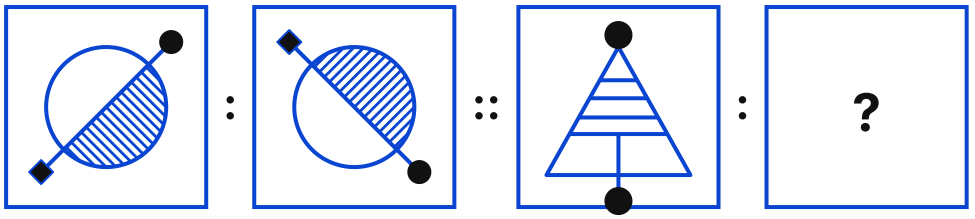

(a)
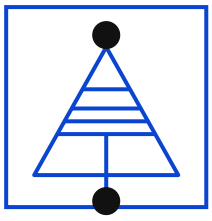

(b)


(c)
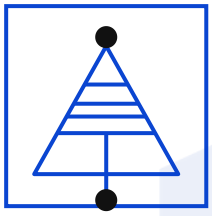

(d)


(::) के बाईं ओर दी गई दो आकृतियाँ किसी तर्क/नियम/संबंध से संबंधित हैं। उसी तर्क/नियम/संबंध के आधार पर दिए गए विकल्पों में से (:) के दाईं ओर की लुप्त आकृति का चयन कीजिए।

A (a)
B (b)
C (c)
D (d)

Q43. **After interchanging the given two signs, what will be the value of the given equation?**

[redacted] and ÷

$40 + 20 \times 15 - 5 \div 5 =$ **?**

दिए गए दो चिह्नों को आपस में बदलने पर, दिए गए समीकरण का मान क्या होगा?

और ÷

$40 + 20 \times 15 - 5 \div 5 =$?

A 85
B 90
C 100
D 95

Q44. **Select the correct combination of mathematical signs to replace (*) signs sequentially and to balance the given equation.**

$24 * 4 * 30 * 6 * 7 = 94$

(*) चिह्नों को क्रमानुसार प्रतिस्थापित करने तथा दिए गए समीकरण को संतुलित करने के लिए गणितीय चिह्नों के सही संयोजन का चयन कीजिए।

$24 * 4 * 30 * 6 * 7 = 94$

(A) $\times, +, \div,$

(B) $+, +, , x$

(C) $\times, +, +$

(D) $, + \div, \times, -$

Q45. **In the following question, four letter-number pairs are given. The letter-number on the left side of $(-)$ is related to the letter-number on the right side of (-) with some Logic/Rule/Relation. Three pairs are similar on the basis of same Logic/Rule/Relation. Select the odd one out from the given alternatives.**

(NOTE: Operations should be performed on the whole numbers, without breaking down the number into its constituent digits. E.g. 13 - Operations on 13 such as adding /subtracting /multiplying etc. to 13 can be performed. Breaking down 13 into 1 and 3 and then performing mathematical operations on 1 and 3 is not allowed)

निम्नलिखित प्रश्न में चार अक्षर-संख्या युग्म दिए गए हैं। $(-)$ के बाईं ओर की अक्षर-संख्या, (-) के दाईं ओर की अक्षर-संख्या से किसी तर्क/नियम/संबंध द्वारा संबंधित है। तीन युग्म उसी तर्क/नियम/संबंध के आधार पर समान हैं। दिए गए विकल्पों में से विषम युग्म का चयन कीजिए।

(नोट: संक्रियाएँ पूर्ण संख्याओं पर की जानी चाहिए, संख्या को उसके अंकों में विभाजित किए बिना। उदाहरण के लिए 13 - 13 पर की जाने वाली संक्रियाएँ जैसे 13 में जोड़ना/घटाना/गुणा करना आदि की जा सकती हैं। 13 को 1 और 3 में विभाजित करके 1 और 3 पर गणितीय संक्रियाएँ करने की अनुमति नहीं है।)

(A) TB287 - SZ581

(B) QL320 - PJ604

(C) FC231 - EA525

(D) UH410 - TF704

Q46. **In the following question, four letter-number pairs are given. The letter-number on the left side of (-) is related to the letter-number on the right side of (-) with some Logic/Rule/Relation. Three pairs are similar on the basis of same Logic/Rule/Relation. Select the odd one out from the given alternatives.**

(NOTE: Operations should be performed on the whole numbers, without breaking down the number into its constituent digits. E.g. 13 - Operations on 13 such as adding /subtracting /multiplying etc. to 13 can be performed. Breaking down 13 into 1 and 3 and then performing mathematical operations on 1 and 3 is not allowed)

निम्नलिखित प्रश्न में चार अक्षर-संख्या युग्म दिए गए हैं। (-) के बाईं ओर की अक्षर-संख्या, (-) के दाईं ओर की अक्षर-संख्या से किसी तर्क/नियम/संबंध द्वारा संबंधित है। तीन युग्म उसी तर्क/नियम/संबंध के आधार पर समान हैं। दिए गए विकल्पों में से विषम युग्म का चयन कीजिए।

(नोट: संक्रियाएँ पूर्ण संख्याओं पर की जानी चाहिए, संख्या को उसके अंकों में विभाजित किए बिना। उदाहरण के लिए 13 - 13 पर की जाने वाली संक्रियाएँ जैसे 13 में जोड़ना/घटाना/गुणा करना आदि की जा सकती हैं। 13 को 1 और 3 में विभाजित करके 1 और 3 पर गणितीय संक्रियाएँ करने की अनुमति नहीं है।)

(A) RC206-OW617
(B) LA194 - IU581
(C) KS187 - HM560
(D) ER313 - BN939

Q47. **In the following question, four number pairs are given. In each pair the number on left side of (-) is related to the number of the right side of (-) with some Logic/Rule/Relation. Three pairs are similar on the basis of same Logic/Rule/Relation. Select the odd one out from the given alternatives.**

(NOTE: Operations should be performed on the whole numbers, without breaking down the number into its constituent digits. E.g.13- Operations on 13 such as adding /subtracting /multiplying etc. to 13 can be performed. Breaking down 13 into 1 and 3 and then performing mathematical operations on 1 and 3 is not allowed)

निम्नलिखित प्रश्न में चार संख्या युग्म दिए गए हैं। प्रत्येक युग्म में (-) के बाईं ओर की संख्या, (-) के दाईं ओर की संख्या से किसी तर्क/नियम/संबंध द्वारा संबंधित है। तीन युग्म उसी तर्क/नियम/संबंध के आधार पर समान हैं। दिए गए विकल्पों में से विषम युग्म का चयन कीजिए।

(नोट: संक्रियाएँ पूर्ण संख्याओं पर की जानी चाहिए, संख्या को उसके अंकों में विभाजित किए बिना। उदाहरण के लिए 13 - 13 पर की जाने वाली संक्रियाएँ जैसे 13 में जोड़ना/घटाना/गुणा करना आदि की जा सकती हैं। 13 को 1 और 3 में विभाजित करके 1 और 3 पर गणितीय संक्रियाएँ करने की अनुमति नहीं है।)

(A) 2652-663
(B) 1548-387
(C) 2376-594
(D) 1981-492

Q48. **In the following question, in each alternative a group of numbers is given. The numbers of each group are related to the numbers of the same group by some Logic/Rule/Relation. Select that group of numbers in which numbers are not related by that same Logic/Rule/Relation.**

(NOTE: Operations should be performed on the whole numbers, without breaking down the number into its constituent digits. E.g. 13 - Operations on 13 such as adding /subtracting /multiplying etc. to 13 can be performed. Breaking down 13 into 1 and 3 and then performing mathematical operations on 1 and 3 is not allowed)

निम्नलिखित प्रश्न में, प्रत्येक विकल्प में संख्याओं का एक समूह दिया गया है। प्रत्येक समूह की संख्याएँ उसी समूह की संख्याओं से किसी तर्क/नियम/संबंध द्वारा संबंधित हैं। उस संख्या समूह का चयन कीजिए जिसमें संख्याएँ उसी तर्क/नियम/संबंध द्वारा संबंधित नहीं हैं।

(नोट: संक्रियाएँ पूर्ण संख्याओं पर की जानी चाहिए, संख्या को उसके अंकों में विभाजित किए बिना। उदाहरण के लिए 13 - 13 पर की जाने वाली संक्रियाएँ जैसे 13 में जोड़ना/घटाना/गुणा करना आदि की जा सकती हैं। 13 को 1 और 3 में विभाजित करके 1 और 3 पर गणितीय संक्रियाएँ करने की अनुमति नहीं है।)

(A) (48, 96, 120)
(B) (66, 132, 170)
(C) $(90, 180, 225)$
(D) (72, 144, 180)

Q49. **Select the option that is related to the fifth letter-number cluster in the same way as the second letter-number cluster is related to the first letter-number cluster and fourth letter-number cluster is related to third letter-number cluster.(NOTE: Operations should be performed on the whole numbers, without breaking down the numbers into its constituent digits. E.g.13- Operations on 13 such as adding /subtracting /multiplying etc. to 13 can be performed. Breaking down 13 into 1 and 3 and then performing mathematical operations on 1 and 3 is not allowed) BM112 : AN562 :: CS280 : BT730 :: GX96 : ?**

उस विकल्प का चयन कीजिए जो पाँचवें अक्षर-संख्या समूह से उसी प्रकार संबंधित है, जिस प्रकार दूसरा अक्षर-संख्या समूह पहले अक्षर-संख्या समूह से तथा चौथा अक्षर-संख्या समूह तीसरे अक्षर-संख्या समूह से संबंधित है। (नोट: संक्रियाएँ पूर्ण संख्याओं पर की जानी चाहिए, संख्याओं को उनके अंकों में विभाजित किए बिना। उदाहरण के लिए 13 - 13 पर की जाने वाली संक्रियाएँ जैसे 13 में जोड़ना/घटाना/गुणा करना आदि की जा सकती हैं। 13 को 1 और 3 में विभाजित करके 1 और 3 पर गणितीय संक्रियाएँ करने की अनुमति नहीं है।) BM112 : AN562 :: CS280 : BT730 :: GX96 : ?

(A) EZ538
(B) EY546
(C) FY546
(D) FZ538

Q50. **Select the option that is related to the fifth letter-number cluster in the same way as the second letter-number cluster is related to the first letter-number cluster and fourth letter-number cluster is related to third letter-number cluster.**

(NOTE: Operations should be performed on the whole numbers, without breaking down the numbers into its constituent digits. E.g. 13 - Operations on 13 such as adding /subtracting /multiplying etc. to 13 can be performed. Breaking down 13 into 1 and 3 and then performing mathematical operations on 1 and 3 is not allowed)

PQ8 : JK66 :: G019 : AI363 :: BX13 : ?

उस विकल्प का चयन कीजिए जो पाँचवें अक्षर-संख्या समूह से उसी प्रकार संबंधित है, जिस प्रकार दूसरा अक्षर-संख्या समूह पहले अक्षर-संख्या समूह से तथा चौथा अक्षर-संख्या समूह तीसरे अक्षर-संख्या समूह से संबंधित है।

(नोट: संक्रियाएँ पूर्ण संख्याओं पर की जानी चाहिए, संख्याओं को उनके अंकों में विभाजित किए बिना। उदाहरण के लिए 13 - 13 पर की जाने वाली संक्रियाएँ जैसे 13 में जोड़ना/घटाना/गुणा करना आदि की जा सकती हैं। 13 को 1 और 3 में विभाजित करके 1 और 3 पर गणितीय संक्रियाएँ करने की अनुमति नहीं है।)

PQ8 : JK66 :: G019 : AI363 :: BX13 : ?

(A) VR173
(B) VS173
(C) VS171
(D) VR171

Want to clear SSC CHSL Tier-1?

Prepare with **Samyān (सम्यान) 1.0 – SSC Foundation Course** – structured classes, practice and doubt support for SSC CHSL Tier-1.

Every PYP as an online test
Shift-wise papers with timer, score and rank.

Detailed solutions
Step-by-step answers in Hindi and English.

Free live classes
Daily classes on our YouTube channel airGurukul SSC Exams.

Exam updates
Notifications, admit cards and results on WhatsApp.

See the course

Attempt this paper online

Detailed solutions

Free classes & exam updates

Telegram Channel
t.me/airgurukulofficial

WhatsApp Channel
whatsapp.com/channel/0029VbBP7n00VycAFq6AGJ0I

YouTube Channel
youtube.com/@airGurukulSSCExams

Android App
play.google.com/...?id=in.airgurukul

Call / WhatsApp **+91-7042559948** · www.airgurukul.com

Section 3: Quantitative Aptitude (Q51–75)

Q51. **If an article is sold for Rs. 105 at a loss of 30%, what was its cost price?**

यदि कोई वस्तु 30% की हानि पर Rs. 105 में बेची जाती है, तो उसका क्रय मूल्य कितना था?

(A) Rs. 140
(B) Rs. 150
(C) Rs. 120
(D) Rs. 135

Q52. **A bus travels at 40 km/h. How long to cover 800 km ?**

एक बस 40 km/h की चाल से चलती है। 800 km की दूरी तय करने में उसे कितना समय लगेगा?

(A) 24 hours
(B) 20hours
(C) 30 hours
(D) 34 hours

Q53. **A alone can do work in 10 days, B alone in 20 days. They work together for 5 days, then A leaves. How many more days will B take to finish the remaining work?**

A अकेले किसी कार्य को 10 दिन में तथा B अकेले उसी कार्य को 20 दिन में कर सकता है। वे 5 दिन तक साथ मिलकर कार्य करते हैं, इसके बाद A कार्य छोड़ देता है। शेष कार्य को पूरा करने में B को और कितने दिन लगेंगे?

(A) 10 days
(B) 3 days
(C) 5 days
(D) 8 days

Q54. **A wall of size $8m \times 4m$ is to be covered with rectangular tiles of size 2 m $\times 1m$. How many tiles are required to cover the wall completely?**

$8m \times 4m$ आकार की एक दीवार को 2 m $\times 1m$ आकार की आयताकार टाइलों से ढका जाना है। दीवार को पूरी तरह ढकने के लिए कितनी टाइलों की आवश्यकता होगी?

(A) 12
(B) 14
(C) 16
(D) 18

Q55. **A right prism has a trapezoidal base with parallel sides 5 cm and 9 cm , height of the trapezium 6 cm , and height of the prism 10 cm . Find the volume of the prism.**

एक लंब प्रिज़्म का आधार समलंब है जिसकी समांतर भुजाएँ 5 cm तथा 9 cm हैं, समलंब की ऊँचाई 6 cm है और प्रिज़्म की ऊँचाई 10 cm है। प्रिज़्म का आयतन ज्ञात कीजिए।

(A) 384cm^3
(B) 456cm^3
(C) 420cm^3
(D) 386cm^3

Q56. **Which criteria are sufficient to prove the similarity of two triangles?**

दो त्रिभुजों की समरूपता सिद्ध करने के लिए कौन-सी कसौटियाँ पर्याप्त हैं?

(A) AA
(B) SSS
(C) SAS
(D) All of these / इनमें से सभी

Q57. **The outer diameter of a hollow cylindrical copper rod is 4.2 cm . The rod is 7 mm thick and 15 cm long. If 1 cubic cm of copper weighs 0.4 kg , find the total weight of the rod.**

एक खोखली बेलनाकार ताँबे की छड़ का बाह्य व्यास 4.2 cm है। छड़ 7 mm मोटी तथा 15 cm लंबी है। यदि 1 घन cm ताँबे का भार 0.4 kg है, तो छड़ का कुल भार ज्ञात कीजिए।

(A) 46.2 kg
(B) 94.4 kg
(C) 68.1 kg
(D) 58.7 kg

Q58. **Find the value of :**

$(\sqrt{3}+2)^2-(\sqrt{3}-2)^2$

निम्नलिखित का मान ज्ञात कीजिए :

$(\sqrt{3}+2)^2-(\sqrt{3}-2)^2$

(A) $4\sqrt{7}$
(B) $8\sqrt{3}$
(C) $2\sqrt{3}$
(D) $5\sqrt{2}$

Q59. **P, Q, and R invested Rs. 60,000 , Rs.50,000, and Rs.40,000, respectively, in a business. If the total profit after 1 year is Rs.1,50,000, how much will Q receive?**

P, Q तथा R ने एक व्यवसाय में क्रमशः Rs. 60,000, Rs.50,000 तथा Rs.40,000 का निवेश किया। यदि 1 वर्ष बाद कुल लाभ Rs.1,50,000 है, तो Q को कितना धन प्राप्त होगा?

(A) Rs. 50,000
(B) Rs. 55,000
(C) Rs. 60,000
(D) Rs. 65,000

Q60. **The sum of three numbers is 180. If the ratio of the first to the second is 3 : 4 and the ratio of the second to the third is $4:5$, find the first number.**

तीन संख्याओं का योग 180 है। यदि पहली और दूसरी संख्या का अनुपात 3 : 4 है तथा दूसरी और तीसरी संख्या का अनुपात $4:5$ है, तो पहली संख्या ज्ञात कीजिए।

(A) 36
(B) 40
(C) 45
(D) 48

Q61. **The radius of a cylinder is increased by 150 % and its height is decreased by 20 %. What is the percentage increase in its volume?**

एक बेलन की त्रिज्या में 150 % की वृद्धि की जाती है और उसकी ऊँचाई में 20 % की कमी की जाती है। उसके आयतन में कितने प्रतिशत की वृद्धि होगी?

(A) 400%
(B) 600%
(C) 500%
(D) 80%

Q62. **A single discount of 20% on the marked price of an item is equivalent to two successive discounts of 10% and $x\%$. Find the value of x .**

किसी वस्तु के अंकित मूल्य पर 20% की एकल छूट, 10% और $x\%$ की दो क्रमिक छूटों के समतुल्य है। x का मान ज्ञात कीजिए।

(A) 10.25%
(B) 11.11%
(C) 7.50%
(D) 8.90%

Q63. **A shopkeeper gives a 10% discount on the marked price and still earns a profit of 25%. If the selling price of the article is ₹1350, find the marked price.**

एक दुकानदार अंकित मूल्य पर 10% की छूट देता है और फिर भी 25% का लाभ अर्जित करता है। यदि वस्तु का विक्रय मूल्य ₹1350 है, तो अंकित मूल्य ज्ञात कीजिए।

(A) ₹1500
(B) ₹1600
(C) ₹1550
(D) ₹1650

Q64. **A vessel contains 50 liters of milk. From the vessel, 5 liters of milk is taken out and replaced by water. This process is repeated one more time. What is the ratio of milk to water in the final mixture?**

एक बर्तन में 50 लीटर दूध है। बर्तन से 5 लीटर दूध निकालकर उसके स्थान पर उतना ही पानी मिला दिया जाता है। यह प्रक्रिया एक बार और दोहराई जाती है। अंतिम मिश्रण में दूध और पानी का अनुपात क्या है?

(A) $81:19$
(B) $64:36$
(C) 49 : 51
(D) 72 : 28

Q65. **In a circle with centre 0 and radius $5\text{cm}.AB$ and CD are two parallel chords of lengths 6 cm and $x\text{cm}$, respectively and the chords are on the opposite side of the centre 0 . The distance between the chords is 7 cm . Find the value of x ?**

केंद्र 0 तथा त्रिज्या $5\text{cm}.AB$ तथा CD क्रमशः 6 cm और $x\text{cm}$ लंबाई की दो समांतर जीवाएँ हैं, तथा ये जीवाएँ केंद्र 0 के विपरीत ओर स्थित हैं। जीवाओं के बीच की दूरी 7 cm है। x का मान ज्ञात कीजिए?

(A) 12
(B) 8
(C) 10
(D) 9

Q66. **From a point A outside a circle with centre O , a tangent AB is drawn to the circle. The circle's radius measures 8 cm , and the tangent segment AB has a length of 15 cm . Find the distance between point A and the centre O of the circle.**

केंद्र O वाले एक वृत्त के बाहर स्थित बिंदु A से वृत्त पर एक स्पर्श रेखा AB खींची जाती है। वृत्त की त्रिज्या 8 cm है तथा स्पर्श रेखा खंड AB की लंबाई 15 cm है। बिंदु A तथा वृत्त के केंद्र O के बीच की दूरी ज्ञात कीजिए।

(A) 10 cm
(B) 12 cm
(C) 17 cm
(D) 16 cm

Q67. **A triangular park has an area of $144m^2$. A smaller similar park is constructed such that each side is half the length of the larger park. What is the area of the smaller park?**

एक त्रिभुजाकार पार्क का क्षेत्रफल $144m^2$ है। एक छोटा समरूप पार्क इस प्रकार बनाया जाता है कि उसकी प्रत्येक भुजा बड़े पार्क की भुजा की आधी है। छोटे पार्क का क्षेत्रफल क्या है?

(A) $18m^2$
(B) $24m^2$
(C) $36m^2$
(D) $72m^2$

Q68. **If $x + y = 13$ and $x - y = 7$, find $x^4 - y^4$**

यदि $x + y = 13$ और $x - y = 7$ है, तो $x^4 - y^4$ ज्ञात कीजिए।

(A) 4096
(B) 9919
(C) 12144
(D) 15360

Q69. $\frac{(2.57)^2 + (3.54)^2 + 18.1956}{(3.54)^2 - (2.57)^2} = ?$

(A) 6.29
(B) 6.87
(C) 0.97
(D) 5.90

Q70. **If $x = \sqrt{20} + \sqrt{5}$, then what is the value of x^2 ?**

यदि $x = \sqrt{20} + \sqrt{5}$ है, तो x^2 का मान क्या है?

(A) 72
(B) 64
(C) 45
(D) 69

Q71. **Rs. 5000 is invested in a scheme of compound interest (compounding annually) at the annual rate of 20 percent. What will be the difference between compound interest of second year and third year?**

चक्रवृद्धि ब्याज (वार्षिक रूप से संयोजित) की एक योजना में 20 प्रतिशत वार्षिक दर पर Rs. 5000 निवेश किए जाते हैं। दूसरे वर्ष तथा तीसरे वर्ष के चक्रवृद्धि ब्याज के बीच कितना अंतर होगा?

(A) Rs. 250
(B) Rs. 230
(C) Rs. 278
(D) Rs. 240

Q72. **In how much time will a sum of Rs. 16000 amounts to Rs. 24000 at the rate of 5 percent per annum at simple interest?**

साधारण ब्याज पर 5 प्रतिशत वार्षिक दर से Rs. 16000 की राशि कितने समय में Rs. 24000 हो जाएगी?

(A) 8 years / 8 वर्ष
(B) 5 years / 5 वर्ष
(C) 10 years / 10 वर्ष
(D) 4 years / 4 वर्ष

Q73. **The average of 5 consecutive odd natural numbers is 57. Previous 5 consecutive odd natural numbers to these 5 odd natural numbers are also included. What will be the average of newly added numbers?**

5 क्रमागत विषम प्राकृत संख्याओं का औसत 57 है। इन 5 विषम प्राकृत संख्याओं से ठीक पहले की 5 क्रमागत विषम प्राकृत संख्याएँ भी सम्मिलित कर ली जाती हैं। नई जोड़ी गई संख्याओं का औसत क्या होगा?

(A) 43
(B) 49
(C) 47
(D) 45

Q74. **There are 20 players in a team. The average age of these 20 players is ' X '. 10 new players joined the team. There is no change in the average age of the team. What is the total age of these 10 players?**

एक टीम में 20 खिलाड़ी हैं। इन 20 खिलाड़ियों की औसत आयु ' X ' है। 10 नए खिलाड़ी टीम में सम्मिलित हो जाते हैं। टीम की औसत आयु में कोई परिवर्तन नहीं होता। इन 10 खिलाड़ियों की कुल आयु क्या है?

(A) 5x
(B) 20 x
(C) 10x
(D) $15x$

Q75. **Rohit is trying to fill a tank using three pipes, A, B, and C. When pipes A and B work together, they can fill the tank in 24 minutes. If pipes B and C work together, they can fill the tank in 30 minutes, and when pipes C and A work together, they can fill the tank in 40 minutes. Initially, Rohit opens only pipe C. After L minutes, he also opens pipes A and B , and the remaining portion of the tank is filled in 5 minutes. Determine the value of L.**

रोहित तीन पाइपों A, B, तथा C की सहायता से एक टंकी भरने का प्रयास कर रहा है। जब पाइप A और B एक साथ कार्य करते हैं, तो वे टंकी को 24 मिनट में भर सकते हैं। यदि पाइप B और C एक साथ कार्य करें, तो वे टंकी को 30 मिनट में भर सकते हैं, तथा जब पाइप C और A एक साथ कार्य करें, तो वे टंकी को 40 मिनट में भर सकते हैं। आरंभ में रोहित केवल पाइप C खोलता है। L मिनट के बाद वह पाइप A और B भी खोल देता है, और टंकी का शेष भाग 5 मिनट में भर जाता है। L का मान ज्ञात कीजिए।

(A) 60
(B) 45
(C) 90
(D) 80

Section 4: General Awareness (Q76–100)

Q76. **At the 71st National Film Awards, which actor received the Best Actor (Male) honour for his performance in a Hindi film?**

71वें राष्ट्रीय फिल्म पुरस्कारों में किस अभिनेता को एक हिंदी फिल्म में उनके अभिनय के लिए सर्वश्रेष्ठ अभिनेता (पुरुष) का सम्मान प्राप्त हुआ?

(A) Vicky Kaushal
(B) Shah Rukh Khan
(C) Ayushmann Khurrana
(D) Ranveer Singh

Q77. **In early 2025 , who took charge as the new Chairperson of the Indian National Trust for Art and Cultural Heritage?**

2025 के आरंभ में भारतीय राष्ट्रीय कला एवं सांस्कृतिक विरासत न्यास (INTACH) के नए अध्यक्ष के रूप में किसने कार्यभार ग्रहण किया?

(A) Aviral Jain
(B) Rakesh Verma
(C) Ashok Singh Thakur
(D) Sunil Mehta

Q78. **On 1 January 2025, Sanjiv Ranjan assumed office as Secretary-General of the Indian Ocean Rim Association (IORA) Secretariat in Mauritius. What is the duration of his tenure?**

1 जनवरी 2025 को Sanjiv Ranjan ने मॉरीशस स्थित हिंद महासागर रिम संघ (IORA) सचिवालय के महासचिव के रूप में कार्यभार ग्रहण किया। उनका कार्यकाल कितनी अवधि का है?

(A) Four years / चार वर्ष
(B) Three years / तीन वर्ष
(C) Five years / पाँच वर्ष
(D) One year / एक वर्ष

Q79. **In May 2025, the Supreme Court of India overturned a ruling of which High Court that had refused maternity leave to a government school teacher on the ground that it was her third child?**

मई 2025 में भारत के उच्चतम न्यायालय ने किस उच्च न्यायालय के उस निर्णय को पलट दिया, जिसमें एक सरकारी विद्यालय की शिक्षिका को इस आधार पर मातृत्व अवकाश देने से इनकार किया गया था कि यह उनकी तीसरी संतान थी?

(A) Kerala High Court / केरल उच्च न्यायालय
(B) Madras High Court / मद्रास उच्च न्यायालय
(C) Punjab and Haryana High Court / पंजाब और हरियाणा उच्च न्यायालय
(D) Gujarat High Court / गुजरात उच्च न्यायालय

Q80. **By the end of 2024, how many million women in India were actively tracking or monitoring their credit profiles, indicating a rise in financial awareness?**

2024 के अंत तक भारत में कितनी मिलियन महिलाएँ सक्रिय रूप से अपनी क्रेडिट प्रोफ़ाइल पर नज़र रख रही थीं, जो वित्तीय जागरूकता में वृद्धि को दर्शाता है?

(A) 27 million / 27 मिलियन
(B) 33 million / 33 मिलियन
(C) 38 million / 38 मिलियन
(D) 28 million / 28 मिलियन

Q81. **Which central government initiative focuses on traditional artisans and craftspeople, providing them with skill training support, a daily stipend of ₹500, and assistance for toolkits?**

कौन-सी केंद्र सरकार की पहल पारंपरिक कारीगरों और शिल्पकारों पर केंद्रित है, जो उन्हें कौशल प्रशिक्षण सहायता, ₹500 का दैनिक वजीफ़ा तथा टूलकिट के लिए सहायता प्रदान करती है?

(A) PM Garib Kalyan Yojana / पीएम गरीब कल्याण योजना
(B) PM Vishwakarma Scheme / पीएम विश्वकर्मा योजना
(C) Deen Dayal Antyodaya Yojana / दीन दयाल अंत्योदय योजना
(D) Stand-Up India Scheme / स्टैंड-अप इंडिया योजना

Q82. **According to the Fiscal Health Index (FHI) 2025, which Indian state secured the top position for maintaining strong fiscal discipline and financial management?**

राजकोषीय स्वास्थ्य सूचकांक (FHI) 2025 के अनुसार, सुदृढ़ राजकोषीय अनुशासन तथा वित्तीय प्रबंधन बनाए रखने के लिए किस भारतीय राज्य ने शीर्ष स्थान प्राप्त किया?

(A) Kerala / केरल
(B) Goa / गोवा
(C) Tamil Nadu / तमिलनाडु
(D) Odisha / ओडिशा

Q83. **The Hesaraghatta grasslands, known for their rich biodiversity and open savanna landscape, are located near which Indian city?**

अपनी समृद्ध जैव विविधता तथा खुले सवाना परिदृश्य के लिए प्रसिद्ध हेसरघट्टा घास के मैदान किस भारतीय शहर के निकट स्थित हैं?

(A) Bengaluru / बेंगलुरु
(B) Pune / पुणे
(C) Chennai / चेन्नई
(D) Nagpur / नागपुर

Q84. **Mangroves are classified under which ecosystem in EnviStats India 2024?**

EnviStats India 2024 में मैंग्रोव को किस पारितंत्र के अंतर्गत वर्गीकृत किया गया है?

(A) Forest ecosystem / वन पारितंत्र
(B) Inland wetland ecosystem / अंतर्देशीय आर्द्रभूमि पारितंत्र
(C) Ocean ecosystem / महासागरीय पारितंत्र
(D) Grassland ecosystem / घास-स्थल पारितंत्र

Q85. **Which of the following Indian musical instruments is classified under Ghana Vadya ?**

निम्नलिखित में से कौन-सा भारतीय वाद्ययंत्र घन वाद्य के अंतर्गत वर्गीकृत किया जाता है ?

(A) Pakhawaj / पखावज
(B) Pava / पावा
(C) Jhanjh / झांझ
(D) Nagara / नगाड़ा

Q86. **In Buddhist architectural tradition, what was the primary purpose served by a Chaitya?**

बौद्ध स्थापत्य परंपरा में चैत्य का मुख्य प्रयोजन क्या था?

(A) Residential cells meant for monks / भिक्षुओं के लिए बनी आवासीय कोठरियाँ
(B) Storage spaces for food and supplies / भोजन एवं सामग्री के भंडारण के लिए स्थान
(C) Congregational halls for teaching and interaction / शिक्षण एवं पारस्परिक संवाद के लिए सामूहिक सभागार
(D) Ornamental entrance structures of viharas / विहारों के अलंकृत प्रवेश-द्वार

Q87. **The traditional folk dance 'Dekhni', often associated with which Indian state?**

पारंपरिक लोक नृत्य 'देखनी' प्रायः किस भारतीय राज्य से संबद्ध है?

(A) Maharashtra / महाराष्ट्र
(B) Goa / गोवा
(C) Odisha / ओडिशा
(D) Rajasthan / राजस्थान

Q88. **The MACE Telescope was formally inaugurated at which high-altitude Himalayan location in October 2024 ?**

अक्टूबर 2024 में MACE दूरबीन का औपचारिक उद्घाटन हिमालय के किस उच्च-तुंगता वाले स्थल पर किया गया ?

(A) Leh / लेह
(B) Hanle / हानले
(C) Dehradun / देहरादून
(D) Shimla / शिमला

Q89. **In 2024, astronomers reported a temporarily captured near-Earth object that behaved like a "mini-moon", orbiting Earth for roughly two months. What was this object designated as?**

2024 में खगोलविदों ने एक अस्थायी रूप से पकड़ी गई निकट-पृथ्वी वस्तु की सूचना दी, जिसने "मिनी-मून" की भाँति व्यवहार करते हुए लगभग दो माह तक पृथ्वी की परिक्रमा की। इस वस्तु को क्या पदनाम दिया गया था?

(A) 2023 FW13
(B) 2024 PT5
(C) 2022 NX1
(D) 2024 XR12

Q90. **The Government of India constituted a high-level committee to examine and recommend reforms in both direct and indirect taxation in 2002-2003. Who headed this committee?**

भारत सरकार ने 2002-2003 में प्रत्यक्ष तथा अप्रत्यक्ष, दोनों प्रकार के करों में सुधारों की जाँच करने एवं सिफ़ारिश देने के लिए एक उच्च-स्तरीय समिति गठित की थी। इस समिति के अध्यक्ष कौन थे?

(A) Montek Singh Ahluwalia / मोंटेक सिंह अहलूवालिया
(B) Nandan Nilekani / नंदन नीलेकणि
(C) Y. V. Reddy / वाई. वी. रेड्डी
(D) Vijay Kelkar / विजय केलकर

Q91. **Which expansionist policy was introduced during the tenure of Lord Dalhousie to annex princely states that lacked a natural heir?**

प्राकृतिक उत्तराधिकारी से रहित रियासतों को हड़पने के लिए लॉर्ड डलहौज़ी के कार्यकाल में कौन-सी विस्तारवादी नीति लागू की गई थी?

(A) Subsidiary Alliance / सहायक संधि
(B) Policy of Paramountcy / सर्वोच्चता की नीति
(C) Doctrine of Lapse / व्यपगत का सिद्धांत (डॉक्ट्रिन ऑफ़ लैप्स)
(D) Ring Fence Policy / रिंग फ़ेंस नीति

Q92. **National Stock Exchange of India commence its trading operations in which year ?**

नेशनल स्टॉक एक्सचेंज ऑफ़ इंडिया ने किस वर्ष अपना कारोबार (ट्रेडिंग) प्रारंभ किया था ?

(A) 1992
(B) 1994
(C) 1997
(D) 2000

Q93. Consider the following statements regarding the South-Western Plateau mineral belt of India :

1. This mineral belt extends over parts of Karnataka, Goa, and contiguous Tamil Nadu uplands and Kerala.
2. The region is rich in ferrous minerals and bauxite deposits.
3. It is known for the presence of high-grade iron ore.
4. The belt contains extensive coal reserves.
Which of the statements given above is/are correct ?

भारत की दक्षिण-पश्चिमी पठार खनिज पट्टी के संबंध में निम्नलिखित कथनों पर विचार कीजिए :

1. यह खनिज पट्टी कर्नाटक, गोवा तथा उससे लगे तमिलनाडु के उच्च प्रदेशों और केरल के भागों में विस्तृत है।
2. यह क्षेत्र लौह खनिजों तथा बॉक्साइट निक्षेपों से समृद्ध है।
3. यह उच्च कोटि के लौह अयस्क की उपस्थिति के लिए जाना जाता है।
4. इस पट्टी में कोयले के विस्तृत भंडार पाए जाते हैं।
उपर्युक्त कथनों में से कौन-सा/से सही है/हैं ?

(A) 1 and 2 only / केवल 1 और 2
(B) 4 only / केवल 4
(C) 1,2 and 3 only / केवल 1, 2 और 3
(D) 1, 3 and 4 / 1, 3 और 4

Q94. Consider the following statements regarding the disruption in India's third five year plan:

1. The plan period was adversely affected due to armed conflict with Pakistan.
2. Consecutive drought years led to severe agricultural shortfalls and economic stress.
Which of the statements given above is/are correct?

भारत की तृतीय पंचवर्षीय योजना में उत्पन्न व्यवधान के संबंध में निम्नलिखित कथनों पर विचार कीजिए:

1. पाकिस्तान के साथ हुए सशस्त्र संघर्ष के कारण योजना अवधि प्रतिकूल रूप से प्रभावित हुई।
2. लगातार पड़े सूखे के वर्षों के कारण कृषि उत्पादन में भारी कमी तथा आर्थिक दबाव उत्पन्न हुआ।
उपर्युक्त कथनों में से कौन-सा/से सही है/हैं?

(A) Statement 1 only / केवल कथन 1
(B) Statement 2 only / केवल कथन 2
(C) Both statements 1 and 2 / कथन 1 और 2 दोनों
(D) Neither statement 1 nor 2 / न तो कथन 1 और न ही कथन 2

Q95. What average annual economic growth rate was envisaged as the target during India's Twelfth Five Year Plan (2012-17) ?

भारत की बारहवीं पंचवर्षीय योजना (2012-17) के दौरान औसत वार्षिक आर्थिक वृद्धि दर का कौन-सा लक्ष्य निर्धारित किया गया था ?

(A) 6%
(B) 8%
(C) 10%
(D) 12%

Q96. **According to data shared by the Ministry of External Affairs (MEA) in September 2024, approximately how many million people of Indian origin, including NRIs and OCIs, were living abroad ?**

विदेश मंत्रालय (MEA) द्वारा सितंबर 2024 में साझा किए गए आँकड़ों के अनुसार, NRI तथा OCI सहित लगभग कितने मिलियन भारतीय मूल के लोग विदेशों में रह रहे थे ?

(A) 32 million / 32 मिलियन
(B) 40 million / 40 मिलियन
(C) 55 million / 55 मिलियन
(D) 65 million / 65 मिलियन

Q97. **At the time of its launch, Mission Parivar Vikas targeted how many high-focus states to improve family planning outcomes?**

अपने शुभारंभ के समय मिशन परिवार विकास ने परिवार नियोजन के परिणामों में सुधार हेतु कितने उच्च-केंद्रित (high-focus) राज्यों को लक्षित किया था?

(A) Five / पाँच
(B) Seven / सात
(C) Eight / आठ
(D) Ten / दस

Q98. **In the human body, haemoglobin, the oxygen-carrying respiratory pigment, is primarily present in which type of cell?**

मानव शरीर में ऑक्सीजन-वाहक श्वसन वर्णक हीमोग्लोबिन मुख्यतः किस प्रकार की कोशिका में उपस्थित होता है?

(A) Neurons / न्यूरॉन
(B) Lymphocytes / लिम्फोसाइट
(C) Thrombocytes / थ्रोम्बोसाइट
(D) Erythrocytes / इरिथ्रोसाइट

Q99. **When a plant experiences a touch stimulus, how is the signal transmitted from one part of the plant to another?**

जब किसी पादप को स्पर्श का उद्दीपन प्राप्त होता है, तो संकेत पादप के एक भाग से दूसरे भाग तक किस प्रकार संचरित होता है?

(A) By emitting acoustic vibrations / ध्वनिक कंपन उत्सर्जित करके
(B) Via nerve fibres similar to animals / जंतुओं की भाँति तंत्रिका तंतुओं द्वारा
(C) By rapid pigment change in leaves / पत्तियों में वर्णक के तीव्र परिवर्तन द्वारा
(D) Through electro-chemical signals / विद्युत्-रासायनिक संकेतों के माध्यम से

Q100. **The ancient seat of learning known as Taxila served as the political centre of which Mahajanapada in early Indian history?**

तक्षशिला नामक प्राचीन विद्या-केंद्र प्रारंभिक भारतीय इतिहास में किस महाजनपद का राजनीतिक केंद्र था?

(A) Gandhara / गांधार
(B) Magadha / मगध
(C) Vajji / वज्जि
(D) Kashi / काशी

Answer Key – SSC CHSL Tier-1 29 November 2025, Shift 1

1	A	2	D	3	D	4	C	5	A
6	C	7	A	8	A	9	B	10	D
11	C	12	D	13	A	14	B	15	C
16	C	17	B	18	B	19	C	20	B
21	B	22	C	23	B	24	C	25	A
26	A	27	A	28	A	29	A	30	B
31	D	32	C	33	C	34	A	35	C
36	B	37	A	38	C	39	A	40	B
41	B	43	D	44	A	45	B	46	D
47	D	48	B	49	C	50	D	51	B
52	B	53	C	54	C	55	C	56	D
57	A	58	B	59	A	60	C	61	A
62	B	63	A	64	A	65	B	66	C
67	C	68	B	69	A	70	C	71	D
72	C	73	C	74	C	75	C	76	B
77	C	78	B	79	B	80	A	81	B
82	D	83	A	84	C	85	C	86	C
87	B	88	B	89	B	90	D	91	C
92	B	93	C	94	C	95	B	96	A
97	B	98	D	99	D	100	A		

Why is an answer correct?
Scan for detailed solutions of all 99 questions in Hindi & English – free with login.

Keep practising with airGurukul

All SSC CHSL Tier-1 previous year papers – free PDFs, online tests and solved eBooks at **airgurukul.com/library/pyp/ssc-chsl-tier-1**.

Attempt this paper online – free
Full test and section-wise tests with timer, score and rank at airgurukul.com/test-series

Join airGurukul

Telegram Channel
t.me/airgurukulofficial

WhatsApp Channel
whatsapp.com/channel/0029VbBP7n00VycAFq6AGJ0l

YouTube Channel
youtube.com/@airGurukulSSCExams

Android App
play.google.com/...?id=in.airgurukul

airGurukul

airGurukul Institute for Career Growth · Prince Edutech Private Limited
Call +91-7042559948 · info@airgurukul.com · www.airgurukul.com