airGurukul

Preparing Bharat, Empowering Futures

SSC CHSL Tier-1 2025 Question Paper

29 November 2025, Shift 3 · with Answer Key

100 questions | 200 marks | 60 minutes | +2 / −0.5 | Hindi + English

Attempt this paper online – free

Real exam timer, instant score, all-India rank and detailed solutions in Hindi & English.

Scan · airgurukul.com/test-series

Call +91-7042559948 · www.airgurukul.com

Telegram Channel
t.me/airgurukulofficial

WhatsApp Channel
whatsapp.com/channel/0029VbBP7n00VycAFq6AGJ0l

YouTube Channel
youtube.com/@airGurukulSSCExams

Android App
play.google.com/...?id=in.airgurukul

Instructions

1. Total 100 questions (English Language 25, General Intelligence 25, Quantitative Aptitude 25, General Awareness 25).
2. Each correct answer carries 2 marks; 0.5 mark is deducted for each wrong answer.
3. Answer key is given at the end. Detailed solutions: scan the QR code on the last page.

Section 1: English Language (Q1–25)

Q1. **Choose the correct option to fill in the blank in the sentence given: When completing registration forms, it is**

___ to provide your full address and contact number.

(A) mandatory
(B) unnecessary
(C) customary
(D) choice

Q2. **Select the alternative which best expresses the meaning of the highlighted idiom/phrase:**

I was completely at sixes and sevens about which university to attend until I received the scholarship offer.

(A) nervous
(B) feeling sad and low
(C) in a state of confusion
(D) extremely delighted

Q3. **Choose the option that has an error in the sentence.**

On the bright side, if the condition are improving, the local communities will prosper.

(A) On the brighter side,
(B) if the condition are improving,
(C) the local communities will prosper.
(D) No correction required

Q4. **Examine the given sentence and pick out the error.**

In order to overcome emotional anxiety and pressure (1) adopting relaxation techniques, exercise or (2) other similar practices (3) can be helped (4)

(A) adopting relaxation techniques, exercise or
(B) can be helped
(C) in order to overcome emotional anxiety and pressure
(D) other similar practices

Q5. Fill in the blank with the most appropriate preposition:

The application was cancelled_grounds of incomplete documents.

(A) at
(B) on
(C) in
(D) over

Q6. Pick the one that is different from the others.

(A) Wright
(B) Right
(C) Nite
(D) rite

Q7. Select the incorrectly spelt word

(A) Simile
(B) Family
(C) Facsimily
(D) Mile

Q8. Choose the best option to replace the underlined part to improve the given sentence. If no substitution is required, select 'No substitution.'

The two friends agreed to distribute the chocolates among themselves.

(A) around themselves
(B) between themselves
(C) to themselves
(D) No substitution

Q9. Choose the best option to replace the underlined part to improve the given sentence. If no substitution is required, select 'No substitution.'

She believed he was cut out on a career in teaching because of his excellent communication skills.

(A) cut down on
(B) cut out to
(C) cut out for
(D) No substitution

Q10. From the alternatives given below, select the correct passive voice of the following sentence.

The violent storm blew down the lamp of the garden within minutes.

(A) The lamp of the garden was blown within minutes by the violent storm.
(B) The lamp of the garden was blown down within minutes by the violent storm.
(C) The lamp of the garden had blown down within minutes by the violent storm.
(D) The lamp of the garden had been blown down within minutes by the violent storm.

Q11. **Choose the option that is the most appropriate conversion of the following sentence into Active Voice.**

The secret had never been revealed by anyone before the journalist arrived.

(A) No one never revealed the secret before the journalist arrived.
(B) No one had revealed the secret before the journalist arrived.
(C) No one reveals the secret before the journalist arrived.
(D) No one has revealed the secret before the journalist arrived.

Q12. **Choose the correct indirect narration of the following statement from the given alternatives:**

Rohit said, "He has to come to Mumbai to me within the next few hours to seek help to resolve the issue he described."

(A) Rohit said that he had to come to Mumbai to him within the following few hours to seek help to resolve the issue he had described.
(B) Rohit said that he had to go to Mumbai to him within the next few hours to bring help to resolve the issue he had described.
(C) Rohit said that he has to go to Mumbai to him within the next few hours to seek help to resolve the issue he described.
(D) Rohit said that he had to go to Mumbai to him within the following few hours to seek help to resolve the issue he had described.

Q13. **Choose the option that is the most appropriate conversion of the following sentence into Direct Speech.**

She exclaimed with regret that she had misplaced her phone at the office.

(A) She exclaimed, *Hey! I had misplaced my phone at the office."
(B) She said, "Oh no! I have misplaced my phone at the office."
(C) She exclaimed, 'Ah! I have misplace my phone at the office."
(D) She said, "I regret I have misplaced my phone at the office."

Q14. **The following sentence has two blanks. Choose the most suitable set of prepositions from the given options to fill in the blanks and complete the sentence meaningfully:**

The manager distanced herself ___ the error and put the blame ___ her assistant.

(A) off, to
(B) from, onto
(C) with, over
(D) by, upon

Q15. **Choose the option that is the most appropriate conversion of the following sentence into Direct Speech.**

He told the guard that he had been studying when the burglars had entered.

(A) He said to the guard, "I had studied when the burglars had entered."
(B) He said to the guard, '1 had been studying when the burglars had entered."
(C) He told the guard, "I had been studying when the burglars entered.'
(D) He told the guard, "I had been studying when the burglars were entering."

Q16. **Change the following sentence into the Active form.**

The innovative medical procedure should not have been dismissed as mere experimentation by the health authorities.

(A) The health authorities should not have been dismissing the innovative medical procedure as mere experimentation.
(B) The health authorities should not have dismissed the innovative medical procedure as mere experimentation.
(C) The innovative medical procedure should not be dismissed as mere experimentation by the health authorities.
(D) The health authorities should not be dismissing the innovative medical procedure as mere experimentation.

Q17. **Select the incorrect spelling.**

(A) Commend
(B) Occassion
(C) Deadline
(D) Intimidate

Q18. **Choose the correct passive voice transformation of the sentence:**

We had not completed the assignment before the due date.

(A) The assignment was not completed by us before the due date.
(B) The assignment has not been completed by us before the due date.
(C) The assignment had not been completed by us before the due date.
(D) The assignment was not being completed by us before the due date.

Directions (Qs. 19-23): Read the following passage carefully and answer the questions that follow.

For a significant period, pursuing an MBA was once regarded as the definitive gateway to the upper echelons of the corporate world. Ambitious professionals across various sectors sought management degrees, convinced that such credentials would automatically unlock high-level leadership positions and lucrative salary packages. However, the contemporary corporate landscape has witnessed a shift as recruiters move away from valuing mere degrees toward valuing specific competencies.

The primary challenge facing traditional management education is the oversaturation of the talent pool. With an explosion of management institutes, the sheer volume of graduates has far outpaced the actual demand for mid-level managers. Consequently, many degree holders find themselves competing for entry-level roles that do not align with their academic investment. Furthermore, the rise of automation and digital transformation has rendered many legacy management techniques obsolete, creating a gap between academic theory and corporate reality. To remain competitive, professionals are now turning toward continuous upskilling in niche areas such as Digital Transformation, Strategic Analytics, and Crisis Management. Companies now prioritise graduates who demonstrate agility and a commitment to lifelong learning over those who rely solely on a static qualification. Ultimately, the future of corporate success lies in the ability to adapt to a rapidly changing environment through constant self-improvement and practical application.

Q19. **In the sentence: "For a significant period, pursuing an MBA was once regarded as the definitive gateway..." what is the tense of the verb "was regarded"?**

(A) Present continuous
(B) Past simple
(C) Past perfect
(D) Future simple

Q20. **In the sentence: "Companies now prioritise graduates who demonstrate agility and a commitment to lifelong learning over those who rely solely on a static qualification."**

Why is the verb "prioritise" used and not "prioritises"?

(A) Because "graduates" is a plural noun
(B) Because "Companies" is the plural subject
(C) Because "agility" is an abstract noun
(D) Because the sentence is in the passive voice

Q21. **Which words from the passage means "too many professionals in the market"?**

(A) strategic
(B) corporate
(C) oversaturation
(D) traditional

Q22. **Which word from the passage means "learning new and enhanced skills to fulfil rising demands" ?**

(A) significant
(B) upskilling
(C) adapt
(D) witnessed

Q23. **As per the passage, what is the primary reason for limited opportunities in the management sector ?**

(A) Declining student interest
(B) Lack of corporate growth
(C) Too many graduates and outdated skills
(D) Excessive salary expectations

Q24. **What is the antonym of 'Peaceful'?**

(A) Fraud
(B) Turbulent
(C) Modest
(D) Calm

Q25. **What is the antonym of "Biased"?**

(A) Partial
(B) Egalitarian
(C) Favour
(D) Discrimination

Section 2: General Intelligence (Q26–50)

Q26. **Find the next element that replace the ?**

Logically
10,7,1,-11,?
उस अगले पद को ज्ञात कीजिए जो प्रश्नवाचक चिह्न (?) का स्थान लेगा।

तार्किक रूप से
10,7,1,-11,?

(A) -35
(B) -32
(C) -36
(D) -38

Q27. **In a row of boys, X is 12th from the left and Y is 8th from the right. If X is 6th to the left of Y, how many boys are there in the row ?**
लड़कों की एक पंक्ति में, X बाएँ से 12वें स्थान पर है और Y दाएँ से 8वें स्थान पर है। यदि X, Y के बाईं ओर 6वें स्थान पर है, तो पंक्ति में कुल कितने लड़के हैं?

(A) 25
(B) 26
(C) 27
(D) 28

Q28. **Street lights are placed in a straight line. The 7th light from one end is not working. If there are 18 lights in total, what is its position from the other end?**
सड़क की बत्तियाँ एक सीधी रेखा में लगाई गई हैं। एक सिरे से 7वीं बत्ती काम नहीं कर रही है। यदि कुल 18 बत्तियाँ हैं, तो दूसरे सिरे से उसका स्थान क्या है?

(A) 10th / 10वाँ
(B) 11th / 11वाँ
(C) 12th / 12वाँ
(D) 13th / 13वाँ

Q29. **If 72 # $7 = 13$ and 20 # $45 = -5$, then what is the value of 85 # 20 ?**

यदि 72 # \$7=13\$ और 20 # \$45=-5\$ है, तो 85 # 20 का मान क्या है?

(A) 13
(B) 15
(C) 16.5
(D) 17

Q30. **If $18 \% 5 = 360$ and $24 \% 10 = 960$, then what is the value of $20 \% 6$?**

यदि $18 \% 5 = 360$ और $24 \% 10 = 960$ है, तो $20 \% 6$ का मान क्या है?

(A) 360
(B) 420
(C) 480
(D) 500

Q31. **Find the next element that replace the ? Logically**

2, 14, 62, 254, ?

उस अगले पद को ज्ञात कीजिए जो तार्किक रूप से प्रश्नवाचक चिह्न (?) का स्थान लेगा।

2, 14, 62, 254, ?

(A) 1014
(B) 1006
(C) 1022
(D) 998

Q32. **A piece of paper is folded and punched as shown below in the question figures. From the given option figures, indicate how it will appear when opened.**



एक कागज़ के टुकड़े को नीचे प्रश्न-आकृतियों में दर्शाए अनुसार मोड़ा और पंच किया गया है। दी गई विकल्प-आकृतियों में से बताइए कि खोलने पर वह कैसा दिखाई देगा।

(A)
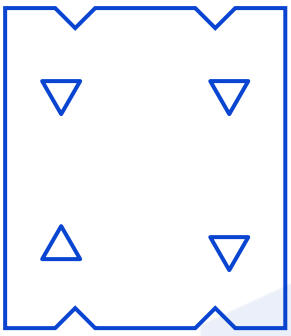

(B)
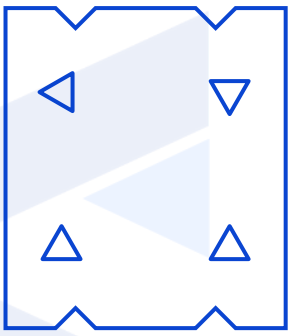

(C)
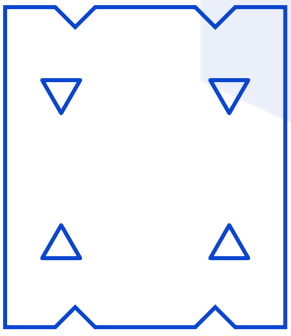

(D)
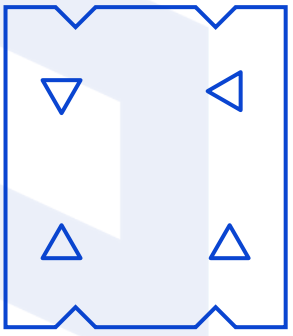

Q33. **A piece of paper is folded and punched as shown below in the question figures. From the given option figures, indicate how it will appear when opened.**

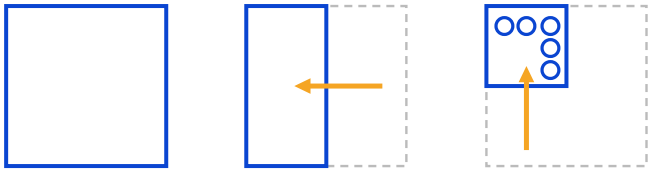

एक कागज़ के टुकड़े को नीचे प्रश्न-आकृतियों में दर्शाए अनुसार मोड़ा और पंच किया गया है। दी गई विकल्प-आकृतियों में से बताइए कि खोलने पर वह कैसा दिखाई देगा।

(A)


(B)
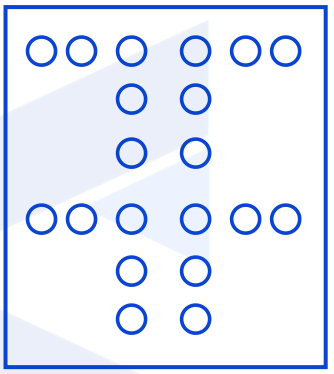

(C)
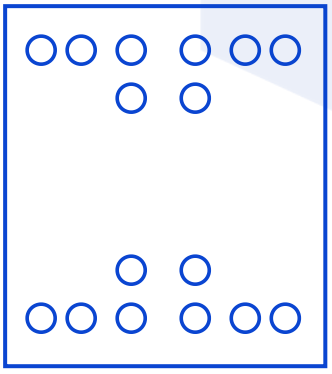

(D)
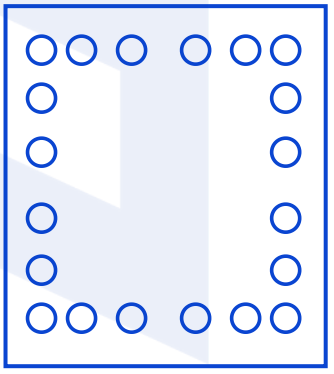

Q34. **Identify the next number.**

5, 11, 19, 29, 41, ?

अगली संख्या पहचानिए।

5, 11, 19, 29, 41, ?

(A) 55
(B) 53
(C) 51
(D) 49

Q35. **In the following question, select the number which can be placed at the sign of question mark (?) from the given alternatives.**

निम्नलिखित प्रश्न में, दिए गए विकल्पों में से वह संख्या चुनिए जिसे प्रश्नवाचक चिह्न (?) के स्थान पर रखा जा सकता है।

(A) 6
(B) 5
(C) 4
(D) 2

Q36. **Find the number of triangles in the given figure.**

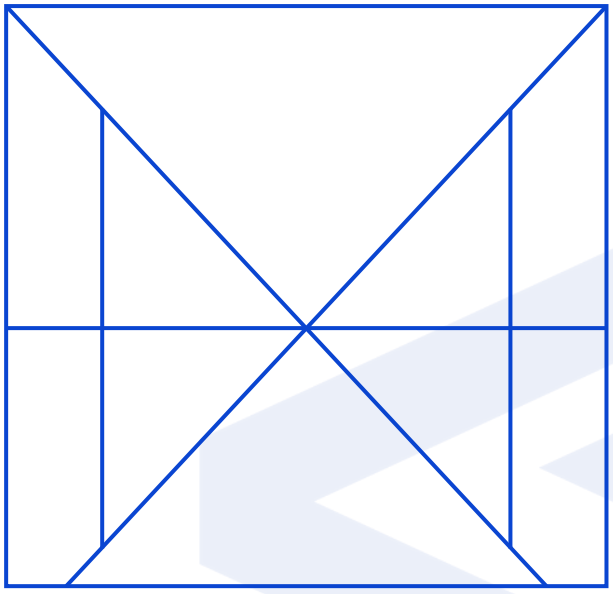

दी गई आकृति में त्रिभुजों की संख्या ज्ञात कीजिए।

(A) 14
(B) 10
(C) 8
(D) 12

Q37. **In the figure given below the square represents the car, the triangle represents the bus and the circle represents the train. The number in each area represents the number of items in that area.**

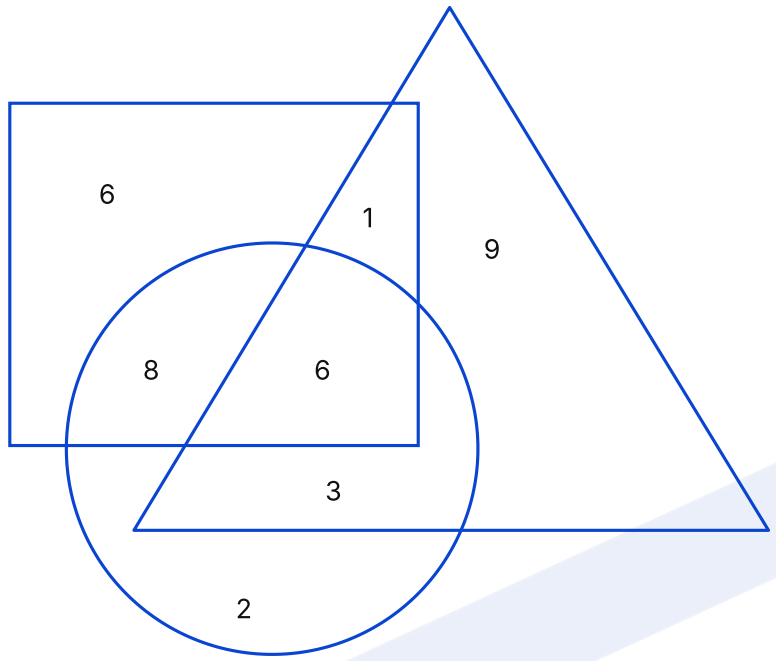

square = car, triangle = bus, circle = train

Which of the following statement is NOT correct?
I. Number of Car which are bus are 7 .
II. Total number of train are 21.

नीचे दी गई आकृति में वर्ग कार को, त्रिभुज बस को तथा वृत्त ट्रेन को दर्शाता है। प्रत्येक क्षेत्र में लिखी संख्या उस क्षेत्र की वस्तुओं की संख्या दर्शाती है।

निम्नलिखित में से कौन-सा कथन सही नहीं है?
I. ऐसी कारों की संख्या जो बसें भी हैं, 7 है।
II. ट्रेनों की कुल संख्या 21 है।

(A) Only II / केवल II
(B) Only I / केवल I
(C) Both I and II / I और II दोनों
(D) Neither I nor II / न तो I और न ही II

Q38. **Sales of 5 bikes P, Q, R, S and T are compared. Sales of no two bikes are equal. Sales of Q is less than only P. Sales of S is less than R but more than T. If sales of R is 450, then what is the possible value of sales of P?**

5 बाइकों P,Q,R,S और T की बिक्री की तुलना की जाती है। किन्हीं दो बाइकों की बिक्री समान नहीं है। Q की बिक्री केवल P से कम है। S की बिक्री R से कम है परंतु T से अधिक है। यदि R की बिक्री 450 है, तो P की बिक्री का संभावित मान क्या है?

(A) 460
(B) 440
(C) 430
(D) 445

Q39. **There are 6 flats on a floor in two rows (three in each row opposite to each other). Flats of one row are facing north. Flats of other row are facing south. These flats are alloted to P, Q, R, S, T and U. S and U get diagonally opposite flats. U's flat is next to R's flat. R gets a South facing flat. The direction in which the flats of Q and T are facing is same. Q's flat is not next to S. Which of the following pair represents people having flats opposite to each other ?**

एक मंजिल पर दो पंक्तियों में 6 फ्लैट हैं (प्रत्येक पंक्ति में तीन, एक-दूसरे के सामने)। एक पंक्ति के फ्लैट उत्तर की ओर उन्मुख हैं। दूसरी पंक्ति के फ्लैट दक्षिण की ओर उन्मुख हैं। ये फ्लैट P, Q, R, S, T और U को आवंटित किए गए हैं। S और U को विकर्णतः विपरीत फ्लैट मिलते हैं। U का फ्लैट R के फ्लैट के बगल में है। R को दक्षिणमुखी फ्लैट मिलता है। Q और T के फ्लैट जिस दिशा की ओर उन्मुख हैं, वह समान है। Q का फ्लैट S के बगल में नहीं है। निम्नलिखित में से कौन-सा युग्म उन व्यक्तियों को दर्शाता है जिनके फ्लैट एक-दूसरे के सामने हैं?

(A) UR
(B) UT
(C) QP
(D) TR

airGurukul

Q40. **Select the option which has the same relation with the figure C as the relation of figure B with the figure A.**

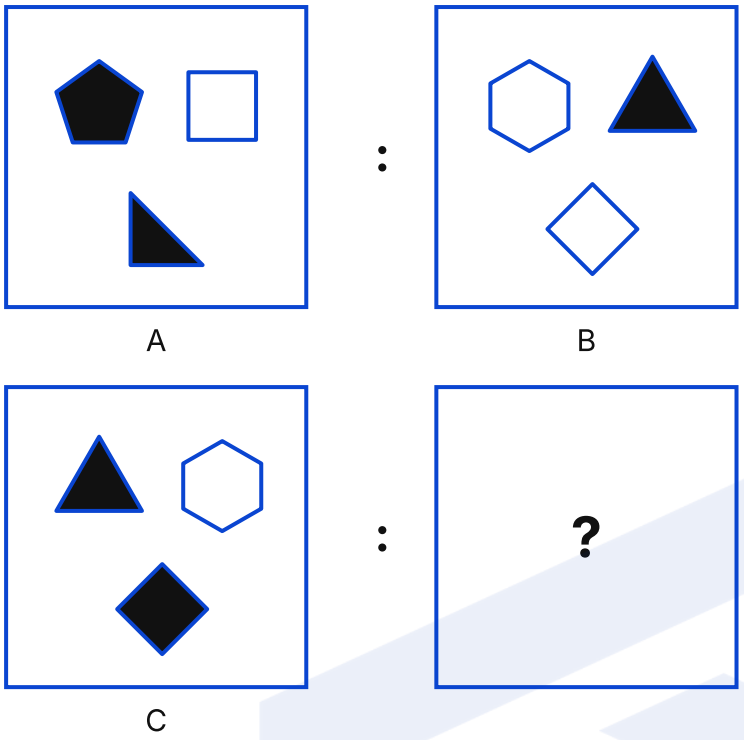

उस विकल्प का चयन कीजिए जिसका आकृति C से वही संबंध है जो आकृति B का आकृति A से है।

(A)

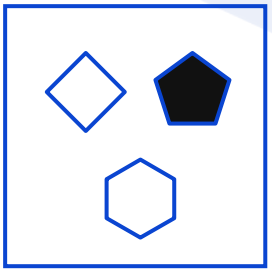

(B)

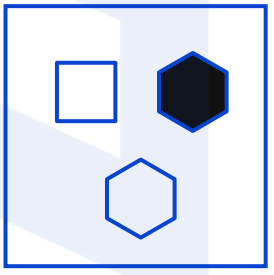

(C)

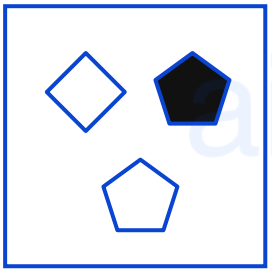

(D)

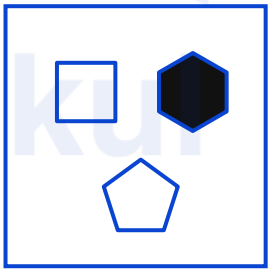

Q41. **Select the option figure that is related to the third figure in the same way as the second figure is related to the first figure.**

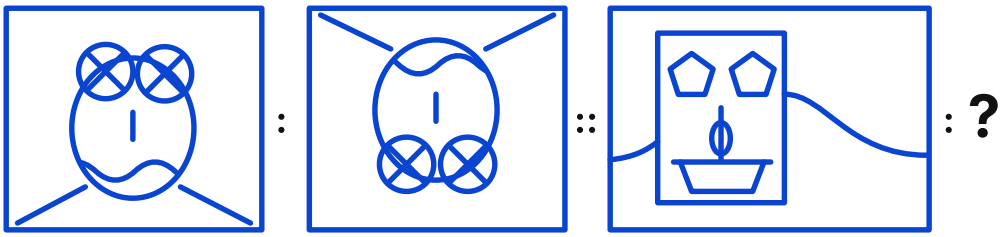

उस विकल्प आकृति का चयन कीजिए जो तीसरी आकृति से उसी प्रकार संबंधित है, जिस प्रकार दूसरी आकृति पहली आकृति से संबंधित है।

(A)

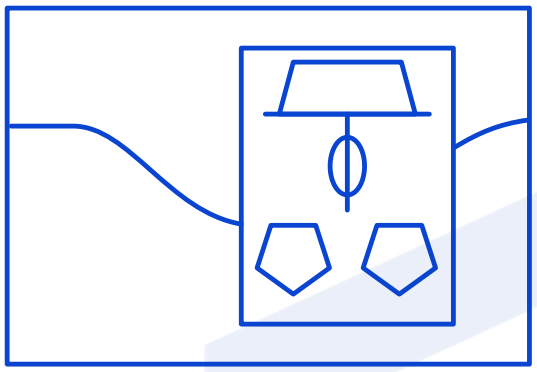

(B)

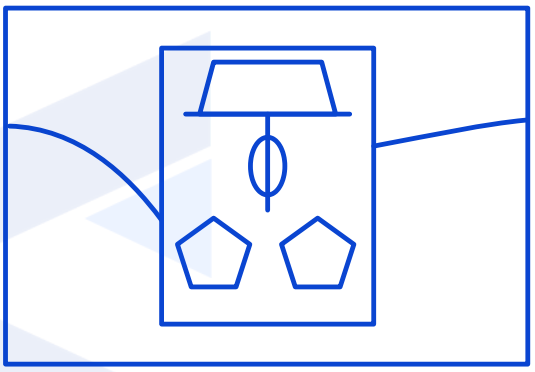

(C)

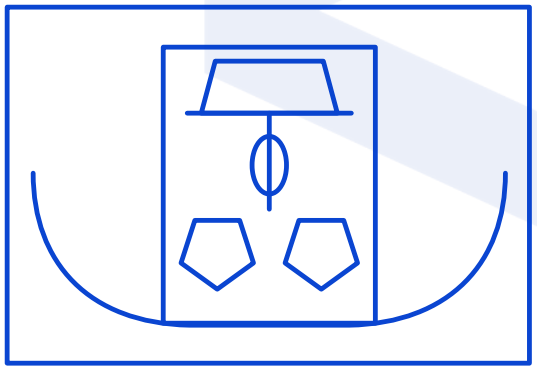

(D)

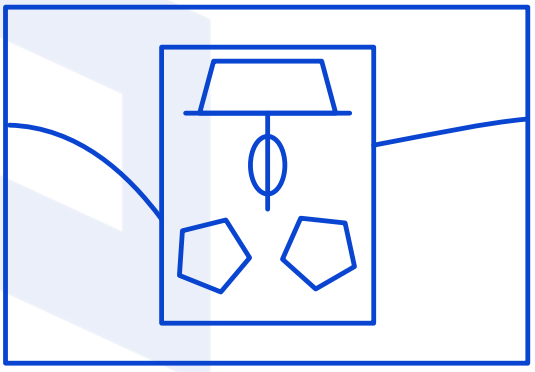

Q42. **In the following figure series, select the figure which can be placed at the sign of question mark (?) from the given alternatives.**

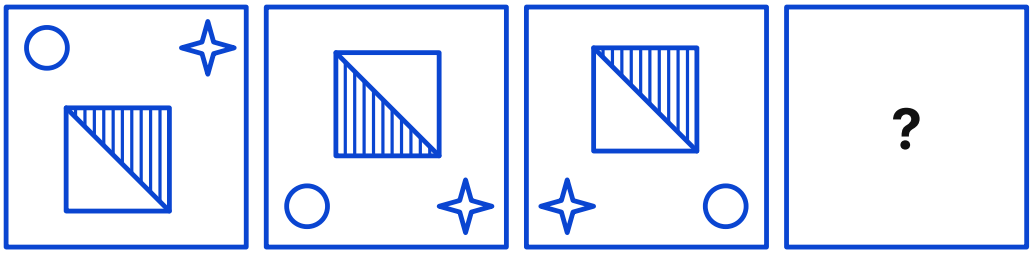

निम्नलिखित आकृति श्रृंखला में, दिए गए विकल्पों में से उस आकृति का चयन कीजिए जिसे प्रश्नवाचक चिह्न (?) के स्थान पर रखा जा सकता है।

A 

B 

C 

D 

Q43. **After interchanging the given two numbers (not digits), what will be the value of the given equation ?**

6 and 8

$6 \times 4 + 8 - 10 \div 5 =$ **?**

दी गई दो संख्याओं (अंकों को नहीं) को आपस में बदलने पर, दिए गए समीकरण का मान क्या होगा?

6 और 8

$6 \times 4 + 8 - 10 \div 5 =$?

A 36

B 38

C 40

D 42

Q44. **Select the correct combination of mathematical signs to replace (*) signs sequentially and to balance the given equation.**

50 * 5 * 6 * 15 * $20 = 65$

गणितीय चिह्नों के उस सही संयोजन का चयन कीजिए, जिससे (*) चिह्नों को क्रमानुसार प्रतिस्थापित करने पर दिया गया समीकरण संतुलित हो जाए।

50 * 5 * 6 * 15 * $20 = 65$

(A) $\div, +, -, \times$

(B) $\div, -, +, \times$

(C) $x_1, _2, +$

(D) $\div, x, -, +$

Q45. **In the following question, four letter-number pairs are given. The letter-number on the left side of (-) is related to the letter-number on the right side of (-) with some Logic/Rule/Relation. Three pairs are similar on the basis of same Logic/Rule/Relation. Select the odd one out from the given alternatives.**

(NOTE: Operations should be performed on the whole numbers, without breaking down the number into its constituent digits. E.g. 13 - Operations on 13 such as adding /subtracting /multiplying etc. to 13 can be performed. Breaking down 13 into 1 and 3 and then performing mathematical operations on 1 and 3 is not allowed)

निम्नलिखित प्रश्न में, चार अक्षर-संख्या युग्म दिए गए हैं। (-) के बाईं ओर की अक्षर-संख्या, (-) के दाईं ओर की अक्षर-संख्या से किसी तर्क/नियम/संबंध द्वारा संबंधित है। तीन युग्म एक ही तर्क/नियम/संबंध के आधार पर समान हैं। दिए गए विकल्पों में से असंगत युग्म का चयन कीजिए।

(नोट: संक्रियाएँ पूर्ण संख्याओं पर की जानी चाहिए, संख्या को उसके अंकों में विभाजित किए बिना। उदाहरण: 13 - 13 पर संक्रियाएँ जैसे 13 में जोड़ना/घटाना/गुणा करना आदि की जा सकती हैं। 13 को 1 और 3 में विभाजित करके 1 और 3 पर गणितीय संक्रियाएँ करने की अनुमति नहीं है।)

(A) D150P - E300R

(B) M210H - N420J

(C) B175E - C350G

(D) K198S - L390U

Q46. **In the following question, four letter-number pairs are given. The letter-number on the left side of (-) is related to the letter-number on the right side of (-) with some Logic/Rule/Relation. Three pairs are similar on the basis of same Logic/Rule/Relation. Select the odd one out from the given alternatives. (NOTE: Operations should be performed on the whole numbers, without breaking down the number into its constituent digits. E.g. 13 - Operations on 13 such as adding /subtracting /multiplying etc. to 13 can be performed. Breaking down 13 into 1 and 3 and then performing mathematical operations on 1 and 3 is not allowed)**

निम्नलिखित प्रश्न में, चार अक्षर-संख्या युग्म दिए गए हैं। (-) के बाईं ओर की अक्षर-संख्या, (-) के दाईं ओर की अक्षर-संख्या से किसी तर्क/नियम/संबंध द्वारा संबंधित है। तीन युग्म एक ही तर्क/नियम/संबंध के आधार पर समान हैं। दिए गए विकल्पों में से असंगत युग्म का चयन कीजिए। (नोट: संक्रियाएँ पूर्ण संख्याओं पर की जानी चाहिए, संख्या को उसके अंकों में विभाजित किए बिना। उदाहरण: 13 - 13 पर संक्रियाएँ जैसे 13 में जोड़ना/घटाना/गुणा करना आदि की जा सकती हैं। 13 को 1 और 3 में विभाजित करके 1 और 3 पर गणितीय संक्रियाएँ करने की अनुमति नहीं है।)

(A) BD315 - WY525
(B) HK329 - CE539
(C) GT541 - BO751
(D) QC487 - LX697

Q47. **In the following each alternative a group of numbers is given. The numbers of each group are related to the numbers of the same group by some Logic/Rule/Relation. Select that group of numbers in which numbers are not related by that same Logic/Rule/Relation.**

(NOTE: Operations should be performed on the whole numbers, without breaking down the number into its constituent digits. E.g. 13 - Operations on 13 such as adding /subtracting /multiplying etc. to 13 can be performed. Breaking down 13 into 1 and 3 and then performing mathematical operations on 1 and 3 is not allowed)

प्रत्येक विकल्प में संख्याओं का एक समूह दिया गया है। प्रत्येक समूह की संख्याएँ उसी समूह की संख्याओं से किसी तर्क/नियम/संबंध द्वारा संबंधित हैं। उस संख्या-समूह का चयन कीजिए जिसमें संख्याएँ उसी तर्क/नियम/संबंध द्वारा संबंधित नहीं हैं।

(नोट: संक्रियाएँ पूर्ण संख्याओं पर की जानी चाहिए, संख्या को उसके अंकों में विभाजित किए बिना। उदाहरण: 13 - 13 पर संक्रियाएँ जैसे 13 में जोड़ना/घटाना/गुणा करना आदि की जा सकती हैं। 13 को 1 और 3 में विभाजित करके 1 और 3 पर गणितीय संक्रियाएँ करने की अनुमति नहीं है।)

(A) (1231, 1197, 1163)
(B) (1050, 1016, 982)
(C) $(1382, 1348, 1314)$
(D) $(1446, 1406, 1372)$

Q48. **In the following question, in each alternative a group of numbers is given. The numbers of each group are related to the numbers of the same group by some Logic/Rule/Relation. Select that group of numbers in which numbers are not related by that same Logic/Rule/Relation.**

(NOTE: Operations should be performed on the whole numbers, without breaking down the number into its constituent digits. E.g. 13 - Operations on 13 such as adding /subtracting /multiplying etc. to 13 can be performed. Breaking down 13 into 1 and 3 and then performing mathematical operations on 1 and 3 is not allowed)

प्रत्येक विकल्प में संख्याओं का एक समूह दिया गया है। प्रत्येक समूह की संख्याएँ उसी समूह की संख्याओं से किसी तर्क/नियम/संबंध द्वारा संबंधित हैं। उस संख्या-समूह का चयन कीजिए जिसमें संख्याएँ उसी तर्क/नियम/संबंध द्वारा संबंधित नहीं हैं।

(नोट: संक्रियाएँ पूर्ण संख्याओं पर की जानी चाहिए, संख्या को उसके अंकों में विभाजित किए बिना। उदाहरण: 13 - 13 पर संक्रियाएँ जैसे 13 में जोड़ना/घटाना/गुणा करना आदि की जा सकती हैं। 13 को 1 और 3 में विभाजित करके 1 और 3 पर गणितीय संक्रियाएँ करने की अनुमति नहीं है।)

A (152, 408, 16)
B (175, 500, 18)
C (120, 520, 20)
D (168, 492, 18)

Q49. **Select the option that is related to the fifth letter-number cluster in the same way as the second letter-number cluster is related to the first letter-number cluster and fourth letter-number cluster is related to third letter-number cluster.**

(NOTE: Operations should be performed on the whole numbers, without breaking down the numbers into its constituent digits. E.g. 13 - Operations on 13 such as adding /subtracting /multiplying etc. to 13 can be performed. Breaking down 13 into 1 and 3 and then performing mathematical operations on 1 and 3 is not allowed)

JD150 : LG345 :: FM130 : HP325 :: CX70 :?

उस विकल्प का चयन कीजिए जो पाँचवें अक्षर-संख्या समूह से उसी प्रकार संबंधित है, जिस प्रकार दूसरा अक्षर-संख्या समूह पहले अक्षर-संख्या समूह से तथा चौथा अक्षर-संख्या समूह तीसरे अक्षर-संख्या समूह से संबंधित है।

(नोट: संक्रियाएँ पूर्ण संख्याओं पर की जानी चाहिए, संख्या को उसके अंकों में विभाजित किए बिना। उदाहरण: 13 - 13 पर संक्रियाएँ जैसे 13 में जोड़ना/घटाना/गुणा करना आदि की जा सकती हैं। 13 को 1 और 3 में विभाजित करके 1 और 3 पर गणितीय संक्रियाएँ करने की अनुमति नहीं है।)

JD150 : LG345 :: FM130 : HP325 :: CX70 :?

A EA265
B FA265
C EA245
D FA245

Q50. **Select the option that is related to the fifth letter-number cluster in the same way as the second letter-number cluster is related to the first letter-number cluster and fourth letter-number cluster is related to third letter-number cluster.**

(NOTE: Operations should be performed on the whole numbers, without breaking down the numbers into its constituent digits. E.g. 13 - Operations on 13 such as adding /subtracting /multiplying etc. to 13 can be performed. Breaking down 13 into 1 and 3 and then performing mathematical operations on 1 and 3 is not allowed)

BM25 : DP126 :: D030 : FR151 :: TJ35 : ?

उस विकल्प का चयन कीजिए जो पाँचवें अक्षर-संख्या समूह से उसी प्रकार संबंधित है, जिस प्रकार दूसरा अक्षर-संख्या समूह पहले अक्षर-संख्या समूह से तथा चौथा अक्षर-संख्या समूह तीसरे अक्षर-संख्या समूह से संबंधित है।

(नोट: संक्रियाएँ पूर्ण संख्याओं पर की जानी चाहिए, संख्या को उसके अंकों में विभाजित किए बिना। उदाहरण: 13 - 13 पर संक्रियाएँ जैसे 13 में जोड़ना/घटाना/गुणा करना आदि की जा सकती हैं। 13 को 1 और 3 में विभाजित करके 1 और 3 पर गणितीय संक्रियाएँ करने की अनुमति नहीं है।)

BM25 : DP126 :: D030 : FR151 :: TJ35 : ?

(A) FU169
(B) VM176
(C) NV169
(D) RV171

Want to clear SSC CHSL Tier-1?

Prepare with **Samyān (सम्यान) 1.0 – SSC Foundation Course** – structured classes, practice and doubt support for SSC CHSL Tier-1.

Every PYP as an online test
Shift-wise papers with timer, score and rank.

Detailed solutions
Step-by-step answers in Hindi and English.

Free live classes
Daily classes on our YouTube channel airGurukul SSC Exams.

Exam updates
Notifications, admit cards and results on WhatsApp.

See the course

Attempt this paper online

Detailed solutions

Free classes & exam updates

Telegram Channel
t.me/airgurukulofficial

WhatsApp Channel
whatsapp.com/channel/0029VbBP7n00VycAFq6AGJ0I

YouTube Channel
youtube.com/@airGurukulSSCExams

Android App
play.google.com/...?id=in.airgurukul

Call / WhatsApp **+91-7042559948** · www.airgurukul.com

Section 3: Quantitative Aptitude (Q51–75)

Q51. **In an electronic circuit, the signal strength is given by $\left((a+b)^2 + (a-b)^2 \right)^2$. Find the simplified expression.**

एक इलेक्ट्रॉनिक परिपथ में सिग्नल की तीव्रता $\left((a+b)^2 + (a-b)^2 \right)^2$ द्वारा दी जाती है। सरलीकृत व्यंजक ज्ञात कीजिए।

(A) $4a^2 + 4b^2$
(B) $16a^2 + 16b^2$
(C) $4a^4 + 8a^2b^2 + 4b^4$
(D) $8a^2 + 8b^2$

Q52. **A shopkeeper makes a 25% profit on an article whose cost price is ₹320. What is the selling price of the article?**

एक दुकानदार एक वस्तु पर 25% लाभ कमाता है, जिसका क्रय मूल्य ₹320 है। उस वस्तु का विक्रय मूल्य क्या है?

(A) ₹400
(B) ₹300
(C) ₹490
(D) ₹410

Q53. **A female walks 20 km in 4 hours. Speed ?**

एक महिला 4 घंटे में 20 km चलती है। चाल ज्ञात कीजिए।

(A) $4\text{km} / h$
(B) $5\text{km} / h$
(C) $6\text{km} / h$
(D) 7 km/h

Q54. **Ram is capable of completing a task in 20 days, while Ajay can finish the same task in 15 days. Ram works alone for the first 6 days and is then joined by Ajay. How many total days will it take to complete the entire task ?**

राम एक कार्य को 20 दिनों में पूरा कर सकता है, जबकि अजय उसी कार्य को 15 दिनों में समाप्त कर सकता है। राम पहले 6 दिन अकेला कार्य करता है और उसके बाद अजय उसके साथ जुड़ जाता है। सम्पूर्ण कार्य को पूरा करने में कुल कितने दिन लगेंगे?

(A) 16 days / 16 दिन
(B) 17 days / 17 दिन
(C) 12 days / 12 दिन
(D) 18 days / 18 दिन

Q55. **A storage room is in the shape of a cuboid with dimensions $6m \times 3m \times 2.5$ m . If each carton occupies $3m^3$, how many cartons can be stored in the room at one time?**

एक भंडार कक्ष घनाभ के आकार का है, जिसकी विमाएँ $6m \times 3m \times 2.5$ m हैं। यदि प्रत्येक कार्टन $3m^3$ स्थान घेरता है, तो एक बार में कक्ष में कितने कार्टन रखे जा सकते हैं?

(A) 16
(B) 17
(C) 15
(D) 18

Q56. **A metal sheet is bent to form a right prism with a pentagonal base of side 5 cm and height 8 cm . Find the lateral surface area of the prism**

एक धातु की चादर को मोड़कर एक लंब प्रिज्म बनाया जाता है, जिसका आधार 5 cm भुजा वाला पंचभुज है तथा ऊँचाई 8 cm है। प्रिज्म का पार्श्व पृष्ठीय क्षेत्रफल ज्ञात कीजिए।

(A) 288cm^2
(B) 200cm^2
(C) 196cm^2
(D) 192cm^2

Q57. **In two similar triangles, the ratio of their perimeters is equal to the:**

दो समरूप त्रिभुजों में, उनके परिमापों का अनुपात किसके बराबर होता है:

(A) Ratio of their areas / उनके क्षेत्रफलों का अनुपात
(B) Ratio of their corresponding sides / उनकी संगत भुजाओं का अनुपात
(C) Square of the ratio of their corresponding sides / उनकी संगत भुजाओं के अनुपात का वर्ग
(D) Ratio of their corresponding angles / उनके संगत कोणों का अनुपात

Q58. **The radius and height of a cylinder are in the ratio 2 : 5 respectively. If the volume of the cylinder is ___ cm^3, then the curved surface area of the cylinder is**

___ cm^2 less than the total surface area of the cylinder. (Take $\pi = 3$)
The values given in which of the following options will fill the blanks in the same order to make the above statement true?
A. 7500, 600
B. 1875, 375
C. 3000, 600
D. 3750, 750

एक बेलन की त्रिज्या तथा ऊँचाई का अनुपात क्रमशः 2 : 5 है। यदि बेलन का आयतन ___ cm^3 है, तो बेलन का वक्र पृष्ठीय क्षेत्रफल, बेलन के कुल पृष्ठीय क्षेत्रफल से

___ cm^2 कम है। ($\pi = 3$ लीजिए)।
निम्नलिखित में से किस विकल्प में दिए गए मान उपर्युक्त कथन को सत्य बनाने के लिए रिक्त स्थानों को उसी क्रम में भरेंगे?
A. 7500, 600
B. 1875, 375
C. 3000, 600
D. 3750, 750

(A) Only A / केवल A
(B) Only B and C / केवल B और C
(C) Only A, B and D / केवल A, B और D
(D) Only B, C and D / केवल B, C और D

Q59. **Rs. 800 is divided among A, B, and C so that A receives one-third as much as B, and B receives half as much as C. What is B's share ?**

Rs. 800 को A, B तथा C के बीच इस प्रकार बाँटा जाता है कि A को B के हिस्से का एक-तिहाई मिलता है, तथा B को C के हिस्से का आधा मिलता है। B का हिस्सा क्या है?

(A) Rs. 240.89
(B) Rs. 240
(C) Rs. 250.84
(D) Rs. 250

Q60. **The ratio of the ages of X and Y is 3 : 4. After 5 years, the ratio becomes 4 : 5. What was the ratio of their ages 3 years ago?**

X तथा Y की आयु का अनुपात 3 : 4 है। 5 वर्ष बाद यह अनुपात 4 : 5 हो जाता है। 3 वर्ष पहले उनकी आयु का अनुपात क्या था?

(A) 17 : 19
(B) 8 : 11
(C) 12 : 17
(D) 15 : 16

Q61. **If the breadth of a rectangular field is increased by 20%, then by what percentage should its length be reduced so that the area of the field remains constant ?**

यदि किसी आयताकार मैदान की चौड़ाई 20% बढ़ा दी जाए, तो उसकी लंबाई को कितने प्रतिशत कम किया जाना चाहिए ताकि मैदान का क्षेत्रफल अपरिवर्तित रहे?

(A) 10%
(B) 12.5%
(C) 14.28%
(D) 16.67%

Q62. **A pant is sold for ₹800 after a discount of 20% is offered on its marked price. What was the original marked price of the pant ?**

एक पैंट को उसके अंकित मूल्य पर 20% की छूट देने के बाद ₹800 में बेचा जाता है। पैंट का मूल अंकित मूल्य क्या था?

(A) ₹1,000
(B) ₹1,400
(C) ₹2,000
(D) ₹3,000

Q63. **A shopkeeper wants to prepare a rice blend priced at ₹36 per kg by mixing two different qualities of rice. The first variety costs ₹30 per kg, while the second variety costs ₹42 per kg.In what weight ratio should these two varieties be mixed so that the final mixture costs meets the desired cost ?**

एक दुकानदार दो अलग-अलग किस्मों के चावल मिलाकर ₹36 प्रति किग्रा मूल्य वाला चावल का मिश्रण तैयार करना चाहता है। पहली किस्म का मूल्य ₹30 प्रति किग्रा है, जबकि दूसरी किस्म का मूल्य ₹42 प्रति किग्रा है। इन दोनों किस्मों को किस भार अनुपात में मिलाया जाना चाहिए ताकि अंतिम मिश्रण का मूल्य अभीष्ट मूल्य के बराबर हो?

(A) $1:1$
(B) 1 : 4
(C) 3 : 2
(D) $1:3$

Q64. **A vessel contains a mixture of milk and water in the ratio $3:2$. Some quantity of the mixture is taken out and replaced by water. If the final ratio of milk to water becomes 1 : 2, what percentage of the original mixture was replaced?**

एक बर्तन में दूध और पानी $3:2$ के अनुपात में मिश्रित हैं। मिश्रण की कुछ मात्रा निकालकर उसके स्थान पर पानी मिला दिया जाता है। यदि दूध और पानी का अंतिम अनुपात 1 : 2 हो जाता है, तो मूल मिश्रण का कितना प्रतिशत भाग बदला गया?

(A) 55.55%
(B) 44.44%
(C) 33.33%
(D) 22.22%

Q65. **A circle is inscribed inside a quadrilateral ABCD, touching each of its four sides. If the side lengths are $AB = 18\ \text{cm}, \text{BC} = 14\text{cm}$, and $\text{AD} = 10\text{cm}$, find the length of the remaining side CD.**

एक वृत्त चतुर्भुज ABCD के अंदर इस प्रकार अंतःस्थापित है कि वह उसकी चारों भुजाओं को स्पर्श करता है। यदि भुजाओं की लंबाईयाँ $AB = 18\ \text{cm}, \text{BC} = 14\text{cm}$, तथा $\text{AD} = 10\text{cm}$ हैं, तो शेष भुजा CD की लंबाई ज्ञात कीजिए।

(A) 5 cm
(B) 6 cm
(C) 7 cm
(D) 8 cm

Q66. **A circle has a chord PQ of length 18 cm . The tangent drawn at point P is parallel to the tangent drawn at point Q . Find the radius of the circle.**

एक वृत्त की जीवा PQ की लंबाई 18 cm है। बिंदु P पर खींची गई स्पर्श रेखा, बिंदु Q पर खींची गई स्पर्श रेखा के समांतर है। वृत्त की त्रिज्या ज्ञात कीजिए।

(A) 9 cm
(B) 8 cm
(C) 6 cm
(D) 18 cm

Q67. **The value of $\frac{2\sqrt{10}}{\sqrt{5}+\sqrt{2}-\sqrt{7}}-\sqrt{\frac{\sqrt{5}-2}{\sqrt{5}+2}}-\frac{3}{\sqrt{7}-2}$ is:**

$\frac{2\sqrt{10}}{\sqrt{5}+\sqrt{2}-\sqrt{7}}-\sqrt{\frac{\sqrt{5}-2}{\sqrt{5}+2}}-\frac{3}{\sqrt{7}-2}$ का मान है:

(A) $2+\sqrt{2}$
(B) $2\sqrt{5}$
(C) $\sqrt{2}$
(D) $\sqrt{7}$

Q68. **Triangle L has a side length of 9 cm . A similar triangle, Triangle M , has a corresponding side length of 27 cm . If the area of Triangle L is 40cm^2, what is the area of Triangle M ?**

त्रिभुज L की एक भुजा की लंबाई 9 cm है। एक समरूप त्रिभुज M की संगत भुजा की लंबाई 27 cm है। यदि त्रिभुज L का क्षेत्रफल 40cm^2 है, तो त्रिभुज M का क्षेत्रफल क्या है?

(A) 260cm^2
(B) 360cm^2
(C) 334cm^2
(D) 300cm^2

Q69. $\frac{0.071-0.06}{0.61+0.02+0.03} = ?$

(A) 0.0675
(B) 0.0717
(C) 0.0177
(D) 0.0167

Q70. **If $y = \sqrt{20}+\sqrt{5}$, then what is the value of y^2 ?**

यदि $y = \sqrt{20}+\sqrt{5}$, तो y^2 का मान क्या है?

(A) 40
(B) 50
(C) 45
(D) 55

Q71. **The amount received on a certain sum at the same annual rate of interest after 2 years and 4 years on compound interest (compounding annually) is Rs. 12100 and Rs. 14641 respectively. What is that sum?**

चक्रवृद्धि ब्याज (वार्षिक रूप से संयोजित) पर समान वार्षिक ब्याज दर से किसी निश्चित मूलधन पर 2 वर्ष तथा 4 वर्ष बाद प्राप्त मिश्रधन क्रमशः Rs. 12100 तथा Rs. 14641 है। वह मूलधन क्या है?

(A) Rs. 10000
(B) Rs. 14000
(C) Rs. 15000
(D) Rs. 16000

Q72. **If a certain sum of money becomes triple of itself in 6 years 3 months at simple interest, then what will be the annual rate of interest (approximate) ?**

यदि कोई निश्चित धनराशि साधारण ब्याज पर 6 वर्ष 3 महीने में स्वयं की तिगुनी हो जाती है, तो वार्षिक ब्याज दर (लगभग) क्या होगी?

(A) 21%
(B) 32%
(C) 28%
(D) 35%

Q73. **The average of consecutive even natural numbers from 4 to 'N' is 52.Find the value of ' N ', where N is an even natural number.)**

4 से 'N' तक की क्रमागत सम प्राकृत संख्याओं का औसत 52 है। ' N ' का मान ज्ञात कीजिए, जहाँ N एक सम प्राकृत संख्या है।)

(A) 100
(B) 140
(C) 136
(D) 132

Q74. **5 numbers are in arithmetic progression. The sum of the first and the last number of this progression is 80.What is the average of these five numbers?**

5 संख्याएँ समांतर श्रेढ़ी में हैं। इस श्रेढ़ी की पहली और अंतिम संख्या का योग 80 है। इन पाँच संख्याओं का औसत क्या है?

(A) 30
(B) 38
(C) 48
(D) 40

Q75. **Pipe P, Q and R together can fill a tank in 40 minutes. Pipe Q and R together can fill the same tank in 60 minutes. Pipe R and P together can fill the same tank in 48 minutes. In how much time (in minutes) pipe Q alone can fill the tank ?**

पाइप P, Q और R मिलकर एक टंकी को 40 मिनट में भर सकते हैं। पाइप Q और R मिलकर उसी टंकी को 60 मिनट में भर सकते हैं। पाइप R और P मिलकर उसी टंकी को 48 मिनट में भर सकते हैं। अकेला पाइप Q उस टंकी को कितने समय (मिनट में) में भर सकता है?

(A) 200
(B) 240
(C) 220
(D) 260

Section 4: General Awareness (Q76–100)

Q76. **Which Indian state is the home of Olympic bronze medallist boxer Vijender Singh?**
ओलंपिक कांस्य पदक विजेता मुक्केबाज Vijender Singh किस भारतीय राज्य के निवासी हैं?

(A) Haryana / हरियाणा
(B) Punjab / पंजाब
(C) Uttar Pradesh / उत्तर प्रदेश
(D) Rajasthan / राजस्थान

Q77. **The SPREE 2025 initiative under the Employees' State Insurance (ESI) Act primarily focuses on which objective?**
कर्मचारी राज्य बीमा (ESI) अधिनियम के अंतर्गत SPREE 2025 पहल मुख्य रूप से किस उद्देश्य पर केंद्रित है?

(A) Expanding social security coverage / सामाजिक सुरक्षा कवरेज का विस्तार करना
(B) Providing housing assistance / आवास सहायता प्रदान करना
(C) Introducing health insurance for gig workers / गिग श्रमिकों के लिए स्वास्थ्य बीमा आरंभ करना
(D) Extending pension schemes for state employees / राज्य कर्मचारियों के लिए पेंशन योजनाओं का विस्तार करना

Q78. **Who assumed office as the Chief Justice of India in November 2025 ?**
नवंबर 2025 में भारत के मुख्य न्यायाधीश के रूप में किसने पदभार ग्रहण किया?

(A) Justice D.Y. Chandrachud / न्यायमूर्ति D.Y. Chandrachud
(B) Justice Surya Kant / न्यायमूर्ति Surya Kant
(C) Justice N.V. Ramana / न्यायमूर्ति N.V. Ramana
(D) Justice Bhushan Ramkrishna Gavai / न्यायमूर्ति Bhushan Ramkrishna Gavai

Q79. **In 2024, which prestigious award was conferred posthumously on former Prime Minister P.V. Narasimha Rao ?**
2024 में, पूर्व प्रधानमंत्री P.V. Narasimha Rao को मरणोपरांत कौन-सा प्रतिष्ठित पुरस्कार प्रदान किया गया?

(A) Bharat Ratna / भारत रत्न
(B) Padma Vibhushan / पद्म विभूषण
(C) Padma Bhushan / पद्म भूषण
(D) Gandhi Peace Prize / गांधी शांति पुरस्कार

Q80. **In July 2025, the Youth Spiritual Summit concluded in which Indian city ?**
जुलाई 2025 में, युवा आध्यात्मिक शिखर सम्मेलन (Youth Spiritual Summit) किस भारतीय शहर में संपन्न हुआ?

(A) Varanasi / वाराणसी
(B) Jaipur / जयपुर
(C) Amritsar / अमृतसर
(D) Nagpur / नागपुर

Q81. Which legislation replaced the Indian Penal Code (IPC), 1860 ?

निम्नलिखित में से किस विधान ने भारतीय दंड संहिता (IPC), 1860 का स्थान लिया?

(A) Bharatiya Nyaya Sanhita (BNS), 2023 / भारतीय न्याय संहिता (BNS), 2023
(B) Bharatiya Nagrik Suraksha Sanhita, 2023 / भारतीय नागरिक सुरक्षा संहिता, 2023
(C) Nyaya Danda Adhiniyam, 2023 / न्याय दंड अधिनियम, 2023
(D) Bharatiya Sakshya Adhiniyam, 2023 / भारतीय साक्ष्य अधिनियम, 2023

Q82. Which organization collaborates with NITI Aayog in releasing the India Innovation Index?

इंडिया इनोवेशन इंडेक्स (India Innovation Index) जारी करने में नीति आयोग के साथ कौन-सा संगठन सहयोग करता है?

(A) Institute for Competitiveness / इंस्टीट्यूट फॉर कॉम्पिटिटिवनेस (Institute for Competitiveness)
(B) CII (Confederation of Indian Industry) / CII (भारतीय उद्योग परिसंघ)
(C) FICCI (Federation of Indian Chambers of Commerce & Industry) / FICCI (भारतीय वाणिज्य एवं उद्योग महासंघ)
(D) NASSCOM

Q83. In July 2024, the National Landslide Forecasting Centre was inaugurated in which Indian city ?

जुलाई 2024 में, राष्ट्रीय भूस्खलन पूर्वानुमान केंद्र (National Landslide Forecasting Centre) का उद्घाटन भारत के किस शहर में किया गया?

(A) Kolkata / कोलकाता
(B) Guwahati / गुवाहाटी
(C) Dehradun / देहरादून
(D) Shimla / शिमला

Q84. The Aravalli Green Wall Project seeks to expand green cover across buffer zones of the Aravalli range covering how many districts spread over four states?

अरावली ग्रीन वॉल परियोजना का उद्देश्य अरावली श्रृंखला के बफर क्षेत्रों में हरित आवरण का विस्तार करना है; यह चार राज्यों में फैले कितने जिलों को सम्मिलित करती है?

(A) 29
(B) 15
(C) 22
(D) 40

Q85. In Assamese folk music, which song form is traditionally sung as a lullaby ?

असमिया लोक संगीत में, कौन-सा गीत रूप परंपरागत रूप से लोरी के रूप में गाया जाता है?

(A) Nichukoni-geet / निचुकोनी-गीत
(B) Bihu-geet / बिहू-गीत
(C) Biyanaam / बियानाम
(D) Bon-geet / बोन-गीत

Q86. The construction of the Red Fort (Lal Qila) in Delhi commenced around which year ?

दिल्ली में लाल किले (लाल क़िला) का निर्माण लगभग किस वर्ष प्रारंभ हुआ था?

(A) 1639
(B) 1610
(C) 1648
(D) 1656

Q87. **The traditional folk dance 'Terah Taali' is associated with which Indian state?**
पारंपरिक लोक नृत्य 'तेरह ताली' किस भारतीय राज्य से संबंधित है?

(A) Rajasthan / राजस्थान
(B) Odisha / ओडिशा
(C) Gujarat / गुजरात
(D) Maharashtra / महाराष्ट्र

Q88. **The Europa Clipper mission has been launched to carry out an in-depth exploration of Europa, a moon of which planet?**
यूरोपा क्लिपर (Europa Clipper) मिशन किस ग्रह के चंद्रमा यूरोपा के गहन अन्वेषण के लिए प्रक्षेपित किया गया है?

(A) Jupiter / बृहस्पति
(B) Saturn / शनि
(C) Uranus / यूरेनस
(D) Neptune / नेपच्यून

Q89. **The CryoSat satellite, used for measuring polar ice thickness and observing climate change, is operated by which space agency ?**
ध्रुवीय बर्फ की मोटाई मापने तथा जलवायु परिवर्तन के प्रेक्षण हेतु प्रयुक्त क्रायोसैट (CryoSat) उपग्रह का संचालन कौन-सी अंतरिक्ष एजेंसी करती है?

(A) ESA
(B) NASA
(C) ISRO
(D) JAXA

Q90. **In which year did the Government of India launch the 'Navratna' scheme to recognize and support select CPSEs with global growth potential?**
भारत सरकार ने वैश्विक विकास क्षमता वाले चुनिंदा CPSE को मान्यता देने और सहायता देने के लिए 'नवरत्न' योजना किस वर्ष प्रारंभ की थी?

(A) 1997
(B) 1995
(C) 2001
(D) 1999

Q91. **Who served as the first Governor- General of British India during the period 1773-1785 ?**
1773-1785 की अवधि में ब्रिटिश भारत के प्रथम गवर्नर-जनरल के रूप में किसने कार्य किया?

(A) Warren Hastings / वॉरेन हेस्टिंग्स
(B) Lord Curzon / लॉर्ड कर्ज़न
(C) Lord Mountbatten / लॉर्ड माउंटबेटन
(D) Lord Ripon / लॉर्ड रिपन

Q92. **In which year was the Fiscal Responsibility and Budget Management (FRBM) Act passed by the Indian Parliament?**
राजकोषीय उत्तरदायित्व एवं बजट प्रबंधन (FRBM) अधिनियम भारतीय संसद द्वारा किस वर्ष पारित किया गया था?

(A) 1998
(B) 2010
(C) 2003
(D) 1995

Q93. Which mineral(s) occur in the Himalayan mineral belt of India ?

I. Copper
II. Tungsten

भारत की हिमालयी खनिज पट्टी में निम्नलिखित में से कौन-सा/से खनिज पाया/पाए जाता/जाते है/हैं?

I. तांबा
II. टंगस्टन

(A) Only Tungsten / केवल टंगस्टन
(B) Only Copper / केवल तांबा
(C) Both Copper and Tungsten / तांबा और टंगस्टन दोनों
(D) Neither Copper nor Tungsten / न तो तांबा और न ही टंगस्टन

Q94. According to the 1951 Census of India, what was the population density per square kilometre?

भारत की 1951 की जनगणना के अनुसार, प्रति वर्ग किलोमीटर जनसंख्या घनत्व कितना था?

(A) 67
(B) 87
(C) 77
(D) 117

Q95. Who served as the first Chairperson of the Planning Commission of India when it was established in 1950?

1950 में स्थापना के समय भारत के योजना आयोग के प्रथम अध्यक्ष के रूप में किसने कार्य किया था?

(A) Jawaharlal Nehru / जवाहरलाल नेहरू
(B) Lal Bahadur Shastri / लाल बहादुर शास्त्री
(C) Sardar Vallabhbhai Patel / सरदार वल्लभभाई पटेल
(D) B. R. Ambedkar / बी. आर. अंबेडकर

Q96. Which Five-Year Plan of India began during a period of global financial crisis?

भारत की कौन-सी पंचवर्षीय योजना वैश्विक वित्तीय संकट के दौर में प्रारंभ हुई थी?

(A) First Plan / प्रथम योजना
(B) Fifth Plan / पाँचवीं योजना
(C) Ninth Plan / नौवीं योजना
(D) Eleventh Plan / ग्यारहवीं योजना

Q97. Which of the following cities in India is considered an administrative town?

I. Chandigarh
II. Jaipur

भारत के निम्नलिखित में से कौन-सा/से शहर प्रशासनिक नगर माना/माने जाता/जाते है/हैं?

I. चंडीगढ़
II. जयपुर

(A) Only II / केवल II
(B) Only I / केवल I
(C) Both I and II / I और II दोनों
(D) Neither I nor II / न तो I और न ही II

Q98. **Which structures in the upper respiratory tract help filter out dust, germs, and other harmful particles from the air we breathe?**

ऊपरी श्वसन मार्ग की कौन-सी संरचनाएँ हमारे द्वारा ली जाने वाली वायु से धूल, कीटाणुओं तथा अन्य हानिकारक कणों को छानने में सहायता करती हैं?

(A) Alveoli / कूपिकाएँ (एल्विओलाई)
(B) Bronchioles / श्वसनिकाएँ (ब्रोंकिओल्स)
(C) Lungs / फेफड़े
(D) Cilia / पक्ष्माभ (सिलिया)

Q99. **In humans, gustatory receptors are associated with which of the following senses?**

मनुष्यों में, गस्टेटरी ग्राही (gustatory receptors) निम्नलिखित में से किस संवेदना से संबंधित होते हैं?

(A) Vision / दृष्टि
(B) Odour / गंध
(C) Taste / स्वाद
(D) Sensation of touch / स्पर्श की संवेदना

Q100. **Which category of Vedic texts provides explanations of mantras and sacrificial rituals in prose?**

वैदिक ग्रंथों की कौन-सी श्रेणी गद्य में मंत्रों तथा यज्ञीय अनुष्ठानों की व्याख्या प्रस्तुत करती है?

(A) Samhitas / संहिताएँ
(B) Upanishads / उपनिषद
(C) Aranyakas / आरण्यक
(D) Brahmanas / ब्राह्मण

Answer Key – SSC CHSL Tier-1 29 November 2025, Shift 3

1	A	2	C	3	B	4	B	5	B
6	C	7	C	8	B	9	C	10	B
11	B	12	D	13	B	14	B	15	C
16	B	17	B	18	C	19	B	20	B
21	C	22	B	23	C	24	B	25	B
26	A	27	A	28	C	29	A	30	C
31	C	32	C	33	A	34	A	35	D
36	D	37	A	38	A	39	D	40	C
41	A	42	C	43	A	44	D	45	D
46	B	47	D	48	B	49	A	50	B
51	C	52	A	53	B	54	C	55	C
56	B	57	B	58	A	59	B	60	C
61	D	62	A	63	A	64	B	65	B
66	A	67	C	68	B	69	D	70	C
71	A	72	B	73	A	74	D	75	B
76	A	77	A	78	B	79	A	80	A
81	A	82	A	83	A	84	A	85	A
86	A	87	A	88	A	89	A	90	A
91	A	92	C	93	C	94	D	95	A
96	D	97	C	98	D	99	C	100	D

Why is an answer correct?
Scan for detailed solutions of all 100 questions in Hindi & English – free with login.

Keep practising with airGurukul

All SSC CHSL Tier-1 previous year papers – free PDFs, online tests and solved eBooks at **airgurukul.com/library/pyp/ssc-chsl-tier-1**.

Attempt this paper online – free
Full test and section-wise tests with timer, score and rank at airgurukul.com/test-series

Join airGurukul

Telegram Channel
t.me/airgurukulofficial

WhatsApp Channel
whatsapp.com/channel/0029VbBP7n00VycAFq6AGJ0l

YouTube Channel
youtube.com/@airGurukulSSCExams

Android App
play.google.com/...?id=in.airgurukul

airGurukul

airGurukul Institute for Career Growth · Prince Edutech Private Limited
Call +91-7042559948 · info@airgurukul.com · www.airgurukul.com